தமிழ்நாடு அரசு

எட்டாம் வகுப்பு

சமூக அறிவியல்

தமிழ்நாடு அரசு விலையில்லாப் பாடநூல் வழங்கும் திட்டத்தின் கீழ் வெளியிடப்பட்டது

பள்ளிக் கல்வித்துறை

தீண்டாமை மனிதநேயமற்ற செயலும் பெருங்குற்றமும் ஆகும்

தமிழ்நாடு அரசு

முதல் பதிப்பு - *2019*

திருத்திய பதிப்பு - *2020, 2022, 2023*

(புதிய பாடத்திட்டத்தின் கீழ்
வெளியிடப்பட்ட நூல்)

விற்பனைக்கு அன்று

பாடநூல் உருவாக்கமும்
தொகுப்பும்

மாநிலக் கல்வியியல் ஆராய்ச்சி
மற்றும் பயிற்சி நிறுவனம்

© SCERT 2019

நூல் அச்சாக்கம்

தமிழ்நாடு பாடநூல் மற்றும்
கல்வியியல் பணிகள் கழகம்

www.textbooksonline.tn.nic.in

8th SS TM_Front_pages.indd 2 12/3/2022 11:12:59 AM

புத்தகத்தைப் பயன்படுத்தும் முறை

கற்றலின் குறிக்கோள்	பாடத்தின் நோக்க எல்லை குறிக்கப்படுகிறது.
அறிமுகம்	பாடத்தில் பேசப்படும் துறைசார்ந்த செய்தி அறிமுகப்படுத்தப்படுகிறது.
	மாணவர்களின் கூடுதல் புரிதலுக்காக அனிமேஷன் காட்சிகளை வழங்குகிறது.
உங்களுக்குத் தெரியுமா?	மாணவர்களின் ஆர்வத்தைத் தூண்டும் வகையில் பாடத்துடன் தொடர்புடைய கூடுதல் தகவல்களைப் பெட்டிச் செய்தியாக வழங்குகிறது.
விளக்கப்படம்	கடினமான கருத்துகளை எளிதாக்கும் நோக்கத்துடன் செய்திகளைப் படங்கள் வாயிலாக விளக்குகிறது.
செயல்பாடுகள்	மாணவர்கள் தனியாக அல்லது குழுவாகச் சில செயல்பாடுகளில் ஈடுபட்டு கற்க உதவுகிறது.
தொகுப்புரை	முக்கியமான கருத்துகள் மாணவர்களின் மனதில் பதியும் வண்ணம் ஒன்று அல்லது இரண்டு வரிகளில் நினைவுறுத்துகிறது.
பயிற்சி	மாணவர்கள் தாங்களே பயில்வதற்கும் மதிப்பீடு செய்வதற்கும் உதவுகிறது.
கலைச் சொற்கள்	முக்கியச்சொற்களையும்தொழிநுட்பச்சொல்லாடல்களையும் பாடத்தின் முடிவில் விளக்குகிறது.
மூல நூல்கள்	பாடநூல் ஆக்கத்திற்கு ஆசிரியர்கள் பயன்படுத்திய மூல நூல்களின் பட்டியலை அளிக்கிறது. மாணவர்களின் விரிவான கற்றல் பயன்பாட்டிற்கு இது உதவுகிறது.
இணையச் செயல்பாடு	கற்றல் செயல்பாடுகளுக்காக மின்னணு ஊடகச் சான்றுகளைப் பயன்படுத்தி மாணவர்கள் தங்கள் பாடம் தொடர்பான புரிதலை மேம்படுத்திக்கொள்ள உதவுகிறது.

8th SS TM_Front_pages.indd 3 12/3/2022 11:12:59 AM

பாடப்பொருள் அட்டவணை

அலகு	பாடத் தலைப்பு	பக்க எண்	மாதம்
	வரலாறு		
1	ஐரோப்பியர்களின் வருகை	01	ஜூன்
2	வர்த்தகத்திலிருந்து பேரரசு வரை	12	ஜூன்
3	கிராம சமூகமும் வாழ்க்கை முறையும்	29	ஜூலை
4	மக்களின் புரட்சி	39	ஆகஸ்ட்
5	இந்தியாவில் கல்வி வளர்ச்சி	53	அக்டோபர்
6	இந்தியாவில் தொழிலகங்களின் வளர்ச்சி	66	நவம்பர்
7	ஆங்கிலேயர் ஆட்சியில் நகர்ப்புற மாற்றங்கள்	77	நவம்பர்
8	காலங்கள்தோறும் இந்தியப் பெண்களின் நிலை	88	ஜனவரி
	புவியியல்		
1	பாறை மற்றும் மண்	99	ஜூன்
2	வானிலை மற்றும் காலநிலை	111	ஜூலை
3	நீரியல் சுழற்சி	122	ஜூலை
4	இடம் பெயர்தல் மற்றும் நகரமயமாதல்	131	ஆகஸ்ட்
5	இடர்கள்	143	அக்டோபர்
6	தொழிலகங்கள்	155	அக்டோபர்
7	கண்டங்களை ஆராய்தல் (ஆப்பிரிக்கா, ஆஸ்திரேலியா மற்றும் அண்டார்டிகா)	164	நவம்பர் & டிசம்பர்
8	புவிப்படங்களைக் கற்றறிதல்	185	ஜனவரி

8th SS TM_Front_pages.indd 4 12/3/2022 11:12:59 AM

	குடிமையியல்		
1	மாநில அரசு எவ்வாறு செயல்படுகிறது	200	ஜூன்
2	குடிமக்களும் குடியுரிமையும்	209	ஜூலை
3	சமயச்சார்பின்மையைப் புரிந்துகொள்ளுதல்	215	ஆகஸ்ட்
4	மனித உரிமைகளும் ஐக்கிய நாடுகள் சபையும்	223	அக்டோபர்
5	சாலை பாதுகாப்பு விதிகள் மற்றும் நெறிமுறைகள்	234	நவம்பர்
6	பாதுகாப்பு மற்றும் வெளியுறவுக் கொள்கை	247	ஜனவரி
7	நீதித்துறை	259	பிப்ரவரி
	பொருளியல்		
1	பணம், சேமிப்பு மற்றும் முதலீடுகள்	270	ஆகஸ்ட் & செப்டம்பர்
2	பொது மற்றும் தனியார் துறைகள்	283	பிப்ரவரி

மின் நூல்

மதிப்பீடு

8th SS TM_Front_pages.indd 5 12/3/2022 11:12:59 AM

வரலாறு

அலகு – 1

ஐரோப்பியர்களின் வருகை

கற்றலின் நோக்கங்கள்

- நவீன இந்திய வரலாற்று ஆதாரங்களின் வகைகள் பற்றி அறிதல்
- இந்தியாவில் போர்ச்சுகீசியரின் வர்த்தகத்தை புரிந்துகொள்ளுதல்
- இந்தியாவில் போர்ச்சுகீசியர்கள் மற்றும் டச்சுக்காரர்கள் ஆதிக்கத் தாக்கத்தை புரிந்து கொள்ளுதல்
- டென்மார்க்கின் காலனி குடியேற்றங்களை பற்றி அறிதல்
- ஆங்கில மற்றும் பிரெஞ்சு கிழக்கிந்திய நிறுவனங்களின் வருகை மற்றும் நிலைப்பாடுகளை அறிதல்

அறிமுகம்

18 மற்றும் 19ஆம் நூற்றாண்டுகளில் இந்தியாவிற்கு வருகை புரிந்த பல வெளிநாட்டு பயணிகள், வர்த்தகர்கள், சமய பரப்பாளர்கள் மற்றும் பொதுப்பணி ஊழியர்கள், நாட்டின் பல்வேறு பகுதிகளில் தாங்கள் பெற்ற அனுபவங்களையும், உணர்வுகளையும் விட்டுச்சென்றுள்ளனர். நவீன கால வரலாற்று நிகழ்வுகளை அறிய சர்வதேச, தேசிய மற்றும் வட்டார அளவில் நமக்கு ஏராளமான ஆதாரங்கள் கிடைக்கின்றன.

நவீன இந்திய ஆதாரங்கள்

நவீன இந்தியாவின் வரலாற்று ஆதாரங்கள் நாட்டின் அரசியல், சமூக – பொருளாதார மற்றும் கலாச்சார முன்னேற்றங்களை பற்றி அறிய நமக்கு உதவுகின்றன. தொடக்க காலத்திலிருந்தே போர்ச்சுக்கீசியர்கள், டச்சுக்காரர்கள், பிரெஞ்சுக்காரர்கள், டேனியர்கள் மற்றும் ஆங்கிலேயர்கள் தங்களுடைய அலுவலக செயல்பாடுகளை தங்களது அரசாங்கப் பதிவேடுகளில் பதிவு செய்துள்ளனர். பராமரிக்கப்பட்ட அவர்களது பதிவுகள் இந்தியாவில் அவர்களது தொடர்பு பற்றி அறிய உதவும் மதிப்பு மிக்க ஆதாரங்களாக உள்ளன. லிஸ்பன், கோவா, பாண்டிச்சேரி மற்றும் சென்னை ஆகிய இடங்களில் உள்ள ஆவணக் காப்பகங்கள் விலை மதிப்பற்ற வரலாற்றுத் தகவல்களின் பெட்டகமாகும்.

சான்றுகளின் வகைகள்

நாம் வரலாற்றை எழுதுவதற்கு எழுதப்பட்ட மற்றும் பயன்பாட்டு பொருள் ஆதாரங்கள் நமக்கு பெரிதும் உதவுகின்றன.

எழுதப்பட்ட ஆதாரங்கள்

அச்சு இயந்திரம் கண்டுபிடிப்பிற்குப் பின் பல்வேறு மொழிகளில் எண்ணற்ற புத்தகங்கள் அச்சிடப்பட்டு வெளியிடப்பட்டன. இதன் விளைவாக கலை, இலக்கியம், வரலாறு, அறிவியல் போன்ற துறைகளைப் பற்றி மக்கள் எளிதாக அறிய முடிந்தது. இந்தியாவின் ஏராளமான செல்வத்தைப் பற்றி மார்க்கோபோலோ மற்றும் சில வெளிநாட்டுப்

1_History_Unit-1 Folder.indd 1 12/3/2022 6:49:15 PM

பயணிகளின் பயணக் குறிப்புகளிலிருந்து ஐரோப்பியர்கள் அறிந்து கொண்டனர். இக்குறிப்புகள் ஐரோப்பியர்களை இந்தியாவை நோக்கி ஈர்த்தது. தமிழ் வரலாற்றுக் குறிப்பு ஆவணங்களில் முக்கியமாக இருக்க வேண்டிய ஒரு பெயர் ஆனந்தரங்கம். இவர் பாண்டிச்சேரி பிரெஞ்சு வர்த்தகத்தில் மொழி பெயர்ப்பாளராக (Dubash) இருந்தார். 1736 லிருந்து 1760 வரை அவர் எழுதிய பிரெஞ்சு இந்திய உறவு முறை பற்றிய அன்றாட நிகழ்வுகளின் குறிப்புகள் அக்காலத்தைப் பற்றி அறிய உதவும் ஒரே எழுதப்பட்ட, சமய சார்பற்ற மதிப்பு மிக்க பதிவாக நமக்குக் கிடைத்துள்ளன. அவரது குறிப்புகள் அரசியல்தீர்வுகளை வெளிப்படையாக விளக்கும் வரலாற்றாதாரமாக உள்ளன. எழுதப்பட்ட ஆதாரங்கள் என்பவை இலக்கியங்கள், பயணக்குறிப்புகள், நாட்குறிப்புகள், சுயசரிதை, துண்டு பிரசுரங்கள், அரசாங்க ஆவணங்கள் மற்றும் கையெழுத்துப் பிரதிகள் ஆகியவற்றை உள்ளடக்கியதாகும்.

ஆனந்தரங்கம்

ஆவணக்காப்பகங்கள்

வரலாற்று ஆவணங்கள் பாதுகாக்கப்படும் இடம் ஆவணக்காப்பகம் என்று அழைக்கப்படுகிறது. இந்திய தேசிய ஆவணக்காப்பகம் (NAI) புதுடெல்லியில் அமைந்துள்ளது. இது இந்திய அரசின் ஆவணங்களைப் பாதுகாக்கும் முதன்மைக் காப்பகமாகும். இது கடந்த கால நிர்வாக முறைகளைப் புரிந்து கொள்வதற்கான அனைத்துத் தகவல்களுடன் தற்கால மற்றும் எதிர்கால தலைமுறையினருக்கும் ஒரு வழிகாட்டியாக இது விளங்குகிறது. இந்தியாவின் அரசியல், சமூக, பொருளாதார, கலாச்சார மற்றும் அறிவியல் ரீதியான வாழ்க்கை மற்றும் மக்கள் நடவடிக்கைகள் குறித்து தெரிந்து கொள்வதற்கான உண்மையான சான்றுகள் இதில் அடங்கியுள்ளன. இது ஆசியாவில் உள்ள ஆவணக்காப்பகங்களிலேயே மிகவும் பெரியதாகும்.

உங்களுக்குத் தெரியுமா?

ஜார்ஜ் வில்லியம் பாரஸ்ட் என்பவர் இந்திய தேசிய ஆவணக்காப்பகத்தின் தந்தை என அழைக்கப்படுகிறார்.

தமிழ்நாடு ஆவணக்காப்பகம்

தற்போது தமிழ்நாடு ஆவணக்காப்பகம் என்று அழைக்கப்படும் 'சென்னை பதிப்பாசனம்' சென்னையில் அமைந்துள்ளது. இது தென்னிந்தியாவின் மிகப் பழமையான மற்றும் மிகப்பெரிய களஞ்சியங்களுள் ஒன்றாகும். அங்குள்ள பெரும்பாலான ஆவணங்கள் ஆங்கிலத்தில் உள்ளன. மேலும் அங்கு டச்சு, டேனிஷ், பாரசீக, மராத்திய நிர்வாக பதிவுகளின் தொகுப்புகள் பிரெஞ்சு, போர்ச்சுக்கீசிய, தமிழ், உருது போன்ற மொழிகளில் உள்ளன.

தமிழ்நாடு ஆவணக்காப்பகம்

தமிழ்நாடு ஆவணக் காப்பகத்தில் 1642ஆம் ஆண்டு டச்சு பதிவுகளின் தொகுப்புகள் உள்ளன. இது கொச்சி மற்றும் சோழமண்டல கடற்கரையில் உள்ள இடங்களுடன் தொடர்புடையது. இந்த பதிவுகள் 1657–1845 காலப் பகுதியை உள்ளடக்கியது. டேனிஷ் பதிவுகள் 1777–1845 காலப்பகுதியை உள்ளடக்கியது. டாட்வெல் என்பவரின் பெரும் முயற்சியால் 1917ஆம் ஆண்டு 'சென்னை நாட்குறிப்பு பதிவுகள்' வெளியிடப்பட்டது. வரலாற்று ஆராய்ச்சியை ஊக்குவிப்பதில் அவருக்கு இருந்த மிகுந்த ஆர்வத்தைக் இது காட்டுகிறது. தமிழ்நாடு ஆவணக்காப்பக வரலாற்றின் ஒரு புதிய அத்தியாயத்தை அவர் தொடங்கி வைத்தார்.

பயன்பாட்டு பொருள் ஆதாரங்கள்

பல ஓவியங்கள் மற்றும் சிலைகள் நவீன இந்திய வரலாற்றின் முதன்மை ஆதாரங்களாக உள்ளன. அவை தேசியத்தலைவர்களின்

1_History_Unit-1 Folder.indd 2 12/3/2022 6:49:16 PM

புனித டேவிட் கோட்டை, கடலூர்

சாதனைகளையும், வரலாற்றுப் பிரமுகர்கள் பற்றிய தகவல்களையும் நமக்கு நிறைய தருகின்றன. இந்தியக் கட்டடக் கலையின் கலை அம்சம் மற்றும் தொழில்நுட்பத்தின் சான்றாக புனித பிரான்சிஸ் ஆலயம் (கொச்சி), புனித லூயிஸ் கோட்டை (பாண்டிச்சேரி), புனித ஜார்ஜ் கோட்டை (சென்னை), புனித டேவிட் கோட்டை (கடலூர்), இந்தியா கேட், டெல்லி பாராளுமன்றம், குடியரசுத் தலைவர் மாளிகை ஆகியன உள்ளன. சமய, கலாச்சார, வரலாற்று மதிப்புமிக்க பொருள் மூலங்கள் சேகரிக்கப்பட்டு அவை அருங்காட்சியகத்தில் பாதுகாக்கப்படுகின்றன. இந்த அருங்காட்சியகங்கள் நமது கலாச்சாரத்தைப் பாதுகாத்து மேம்படுத்த உதவுகின்றன. டெல்லியிலுள்ள மிகப்பெரிய அருங்காட்சியகம் இந்தியாவின் மிகப்பெரும் தேசிய அருங்காட்சியகமாகும். இது 1949ஆம் ஆண்டு நிறுவப்பட்டது.

0428G

நிர்வாக வரலாற்றை அறிய ஒரு சிறந்த ஆதாரமாக நாணயங்கள் திகழ்கின்றன. நவீன இந்தியாவின் முதல் நாணயம் கி.பி. 1862ஆம் ஆண்டில் ஆங்கிலேய ஆட்சியில் வெளியிடப்பட்டது. இராணி விக்டோரியாவுக்குப் பிறகு அரியணை ஏறிய மன்னர் ஏழாம் எட்வர்டு, தனது உருவம் தாங்கிய நாணயத்தை வெளியிட்டார். ரிசர்வ் வங்கி 1935இல் முறையாக நிறுவப்பட்டு இந்திய அரசின் ரூபாய் நோட்டுக்களை வெளியிடும் அதிகாரத்தைப் பெற்றது. மன்னர் ஆறாம் ஜார்ஜ் உருவம் தாங்கிய இந்தியாவின் முதல் 5 ரூபாய் நோட்டு ஜனவரி, 1938இல் ரிசர்வ் வங்கியால் வெளியிடப்பட்டது.

உங்களுக்குத் தெரியுமா?

1690இல் புனித டேவிட் கோட்டை ஆங்கிலேயரால் கடலூரில் கட்டப்பட்டது.

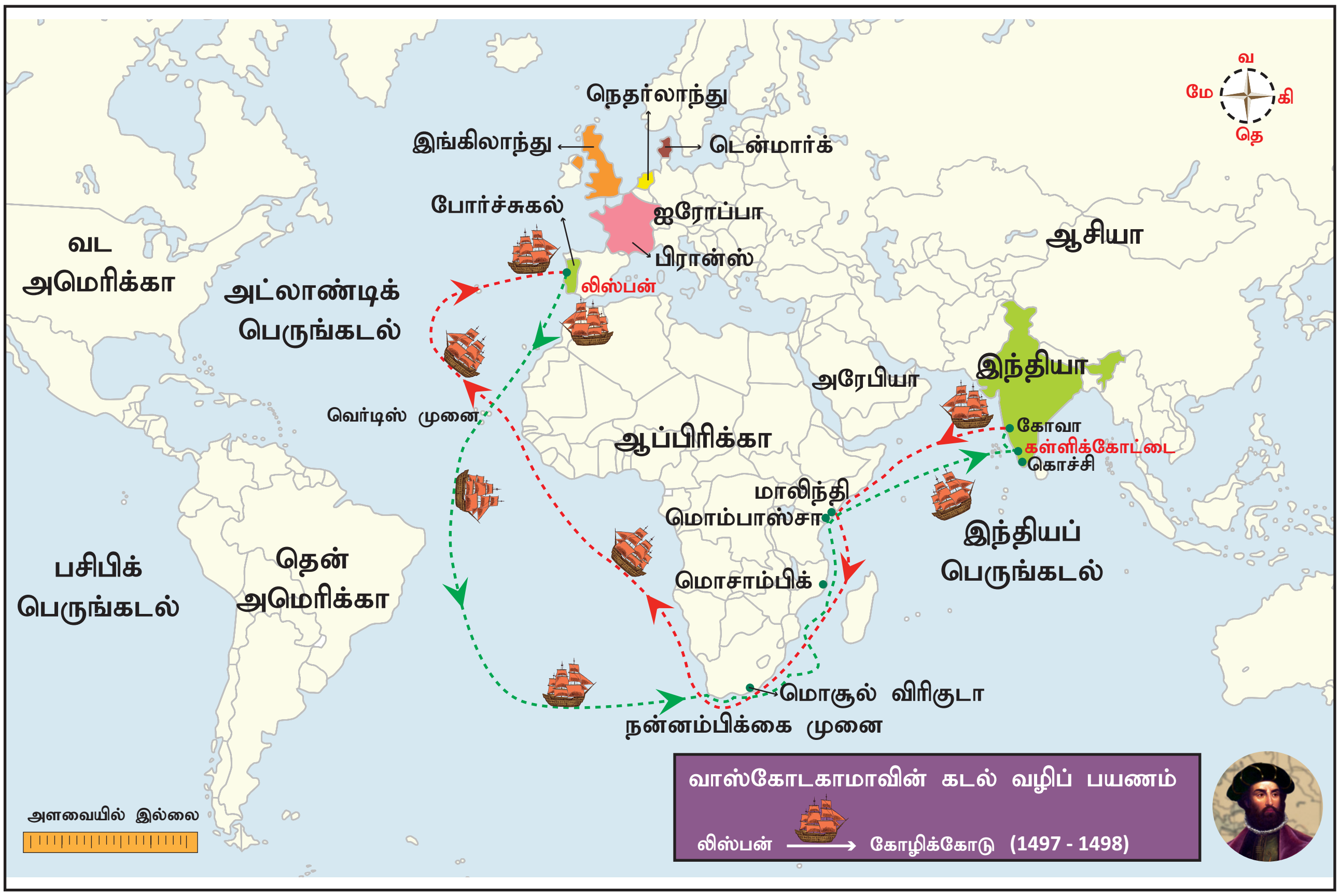

1_History_Unit-1 Folder.indd 3 12/3/2022 6:49:17 PM

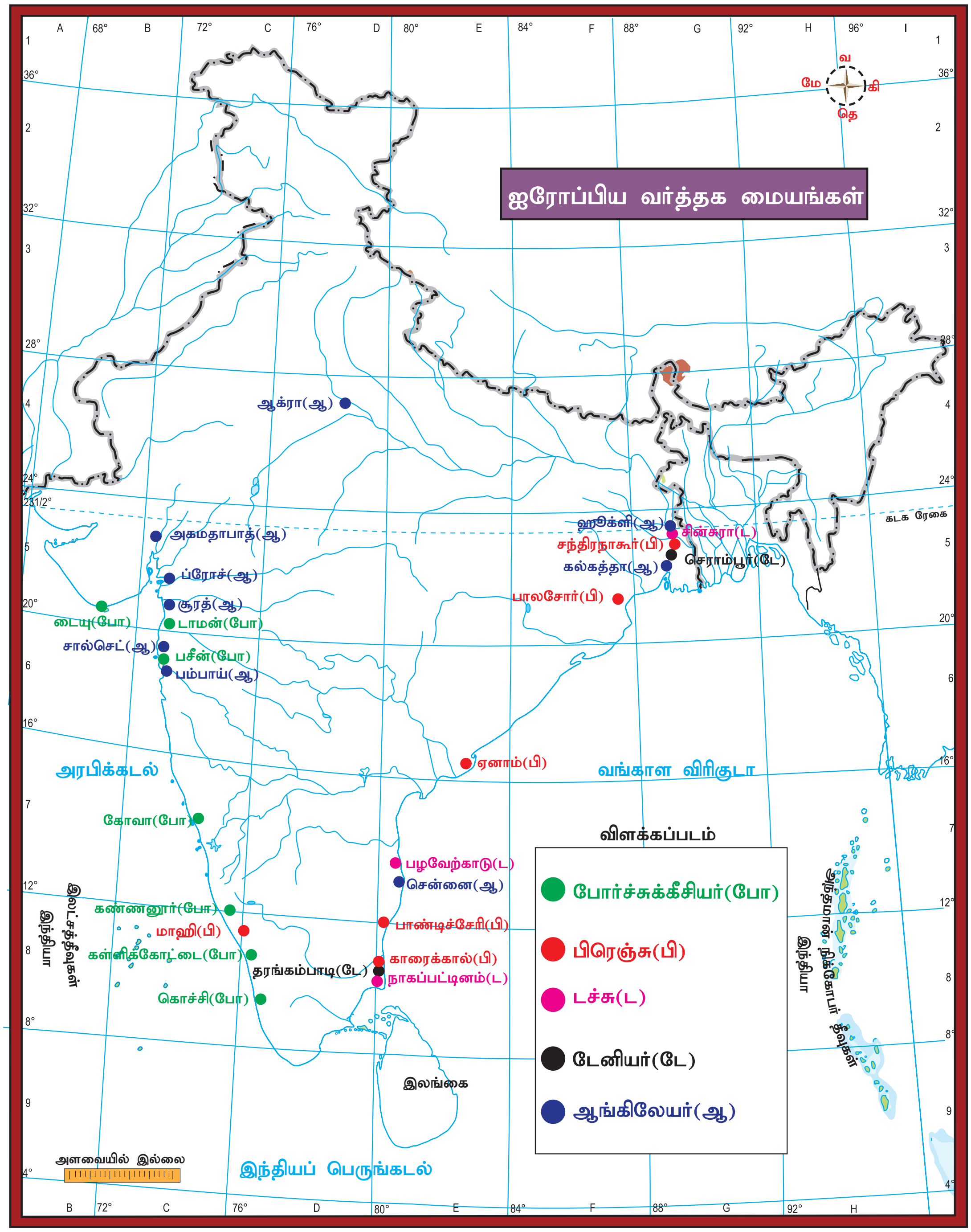

ஐரோப்பியர்கள் வருகை

கி.பி.(பொ.ஆ) 1453இல் துருக்கியர்களால் கான்ஸ்டாண்டிநோபிள் என்ற பகுதி கைப்பற்றப்பட்ட பிறகு இந்தியாவிற்கும், ஐரோப்பாவிற்குமிடையிலான நிலவழி மூடப்பட்டது. துருக்கி வட ஆப்பிரிக்காவிலும், பால்கன் தீபகற்பத்திலும் நுழைந்தது. இது ஐரோப்பிய நாடுகளை கிழக்கு நாடுகளுக்குப் புதிய கடல் வழியைக் கண்டுபிடிக்கத் தூண்டியது.

போர்ச்சுக்கல்

ஐரோப்பிய நாடுகள் அனைத்திலும், போர்ச்சுக்கல் மட்டும் இந்தியாவிற்கு புதிய கடல் வழியைக் கண்டுபிடிப்பதில் மிகவும் ஆர்வமாக இருந்தது. போர்ச்சுக்கீசிய இளவரசர் ஹென்றி பொதுவாக "மாலுமி ஹென்றி" என அறியப்படுகிறார். அவர் உலகின் அறியப்படாத பகுதிகளை ஆராயவும், சாகச வாழ்க்கையை மேற்கொள்ளவும் தனது நாட்டு மக்களை ஊக்குவித்தார். 1487ஆம் ஆண்டு

1_History_Unit-1 Folder.indd 4 12/3/2022 6:49:17 PM

போர்ச்சுக்கீசிய மாலுமியான பார்த்தலோமியோ டயஸ் தென்னாப்பிரிக்காவின் தெற்கு முனையை அடைந்தார். மன்னர் இரண்டாம் ஜான் அவரை ஆதரித்தார்.

வாஸ்கோடகாமா

வாஸ்கோடகாமா தென்னாப்பிரிக்காவின் தெற்கு முனையை அடைந்து, அங்கிருந்து மொசாம்பிக் பகுதிக்குத் தனது பயணத்தைத் தொடர்ந்தார். பின்னர் இந்திய மாலுமி ஒருவரின் உதவியோடு கி.பி.(பொ.ஆ.) 1498இல் கள்ளிக்கோட்டையை அடைந்தார். அவரை மன்னர் சாமரின் வரவேற்றார். இரண்டாவது போர்ச்சுக்கீசிய மாலுமி பெட்ரோ அல்வாரிஸ் காப்ரல் என்பவர் வாஸ்கோடகாமாவின் கடல் வழியைப் பின்பற்றி 13 கப்பல்களில் சில நூறு வீரர்களுடன் 1500ஆம் ஆண்டு கள்ளிக்கோட்டையை வந்தடைந்தார்.

வாஸ்கோடகாமா

வாஸ்கோடகாமா 1501இல் இருபது கப்பல்களுடன் இரண்டாவது முறையாக இந்தியா வந்தடைந்தார். அப்பொழுது கண்ணனூரில் ஒரு வர்த்தக மையத்தை நிறுவினார். பின்னர் கள்ளிக்கோட்டை, கொச்சின் பகுதிகளிலும் வர்த்தக மையத்தை நிறுவினார். இதனால் கோபங்கொண்ட மன்னர் சாமரின் போர்ச்சுக்கீசியரைத் தாக்கினார். ஆனால் அவர் போர்ச்சுக்கீசியரால் தோற்கடிக்கப்பட்டார். பின்னர் கொச்சின் போர்ச்சுக்கீசிய கிழக்கிந்திய கம்பெனியின் முதல் தலைநகரமாயிற்று. 1524இல் வாஸ்கோடகாமா மூன்றாவது முறையாக இந்தியா வந்தபொழுது நோய்வாய்ப்பட்டு டிசம்பர் 1524இல் கொச்சியில் காலமானார்.

பிரான்சிஸ்கோ–டி–அல்மெய்டா (1505–1509)

பிரான்சிஸ்கோ–டி–அல்மெய்டா என்பவர் இந்தியாவிலிருந்த போர்ச்சுக்கீசிய பகுதிகளுக்கு 1505இல் அனுப்பப்பட்ட முதல் ஆளுநர் ஆவார். இந்தியாவில் போர்ச்சுக்கீசிய கப்பற்படையை பலப்படுத்துவதே அல்மெய்டாவின் நோக்கமாக இருந்தது. அதற்காக அவர் பின்பற்றிய கொள்கை 'நீலநீர்க்கொள்கை' எனப்பட்டது. இந்தியப் பெருங்கடலில் அரேபிய ஏகபோக வர்த்தகத்தை போர்ச்சுக்கீசியர் தகர்க்க முயன்றபோது அது எதிர்மறையாக துருக்கி மற்றும் எகிப்தை பாதித்தது. பீஜப்பூர் மற்றும் குஜராத் சுல்தான்கள் போர்ச்சுகீசியருக்கு எதிராக, எகிப்து மற்றும் துருக்கி சுல்தான்களுக்கு ஆதரவளித்தனர். இதனால் துறைமுகங்களின் கட்டுப்பாட்டை விரிவுபடுத்துவது குறித்தும் போர்ச்சுகீசியர் கவலை அடைந்தனர். இந்நிலையில் சாவலுக்கு அருகில் நடைபெற்ற கடற்படை போரில் முஸ்லீம் கூட்டுப்படைகள் போர்ச்சுகீசியரைத் தோற்கடித்தன. இப்போரில் அல்மெய்டாவின் மகன் கொல்லப்பட்டான். பின்னர் டையூவில் நடைபெற்ற கடற்போரில் அல்மெய்டா, முஸ்லீம் கூட்டுப் படைகளைத் தோற்கடித்தார். கி.பி.1509இல் போர்ச்சுக்கீசியர் ஆசியாவில் கடற்படை மேலாண்மையைக் கோரினர்.

அல்போன்சோ–டி–அல்புகர்க் (1509 – 1515)

இந்தியாவில் போர்ச்சுக்கீசிய அதிகாரத்தை உண்மையில் நிறுவியவர் அல்போன்சோ–டி–அல்புகர்க் ஆவார். அவர் பீஜப்பூர் சுல்தானிடமிருந்து நவம்பர் 1510இல் கோவாவைக் கைப்பற்றினார். 1515இல் பாரசீக வளைகுடாவில் உள்ள ஆர்மஸ் துறைமுகப் பகுதியில் போர்ச்சுக்கீசிய அதிகாரத்தை விரிவுபடுத்தினார். அல்போன்சோ–டி–அல்புகர்க் இந்தியப் பெண்களுடனான போர்ச்சுகீசிய திருமணங்களை ஊக்குவித்தார். மேலும் விஜயநகரப் பேரரசுடன் நட்புறவை மேற்கொண்டார்.

நினோ–டி–குன்கா (1529–1538)

அல்புகர்க்குவிற்குப் பிறகு கவர்னரான நினோ–டி–குன்கா 1530இல் தலைநகரை கொச்சியிலிருந்து கோவாவிற்கு மாற்றினார். 1534இல் குஜராத்தின் பகதூர்ஷாவிடமிருந்து பசீன் பகுதியைக் கைப்பற்றினார். மேலும் 1537இல் டையூவைக் கைப்பற்றினார். பின்னர் குஜராத்தின் உள்ளூர்த் தலைவர்களிடமிருந்து டாமனைக் கைப்பற்றிய பின் சால்செட்டை 1548இல் ஆக்கிரமித்தார்.

1_History_Unit-1 Folder.indd 5 12/3/2022 6:49:18 PM

இவ்வாறு போர்ச்சுக்கீசியர் 16ஆம் நூற்றாண்டில் இந்தியாவின் மேற்கு கடற்கரையில் கோவா, டையூ, டாமன், சால்செட், பசீன், சௌல் மற்றும் பம்பாய் போன்ற பகுதிகளைக்கைப்பற்றுவதில்வெற்றிபெற்றனர். வங்காள கடற்கரையில் ஹூக்ளி, சென்னை கடற்கரையில் சாந்தோம் போன்ற பகுதிகளைக் கைப்பற்றினர். போர்ச்சுக்கீசியர் இந்தியாவில் புகையிலை சாகுபடியை அறிமுகப்படுத்தினர். போர்ச்சுக்கீசியரின் செல்வாக்கினால் கத்தோலிக்க கிறித்துவம் இந்தியாவின் கிழக்கு, மேற்கு கடற்கரையோர சில பகுதிகளில் பரவியது. 1556இல் போர்ச்சுக்கீசியரால் கோவாவில் அச்சு இயந்திரம் அமைக்கப்பட்டது. அச்சு இயந்திரத்தின் உதவியால் ஓர் ஐரோப்பிய எழுத்தாளர் 1563இல் கோவாவில் 'இந்திய மருத்துவ தாவரங்கள்' என்ற நூலை அச்சிட்டு வெளியிட்டார். 17ஆம் நூற்றாண்டில் போர்ச்சுக்கீசிய அதிகாரம் படிப்படியாக டச்சுவிடம் வீழ்ச்சியடைந்தது. மேலும் 1739ஆம் ஆண்டில் போர்ச்சுக்கீசிய அதிகாரம் கோவா, டையூ, டாமன் ஆகியவற்றோடு நின்றுபோனது.

டச்சுக்காரர்கள்

போர்ச்சுக்கீசியர்களைத் தொடர்ந்து டச்சுக்காரர்கள் இந்தியாவிற்கு வருகை புரிந்தனர். 1602இல் நெதர்லாந்து ஐக்கிய கிழக்கிந்திய கம்பெனி என்ற நிறுவனம் தொடங்கப்பட்டு, கிழக்கிந்திய நாடுகளில் வர்த்தகம் செய்ய அரசிடமிருந்து அனுமதியும் பெற்றது. டச்சுக்காரர்கள் இந்தியாவிற்கு வந்த பிறகு அவர்களின் வர்த்தக மையத்தை மசூலிப்பட்டினம் என்ற இடத்தில் நிறுவினர். பின்னர் கி.பி. 1605இல் போர்ச்சுக்கீசியரிடமிருந்து அம்பாய்னாவை கைப்பற்றி இந்தோனேசியா தீவில் (Spice Island) ஆதிக்கத்தை நிலை நிறுத்தினர். மேலும் போர்ச்சுக்கீசியரிடமிருந்து நாகப்பட்டினத்தைக் கைப்பற்றி, தென்னிந்தியாவில் தங்களை வலிமைப்படுத்திக் கொண்டனர். ஆரம்பத்தில் பழவேற்காடு (Pulicat) டச்சுக்காரர்களின் தலைநகராக இருந்தது. பின்னர் 1690இல் பழவேற்காட்டிலிருந்து தலைநகரை நாகப்பட்டினத்திற்கு மாற்றிக் கொண்டனர். இந்தியப் பொருட்களான பட்டு, பருத்தி, இண்டிகோ, அரிசி மற்றும் அபினி ஆகியவை டச்சுக்காரர்கள் வர்த்தகம் செய்த பொருட்களாகும். கருப்பு மிளகு மற்றும் மற்ற நறுமணப் பொருட்கள் மீதான வியாபாரத்தில் அவர்கள் ஏகபோக உரிமை பெற்றிருந்தனர். இந்தியாவில் பழவேற்காடு, சூரத், சின்சுரா, காசிம்பஜார், பாட்னா, நாகப்பட்டினம், பாலசோர் மற்றும் கொச்சின் போன்ற இடங்களில் அவர்களது முக்கிய வர்த்தக மையங்கள் இருந்தன.

ஆங்கில கிழக்கிந்திய கம்பெனி 17ஆம் நூற்றாண்டு முழுவதும், டச்சு மற்றும் போர்ச்சுக்கீசியர்களுக்குப் போட்டியாக இருந்தது. இந்நிலையில் 1623இல் டச்சுக்காரர்கள் அம்பாய்னாவில் பத்து ஆங்கில வியாபாரிகள் மற்றும் ஒன்பது ஜப்பானியர்களை இரக்கமின்றி கொன்றனர். இந்நிகழ்வு டச்சு மற்றும் ஆங்கிலேயர்களிடையே மேலும் பகைமையை வளர்த்தது. 1759இல் நடைபெற்ற பெடரா போரில் ஆங்கிலேயர்கள், டச்சுக்காரர்களைத் தோற்கடித்தனர். தொடர்ந்து டச்சு இறுதி வீழ்ச்சியை எட்டியது. ஒன்றன் பின் ஒன்றாக தனது குடியேற்றங்களை ஆங்கிலேயரிடம் இழந்த டச்சு 1795இல் முழுமையாக ஆங்கிலேயரிடம் ஒப்படைத்தது.

தமிழ்நாட்டில் டச்சுக்காரர்கள்

1502 முதல் பழவேற்காட்டின் மீது கட்டுப்பாட்டை ஏற்படுத்திய போர்ச்சுக்கீசியர்கள், டச்சுக்காரர்களால் தங்களின் ஆதிக்கத்தை இழந்தனர். பழவேற்காட்டில் டச்சுக்காரர்கள் 1613இல் கெல்டிரியா கோட்டையைக் கட்டினர். இந்தக் கோட்டை ஒரு காலத்தில் டச்சு அதிகார மையத்தின் இருப்பிடமாக இருந்தது.

கெல்டிரியா கோட்டை, பழவேற்காடு

அக்காலத்தில் பழவேற்காட்டிலிருந்து வைரங்கள் மேற்கத்திய நாடுகளுக்கு ஏற்றுமதி

1_History_Unit-1 Folder.indd 6 12/3/2022 6:49:18 PM

செய்யப்பட்டன. நாகப்பட்டினம், புன்னக்காயல், பரங்கிப்பேட்டை (Porto Novo) கடலூர் மற்றும் தேவனாம்பட்டினம் ஆகியன டச்சுக்காரர்களின் கோட்டைகள் மற்றும் கைப்பற்றிய பகுதிகளாகும்.

ஆங்கிலேயர்கள்

இங்கிலாந்து இராணி எலிசபெத் கிழக்கிந்திய நாடுகளுடன் வர்த்தகம் செய்ய கவர்னர் மற்றும் லண்டன் வர்த்தகர்கள் நிறுவனத்திற்கு 1600 டிசம்பர் 31 அன்று ஒரு அனுமதிப் பட்டயம் வழங்கினார். அந்த நிறுவனம் (கம்பெனி) ஒரு கவர்னர் மற்றும் 24 இயக்குநர்களைக் கொண்டிருந்தது. 1608ஆம் ஆண்டு ஜஹாங்கீர் அவைக்கு மாலுமி வில்லியம் ஹாக்கின்ஸ் சில சலுகைகளைப் பெற அனுப்பிவைக்கப்பட்டார். அவர் சூரத் நகரில் ஒர் வணிக மையத்தை அமைக்க அனுமதி கோரினார். ஆனால் போர்ச்சுக்கீசிய தலையீட்டால் ஜஹாங்கீர் அனுமதி வழங்கவில்லை.

இந்நிலையில் 1612இல் சூரத் அருகே நடைபெற்ற கடற்போரில் ஆங்கிலத் தளபதி தாமஸ் பெஸ்ட், போர்ச்சுக்கீசிய கடற்படையைத் தோற்கடித்தார். பேரரசர் ஜஹாங்கீர், 1613இல் சூரத்தில் ஆங்கில வர்த்தக மையத்தை அமைக்க அனுமதித்தார். இது ஆரம்பத்தில் ஆங்கிலேயரின் தலைமையகமாக இருந்தது. இந்நிலையில் 1614இல் கேப்டன் நிக்கோலஸ் டவுண்டன், போர்ச்சுக்கீசியரை வென்றார். இந்த சம்பவங்கள் முகலாயர் அவையில் ஆங்கிலேயரின் கௌரவத்தை அதிகரித்தன. 1615இல் ஜஹாங்கீர் அவைக்கு இங்கிலாந்து மன்னர் ஜேம்ஸ் அவர்களால் சர் தாமஸ் ரோ அனுப்பிவைக்கப்பட்டார். அவர் ஆக்ராவில் மூன்றாண்டுகள் தங்கி இருந்தார். மூன்றாம் ஆண்டு இறுதியில் பேரரசர் ஜஹாங்கீரிடம் இந்தியாவில் வணிகம் செய்யும் உரிமையைப் பெற்றார். உரிமையைப் பெற்ற சர் தாமஸ் ரோ புறப்படும் முன் ஆக்ரா, அகமதாபாத் மற்றும் புரோச் ஆகிய இடங்களில் வணிக மையங்களை நிறுவினார்.

ஆங்கிலேயர்கள் தங்களது முதல் வணிக மையத்தை வங்காள விரிகுடா கடற்கரையில் உள்ள மசூலிப்பட்டினத்தில் 1611இல் நிறுவினர். இது கோல்கொண்டா அரசின் ஒரு முக்கிய துறைமுகமாகும். 1639இல் பிரான்சிஸ் டே என்ற ஆங்கில வணிகர், சந்திரகிரி மன்னரான சென்னப்ப நாயக்கர் என்பவரிடமிருந்து மெட்ராசை குத்தகைக்குப் பெற்றார். அங்கு ஆங்கில கிழக்கிந்திய கம்பெனி 'புனித ஜார்ஜ் கோட்டை' என அழைக்கப்படும் தனது புகழ்வாய்ந்த வணிக மையத்தை நிறுவியது. இது ஆங்கிலேயரால் கட்டப்பட்ட முதல் கோட்டையாகவும், கிழக்குப் பகுதி முழுமைக்குமான தலைமையிடமாகவும் விளங்கியது.

இங்கிலாந்து மன்னர் இரண்டாம் சார்லஸ், போர்ச்சுக்கீசிய இளவரசி காதரினை திருமணம் செய்து கொண்டார். திருமண சீதனமாக பம்பாய் தீவை போர்ச்சுக்கீசிய மன்னரிடமிருந்து பெற்றார். 1668இல் ஆங்கில கிழக்கிந்திய கம்பெனி ஆண்டுக்கு 10 பவுண்டுகள் குத்தகை கொடுத்து பம்பாய் தீவை மன்னர் இரண்டாம் சார்லசிடமிருந்து பெற்றது.

1690ஆம் ஆண்டு சுதாநுதி என்ற இடத்தில் ஜாப் சார்னாக் என்பவரால் ஒரு வர்த்தகமையம் நிறுவப்பட்டது. சுதாநுதி, காளிகட்டம் மற்றும் கோவிந்தபூர் ஆகிய மூன்று கிராமங்களின் ஜமீன்தாரி உரிமையை 1698இல் கிழக்கிந்திய கம்பெனி பெற்றது. இந்த மூன்று கிராமங்கள் பின்னாளில் கல்கத்தா நகரமாக வளர்ச்சி பெற்றது. 1696இல் சுதாநுதியில் வலுவான ஒரு கோட்டை கட்டப்பட்டது. அது 1700இல் வில்லியம் கோட்டை என அழைக்கப்பட்டது.

1757இல் பிளாசி போர் மற்றும் 1764இல் பக்சார் போருக்குப் பிறகு ஆங்கில கிழக்கிந்தியக் கம்பெனி ஓர் அரசியல் சக்தியாக மாறியது. இந்தியா 1858 வரை ஆங்கில கிழக்கிந்திய கம்பெனி ஆட்சியின் கீழ் இருந்தது. 1858க்குப் பிறகு இந்தியா ஆங்கில அரசின் நேரடி கட்டுப்பாட்டின் கீழ் வந்தது.

டேனியர்கள்

டென்மார்க் அரசர் நான்காம் கிரிஸ்டியன் 1616 மார்ச் 17இல் ஒரு பட்டயத்தை வெளியிட்டு டேனிஷ் கிழக்கிந்திய நிறுவனத்தை உருவாக்கினார். அவர்கள் 1620இல் தரங்கம்பாடி (தமிழ்நாடு), 1676இல்

1_History_Unit-1 Folder.indd 7 12/3/2022 6:49:18 PM

செராம்பூர் (வங்காளம்) ஆகிய இடங்களில் குடியேற்றங்களை நிறுவினர். செராம்பூர், டேனியர்களின் இந்தியத் தலைமையிடமாக இருந்தது. டேனியர்கள் இந்தியாவில் தங்களைப் பலப்படுத்திக் கொள்ளத் தவறி விட்டனர். எனவே 1845இல் டேனியர்கள் இந்தியாவிலிருந்த தங்கள் குடியேற்றங்கள் அனைத்தையும் ஆங்கில அரசுக்கு விற்றனர்.

உங்களுக்குத் தெரியுமா?

தரங்கம்பாடியை டேனியர்கள் டானஸ்பெர்க் என அழைத்தனர். சீகன்பால்கு என்பவரை டென்மார்க்கின் அரசர் இந்தியாவிற்கு அனுப்பினார். அவர் தரங்கம்பாடியில் ஒரு அச்சுக் கூடத்தை நிறுவினார்.

தரங்கம்பாடி கோட்டை

பிரெஞ்சுக்காரர்கள்

கால்பர்ட்

பிரெஞ்சு கிழக்கிந்திய நிறுவனம், மன்னர் பதினான்காம் லூயியின் அமைச்சரான கால்பர்ட் என்பவரால் 1664இல் உருவாக்கப்பட்டது. 1667இல் பிரான்காய்ஸ் கரோன் தலைமையின் கீழ் ஒரு குழு இந்தியாவிற்கு பயணம் மேற்கொண்டது. வியாபாரத்திற்காக இந்தியாவிற்கு வருகை தந்த ஐரேப்பிய நாடுகளுள் கடைசி ஐரோப்பிய நாடு பிரான்சு ஆகும். இந்தியாவில் முதல் பிரெஞ்சு வணிக மையத்தை கரோன் என்பவர் சூரத் நகரில் நிறுவினார். 1669இல் மார்காரா என்பவர் கோல்கொண்டா சுல்தானின் அனுமதி பெற்று பிரான்சின் இரண்டாவது வர்த்தக மையத்தை மசூலிப்பட்டினத்தில் நிறுவினார்.

1673இல் பீஜப்பூர் ஆட்சியாளர் ஷெர்கான் லோடிக்கு வழங்கப்பட்ட மானியத்தின் கீழ், மார்ட்டின் என்பவர் பாண்டிச்சேரியில் குடியேற்றத்தை நிறுவினார். பாண்டிச்சேரி இந்தியாவின் மிக முக்கியமான மற்றும் வளமான பிரெஞ்சு குடியேற்றமானது. பாண்டிச்சேரியில் செயின்ட் லூயிஸ் எனப்படும் கோட்டையை பிரான்காய்ஸ் மாட்டின் கட்டினார். வங்காளத்தின் முகலாய ஆளுநரான செயிஸ்டகானின் அனுமதி பெற்று 1673இல் பிரெஞ்சு கிழக்கிந்திய கம்பெனி கல்கத்தாவுக்கு அருகே சந்திரநாகூர் என்ற நகரை நிர்மாணித்தது. பிரெஞ்சு கிழக்கிந்திய நிறுவனம் இந்தியாவில் பல்வேறு இடங்களில் வர்த்தக மையங்களை நிறுவியது. குறிப்பாக கடலோரப் பகுதிகளான மாஹி, காரைக்கால், பாலசோர் மற்றும் காசிம் பசார் போன்ற இடங்கள் முக்கியமானவையாகும்.

1742இல் பிரெஞ்சு கிழக்கிந்திய கம்பெனியின் ஆளுநராக ஜோசப் பிராங்காய்ஸ் டியூப்ளே என்பவர் நியமனம் செய்யப்பட்டார். அவரது நியமனத்தின் மூலம் பிரெஞ்சு அதிகாரம் மேலும் பலப்படுத்தப்பட்டது. அவருக்குப் பின் பாண்டிச்சேரியின் பிரெஞ்சு ஆளுநராக டூமாஸ் அனுப்பப்பட்டார்.

உங்களுக்குத் தெரியுமா?

தூரக்கிழக்கு நாடுகளுடன் வணிகம் செய்யும் நோக்கில் 1731இல் ஜோதன்பர்க் என்பவர் சுவீடன் கிழக்கிந்திய கம்பெனியை நிறுவினார். டச்சு கிழக்கிந்திய கம்பெனி மற்றும் ஆங்கில கிழக்கிந்திய கம்பெனியின் வெற்றி சுவீடன் கிழக்கிந்திய கம்பெனியின் தோற்றத்திற்கு ஊக்குவிப்பாக இருந்தது.

முடிவுரை

போர்ச்சுக்கீசியர்கள், டச்சுக்காரர்களால் முறியடிக்கப்பட்ட பின்னர் ஆங்கிலேயரால் வெளியேற்றப்பட்டனர். அதன்பின் இந்தியாவில் பிரெஞ்சுக்காரர்கள், வர்த்தகம் மற்றும் அரசியல் ஆதிக்கப் போட்டியில் ஆங்கிலேயரை எதிர்கொள்ள வேண்டியிருந்தது. பிரெஞ்சுக்காரர்கள் வர்த்தகத்தைப் புறக்கணித்து இந்தியா மற்றும் பிற ஐரோப்பிய நாடுகளுடன் போரில் ஈடுபட்டனர். அதன் விளைவாக ஆங்கிலேயருடன் நடைபெற்ற மூன்று

1_History_Unit-1 Folder.indd 8 12/3/2022 6:49:18 PM

கர்நாடகப் போர்களும் பிரான்சை நலிவடையச் செய்தன. இது ஆங்கிலேயரின் பிராந்திய விரிவாக்கத்திற்கு புத்தெழுச்சியைக் கொடுத்தது. போர்ச்சுக்கீசியர்கள், டச்சு, டேனிஷ் மற்றும் பிரெஞ்சு ஆகியவற்றின் மீதான ஆங்கிலேயரின் வெற்றிக்கு ஆங்கிலேயரின் வணிக ரீதியான போட்டி, உயர்ந்த தியாகம், அரசின் ஆதரவு, கடற்படை மேலாதிக்கம், தேசிய தன்மை, மற்றும் ஐரோப்பாவில் அவர்களின் அதிகாரம் ஆகியன காரணமாயின.

மீள்பார்வை

- தமிழ் வரலாற்றுக் குறிப்பு ஆவணங்களில் முக்கியமாக இருக்க வேண்டிய ஒரு பெயர் ஆனந்தரங்கம்.
- தமிழ்நாடு ஆவணக் காப்பகம் (TNA) என அழைக்கப்படும் சென்னை பதிவாளர் அலுவலகம் சென்னையில் அமைந்துள்ளது.
- போர்ச்சுக்கீசிய இளவரசர் ஹென்றி பொதுவாக "மாலுமி ஹென்றி" என அழைக்கப்படுகிறார்.
- பிரான்சிஸ்–டி–அல்மெய்டா 'நீலநீர்க் கொள்கை'யைப் பின்பற்றினார்.
- முகலாயப் பேரரசர் ஜஹாங்கீர் சூரத்தில் வர்த்தக மையம் அமைக்க ஆங்கில கிழக்கிந்திய கம்பெனிக்கு 1613இல் அனுமதி வழங்கினார்.
- பிரெஞ்சு கிழக்கிந்திய கம்பெனி 1664இல் கால்பர்ட் என்பவரால் உருவாக்கப்பட்டது.
- பாண்டிச்சேரி பிரான்சின் மிக முக்கியமான மற்றும் வளமான குடியேற்றமாக விளங்கியது.

கலைச்சொற்கள்

சமயப்பரப்பு குழுவினர்	Missionaries	Religious missions
பிரசுரங்கள்	Pamphlets	A small booklet
ஆவணக்காப்பகம்	Archives	The place where historical documents and records are kept
கையெழுத்துப் பிரதிகள்	Manuscripts	Handwritten books or documents
களஞ்சியம்	Repository	A person or thing regarded as a store of information
கடற்பயணம்	Voyage	A long journey especially by ship
முற்றுரிமை	Monopoly	Exclusive control or possession of something
கடல்வழி வல்லுநர்/ மாலுமி	Navigator	In earlier times, a person who explored by ship

மதிப்பீடு

I சரியான விடையைத் தேர்ந்தெடுக்கவும்

1. இந்தியாவில் போர்ச்சுக்கீசிய ஆதிக்கத்திற்கு அடித்தளம் அமைத்தவர் யார்?

அ) வாஸ்கோடகாமா

ஆ) பார்த்தலோமியோ டயஸ்

இ) அல்போன்சோ–டி–அல்புகர்க்

ஈ) அல்மெய்டா

2. பின்வரும் ஐரோப்பிய நாடுகளுள் இந்தியாவுக்கு கடல்வழியைக் கண்டுபிடிப்பதில் முதன்மையாக இருந்த நாடு எது?

அ) நெதர்லாந்து (டச்சு) ஆ) போர்ச்சுகல்

இ) பிரான்ஸ் ஈ) பிரிட்டன்

3. 1453ஆம் ஆண்டு கான்ஸ்டாண்டிநோபிள் யாரால் கைப்பற்றப்பட்டது?

அ) பிரான்ஸ் ஆ) துருக்கி

இ) நெதர்லாந்து (டச்சு) ஈ) பிரிட்டன்

1_History_Unit-1 Folder.indd 9 12/3/2022 6:49:18 PM

4. சர் வில்லியம் ஹாக்கின்ஸ் ________ நாட்டைச் சேர்ந்தவர்

அ) போர்ச்சுக்கல் ஆ) ஸ்பெயின்

இ) இங்கிலாந்து ஈ) பிரான்ஸ்

5. இந்தியாவில் ஆங்கிலேயர்கள் கட்டிய முதல் கோட்டை

அ) வில்லியம் கோட்டை

ஆ) செயின்ட் ஜார்ஜ் கோட்டை

இ) ஆக்ரா கோட்டை

ஈ) டேவிட் கோட்டை

6. பின்வரும் ஐரோப்பிய நாட்டினருள் வியாபாரத்திற்காக, இந்தியாவிற்கு வருகை தந்த கடைசி ஐரோப்பிய நாட்டினர்

அ) ஆங்கிலேயர்கள்

ஆ) பிரெஞ்சுக்காரர்கள்

இ) டேனியர்கள்

ஈ) போர்ச்சுக்கீசியர்கள்

7. தமிழ்நாடு கடற்கரையோரத்தில் உள்ள தரங்கம்பாடி ________ வர்த்தக மையமாக இருந்தது

அ) போர்ச்சுக்கீசியர்கள்

ஆ) ஆங்கிலேயர்கள்

இ) பிரெஞ்சுக்காரர்கள்

ஈ) டேனியர்கள்

II கோடிட்ட இடங்களை நிரப்புக

1. இந்தியாவின் தேசிய ஆவணக்காப்பகம் (NAI) ________ ல் அமைந்துள்ளது.
2. போர்ச்சுக்கீசிய மாலுமியான பார்த்தலோமியோ டயஸ் ________ என்பவரால் ஆதரிக்கப்பட்டார்.
3. இந்தியாவில் அச்சு இயந்திரம் 1556இல் ________ அரசால் கோவாவில் நிறுவப்பட்டது.
4. முகலாயப் பேரரசர் ________ இந்தியாவில் ஆங்கிலேயர்கள் வர்த்தகம் செய்ய அனுமதி அளித்தார்.
5. பிரெஞ்சு கிழக்கிந்திய நிறுவனம் ________ என்பவரால் நிறுவப்பட்டது.
6. ________ என்ற டென்மார்க் மன்னர், டேனிஷ் கிழக்கிந்திய நிறுவனத்தை உருவாக்க ஒரு பட்டயத்தை வெளியிட்டார்.

III பொருத்துக

1.	டச்சுக்காரர்கள்	–	1664
2.	ஆங்கிலேயர்கள்	–	1602
3.	டேனியர்கள்	–	1600
4.	பிரெஞ்சுக்காரர்கள்	–	1616

IV சரியா / தவறா எனக் குறிப்பிடுக

1. சுயசரிதை, எழுதப்பட்ட ஆதாரங்களுள் ஒன்று ஆகும்.
2. நாணயங்கள் பயன்பாட்டு பொருள் ஆதாரங்களுள் ஒன்று ஆகும்.
3. ஆனந்தரங்கம், பிரிட்டிஷ் மொழிபெயர்ப்பாளராக இருந்தார்.
4. வரலாற்று ஆவணங்கள் பாதுகாக்கப்படும் இடங்கள் ஆவணக் காப்பகங்கள் என்றழைக்கப்படுகிறது.

V 1) பின்வரும் கூற்றினை ஆராய்ந்து சரியானவற்றை (✓) செய்க

1. கவர்னர் நினோ–டி–குன்கா போர்ச்சுக்கீசிய தலைநகரை கொச்சியிலிருந்து கோவாவிற்கு மாற்றினார்.
2. போர்ச்சுக்கீசியர்கள் இந்தியாவிலிருந்து கடைசியாக வெளியேறினர்.
3. டச்சுக்காரர்கள், சூரத்தில் தங்கள் முதல் வணிக மையத்தை நிறுவினர்.
4. இங்கிலாந்தின் மன்னர் முதலாம் ஜேம்ஸ், ஜஹாங்கீர் அவைக்கு சர் தாமஸ் ரோவை அனுப்பினார்.

அ) 1 மற்றும் 2 சரி ஆ) 2 மற்றும் 4 சரி

இ) 3 மட்டும் சரி ஈ) 1, 2 மற்றும் 4 சரி

2) தவறான இணையைக் கண்டறிக

அ) பிரான்சிஸ் டே – டென்மார்க்

ஆ) பெட்ரோ காப்ரல் – போர்ச்சுகல்

இ) கேப்டன் ஹாக்கின்ஸ் – இங்கிலாந்து

ஈ) கால்பர்ட் – பிரான்ஸ்

VI பின்வரும் வினாக்களுக்கு ஓரிரு வாக்கியங்களில் விடையளி

1. ஆவணக் காப்பகங்கள் பற்றி சிறுகுறிப்பு தருக.
2. நாணயங்களின் முக்கியத்துவம் பற்றி எழுதுக.
3. இளவரசர் ஹென்றி "மாலுமி ஹென்றி" என ஏன் அழைக்கப்படுகிறார்?

1_History_Unit-1 Folder.indd 10 12/3/2022 6:49:18 PM

4. இந்தியாவில் டச்சுக்காரர்களால் நிறுவப்பட்ட முக்கிய வர்த்தக மையங்களின் பெயரை எழுதுக.

5. இந்தியாவில் இருந்த ஆங்கிலேயர்களின் வர்த்தக மையங்களைக் குறிப்பிடுக.

VII விரிவான விடையளி

1. நவீன இந்தியாவின் வரலாற்று ஆதாரங்கள் பற்றி குறிப்பிடுக.
2. போர்ச்சுக்கீசியர்கள் எவ்வாறு இந்தியாவில் தங்களது வர்த்தக மையங்களை நிறுவினர்?
3. ஆங்கிலேயர்கள், எவ்வாறு இந்தியாவில் தங்களது வர்த்தக மையங்களை நிறுவினர்?

VIII வரைபட திறன்

1. இந்திய ஆறுகள் வரைபடத்தில் கீழ்க்கண்ட ஐரோப்பிய வர்த்தக மையங்களைக் குறித்து காட்டுக

1. கள்ளிக்கோட்டை	2. கொச்சின்
3. மெட்ராஸ்	4. பாண்டிச்சேரி
5. சூரத்	6. சின்சுரா
7. பழவேற்காடு	8. கல்கத்தா

IX உயர் சிந்தனை வினா

1. கான்ஸ்டாண்டி நோபிள் வீழ்ச்சி ஐரோப்பிய நாடுகளை எவ்வாறு பாதித்தது?

X மாணவர் செயல்பாடு

1. நவீன இந்திய ஆதாரங்களை தொகுத்து ஒரு அட்டவணை தயார் செய்க

மேற்கோள் நூல்கள்

1. Bipan Chandra - *History of Modern India*, Orient Blackswan Private Limited 2018.
2. Sumit Sarkar, *Modern India 1885-1947*, Laxmi Publications; Reprint edition (2008).
3. Ishita Banerjee-Dube - *A History of Modern India*, Cambridge University Press 2014.

இணையதள வளங்கள்

- www.india.gov.in
- www.historynet.com
- www.ducksters.com

இணையச் செயல்பாடு

ஐரோப்பியர்களின் வருகை

இச்செயல்பாட்டின் மூலம் இந்திய வரலாற்றுக்கான ஆதாரங்களைக் காட்சியாய்க் காணுதல்.



படிநிலைகள்

படி 1 : கீழ்க்காணும் உரலி/விரைவுக் குறியீட்டைப் பயன்படுத்தி இச்செயல்பாட்டிற்கான இணையப் பக்கத்திற்குச் செல்க.

படி 2 : திரையின் மேலே காணப்படும் காலவரிசையைச் (Timeline) சொடுக்கி, இடப்பக்கம் தெரியும் பட்டியலில் ஏதேனும் ஒன்றைத் தேர்வு செய்க. (Ex. Paintings)

படி 3 : காலவரிசை அம்புகளை நகர்த்திப் பொருத்தமான ஓவியங்களைக் காண்க.

உரலி:

http://museumsofindia.gov.in/repository/home

1_History_Unit-1 Folder.indd 11 12/3/2022 6:49:19 PM

அலகு – 2

வர்த்தகத்திலிருந்து பேரரசு வரை

கற்றலின் நோக்கங்கள்

இப்பாடத்தைக் கற்றுக்கொள்வதின் மூலம் மாணவர்கள் கீழ்க்கண்ட அறிவினைப் பெறுகின்றனர்

- ஆங்கில கிழக்கிந்திய கம்பெனியின் அரசியல் வலிமை மற்றும் எழுச்சி
- பிளாசிப் போர் மற்றும் பக்சார் போரின் நிகழ்வுகள் மற்றும் தாக்கம்
- கர்நாடகப் போர்கள் மற்றும் மைசூர் போர்கள்
- காலனி ஆதிக்க நாடுகளின் இராணுவ வளர்ச்சி, உள்நாட்டு நிர்வாகம்
- துணைப்படைத் திட்டம் மற்றும் வாரிசு இழப்புக் கொள்கை

அறிமுகம்

15ஆம் நூற்றாண்டில் நில வழியாகவும், கடல் வழியாகவும் புதிய நிலவியல் கண்டுபிடிப்புகளின் சகாப்தமாக ஐரோப்பா விளங்கியது. 1498ஆம் ஆண்டு போர்ச்சுகல் நாட்டைச் சேர்ந்த மாலுமி வாஸ்கோடகாமா ஐரோப்பாவிலிருந்து இந்தியா வருவதற்கான புதிய கடல் வழியை கண்டுபிடித்தார். இத்தகைய புதிய நிலவியல் கண்டுபிடிப்புகளின் முக்கிய நோக்கம் வணிகத்தின் மூலம் அதிக லாபம் பெறுவதும் மற்றும் அரசியல் ஆதிக்கத்தை ஏற்படுத்துவதும் ஆகும். வங்காளத்தின் வெற்றிக்குப் பின் ஆங்கில கிழக்கிந்திய கம்பெனியின் ஆட்சி இந்தியாவில் வலுவடைந்தது. இதன் முக்கிய நோக்கம் வணிகம் மற்றும் ஆட்சி அதிகாரத்தை விரிவுபடுத்துவதே ஆகும்.

ஆங்கில கிழக்கிந்திய கம்பெனியின் ஆட்சி நிறுவப்படுதல்

பிளாசிப் போர் (1757)

வங்காள நவாப் அலிவர்திகான் 1756இல் இறந்த பின்பு அவரது பேரன் சிராஜ்–உத்–தௌலா வங்காளத்தின் அரியணை ஏறினார். சிராஜ்–உத்–தௌலாவின் பலவீனத்தையும், புகழற்ற நிலையையும் தனக்கு சாதகமாக்கிய ஆங்கிலேயர்கள் அவரது அதிகாரத்தை கைப்பற்ற முனைந்தனர். ஆங்கிலேயரின்

இருட்டறை துயரச் சம்பவம் (1756)

சிராஜ்–உத்–தௌலாவின் படை வீரர்கள் 146 ஆங்கிலேயர்களை சிறைப்பிடித்து கல்கத்தாவின் வில்லியம் கோட்டையில் காற்று புகாத ஒரு சிறிய இருட்டறையில் ஓர் இரவு முழுவதும் அடைத்து வைத்திருந்தனர். மறுநாள் காலை அறையை திறந்தபோது அவர்களுள் 123 பேர் மூச்சு திணறி இறந்திருந்தனர். இது வரலாற்றில் 'இருட்டறை துயரச் சம்பவம்' என்றழைக்கப்படுகிறது.

பிளாசிப் போர் 1757

2_History_Unit-2 Folder.indd 12 02-01-2023 14:30:40

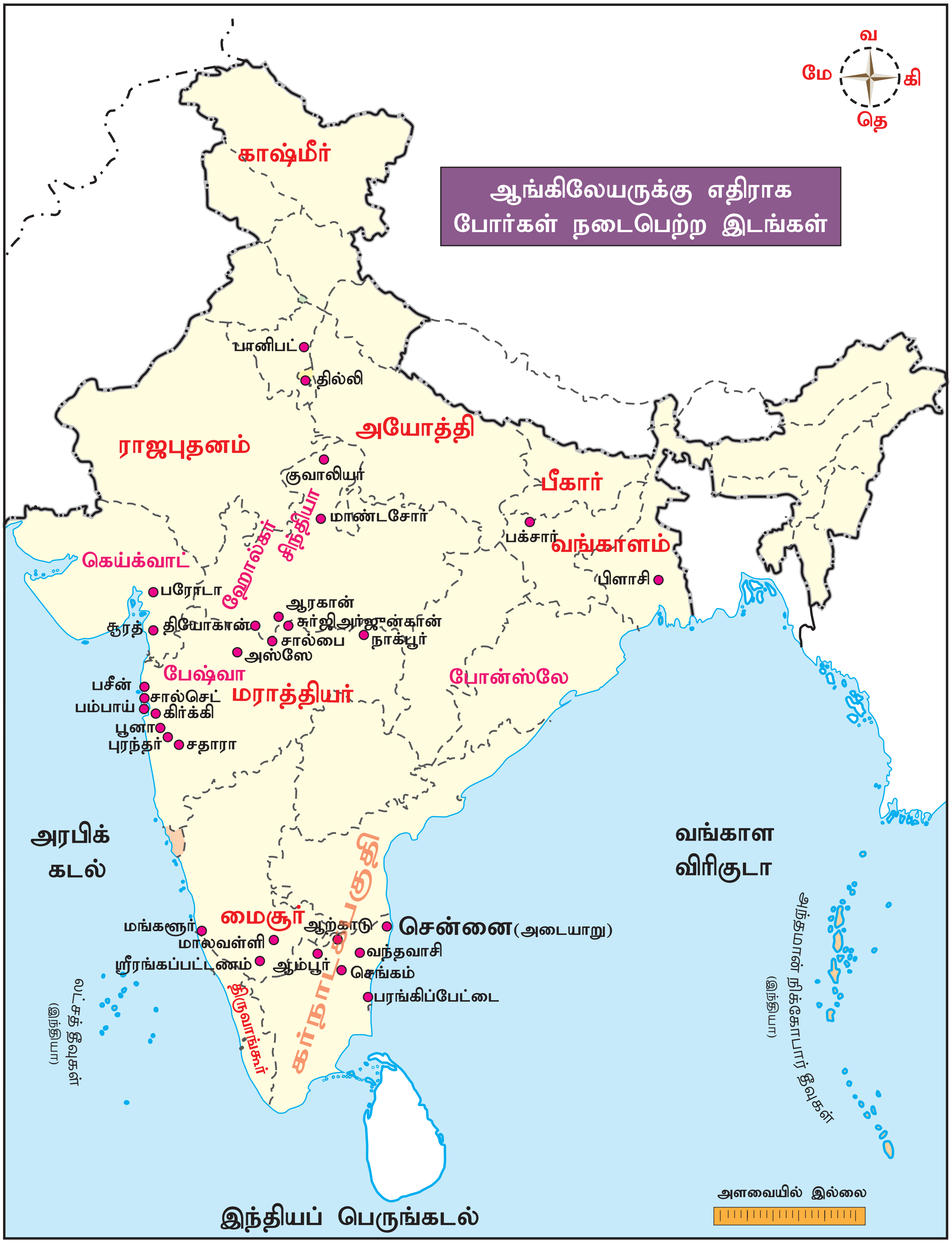

இவ்வெண்ணத்தை புரிந்துகொண்ட சிராஜ்–உத்–தௌலா அவர்களுக்கு பாடம் புகட்ட எண்ணினார். கல்கத்தாவிலுள்ள அவர்களது குடியேற்ற பகுதிகள் மீது தாக்குதல் நடத்தி, வங்காளத்தின் காசிம் பஜாரில் அமைந்துள்ள வணிக மையத்தை கைப்பற்றினார். 1756 ஜுன் 20 அன்று ஆங்கிலேயரின் வில்லியம் கோட்டை நவாப்பிடம் சரணடைந்தது. ஆனால் ஆங்கிலப் படைத்தளபதி இராபர்ட் கிளைவ் கல்கத்தாவை மீட்டார்.

2_History_Unit-2 Folder.indd 13 02-01-2023 14:30:40

இறுதியாக, 1757 பிப்ரவரி 9ஆம் நாள் நடைபெற்ற அலிநகர் உடன்படிக்கையின் படி சிராஜ்–உத்–தௌலா, இராபர்ட் கிளைவின் நிபந்தனைகள் அனைத்தையும் ஏற்றார். பின்னர் மார்ச் 1757இல் பிரெஞ்சுக் குடியேற்றமான சந்திர நாகூரை ஆங்கிலேயர் கைப்பற்றினர். பிளாசிப் போரானது சிராஜ்–உத்–தௌலா, பிரெஞ்சுக் கூட்டணிக்கும் மற்றும் ஆங்கில கிழக்கிந்திய கம்பெனிக்கும் இடையே 1757 ஜூன் 23ஆம் நாள் நடைபெற்றது. இப்போரில் சிராஜ்–உத்–தௌலாவின் படைகளை இராபர்ட் கிளைவ் தலைமையிலான ஆங்கில கிழக்கிந்திய கம்பெனியின் படைகள் தோற்கடித்தன. இப்போரின் முடிவில் ஏற்பட்ட குழப்பத்தால் கம்பெனி வங்காள கருவூலத்தின் மூலம் கிடைத்த பெரும் செல்வத்தைக் கொண்டு இராணுவத்தை பலப்படுத்தியது. பிளாசிப் போர் வெற்றி ஆங்கிலேயரது அரசியல் அதிகாரத்தை இந்தியாவில் தொடங்கி வைத்தது மட்டுமல்லாமல் அடுத்த இரண்டு நூற்றாண்டுகளுக்கு அவர்களது ஆதிக்கத்தை நீடிக்கவும் செய்தது.

பக்சார் போர் (1764)

1757ஆம் ஆண்டு பிளாசிப் போருக்குப் பின் வங்காளம், பீகார், ஒரிசா ஆகிய பகுதிகளில் ஆங்கிலேயர்கள் தடையில்லா வணிக உரிமை பெற்றனர். வங்காளத்தின் '24 பர்கானா' எனும் பகுதியை ஆங்கிலேயர் பெற்றனர். பிளாசிப் போருக்கு பின் வங்காளத்தின் அரியணை ஏறிய மீர்ஜாபர் (1757–1760) ஆங்கிலேயர்களின் கோரிக்கைகளை நிறைவேற்ற தவறியதால் அவரை கட்டாயப்படுத்தி பதவியிலிருந்து நீக்கி விட்டு அவரது மருமகன் மீர்காசிம் என்பவரை வங்காள நவாப் ஆக்கினர்.

மீர்காசிம் ஆங்கிலேயருக்கு புர்த்வான், மிட்னாபூர், சிட்டகாங் ஆகிய பகுதிகளை வழங்கினார். அவர் வங்காளத்தின் தலைநகரை மூர்ஷிதாபாத்திலிருந்து மாங்கீர்க்கு மாற்றினார். தஸ்தக் என்றழைக்கப்படும் சுங்கவரி விலக்கு ஆணையை தவறாக பயன்படுத்திய ஆங்கிலேயர் மீது மீர்காசிம் கோபமடைந்து கலகத்தில் ஈடுபட்டார். ஆங்கிலேயரால் தோற்கடிக்கப்பட்ட அவர் அயோத்திக்கு தப்பி ஓடி அடைக்கலம் புகுந்து அங்கு சுஜா–உத்–தௌலா மற்றும் இரண்டாம் ஷா ஆலம் ஆகியோருடன் சேர்ந்து ஆங்கிலேயருக்கு எதிராக ஒரு கூட்டமைப்பை உருவாக்கினார்.

பக்சார் போர் 1764

பீகார் பகுதியின் பாட்னாவிற்கு மேற்கே 130 கி.மீ தொலைவில் கங்கை நதிக்கரையில் அமைந்துள்ள பாதுகாக்கப்பட்ட ஒரு சிறிய நகரமே பக்சார் ஆகும். 1764ஆம் ஆண்டு அக்டோபர் 22இல் இங்கு நடைபெற்ற போரில் சுஜா–உத்–தௌலா, இரண்டாம் ஷா ஆலம், மீர்காசிம் ஆகியோர் ஆங்கிலப்படைத் தளபதி ஹெக்டர் மன்றோ–வால் தோற்கடிக்கப்பட்டனர். இது ஆங்கில கிழக்கிந்திய கம்பெனியின் தீர்க்கமான வெற்றியாக அமைந்தது. போரின் முடிவில் மீண்டும் மீர்ஜாபர் வங்காள அரியணையில் அமர்த்தப்பட்டார். மீர்ஜாபரின் இறப்புக்கு பின் அவரது மகன் நிஜாம் உத்–தௌலா வங்காள நவாப் ஆனார். 1765 பிப்ரவரி 20இல் நடந்த அலகாபாத் உடன்படிக்கையின் படி பக்சார் போர் முடிவுக்கு வந்தது. அதன் படி வங்காள நவாப் தன்னுடைய இராணுவத்தின் பெரும் பகுதியை கலைத்துவிட வேண்டும் எனவும், கம்பெனியால் நியமிக்கப்பட்ட துணை சுபேதார் மூலம் இனி வங்காளம் நிர்வகிக்கப்படும் எனவும் கூறப்பட்டது. இராபர்ட் கிளைவ் அயோத்தி நவாப் சுஜா–உத்–தௌலாவுடனும், முகாலயப் பேரரசர் இரண்டாம் ஷா ஆலத்துடனும் தனித்தனியாக ஒப்பந்தம் செய்து கொண்டார். இவ்வாறாக இராபர்ட் கிளைவ் வங்காளத்தில் இரட்டையாட்சி முறையை கொண்டு வந்தார்.

கர்நாடகப் போர்கள்

18ஆம் நூற்றாண்டில் மூன்று கர்நாடகப் போர்கள் பல்வேறு இந்திய ஆட்சியாளர்களிடையே நடைபெற்றது. இதில் ஆங்கில கிழக்கிந்திய கம்பெனியும் பிரெஞ்சு கிழக்கிந்திய கம்பெனியும் எதிர் எதிர் அணியில் இருந்தது. பாரம்பரியமாக, ஐரோப்பாவில் பிரிட்டனும், பிரான்சும் போட்டி நாடுகள் ஆகும்.

2_History_Unit-2 Folder.indd 14 02-01-2023 14:30:40

அந்நிலை இந்தியாவிலும் வணிகம் செய்வதிலும், ஆட்சி செய்வதிலும் தொடர்ந்தது. இதன் விளைவாக தொடர் இராணுவ போட்டி தென்னிந்தியாவின் கர்நாடக பகுதியில் நடைபெற்றது. அவை கர்நாடகப் போர்கள் எனப்படுகின்றன. இவை 1746 முதல் 1763 வரை நடைபெற்றது. இப்போரின் விளைவாக ஆங்கில கிழக்கிந்திய கம்பெனியின் அரசியல் அதிகாரம் வலுபெற்றது.

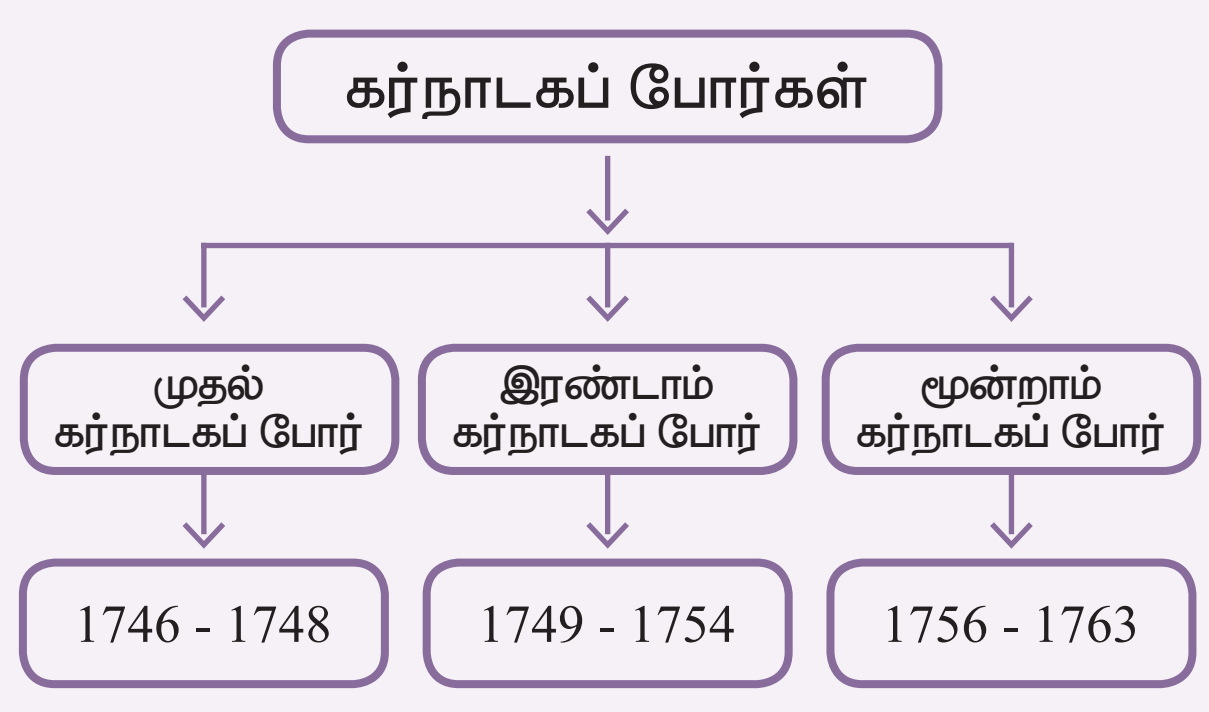

முதல் கர்நாடகப் போர் (1746 – 1748)

ஐரோப்பாவில் ஏற்பட்ட ஆஸ்திரிய வாரிசுரிமைப் போரில் பிரிட்டனும், பிரான்சும் எதிர் எதிர் அணிகளில் இருந்தன. இந்த பகைமை இந்தியாவிலும் எதிரொலித்தது.

அடையாறு போர் (1746)

சென்னையின் அடையாறு நதிக்கரையில் அமைந்துள்ள சாந்தோம் என்ற இடத்தில் கர்நாடக நவாப் அன்வாருதீனுக்கும் பிரெஞ்சுப் படைக்கும் இடையே இப்போர் நடைபெற்றது. அன்வாருதீன் ஆங்கிலேயரின் உதவியை நாடினார். கேப்டன் பாரடைஸ் தலைமையிலான மிகச் சிறிய பிரெஞ்சுப் படை மாபூஸ்கான் தலைமையிலான மிக வலிமை வாய்ந்த நவாப் படையினை தோற்கடித்தது. நன்கு பயிற்சி பெற்ற ஐரோப்பிய படை இந்திய படையை வெற்றி பெற்று தங்கள் மேலாண்மையை நிலைநாட்டிய முதல் நிகழ்வு இதுவே ஆகும்.

அய்–லா–சப்பேல் உடன்படிக்கை (1748)

ஐரோப்பாவில் நடைபெற்ற ஆஸ்திரிய வாரிசுரிமைப் போரின் முடிவில் ஏற்பட்ட அய்–லா–சப்பேல் உடன்படிக்கையின் மூலம் முதல் கர்நாடகப் போர் முடிவுக்கு வந்தது. இதன் படி மதராஸ் (சென்னை) ஆங்கிலேயரிடம் திரும்ப ஒப்படைக்கப்பட்டது. மாறாக வட அமெரிக்காவின் சில பகுதிகளை பிரான்சு பெற்றது.

இரண்டாம் கர்நாடகப் போர் (1749 – 1754)

கர்நாடகம் மற்றும் ஹைதராபாத் ஆகிய பகுதிகளில் ஏற்பட்ட வாரிசுரிமை பிரச்சனையே இப்போருக்கு முக்கிய காரணமாக அமைந்தது. கர்நாடக நவாப் பதவிக்கு அன்வாருதீனும், சந்தா சாகிப்பும் உரிமை கோரினர். அதே போல் ஹைதராபாத் நிசாம் பதவிக்கு நாசிர் ஜங்கும் முசாபர் ஜங்–ம் உரிமை கோரினர். இதனால் தக்காண பகுதியில் பிரெஞ்சுக்காரர்கள் சந்தா சாகிப்பிற்கும், முசாபர் ஜங்–க்கும் உதவி செய்தனர். ஆங்கிலேயர்கள் அன்வாருதீனுக்கும், நாசிர்ஜங்–கும் உதவினர். இப்போர் மூலம் இந்தியாவில் தங்கள் ஆதிக்கத்தை நிலைநாட்ட ஆங்கிலேயர்களும், பிரெஞ்சுக்காரர்களும் எண்ணினர்.

ஆம்பூர் போர் (1749)

இதன் விளைவாக, ஆகஸ்ட் 3, 1749இல் ஆம்பூரில் நடைபெற்ற போரில் பிரெஞ்சு கவர்னர் டியூப்ளே, சந்தா சாகிப், முசாபர் ஜங் ஆகியோரின் கூட்டுப் படைகளால் கர்நாடக நவாப் அன்வாருதீன் தோற்கடிக்கப்பட்டு, கொல்லப்பட்டார். அன்வாருதீனின் மகன் முகமது அலி திருச்சிராப்பள்ளிக்கு தப்பி ஓடினார். சந்தாசாகிப்பை பிரெஞ்சுக்காரர்கள் கர்நாடக நவாப் ஆக்கினர். அதற்கு ஈடாக பாண்டிச்சேரியை சுற்றியுள்ள 80 கிராமங்களை வெகுமதியாக பிரெஞ்சுக்காரர்களுக்கு அவர் வழங்கினார்.

தக்காணத்திலும் பிரெஞ்சுக்காரர்களால் நாசிர் ஜங் தோற்கடிக்கப்பட்டு, கொல்லப்பட்டார். முசாபர் ஜங் ஐதராபாத்தின் நிசாம் ஆனார். புதிய நிசாம் பிரெஞ்சுக்காரர்களுக்கு போதிய வெகுமதி வழங்கினார். அவர் கிருஷ்ணா நதியின் தென் பகுதிகள் அனைத்திற்கும் டியூப்ளே–யை ஆளுநராக நியமித்தார். 1751இல் தன் மக்களால் முசாபர் ஜங் படுகொலை செய்யப்பட்டார். நாசிர் ஜங்–ன் சகோதரர் சலபத் ஜங் பிரெஞ்சுப் படைத் தளபதி புஸ்ஸியின் உதவியுடன் ஹைதராபாத் நிசாம் ஆனார். அவர் குண்டூர் மாவட்டத்தை தவிர வட சர்க்கார் முழுவதும் பிரெஞ்சுக்காரர்களுக்கு வழங்கினார். இதன் மூலம் டியூப்ளே–ன் அதிகாரம் உச்ச நிலையை அடைந்தது.

ஆற்காட்டுப் போர் (1751)

இத்தருணத்தில் டியூப்ளே, முகமது அலி தஞ்சம் புகுந்த திருச்சி கோட்டையை

2_History_Unit-2 Folder.indd 15 02-01-2023 14:30:40

முற்றுகையிட ஒரு படையை அனுப்பினார். இம்முயற்சியில் சந்தா சாகிப்பும் (கர்நாடக நவாப்) தன்னை பிரெஞ்சுப் படைகளோடு இணைத்துக் கொண்டார். இச்சமயத்தில் ஆற்காட்டை தாக்க இராபர்ட் கிளைவ் கம்பெனியிடம் அனுமதி கோரினார். ஆங்கிலேய கவர்னர் சாண்டர்ஸ், இராபர்ட் கிளைவ்–ன் திட்டத்திற்கு அனுமதி வழங்கினார். 200 ஆங்கில படையினர், 300 இந்திய படை வீரர்களுடன் கிளைவ் ஆற்காட்டை தாக்கிக் கைப்பற்றினார்.

இராபர்ட் கிளைவ்

ஆங்கில படைத்தளபதி ஸ்டிரிங்கர் லாரன்ஸ் உதவியுடன் கிளைவ் ஆரணி, காவேரிபாக்கம் ஆகிய இடங்களில் பிரெஞ்சுப் படைகளை தோற்கடித்தார். அதேசமயத்தில், சந்தாசாகிப் திருச்சியில் கொலை செய்யப்பட்டார். அன்வாருதீனின் மகன் முகமது அலி ஆங்கிலேயரின் உதவியுடன் ஆற்காட்டு நவாப் ஆனார். இத்தோல்வியால் பிரான்சு நாட்டு அரசாங்கம் டியூப்ளே–வை பாரிசுக்கு திரும்ப அழைத்தது.

பாண்டிச்சேரி உடன்படிக்கை (1755)

டியூப்ளேவைத் தொடர்ந்து பிரெஞ்சு ஆளுநராக பதவியேற்ற கோதேயூ ஆங்கிலேயருடன் பாண்டிச்சேரி உடன்படிக்கையினை செய்து கொண்டார். இதன்படி இருநாடுகளும் தங்கள் உள்நாட்டு விவகாரங்களில் தலையிடக் கூடாது எனவும், போருக்கு முன்னர் இருந்த பகுதிகள் அவரவரிடம் திரும்ப ஒப்படைக்கப்படும் எனவும் கூறப்பட்டது. மேலும் புதிய கோட்டைகளை கட்டக் கூடாது எனவும் கூறப்பட்டது. இவ்வுடன்படிக்கை மூலம் ஆங்கிலேயர் மேலும் வலிமை பெற்றனர்.

இரண்டாம் கர்நாடகப் போர் ஒரு முடிவற்ற நிலையை உணர்த்தியது. முகமது அலியை கர்நாடக நவாபாக நியமித்ததன் மூலம் ஆங்கிலேயர்கள் இந்தியாவில் தங்கள் மேலாண்மையை நிலைநாட்டினர். ஹைதராபாத்தில் பிரெஞ்சுக்காரர்கள் வலிமையுடன் காணப்பட்டாலும் இப்போர் அவர்கள் தக்காணப் பகுதியில் வலிமை குன்றியவர்கள் என்பதை நிரூபித்தது.

மூன்றாம் கர்நாடகப் போர் (1756 – 1763)

ஐரோப்பாவில் வெடித்த ஏழாண்டுப் போர் இந்தியாவில் மூன்றாம் கர்நாடகப் போருக்கு இட்டுச் சென்றது. இச்சமயத்தில் ஆங்கில படைத் தளபதி இராபர்ட் கிளைவ் பிளாசிப் போரின் மூலம் வங்காளத்தில் ஆங்கில ஆதிக்கத்தை நிறுவியதுடன் மூன்றாம் கர்நாடகப் போருக்கு தேவையான நிதியையும் வழங்கினார்.

இப்போரில் பிரெஞ்சு படைகளை வழி நடத்த கவுண்–டி–லாலியை பிரெஞ்சு அரசாங்கம் நியமித்தது. அவர் கடலூரில் உள்ள செயிண்ட் டேவிட் கோட்டையை எளிதாக கைப்பற்றினார். கர்நாடகப் பகுதியிலிருந்து ஆங்கிலேயரை விரட்ட தன்னுடன் இணையுமாறு புஸ்ஸிக்கு, கவுண்–டி–லாலி உத்தரவிட்டார். புஸ்ஸி ஐதராபத்திலிருந்து புறப்பட்ட தருணத்தை பயன்படுத்தி வட சர்க்கார் (ஆந்திர பிரதேசம், ஒடிசா) பகுதிகளை கைப்பற்ற கர்னல் போர்டை வங்கத்திலிருந்து இராபர் கிளைவ் அனுப்பினார்.

வந்தவாசிப் போர் (1760)

1760 ஜனவரி 22ல் நடைப்பெற்ற இப்போரில் ஜெனரல் அயர் கூட் தலைமையிலான ஆங்கிலேயப் படை லாலி தலைமையிலான பிரெஞ்சுப் படையை முற்றிலும் தோற்கடித்தது. பின்னர் ஓர் ஆண்டுகள் இந்தியாவிலிருந்த அனைத்துக் குடியேற்றங்களையும் பிரெஞ்சுக்காரர்கள் இழந்தனர். கவுண்டிலாலி பிரான்சு நாட்டுக்கு திரும்ப அழைக்கப்பட்டு சிறையிலிடப்பட்டு, பின்னர் தூக்கிலிடப்பட்டார்.

பாரிஸ் உடன்படிக்கை (1763)

ஐரோப்பாவில் நடைபெற்ற ஏழாண்டுப் போர் பாரிசு உடன்படிக்கையின் படி முடிவுக்கு வந்தது. அதன்படி பாண்டிச்சேரி உட்பட இந்தியாவிலிருந்த பிரெஞ்சு குடியேற்றங்கள் அனைத்தும் பிரெஞ்சுக்காரர்கள் வசம் திரும்ப கொடுக்கப்பட்டது. ஆனால் அவர்கள் தங்கள் பகுதிகளை பலப்படுத்தவும், படைகளை பெருக்கவும் தடைவிதிக்கப்பட்டது. இதன் மூலம் பிரெஞ்சு ஆதிக்கம் இந்தியாவில் முடிவுக்கு கொண்டு வரப்பட்டது.

மைசூரும், ஆங்கிலேய ஆட்சி விரிவாக்கத்திற்கு எதிர்ப்பும்

ஹைதர் அலியின் தலைமையில் மைசூர் சமஸ்தானம் தென்னிந்திய வரலாற்றில்

2_History_Unit-2 Folder.indd 16 02-01-2023 14:30:40

மிகப்பெரிய எழுச்சியை பெற்றது. இந்தியாவில் ஆங்கிலேய ஆட்சி விரிவாக்கத்திற்கு எதிராக ஹைதர் அலியும், அவரது மகன் திப்பு சுல்தானும் முக்கிய பங்காற்றினர். இருவரும் வீரதீரத்துடன் ஆங்கிலேயரை எதிர்த்தனர். 1761இல் ஹைதர் அலி மைசூர் சமஸ்தானத்தின் உண்மையான ஆட்சியாளரானார். மேலும் அவர் ஆங்கிலேயருக்கு வலிமைமிக்க எதிரியாகவும் திகழ்ந்தார்.

முதல் ஆங்கிலேய – மைசூர் போர் (1767–1769)

காரணங்கள்

- ஹைதர் அலியின் வளர்ச்சி, அவர் பிரெஞ்சுக்காரர்களிடம் கொண்டிருந்த நட்புறவு ஆகியன ஆங்கில கிழக்கிந்திய கம்பெனியின் எதிர்ப்புக்கு காரணமாயின.
- ஹைதர் அலிக்கு எதிராக மராத்தியர்கள், ஹைதராபாத் நிசாம், ஆங்கிலேயர்கள் இணைந்து முக்கூட்டணியை ஏற்படுத்தினர்.

போரின் போக்கு

தளபதி ஜோசப் ஸ்மித் தலைமையிலான ஆங்கிலப் படை உதவியுடன் ஹைதராபாத் நிசாம் 1767இல் மைசூர் மீது படையெடுத்தார். ஆங்கிலப் படையை ஹைதர் அலி தோற்கடித்து மங்களூரை கைப்பற்றினார். 1769 மார்ச் மாதம் ஹைதர் அலி மதராஸ் மீது படையெடுத்தார். இதனால் ஆங்கிலேயர்கள் 1769 ஏப்ரல் 4இல் அவரிடம் ஓர் உடன்படிக்கை செய்து கொண்டனர்.

மதராஸ் உடன்படிக்கை (1769)

போரின் முடிவில் மதராஸ் உடன்படிக்கை செய்துகொள்ளப்பட்டது . அதன்படி போருக்கு முன்னர் இருந்த பகுதிகளை இருதரப்பினரும் திரும்பப்பெற்றனர். மற்ற நாடு தாக்கும் பட்சத்தில் ஒருவருக்கொருவர் உதவி செய்வது என உறுதி செய்துகொள்ளப்பட்டது.

இரண்டாம் ஆங்கிலேய மைசூர் போர் (1780–1784)

காரணங்கள்

- 1769இல் செய்துகொள்ளப்பட்ட உடன்படிக்கையை ஆங்கிலேயர்கள் நிறைவேற்றத் தவறினர்.
- 1771இல் மராத்தியர்கள் ஹைதர் அலி மீது படையெடுத்த போது மதராஸ் உடன்படிக்கையின் படி ஆங்கிலேயர்கள் ஹைதர் அலிக்கு உதவவில்லை.
- ஹைதர் அலியின் ஆட்சிக்குட்பட்ட பிரெஞ்சு குடியேற்ற பகுதியான மாஹியை ஆங்கிலேயர்கள்கைப்பற்றினர்.இந்நிகழ்வு ஆங்கிலேயருக்கு எதிராக ஹைதர் அலி, ஹைதராபாத் நிசாம், மராத்தியர்களின் முக்கூட்டணியை உருவாக்கியது.

போரின் போக்கு

1781இல் ஆங்கிலேய படைத் தளபதி சர் அயர்கூட் ஹைதர் அலியை பரங்கிப்பேட்டை(போர்டோ நோவா) என்ற இடத்தில் தோற்கடித்தார். மேலும் மைசூர் படைகள் சோளிங்கர் என்ற பகுதியிலும் தோல்வியை தழுவியது. போரின் போது புற்று நோயால் பாதிக்கப்பட்ட ஹைதர் அலி 1782இல் இறந்தார். அவரின் இறப்புக்குப் பின் அவரது மகன் திப்பு சுல்தான் ஆங்கிலேயருக்கு எதிராக போரினைத் தொடர்ந்தார். 1783இல் திப்பு ஆங்கிலேய படைத்தளபதியான பிரிகேடியர் மேத்யூஸ் மற்றும் அவரது படை வீரர்களையும் கைது செய்தார். இது பின்னாளில் திப்புவுக்கு பின்னடைவை ஏற்படுத்தியது.

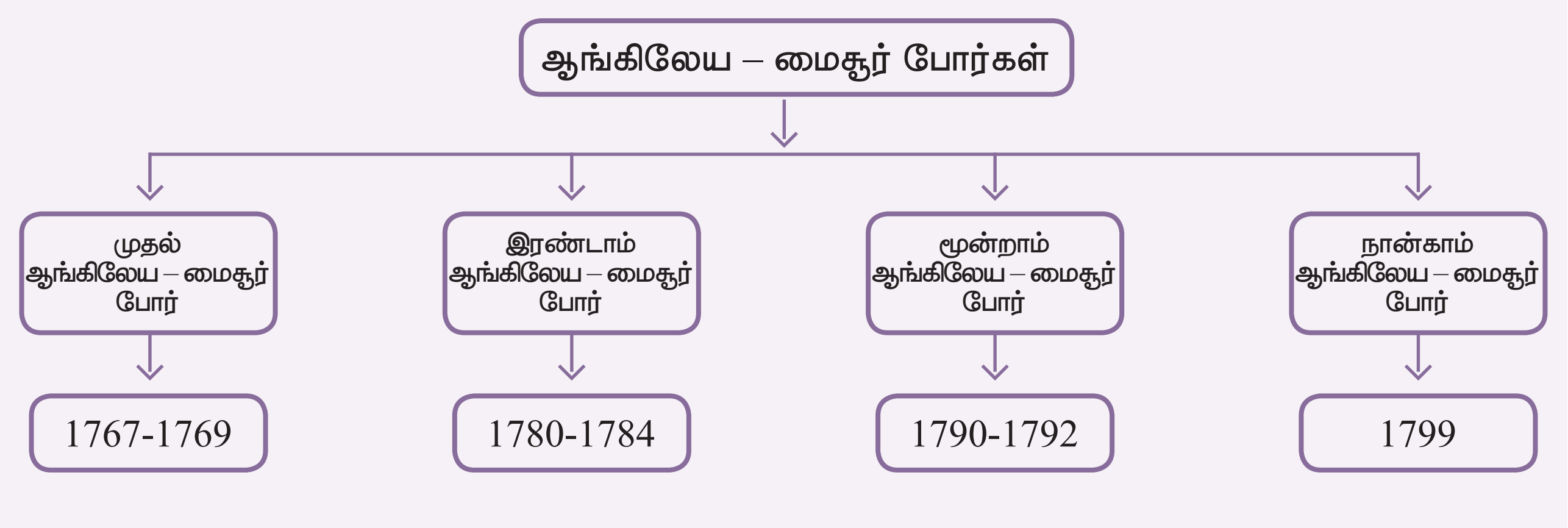

2_History_Unit-2 Folder.indd 17 02-01-2023 14:30:40

மங்களூர் உடன்படிக்கை (1784)

1784 மார்ச் 7இல் ஆங்கிலேயருக்கும், திப்பு சுல்தானுக்கும் இடையே இவ்வுடன்படிக்கை கையெழுத்தானது. இருபிரிவினரும் போரில் கைப்பற்றிய பகுதிகளை திரும்ப அளிப்பதும், போர்க் கைதிகளை ஒப்படைப்பதும் என உடன்பாடு ஏற்பட்டது.

இதன் மூலம் கவர்னர் ஜெனரல் வாரன் ஹேஸ்டிங்ஸ்புதிதாக உருவாக்கப்பட்ட பிரிட்டிஷ் ஆதிக்கத்தை வலிமை மிக்க எதிரிகளான மராத்தியர்கள் மற்றும் ஹைதர் அலியிடம் இருந்து பாதுகாத்துக் கொண்டார். இச்சமயத்தில் அமெரிக்காவில் தங்கள் குடியேற்றங்களை பிரிட்டன் இழந்தபோதிலும், வாரன்ஹேஸ்டிங்ஸ் எதையும் இந்தியாவில் இழக்கவில்லை. மாறாக இந்தியாவில் ஆங்கிலேய ஆட்சிப் பகுதிகளை ஒருங்கிணைத்தார்.

மூன்றாம் ஆங்கிலேய மைசூர் போர் (1790–1792)

காரணங்கள்

- மங்களூர் உடன்படிக்கைகுப்பின் ஆங்கிலேயருக்கு எதிராக வெளிநாடுகளுடன் கூட்டணி அமைக்கும் பொருட்டு பிரான்சு, மற்றும் துருக்கி ஆகிய நாடுகளுக்கு திப்பு சுல்தான் தன்னுடைய தூதுவர்களை அனுப்பினார்.
- ஆங்கிலேய கூட்டணியில் இருந்த திருவிதாங்கூர் சமஸ்தானத்தை திப்பு சுல்தான் 1789இல் தாக்கினார்.
- இச்சமயத்தில் திப்பு சுல்தானுக்கு எதிராக ஆங்கிலேயர்கள், ஹைதராபாத் நிசாம் மற்றும் மராத்தியர்களுடன் இணைந்து மூவர் கூட்டணியை உருவாக்கினர்.

போரின் போக்கு

இரண்டு ஆண்டுகள் நடைபெற்ற இப்போரில் திப்பு சுல்தான் தனியாக எதிர்த்து போராடினார். இப்போர் மூன்று கட்டங்களாக நடைபெற்றது. தளபதி மேடோஸ் தலைமையிலான தாக்குதல் தோல்வியில் முடிந்தது. ஆகையால் 1790இல் தலைமை ஆளுநர் காரன்வாலிஸ் தானாகவே படையை வழிநடத்தினார். ஸ்ரீரங்கப்பட்டினத்தை தாக்குவதற்கு தடையாக இருந்த அனைத்து மலைக் கோட்டைகளையும் அவர் கைப்பற்றினார். நம்பிக்கை இழந்த திப்பு சுல்தான் ஆங்கிலேயரிடம் பேச்சுவார்த்தைக்கு உடன்பட்டார். அதனை ஏற்றுக்கொண்ட காரன்வாலிஸ் 1792இல் ஸ்ரீரங்கபட்டிண உடன்படிக்கையை திப்பு சுல்தானுடன் செய்து கொண்டார்.

ஸ்ரீரங்கபட்டிண உடன்படிக்கை (1792)

- இவ்வுடன்படிக்கையின்படி, திப்பு தன்னுடைய ஆட்சிப்பகுதியில் பாதி பகுதியை ஆங்கிலேயருக்கு ஒப்படைத்தார்.
- போர் இழப்பீட்டு தொகையாக 3.6 கோடி செலுத்த வேண்டும் என்றும், தன்னுடைய இரண்டு மகன்களை ஆங்கிலேயரிடம் பிணைக் கைதிகளாக ஒப்படைக்க வேண்டும் என திப்பு சுல்தான் கட்டாயப்படுத்தப்பட்டார்.
- இதன் மூலம் ஆங்கிலேயர்கள் மலபார், குடகு மலை, திண்டுக்கல் மற்றும் பாரமஹால் (கோயம்புத்தூர், சேலம்) ஆகிய பகுதிகளைப் பெற்றனர்.

நான்காம் ஆங்கிலேய – மைசூர் போர் (1799)

திப்பு சுல்தான், 1792இல் ஸ்ரீரங்கப்பட்டிண உடன்படிக்கையின் மூலம் காரன்வாலிஸால் அவமரியாதை செய்யப்பட்டதை மறக்கவில்லை.

காரணங்கள்

- திப்பு சுல்தான் ஆங்கிலேயருக்கு எதிராக இம்முறையும் வெளிநாட்டு கூட்டணிக்காக அரேபியா, துருக்கி, ஆப்கானிஸ்தான் மற்றும் பிரான்சு ஆகிய நாடுகளுக்கு தன்னுடைய தூதர்களை அனுப்பினார்.
- அச்சமயத்தில் எகிப்து மீது படையெடுத்த நெப்போலியனுடன் திப்பு தொடர்பு வைத்திருந்தார்.
- பிரெஞ்சு அலுவலர்கள் ஸ்ரீரங்கப்பட்டிணத்திற்கு வருகை புரிந்து அவர்கள் ஜாக்கோபியன் கழகத்தை நிறுவினார்கள், மேலும் அங்கு சுதந்திர மரம் ஒன்றும் நடப்பட்டது.

போரின் போக்கு

1799இல் வெல்லெஸ்லி பிரபு திப்புவின் மீது போர் தொடுத்தார். இது குறுகிய காலத்தில் நடந்த, கடுமையான போராக இருந்தது. திட்டமிட்டபடி மைசூரின் மேற்கே பம்பாய் இராணுவம் தளபதி ஸ்டூவர்ட் தலைமையில் படையெடுத்தது. இச்சமயத்தில் மெட்ராஸ் இராணுவம் தலைமை ஆளுநரின் சகோதரர் ஆர்தர் வெல்லெஸ்லி தலைமையில் திப்பு சுல்தானை

2_History_Unit-2 Folder.indd 18 02-01-2023 14:30:41

தாக்கியது. திப்பு தன்னுடைய தலைநகரம் ஸ்ரீரங்கப்பட்டிணத்திற்கு பின் வாங்கினார். 1799 மே 4ஆம் நாள் ஸ்ரீரங்கபட்டிணம் கைப்பற்றப்பட்டது. திப்பு சுல்தான் வீரதீரமாக போரிட்டாலும் இறுதியில் கொல்லப்பட்டார். இவ்வாறாக நான்காம் மைசூர் போர் முடிவுக்கு வந்தது. மேலும் ஒட்டுமொத்த மைசூரும் ஆங்கிலேயர் முன்பாக சரணடைந்தது.

போருக்கு பின் மைசூர்

- கனரா, வயநாடு, கோயமுத்தூர், தாராபுரம் ஆகிய பகுதிகளை ஆங்கிலேயர் இணைத்து கொண்டனர்.
- மீண்டும் இந்து உயர் குடும்பத்தை சேர்ந்த மூன்றாம் கிருஷ்ண ராஜா உடையார் மைசூர் அரியணை ஏறினார்.
- திப்புவின் குடும்பத்தினர் வேலூர் கோட்டைக்கு அனுப்பபட்டனர்.

ஆங்கிலேய–மராத்திய போர்கள்

மூன்றாம் பானிபட் போர் தோல்வியால் ஏற்பட்ட நெருக்கடியை சமாளிக்க மராத்தியர்கள் முயற்சித்தனர். அதன் விளைவாக பத்தாண்டுகளுக்கு பிறகு தங்கள் மீதான டெல்லி முகலாயர்களின் கட்டுப்பாட்டை மீட்டனர். எனினும் பேஷ்வா கட்டுப்பாட்டில் இருந்த பழைய மராத்தியக் கூட்டமைப்பு கிட்டத்தட்ட ஐந்து சுதந்திரமான மாநிலங்களுக்கு வழிவகுத்தது. அவர்கள், புனாவில் பேஷ்வா, பரோடாவில் கெய்க்வாட், நாக்பூரில் போன்ஸ்லே, இந்தூரில் ஹோல்கர், மற்றும் குவாலியரில் சிந்தியா போன்றோர்களாவர். பேஷ்வா அரசாங்கம் உள்நாட்டு போட்டியாளர்களால் பலவீனப்படுத்தப்பட்டது, மற்ற நான்கு தலைவர்கள் ஒருவரையொருவர் அடிக்கடி விரோதமாக எதிர்த்தனர். இருந்தபோதிலும், மராத்தியர்கள் பலம் வாய்ந்த சக்தியாகவே இருந்தனர். மராட்டியர்களுக்கிடையிலிருந்த, இம்மோதல்களை பிரிட்டிஷார் அவர்களது விரிவாக்க கொள்கைக்கு சிறந்த முறையில் பயன்படுத்திக் கொண்டனர்.

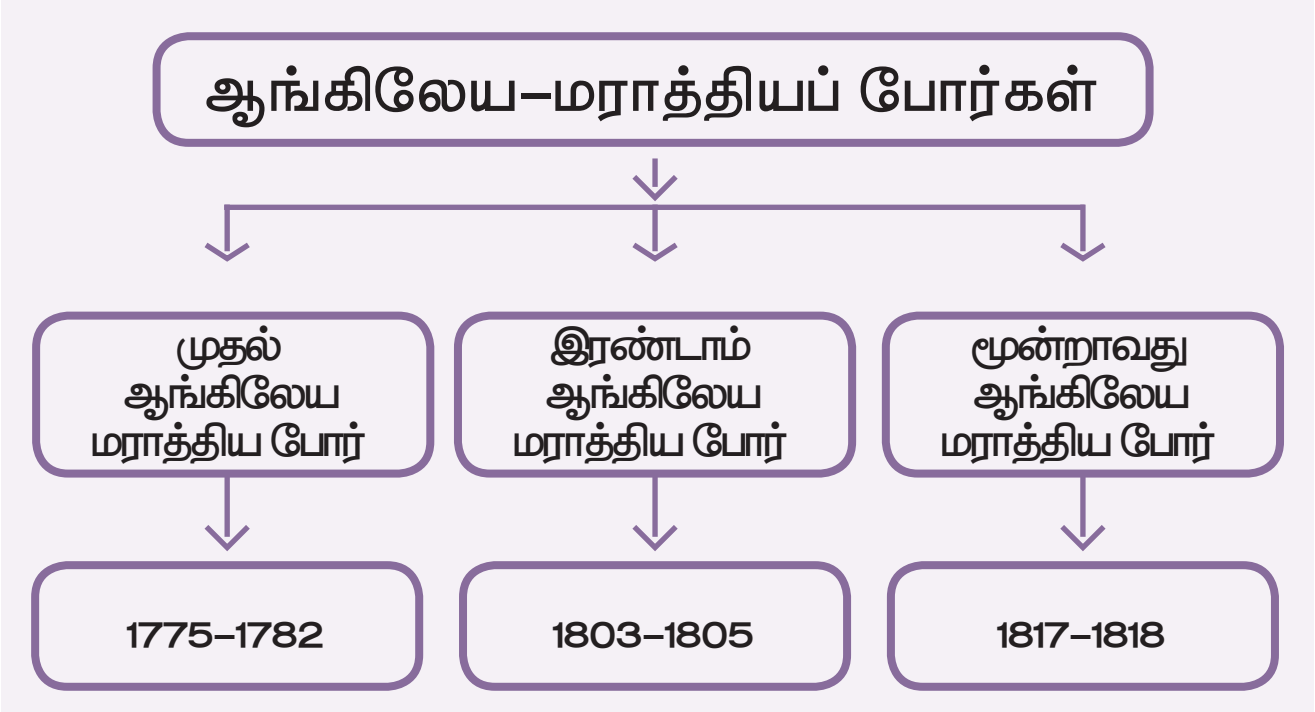

முதல் ஆங்கிலேய–மராத்தியப்போர் (1775–1782)

காரணங்கள்

மராத்தியர்களின் பேஷ்வா, நாராயண ராவின் இறப்புக்குப் பிறகு அடுத்த பேஷ்வா யார் என்றஉரிமை பிரச்சனையில் ஆங்கிலேயர்கள் முதன்முதலில் தலையிட வேண்டியிருந்தது. நாராயண ராவ் இறந்த பிறகு, ரகுநாத ராவ் (ராகோபா) பேஷ்வா ஆனார். ஆனால் அவரது அதிகாரத்திற்கு எதிராக பூனாவிலிருந்த ஒரு குழு நானா பட்னாவிஸ் தலைமையில் எதிர்ப்பு தெரிவித்தது. அக்குழு நாராயண ராவின் மறைவுக்குப்பின் அவரது மனைவியான கங்கா பாய்க்கு பிறந்த குழந்தையை (இரண்டாம் மாதவ ராவ்) பேஷ்வாவாக அங்கீகரித்தது. மேலும் அவருடைய பெயரில் ஆட்சிக் குழுவொன்றும் அமைத்தது. அதிகாரத்தை கைப்பற்றும் முயற்சியில் தோல்வியடைந்த ரகுநாத ராவ் பிரிட்டிஷ் உதவியை அணுகினார். இதன்படி, 1775ஆம் ஆண்டு ஆங்கிலேயருக்கும் ரகுநாத ராவுக்கும் இடையே சூரத் ஒப்பந்தம் கையெழுத்தானது. இருப்பினும், கல்கத்தா பிரிட்டிஷ் கவுன்சில் சூரத் உடன்படிக்கையை ஏற்றுக்கொள்ளவில்லை. இருப்பினும் தலைமை ஆளுநரான வாரன் ஹேஸ்டிங்ஸ் ஒப்பந்தத்தை ஏற்றுக்கொள்வதற்கு எந்தவித ஆட்சேபனையும் தெரிவிக்கவில்லை. பூனாவின் பாதுகாப்பரசுடன் ஒரு சமாதானப் பேச்சுவார்த்தை நடத்துவதற்காக கல்கத்தா பிரிட்டிஷ் கவுன்சில் பூனாவுக்கு கர்னல் அப்டனை அனுப்பியது. அதன்படி, அப்டன் 1776ஆம் ஆண்டு பூனாவின் பாதுகாப்பரசுடன் புரந்தர் ஒப்பந்தத்தை செய்துகொண்டார். ஆயினும், பம்பாயில் ஆங்கில அரசாங்கத்தின் எதிர்ப்பு காரணமாக இந்த ஒப்பந்தம் நடைமுறைக்கு வரவில்லை.

போரின் போக்கு

1781ஆம் ஆண்டில், வாரன் ஹேஸ்டிங்ஸ் கேப்டன் பாப்ஹாமின் தலைமையின்கீழ் பிரிட்டிஷ் துருப்புக்களை அனுப்பினார். அவர் மராத்தியத் தலைவரான மகாதாஜி சிந்தியாவை பல போர்களில் தோற்கடித்து குவாலியரைக் கைப்பற்றினார். 1782ஆம் ஆண்டு மே 17ஆம் நாள், வாரன் ஹேஸ்டிங்ஸ்

மற்றும் மகாதாஜி சிந்தியா இடையே சால்பை ஒப்பந்தம் கையெழுத்தானது.

விளைவுகள்

- போரின் முடிவில் இரண்டாம் மாதவராவ் பேஷ்வாவாக ஏற்றுக்கொள்ளப்பட்டு, ரகுநாத ராவுக்கு ஓய்வூதியம் வழங்கப்பட்டது.
- பிரிட்டிஷ் அரசுக்கு சால்செட் பகுதி வழங்கப்பட்டது.
- இந்திய அரசியலில் சால்பை ஒப்பந்தம் பிரிட்டிஷாருக்கு செல்வாக்கை ஏற்படுத்தியது.
- பிரிட்டிஷாருக்கும் மராத்தியர்களுக்கும் இடையே அடுத்த இருபது ஆண்டுகளுக்கு சமாதானஉறவு நீடித்தது.

மராத்தியர்களின் உள்நாட்டு விவகாரம்

முதல் மராத்தியப் போரின் முடிவில் மராத்தியர்களின் உள்விவகார பிரச்சனை மேலும் மோசமடைந்தது. நானா பட்னாவிஸின் அதிகார வளர்ச்சியைக்கண்டு மகாதாஜி சிந்தியா பொறாமை கொண்டார். இதன் காரணமாக ஆங்கிலேயரின் ஆதரவை அவர் பெற முற்பட்டார். இளம் பேஷ்வாவான இரண்டாம் மாதவ ராவ் மராத்தியர்களிடையே நல்லுறவை மேம்படுத்த முயன்றார், ஆனால் அவரால் மராத்தியத் தலைவர்களின் ஆதிக்கப் போட்டியை தடுக்க முடியவில்லை. இந்நிலையில், மகாதாஜி சிந்தியா 1794இல் இறந்தபின் அவருடைய மருமகன் தௌலத் ராவ் சிந்தியா பதவியேற்றார். சிந்தியாவின் மரணம் பூனாவில் நானா பட்னாவிஸின் அதிகாரத்தை இழக்கச் செய்தது. மேலும் ஆங்கிலேயர்கள் தங்களது செல்வாக்கை வடஇந்தியாவில் விரிவுபடுத்த வலிகோலியது. பேஷ்வா இரண்டாம் மாதவ ராவ் 1795ஆம் ஆண்டில் தற்கொலை செய்து கொண்ட பிறகு, ரகுநாதராவின் வலிமையற்ற மகனான இரண்டாம் பாஜிராவ் பேஷ்வா ஆனார். இத்தருணத்தில் 1800இல் நானா பாட்னாவிஸ் மரணம் பிரிட்டிஷாருக்கு மேலும் நன்மை அளிப்பதாக இருந்தது.

ஜஸ்வந்த் ராவ் ஹோல்கர் மற்றும் தௌலத் ராவ் சிந்தியா ஆகியோர் ஒருவருக்கொருவர் சண்டையிட்டுக்கொண்டிருந்த சூழ்நிலையில், பேஷ்வா ஹோல்கருக்கு எதிராக சிந்தியாவை ஆதரிப்பதாகவும், பேஷ்வாவும் சிந்தியாவும் ஒருவருக்கொருவர் உதவி செய்வதாகவும் ஒப்புக்கொண்டனர். இதன் விளைவாக 1802இல் ஹோல்கர், பேஷ்வாவுக்கு எதிராக படையெடுத்து, சிந்தியா மற்றும் பேஷ்வாவின் கூட்டுப் படைகளை தோற்கடித்தார். முடிவில் பேஷ்வா இரண்டாம் பாஜிராவ் இந்தியாவின் தலைமை ஆளுநராக இருந்த வெல்லெஸ்லி பிரபுவை அணுகினார். பேஷ்வாவை வரவேற்ற வெல்லெஸ்லி பிரபு, அவரோடு 1802இல் பஸ்ஸீன் உடன்படிக்கையை செய்துகொண்டார். இவ்வுடன்படிக்கையின்படி துணைப்படை திட்டத்தை பேஷ்வா ஏற்றுக்கொண்டார். மேலும் ஆங்கிலேயர்கள் ஆர்தர் வெல்லஸ்லியின் உத்தரவின் கீழ் பூனாவை நோக்கி படையெடுத்துச் சென்று மராத்தியத் தலைவர் ஹோல்கரின் படைகளை தாக்கி அழித்தனர்.

இரண்டாம் ஆங்கிலேய–மராத்தியப் போர் (1803–1805)

காரணங்கள்

பேஷ்வா துணைபடைத் திட்டதை ஏற்றுக்கொண்ட பிறகு, தௌலத் ராவ் சிந்தியா மற்றும் ரகோஜி போன்ஸ்லே ஆகியோர் மராத்திய சுதந்திரத்தை காப்பாற்ற முயற்சித்தனர். ஆங்கிலேயரின் இராணுவம் ஆர்தர் வெல்லஸ்லியின் தலைமையில், அஸ்ஸே மற்றும் அரகான் பகுதியில் சிந்தியா மற்றும் போன்ஸ்லே ஆகியோரின் கூட்டுப் படைகளை தோற்கடித்தது.

போரின் போக்கு

இவ்வெற்றிக்குப்பின் சிந்தியாவுடன் சுர்ஜீ–அர்ஜுகான் ஒப்பந்தத்தையும், போன்ஸ்லேவுடன் தியோகான் ஒப்பந்தத்தையும் 1803இல் ஆங்கிலேயர்கள் செய்துகொண்டனர். ஆனால் போரில் ஈடுபடாத யஸ்வந்த் ராவ் ஹோல்கர் (ஜஸ்வந்த் ராவ் ஹோல்கர் எனவும் அழைக்கப்படுகிறார்) இன்னும் ஆங்கிலேயர்களுக்கு அடிபணியவில்லை. பின்னர் 1804இல் ஜெய்ப்பூர் பிரதேசத்தை ஹோல்கர் சூறையாடும் போது ஆங்கிலேயர்கள் அவருக்கு எதிராக போர்தொடுத்தனர். ஆங்கிலேயருக்கு எதிராக யஷ்வந்த ராவ் ஹோல்கர் இந்திய ஆட்சியாளர்களை இணைத்து ஒரு கூட்டணியை உருவாக்க முயற்சித்தார். ஆனால் அவரது முயற்சி தோல்வியடைந்தது. இறுதியில் மராத்தியர்கள் தோற்கடிக்கப்பட்டு, ஆங்கிலேயர்களுக்கு கப்பம் செலுத்தும் நிலைக்குத் தள்ளப்பட்டனர். மேலும்

2_History_Unit-2 Folder.indd 20 02-01-2023 14:30:41

மராத்திய தலைவர்கள் ஒருவருக்கொருவர் பிரிக்கப்பட்டு தனிமைப் படுத்தப்பட்டனர்.

விளைவுகள்

- இப்போருக்கு பின் மராத்தியர்களின் வலிமை காலப்போக்கில் பலவீனமடைந்தது.
- இந்தியாவில் ஆங்கிலேய கிழக்கிந்திய கம்பெனி தலையாய சக்தியாக மாறத்தொடங்கியது.

மூன்றாவது ஆங்கிலேய–மராத்தியப் போர் (1817–1818)

காரணங்கள்

தங்களது மேலாண்மையை மீண்டும் பெற முயன்ற மராத்தியர்களோடு ஆங்கிலேயர்கள் மூன்றாவதாக ஒரு போரில் ஈடுபட்டனர். இப்போர், இந்தியாவில் பிரிட்டிஷ் கிழக்கிந்திய கம்பெனி மற்றும் மராத்திய சாம்ராஜ்யத்திற்கு இடையே இறுதி மற்றும் தீர்க்கமான மோதலாக அமைந்தது. இப்போர், ஆங்கில படைவீரர்கள் மராத்திய பகுதிகளை ஆக்கிரமிக்கும் போது தொடங்கியது. இந்த ஆக்கிரமிப்பில் தலைமை ஆளுநர் ஹேஸ்டிங்ஸ் பிரபுவுக்கு, ஜெனரல் தாமஸ் ஹிஸ்லாப் தலைமையின் கீழ் ஒரு படைப்பிரிவு உதவியது.

போரின் போக்கு

பேஷ்வா இரண்டாம் பாஜி ராவின் படைகளை தொடர்ந்து, நாக்பூரின் இரண்டாம் மூதோஜி போன்ஸ்லேவும், இந்தூரின் மூன்றாம் மல்ஹர் ராவ் ஹோல்கரும் ஆங்கிலேயருக்கு எதிராக கிளர்ந்தெழுந்தனர். ஆனால் குவாலியரின் தௌலத் ராவ் சிந்தியா மட்டும் நடுநிலை வகித்தார். காட்கி, கோர்கான் ஆகிய இடங்களில் நடைபெற்ற போர்களில் பேஷ்வா தோற்கடிக்கப்பட்டார், பேஷ்வாவின் படைகள் பல இடங்களில் அவர் பிடிபடுவதைத் தடுத்து நிறுத்தின. இதனைத் தொடர்ந்து சித்தாபால்டி போரில் போன்ஸ்லேவும், மகித்பூர் போரில் ஹோல்கரும் ஆங்கிலேயர்களால் தோற்கடிக்கப்பட்டனர்.

விளைவுகள்

- இப்போரின் முடிவில் மராத்திய கூட்டமைப்பு கலைக்கப்பட்டது மற்றும் பேஷ்வா பதவி ஒழிக்கப்பட்டது.
- பேஷ்வா இரண்டாம் பாஜிராவின் பெரும்பாலான பகுதிகள் பம்பாய் மாகாணத்தோடு இணைக்கப்பட்டன.
- தோற்கடிக்கப்பட்ட போன்ஸ்லே மற்றும் ஹோல்கரின், மராத்திய பகுதிகளான நாக்பூர், இந்தூர் ஆகியவை ஆங்கிலேயர்களால் கையகப்படுத்தப்பட்டன.
- மராத்தியரின் கடைசி பேஷ்வாவான இரண்டாம் பாஜிராவிற்கு வருடாந்திர ஓய்வூதியம் 8 லட்சம் ரூபாய் வழங்கப்பட்டது.

இந்தியாவில் ஆங்கிலேயரின் நிர்வாக அமைப்பு

ஆங்கிலேயரின் இந்திய நிர்வாக அமைப்பு நான்கு முதன்மை நிறுவனங்களாக இயங்கியது. அவை குடிமைப்பணிகள், இராணுவம், காவல், மற்றும் நீதித்துறை ஆகும்.

குடிமைப் பணிகள்

'சிவில் சர்வீஸ்' (குடிமைப் பணிகள்) என்ற வார்த்தை முதன் முதலில் ஆங்கில கிழக்கிந்திய கம்பெனியால் பயன்படுத்தப்பட்டது. இது குடிமைப் பணி ஊழியர்களை, இராணுவ அதிகாரிகளிடமிருந்து வேறுபடுத்தி காட்டியது. சட்டங்களை முறையாக செயல்படுத்துதல், வரி வசூலித்தல் ஆகியன குடிமைப் பணியின் முதன்மைப் பணியாக இருந்தது. ஆரம்பத்தில் வியாபார ரீதியாக இருந்த குடிமைப் பணிகள் பின்னர் பொதுப்பணியாக மாறியது. முதலில் பொதுப்பணியின் நியமனங்கள் அனைத்தும் ஆங்கில கிழக்கிந்திய கம்பெனியின் இயக்குநர் அவையின் தனியுரிமையாக இருந்தது. ஆனால், நியமனம் செய்யப்பட்ட பொது பணியாளர்கள் லஞ்சம், ஊழல், சட்ட விரோத வணிகம் ஆகியவற்றில் ஈடுபட்டனர். அதனால் தலைமை ஆளுநராக காரன் வாலிசு 1786இல் பதவியேற்ற போது தனியார் வணிகத்திற்கு எதிராக சட்டங்களை இயற்றினார். கம்பெனி ஊழியர்களின் சம்பளத்தை உயர்த்தி, உலகின் மிக உயர்ந்த ஊதியம் பெறும் அரசு ஊழியர்களாக அவர்களை மாற்றினார்.

1798இல் இந்திய கவர்னர் ஜெனரலாக பதவியேற்றுக் கொண்ட வெல்லெஸ்லி பிரபு, அரசு ஊழியர்களுக்கு தேவையான பயிற்சியை அறிமுகப்படுத்தினார். இவர் 1800இல் கல்கத்தாவில் வில்லியம் கோட்டையில் மொழி, இலக்கியம், அறிவியல் ஆகிய துறையில் பயிற்சி வழங்குவதற்காக ஒரு கல்லூரியை நிறுவினார். அதேவேளையில் கம்பெனியின் இயக்குநர்கள் இதனை ஏற்க மறுத்து, 1806இல் இங்கிலாந்தில் உள்ள ஹெய்லிபரி என்ற இடத்தில் கிழக்கிந்திய கல்லூரியை நிறுவினர்.

போட்டி தேர்வு மூலம் அரசு ஊழியர் நியமனம் என்ற கருத்தை முதன் முதலில் 1833ஆம் ஆண்டு பட்டயச் சட்டம் அறிமுகப்படுத்தியது. ஆனால் கம்பெனியின் இயக்குநர் அவையால் நியமனம் செய்யப்படாதவர்கள் போட்டித் தேர்வினை எழுத தகுதியற்றவர்கள் எனப்பட்டது. எனவே இந்த முறையானது, நியமனம் மற்றும் போட்டித் தேர்வு முறை என்றழைக்கப்பட்டது. திறந்த முறையிலான போட்டித் தேர்வு முறையில் கம்பெனி ஊழியர்களை தேர்ந்தெடுப்பது 1853ஆம் ஆண்டு அறிமுகப்படுத்தப்பட்டது. இம்முறை 1858ஆம் ஆண்டு இந்திய அரசுச் சட்டத்தால் உறுதி செய்யப்பட்டது. போட்டித் தேர்வுகளுக்கான அதிகபட்ச வயது 23 ஆக நிர்ணயிக்கப்பட்டது. இதனைத் தொடர்ந்து 1858ஆம் ஆண்டு ஹெய்லிபரியில் இருந்த கிழக்கிந்திய கல்லூரி அகற்றப்பட்டது. மேலும் குடிமை பணிக்கு ஆட்களைத் தேர்ந்தெடுக்கும் பொறுப்பு குடிமைப்பணியாளர் தேர்வாணையம் வசமானது. 1860ஆம் ஆண்டு ஒரு ஒழுங்கு முறை ஆணையின் மூலம் தேர்வெழுத அதிகபட்ச வயது 22 ஆக குறைக்கப்பட்டது. மேலும் 1866இல் 21 ஆகவும் 1876இல் 19 ஆக குறைக்கப்பட்டது.

1861ஆம் ஆண்டு பிரிட்டிஷ் பாராளுமன்றத்தால் இந்திய ஆட்சிப் பணி சட்டம் இயற்றப்பட்டது. இச்சட்டம் சில உயர் நிர்வாக பதவிகள் மற்றும் நீதித்துறை பதவிகளை ஒப்பந்த அடிப்படையில் நியமனம் செய்ய ஒதுக்கீடு செய்திருந்தது. பின்னர் இப்பதவிகள் இந்திய ஆட்சிப் பணிகளாக மாற்றப்பட்டன. வயது வரம்பு குறைப்பு மற்றும் இலண்டனுக்கு சென்று தேர்வு எழுதுதல் ஆகிய காரணங்களால் வசதி படைத்த இந்தியர்கள் மட்டுமே ஐ.சி.எஸ் தேர்வை எழுதக் கூடிய சூழ்நிலை நிலவியது. 1869இல் சுரேந்திரநாத் பானர்ஜி, ரமேஷ் சந்திர தத், மற்றும் பிகாரி லால் குப்தா ஆகிய மூன்று இந்தியர்கள் ஐசிஎஸ் தேர்வில் வெற்றி பெற்றனர்.

> **உங்களுக்குத் தெரியுமா?**
>
> 1863இல் ஐசிஎஸ் தேர்வில் தேர்ச்சி பெற்ற முதல் இந்தியர் சத்தியேந்திரநாத் தாகூர். இவர் கவிஞர் இரபீந்திரநாத் தாகூரின் மூத்த சகோதரர் ஆவார்.

பின்னர், ஐசிஎஸ் தேர்விற்கான வயது வரம்பை உயர்த்துவும் தேர்வினை இந்தியாவிலேயே நடத்தவும் கம்பெனியிடம் இந்தியர்கள் கோரிக்கை வைத்தனர். இதன்விளைவாக 1892இல் குறைந்தபட்ச வயதினை 21ல் இருந்து 23 ஆக உயர்த்தப்பட்டது. மேலும் 1912இல் அரசு பணியைப்பற்றி ஆராய்வதற்காக இஸ்லிங்டன் பிரபு என்பவரின் தலைமையில் ஒரு அரச ஆணையம் (ராயல் கமிஷன்) நிறுவப்பட்டது. இதன் உறுப்பினர்களாக இந்தியர்களான கோபால கிருஷ்ண கோகலே, சர் அப்துர் ரஹீம் மற்றும் நான்கு ஆங்கிலேயர்களும் இடம் பெற்றிருந்தனர். 1917இல் இவ்வாணையம் தனது பரிந்துரையை வெளியிட்டது. அப்பரிந்துரைகள் இந்தியர்களின் கோரிக்கையை ஓரளவிற்கு பூர்த்தி செய்வதாக இருந்தது மட்டுமல்லாமல் குடிமை பணி தேர்வை இந்திய மயமாக்கியது.

1918இல் இந்திய ஆட்சிப் பணியில் 33 சதவீதம் இந்தியர்கள் தேர்வு செய்ய வேண்டும் என்றும், படிப்படியாக இவற்றை அதிகரிக்கவும் மாண்டேகு மற்றும் செம்ஸ் போர்டு ஆகியோர் பரிந்துரைத்தனர். 1923இல் ஏற்படுத்தப்பட்ட மற்றொரு (ராயல் கமிஷன்) அரச ஆணையத்திற்கு லீ பிரபு தலைவராக நியமிக்கப்பட்டார். இது இந்திய ஆட்சிப்பணி, இந்திய காவல் பணி, இந்திய காடுகள் பணி ஆகிய அனைத்து நியமனங்களும் இந்தியாவுக்கான அரசுச் செயலரின் கட்டுப்பாட்டில் இருக்க வேண்டும் என்று பரிந்துரைத்தது. அரசுப் பணியாளர் தேர்வாணையம் ஒன்றை உடனடியாக நிறுவுவதற்கும் லீ தலைமையிலான குழு பரிந்துரை செய்தது.

1935ஆம் ஆண்டு இந்திய அரசுச் சட்டம் மத்தியில் கூட்டாட்சி அரசுப் பணியாளர் தேர்வாணையம் ஒன்றும், மாகாணங்களில் – மாகாண அரசுப் பணியாளர் தேர்வாணையம் ஒன்றும் உருவாக வழிவகை செய்தது. அதேபோல் ஒரு சில மாகாணங்கள் ஒன்றிணைந்து மாகாண அரசுப் பணியாளர் தேர்வாணையம் உருவாக்கவும் வழிவகை செய்தது. ஆங்கிலேயருக்கு உதவி செய்யவே இந்த குடிமைப்பணி அமைப்பு உருவாக்கப்பட்டாலும், சுதந்திர இந்தியாவின் இந்திய ஆட்சிப் பணிஅமைப்பு உருவாவதற்கு இந்த முறை அடித்தளமாக அமைந்தது.

2_History_Unit-2 Folder.indd 22 02-01-2023 14:30:41

இராணுவம்

இது இந்தியாவின் பிரிட்டிஷ் நிர்வாகத்தின் இரண்டாவது முக்கிய தூணாக விளங்கியது. கிழக்கிந்திய கம்பெனி தன்னுடைய இராணுவத்திற்கு ஆட்களைச் சேர்த்தது, அதற்கு சிப்பாய் இராணுவம் என்று பெயர். இந்த இராணுவ வீரர்களுக்கு, ஐரோப்பிய அதிகாரிகளின் உத்தரவை போர்க்களத்தில் நிறைவேற்ற, ஐரோப்பிய இராணுவத்திற்கு இணையாக பயிற்சி அளிக்கப்பட்டது. ஆங்கிலேயர்கள் ஆரம்ப காலத்தில் வங்காளம், பம்பாய், மதராஸ் ஆகிய மூன்று மாகாணங்களிலும் தனித்தனியாக மூன்று படைப்பிரிவை ஏற்படுத்தியிருந்தனர். இந்தியாவில் ஆங்கிலேய ஆட்சியினை நிறுவுவதிலும், விரிவுபடுத்துவதிலும் இராணுவத்தின் பங்களிப்பு சிறப்பானதாகும். ஆங்கில சிப்பாய்களை விட இந்திய சிப்பாய்களுக்கு குறைந்த சம்பளமும், தினப்படியும் வழங்கப்பட்டது. உதாரணமாக 1856ஆம் ஆண்டு மூன்று இந்திய படைவீரர்கள் மாத சம்பளமாக மொத்தம் ரூபாய் 300 மட்டுமே பெற்றனர். 1857ஆம் ஆண்டு கம்பெனி இராணுவம் 86 சதவீதம் இந்தியர்களை கொண்டதாக இருந்தது. இருந்த போதிலும் இராணுவ உயர் பதவி அனைத்தும் ஆங்கிலேயர் வசமே இருந்தன. இந்தியர்களுக்கான உயர் பதவி சுபேதார் மட்டுமே ஆகும்.

ஆங்கில இராணுவத்தின் வலிமை

- பிளாசிப் போர் 1757: ஐரோப்பிய காலாட்படை – 1950, ஐரோப்பிய பீரங்கி படை – 100, ஆங்கிலேய மாலுமிகள் – 50, இந்திய சிப்பாய்கள் – 2100, வங்காளத்தில் இருந்த ஆங்கில இராணுவம் – 6000.
- 1857இல் இந்திய இராணுவத்தில் 3,11,400 வீரர்களில் 2,65,900 வீரர்கள் இந்தியர்களாக இருந்தனர். உயர் பதவி அலுவலர்கள் அனைவரும் ஆங்கிலேயர்கள் ஆவர்.

காவல் துறை

1765இல் வங்காளத்தில் திவானி (வரிவசூல்) உரிமையை ஆங்கில கிழக்கிந்திய கம்பெனி பெற்ற போது 'சர்க்கார்' (கிராம மாவட்டங்கள்)என்ற ஆட்சிப் பிரிவுக்கு பொறுப்பு வகித்த பௌஜ்தார் வசம் முகலாய காவல்துறை சென்றது. அப்போது, நகரங்களை நிர்வகிக்கும் காவல் அலுவலர்களாக கொத்வால் இருந்தார். அதேவேளையில் கிராமங்கள் கிராம காவலாளிகளால் பாதுகாக்கப்பட்டது அவர்களை ஜமீன்தார்கள் சம்பளம் வழங்கி தங்கள் கட்டுப்பாட்டில் வைத்திருந்தனர்.

இந்தியாவில் முதன்முதலில் காவல் துறையை உருவாக்கியவர் காரன்வாலிஸ் பிரபு ஆவார். ஜமீன்தார்களை காவல் பணிகளிலிருந்து விடுவித்த காரன்வாலிஸ் 1791இல் முறையான காவல் துறையை உருவாக்கினார். அவர் 'தரோகா' என்பவரை தலைவராகக் கொண்ட சரகங்கள் அல்லது 'தானாக்கள்' என்ற காவல் பகுதிகளை ஏற்படுத்தினார். அவர்கள் கிராமங்களிலும் காவல் பணி செய்ய அதிகாரம் வழங்கப்பட்டது. கிராமத்தை பரம்பரையாக நிர்வகித்து வந்த காவலர்கள் 'சௌகிதார்கள்' என்றழைக்கப்பட்டனர். பெரு நகரங்களில் பழைய முறையான கொத்வால் காவல் பணியே தொடர்ந்தது. மேலும் ஒவ்வொரு வார்டுக்கும் ஒரு தரோகா நியமிக்கப்பட்டார். இந்த தரோகா முறை 1802இல் மதராஸ் மாகாணத்திற்கும் விரிவுபடுத்தப்பட்டது.

மாவட்ட காவல் கண்காணிப்பாளர் பதவி உருவாக்குவதற்கு முன்னர், அனைத்து தானாக்களும் மாவட்ட நீதிபதியின் பொது மேற்பார்வையில் இருந்தது. அதன் பின் 1808இல் ஒவ்வொரு தானாவிற்கும் ஒரு மாவட்ட காவல் கண்காணிப்பாளர் நியமிக்கப்பட்டார். பின்னர் காவல் துறையை நிர்வகிக்கும் பொறுப்பு மாவட்ட ஆட்சித் தலைவரிடம் ஒப்படைக்கப்பட்டது. காவல் துறையில் முக்கிய பணியானது ஆங்கிலேய ஆட்சிக்கு எதிராக சதி செய்வதை தடுத்தலும், குற்றங்களை கையாள்வதும் ஆகும்.

நீதித்துறை அமைப்பு

1772இல் இரட்டை ஆட்சி முறை ஒழிக்கப்பட்டு வரிவசூல் செய்வதையும், நீதி வழங்கும் அதிகாரத்தையும் ஆங்கில கிழக்கிந்திய கம்பெனி ஏற்றுக் கொண்டது. அதன் விளைவாக சிவில் நீதிமன்றம் என்றழைக்கப்பட்ட திவானி அதாலத் மற்றும் குற்றவியல் நீதிமன்றம் என்றழைக்கப்பட்ட பௌஜ்தாரி அதாலத் ஆகியன ஏற்படுத்தப்பட்டன.

2_History_Unit-2 Folder.indd 23 02-01-2023 14:30:41

1773ஆம் ஆண்டு ஒழுங்கு முறைச் சட்டத்தின்படி கல்கத்தாவில் ஒரு உச்சநீதிமன்றம் அமைக்கப்பட்டது. இந்நீதிமன்றத்திற்கு ஒரு முதன்மை நீதிபதியும் மூன்று துணை நீதிபதிகளையும் பிரிட்டிஷ் மன்னர் நியமித்தார். இந்நீதிமன்றம் சிவில், குற்றவியல், திருச்சபை, மற்றும் பிரத்தியோக வழக்குகளை விசாரித்தது. கல்கத்தாவில் உள்ள உச்ச நீதிமன்றத்தின் மாதிரியில் 1801இல் மதராஸிலும், 1823இல் பம்பாயிலும் உச்ச நீதிமன்றங்கள் நிறுவப்பட்டன. 1832இல் வில்லியம் பெண்டிங் பிரபு ஜூரி (நீதி அதிகார முறை) முறையை வங்காளத்தில் கொண்டு வந்தார். சட்டங்களை தொகுக்க இந்திய சட்ட ஆணையம் ஒன்றும் அமைக்கப்பட்டது. நாடு முழுவதும் சட்டத்தின் ஆட்சி நடைமுறைப்படுத்தப்பட்டது. 1861ஆம் ஆண்டு இந்திய உயர்நீதி மன்ற சட்டத்தின் படி கல்கத்தா, பம்பாய், மதராஸ் ஆகிய இடங்களில் பழைய உச்சநீதிமன்றங்களுக்கு பதிலாக மூன்று உயர் நீதிமன்றங்கள் ஏற்படுத்தப்பட்டன.

உங்களுக்குத் தெரியுமா?

வங்காளத்தின் வில்லியம் கோட்டையில் முதல் உச்சநீதிமன்ற நீதிபதி சர் எலிஜா இம்பே ஆவார்.

மதராஸ் உயர்நீதிமன்றத்தின் முதல் இந்திய தலைமை நீதிபதி சர் திருவாரூர் முத்துசாமி ஆவார்.

துணைப்படைத் திட்டம் (1798)

இந்தியாவில் இருந்த சுதேச அரசுகளை ஆங்கிலேயரின் கட்டுப்பாட்டில் கொண்டு வர வெல்லெஸ்லி பிரபுவால் அறிமுகப்படுத்தப்பட்ட திட்டமே துணைப்படைத்திட்டமாகும். இந்தியாவில் ஆங்கிலேய ஆட்சியை விரிவுபடுத்தவும் அரசியல் ஆதிக்கத்தை ஏற்படுத்தவும் இத்திட்டம் மிகச்சிறந்த கருவியாக பயன்படுத்தப்பட்டது. சுதேச அரசுகள் பாதுகாக்கப்பட்ட அரசுகள் என்றழைக்கப்பட்டது. அவ்வரசுகள் மீது 'தலையாய அதிகாரம்' செலுத்துபவராக ஆங்கிலேயர் இருந்தனர். படையெடுப்புகளிலிருந்து சுதேச அரசுகளை காப்பதும், உள்நாட்டு அமைதியை நிலைநாட்டுவதும் ஆங்கிலேயரின் கடமை என்ற நிலை உருவானது.

துணைப்படைத் திட்டத்தின் முக்கிய அம்சங்கள்

- இத்திட்டத்தில் இணையும் இந்திய அரசர் தன்னுடைய படையை கலைத்துவிட்டு ஆங்கிலேயரின் படையை ஏற்றுக் கொள்ள வேண்டும்.
- சுதேச அரசின் தலைமையகத்தில் ஆங்கிலேயரின் பிரதிநிதி ஒருவர் இருப்பார்.
- ஆங்கிலேயரின் படையை பராமரிக்கவும், படை வீரர்களின் ஆண்டுச் சம்பளம் வழங்குவதற்காகவும், நிரந்தரமாக சில பகுதிகளை அந்நாட்டு அரசர் ஆங்கிலேயருக்கு வழங்க வேண்டும்.
- ஆங்கிலேயரைத் தவிர மற்ற ஐரோப்பிய அலுவலர்கள் அனைவரும் அந்நாட்டை விட்டு வெளியேற வேண்டும்.
- சுதேச நாட்டு அரசர் ஆங்கில கிழக்கிந்திய கம்பெனியின் அனுமதி பெற்ற பின்னரே அயல் நாடுகளுடன் ஒப்பந்தம் செய்து கொள்ள வேண்டும்.
- அந்நிய அரசுகளின் தாக்குதல் மற்றும் உள்நாட்டு கலவரம் நடைபெறும்போது ஆங்கில கிழக்கிந்திய கம்பெனி அந்நாட்டை பாதுகாக்கும்.

ஆங்கிலேயருக்கு கிடைத்த நன்மைகள்

- ஆங்கில கிழக்கிந்திய கம்பெனி, இந்திய சுதேச அரசர்களின் செலவிலேயே தன்னுடைய படையை பராமரித்தது.
- சுதேச அரசர்களிடம் பணியில் இருந்த அனைத்து பிரெஞ்சுக்காரர்களும் நீக்கப்பட்டனர். பிரெஞ்சுக்காரர்கள் இந்தியாவில் மீண்டும் எழுச்சி பெறும் அபாயம் முற்றிலும் நீங்கியது.
- கம்பெனி, சுதேச அரசுகளின் வெளியுறவுக் கொள்கையினை தன் கட்டுப்பாட்டில் வைத்திருந்தது.
- வெல்லெஸ்லி பிரபுவின் இந்த இராஜதந்திர முயற்சி ஆங்கிலேயரை இந்தியாவில் தலையாய சக்தியாக மாற்றியது. இவர் 'இந்தியாவில் ஆங்கிலேய பேரரசு' என்பதை 'இந்தியாவின் ஆங்கிலேய பேரரசு' என்று மாற்றினார்.

சுதேச அரசுகளுக்கு ஏற்பட்ட இழப்புகள்

- துணைப்படைத் திட்டம் இந்திய சுதேச அரசர்களை பலவீனமானவர்களாகவும், பொறுப்பற்றவர்களாகவும் மாற்றியது.
- பிரிட்டிஷ் கம்பெனியால் பாதுகாக்கப்பட்ட அரசர்கள் தங்கள் குடிமக்களுக்கு ஆற்ற

2_History_Unit-2 Folder.indd 24 02-01-2023 14:30:41

வேண்டிய கடமைகளை மறந்து, அவர்களை சுரண்டினர்.

துணைப்படைத் திட்டத்தை ஏற்றுக் கொண்ட முதல் சுதேச அரசு ஹைதராபாத் (1798). அதனை தொடர்ந்து ஏற்றுக்கொண்ட இந்தியா அரசுகள் தஞ்சாவூர் (1799), அயோத்தி (1801), பேஷ்வா (1802), போன்ஸ்லே (1803), குவாலியர் (1804), இந்தூர் (1817), ஜெய்பூர், உதய்பூர் மற்றும் ஜோத்பூர் (1818)

வாரிசு இழப்புக் கொள்கை (1848)

டல்ஹௌசி பிரபு இந்தியாவில் ஆங்கிலேயரின் ஆதிக்கத்தை உயர்த்துவதில் முதன்மை சிற்பியாக இருந்தார். அவர் ஓர் ஏகாதிபத்தியவாதி ஆவார். ஆங்கிலேய பேரரசை விரிவுபடுத்துவதற்காக அவர் வாரிசு இழப்புக் கொள்கை என்ற புதிய கொள்கையை கொண்டு வந்தார். 1848ஆம் ஆண்டு அவர் அறிவித்த இக்கொள்கையின் படி, சுதேச மன்னர்கள் ஆங்கிலேயரின் அனுமதி இன்றி வாரிசுகளை தத்தெடுக்க நேரிடும் போது, மன்னரின் சொத்துக்கள் தத்தெடுத்த பிள்ளைக்கும், மன்னரின் ஆட்சிப்பகுதி ஆங்கிலேயரின் தலையாய சக்திக்கும் செல்ல நேரிடும் எனப்பட்டது. இக்கொள்கையினை இந்தியர்கள் கடுமையாக எதிர்த்தனர். 1857ஆம் ஆண்டு பெரும் புரட்சிக்கு இக்கொள்கை முக்கிய காரணமாக அமைந்தது.

வாரிசு இழப்புக் கொள்கையின் மூலம் டல்ஹௌசி பிரபு இணைத்துக் கொண்ட பகுதிகள் : சதாரா (1848), ஜெய்த்பூர், சம்பல்பூர் (1849), பகத் (1850), உதய்பூர் (1852), ஜான்சி (1853) மற்றும் நாக்பூர் (1854)

ஆங்கிலேயர்கள் வெற்றி பெற்றதற்கான காரணங்கள்

- மிகப்பெரிய கடல் வலிமை.
- நெசவுத் தொழில் வளர்ச்சி.
- அறிவியல் ரீதியாக பிரிக்கப்பட்ட தொழிலாளர்கள்.
- பொருளாதார வளர்ச்சி மற்றும் ஆங்கிலேயரின் திறமைமிக்க இராஜதந்திரம்.
- இந்திய வணிகர்களிடையே நிலவிய பாதுகாப்பின்மை உணர்வுகள்.
- இந்திய அரசர்களின் சமத்துவமின்மை மற்றும் அறியாமை

முடிவுரை

பிளாசிப் போர் இந்தியாவில் ஆங்கிலேய ஆட்சிக்கு அடித்தளம் அமைத்தது. ஆங்கில கிழக்கிந்திய கம்பெனியின் நிர்வாகம் மக்களின் நலனில் அக்கறை செலுத்தவில்லை. இது ஏகாதிபத்திய, விரிவாக்க, மற்றும் சுரண்டல் கொள்கையை கொண்டிருந்தது . இக்கம்பெனி துணைப்படைத் திட்டத்தின் மூலமும், வாரிசு இழப்புக் கொள்கை மூலமும் இந்தியாவின் பெரும்பான்மையான பகுதிகளை ஆங்கிலேய ஆதிக்கத்தின் கீழ் கொண்டு வந்தது. இக்கொள்கைகள் 1800–01ஆம் ஆண்டு தென்னிந்திய கலகத்திற்கும், 1806ஆம் ஆண்டு வேலூர் கலகத்திற்கும், 1857ஆம் ஆண்டு பெரும்புரட்சிக்கும் இட்டுச் சென்றது.

மீள்பார்வை

- சிராஜ்–உத்–தௌலா வங்காளத்தின் அரியணை ஏறினார்.
- அலிநகர் உடன்படிக்கை 1757 பிப்ரவரி 9 ஆம் நாள் கையெழுத்திடப்பட்டது.
- கர்நாடகப் போர்கள் 1746 முதல் 1763 வரையிலான காலத்தில் நடைபெற்றது.
- திப்பு சுல்தான் போர் இழப்பீட்டுத் தொகையாக 3.6 கோடி ரூபாயினை ஆங்கிலேயருக்கு வழங்க உடன்பட்டார்.
- 1799ஆம் ஆண்டு திப்பு சுல்தானுக்கு எதிராக வெல்லெஸ்லி பிரபு போர் அறிவித்தார்.
- காரன்வாலிஸ் பிரபு, 'தரோகா' என்பவரை தலைவராகக் கொண்ட சரகங்கள் அல்லது 'தானாக்கள்' என்ற காவல் பகுதிகளை ஏற்படுத்தினார்.
- வங்காளத்தின் வில்லியம் கோட்டை உச்சநீதிமன்றத்தின் முதல் தலைமை நீதிபதி சர் எலிஜா இம்பே ஆவார்.
- வெல்லெஸ்லி பிரபு துணைப்படைத் திட்டத்தின் மூலம் இந்தியாவில் இருந்த பெரும்பான்மையான சுதேச அரசுகளை ஆங்கிலேயரின் கட்டுப்பாட்டில் கொண்டு வந்தார்.
- டல்ஹௌசி பிரபு இந்தியாவில் ஆங்கிலேய ஆட்சி ஏற்பட காரணமானவர்களில் முதன்மை சிற்பியாக செயல்பட்டார்.

2_History_Unit-2 Folder.indd 25 02-01-2023 14:30:41

கலைச்சொற்கள்		
கூட்டமைப்பு	Confederacy	A league or alliance
திருச்சபை தொடர்பான	Ecclesiastical	Relating to the christian church or its clergy
ஒப்படைப்பு	Entrust	Assign the responsibility
எதிர்ப்பு	Hostility	Opposition
பேச்சுவார்த்தை	Negotiation	Discussion aimed at reaching an agreement
தலையாய	Paramount	Supreme
மிகுந்த வலிமை	Predominant	The most powerful

மதிப்பீடு

I சரியான விடையைத் தேர்ந்தெடுக்கவும்

C1K3G

1. 1757ஆம் ஆண்டில் வங்காளத்தை ஆட்சி செய்தவர்
   அ) சுஜா–உத்– தௌலா
   ஆ) சிராஜ்– உத் – தௌலா
   இ) மீர்காசிம்
   ஈ) திப்பு சுல்தான்
2. பிளாசிப் போர் நடைபெற்ற ஆண்டு
   அ) 1757 ஆ) 1764 இ) 1765 ஈ) 1775
3. பக்சார் போரின் முடிவில் ஏற்பட்ட உடன்படிக்கை
   அ) அலகாபாத் உடன்படிக்கை
   ஆ) கர்நாடக உடன்படிக்கை
   இ) அலிநகர் உடன்படிக்கை
   ஈ) பாரிசு உடன்படிக்கை
4. பாண்டிச்சேரி உடன்படிக்கையின்படி __________ கர்நாடக போர் முடிவுக்கு கொண்டுவரப்பட்டது.
   அ) முதல் ஆ) இரண்டாம்
   இ) மூன்றாம் ஈ) ஏதுமில்லை
5. ஹைதர் அலி மைசூர் அரியணை ஏறிய ஆண்டு __________
   அ) 1756 ஆ) 1761 இ) 1763 ஈ) 1764
6. மங்களூர் உடன்படிக்கை இவர்களுக்கு இடையே கையெழுத்தானது
   அ) பிரெஞ்சுக்காரர்கள் மற்றும் திப்பு சுல்தான்
   ஆ) ஹைதர் அலி மற்றும் கள்ளிக்கோட்டை மன்னர் சாமரின்
   இ) ஆங்கிலேயர் மற்றும் திப்பு சுல்தான்
   ஈ) திப்பு சுல்தான் மற்றும் மராத்தியர்கள்
7. மூன்றாம் ஆங்கிலேய – மைசூர் போரின் போது ஆங்கிலேய தலைமை ஆளுநர்______
   அ) இராபர் கிளைவ்
   ஆ) வாரன் ஹேஸ்டிங்ஸ்
   இ) காரன்வாலிஸ்
   ஈ) வெல்லெஸ்லி
8. ஆங்கிலேயருடன் பசீன் உடன்படிக்கை செய்து கொண்டவர் __________
   அ) இரண்டாம் பாஜிராவ்
   ஆ) தௌலத்ராவ் சிந்தியா
   இ) ஷாம்பாஜி போன்ஸ்லே
   ஈ) ஷாயாஜி ராவ் கெய்க்வாட்
9. மராத்திய பேரரசின் கடைசி பீஷ்வா______
   அ) பாலாஜி விஸ்வநாத்
   ஆ) இரண்டாம் பாஜிராவ்
   இ) பாலாஜி பாஜிராவ்
   ஈ) பாஜிராவ்
10. துணைப்படைத் திட்டத்தில் இணைத்துக் கொண்ட முதல் இந்திய சுதேச அரசு எது?
   அ) அயோத்தி ஆ) ஹைதராபாத்
   இ) உதய்பூர் ஈ) குவாலியர்

II கோடிட்ட இடங்களை நிரப்புக

1. அலிநகர் உடன்படிக்கை கையெழுத்திடப்பட்ட ஆண்டு ________
2. சிராஜ் உத் – தௌலாவின் தலைமை படைத் தளபதி ________
3. இரண்டாம் கர்நாடகப் போருக்கான முக்கிய காரணம் ________
4. இந்தியாவில் பிரிட்டிஷ் சாம்ராஜ்யத்தை விரிவுப்படுத்துவதற்காக வாரிசு இழப்புக் கொள்கையை கொண்டு வந்தவர் ________
5. திப்பு சுல்தானை இறுதியாக தோற்கடித்தவர் ________
6. திப்பு சுல்தான் இறப்புக்கு பின் ________ வசம் மைசூர் ஒப்படைக்கப்பட்டது.
7. 1800ஆம் ஆண்டு கல்கத்தாவில் உள்ள வில்லியம் கோட்டையில் ஒரு கல்லூரியை நிறுவியவர் ________

III பொருத்துக

1	அய் – லா – சப்பேல் உடன்படிக்கை	முதல் ஆங்கிலேய மைசூர் போர்
2	சால்பை உடன்படிக்கை	முதல் கர்நாடகப் போர்
3	பாரிஸ் உடன்படிக்கை	மூன்றாம் கர்நாடகப் போர்
4	ஸ்ரீரங்கபட்டின உடன்படிக்கை	முதல் மராத்திய போர்
5	மதராஸ் உடன்படிக்கை	மூன்றாம் ஆங்கிலேய மைசூர் போர்

IV சரியா / தவறா எனக் குறிப்பிடுக

1. அலிவர்திகான் மறைவுக்கு பின்னர் சிராஜ்– உத் – தௌலா வங்காளத்தின் அரியணை ஏறினார்
2. பிளாசிப் போரில் ஆங்கிலேயப் படையை வழி நடத்தியவர் ஹெக்டர் மன்றோ ஆவார்.
3. ஐரோப்பாவில் வெடித்த ஆஸ்திரிய வாரிசுரிமைப் போர் இரண்டாம் கர்நாடகப் போருக்கு இட்டுச் சென்றது.
4. வங்காளத்தின் வில்லியம் கோட்டையில் உள்ள உச்ச நீதிமன்றத்தின் முதல் தலைமை நீதிபதி சர் எலிஜா இம்பே ஆவார்.
5. காரன் வாலிஸ் பிரபு காவல் துறையை உருவாக்கினார்.

V கீழ்க்கண்டவைகளுள் சரியாக பொருந்தியுள்ளது எது?

1. அடையாறு போர் – 1748
2. ஆம்பூர் போர் – 1754
3. வந்தவாசிப் போர் – 1760
4. ஆற்காட்டுப் போர் – 1749

VI பின்வரும் வினாக்களுக்கு ஓரிரு வாக்கியங்களில் விடையளி

1. இருட்டறை துயரச் சம்பவம் பற்றி குறிப்பு வரைக.
2. பிளாசிப் போருக்குபின் ஆங்கிலேயர்கள் பெற்ற சலுகைகள் யாவை?
3. பக்சார் போருக்கான காரணங்களை குறிப்பிடுக
4. முதல் ஆங்கிலேய மைசூர் போருக்கான காரணங்கள் யாவை?
5. மூன்றாம் மராத்திய போரின் விளைவுகள் யாவை?
6. துணைப்படைத் திட்டத்தில் கையெழுத்திட்ட நாடுகளின் பெயர்களை குறிப்பிடுக

VII விரிவான விடையளி

1. இரண்டாம் கர்நாடக போர் குறித்து ஒரு கட்டுரை எழுதுக
2. நான்காம் ஆங்கிலேய மைசூர் போர் பற்றி எழுதுக
3. பிரிட்டிஷ் ஆட்சியை விரிவுபடுத்த டல்ஹௌசி பிரபு கொண்டு வந்த கொள்கையை பற்றி விவரி?
4. வெல்லெஸ்லி பிரபு எவ்வாறு ஆங்கிலேய ஆதிக்கத்தை இந்தியாவில் விரிவுபடுத்தினார்?

VIII உயர் சிந்தனை வினா

1. இந்தியாவில் ஆங்கில கிழக்கிந்திய கம்பெனியின் வெற்றிக்கான காரணங்களை விளக்குக

IX வரைபட பயிற்சி

1. இந்திய–நதிகள் வரைபடத்தில் கீழ்க்கண்ட இடங்களை குறிப்பிடுக.
   1. பிளாசி 2. பக்சார் 3. புரந்தர்
   4. ஆற்காடு 5. வந்தவாசி

X வாழ்க்கை திறன் பயிற்சி

1. ஹைதர் அலி மற்றும் திப்பு சுல்தான் ஆகியோரின் புகைப்படங்கள், கதைகள், கவிதைகள் மற்றும் தகவல்களை தொகுத்தல்.

XI செயல்திட்டம் மற்றும் செயல்பாடு

1. ஆங்கிலேயர்களால் இந்திய அரசர்கள் தோற்கடிக்கப்பட்டதற்கான காரணங்களை விவாதம் செய்க.

மேற்கோள் நூல்கள்

1. Bipan Chandra - *History of Modern India*, Orient Blackswan Private Limited 2018
2. R.C.Majumdar - *An Advance History of India*, Macmillan and Co., Limited London 1953.
3. Vincent .A.Smith - *The Oxford History of India- From the Earliest Times to the end of 1911 – 1919* – Oxford At The Clarendon press.

இணையதள வளங்கள்

- https://www.britannica.com
- https://www.ducksters.com/
- https://en.wikipedia.org/wiki/Indian_Civil_Service_(British_India)

இணையச் செயல்பாடு

வர்த்தகத்திலிருந்து பேரரசு வரை

இச்செயல்பாட்டின் மூலம் இந்தியாவின் காலனித்துவக் கால வரைபடங்களை அறியச் செய்தல்.

படிநிலைகள்

படி 1 : கீழ்க்காணும் உரலி/விரைவுக் குறியீட்டைப் பயன்படுத்தி இச்செயல்பாட்டிற்கான இணையப் பக்கத்திற்குச் செல்க.

படி 2 : சுட்டியைக் கீழ் நோக்கி உருட்டி, ஏதேனும் ஒரு காலத்தைச் சொடுக்குக. (ex. COLONIAL MAPS)

படி 3 : ஒவ்வொரு தலைப்பாகச் சொடுக்கி வரைபடங்களை நன்கு அறிந்து கொள்க. (ex. Historical maps, c.1750 to 1800)

உரலி:

http://ektara.org/magazine/histmaps.html

I6X53

2_History_Unit-2 Folder.indd 28 02-01-2023 14:30:42

அலகு – 3

கிராம சமூகமும் வாழ்க்கை முறையும்

கற்றலின் நோக்கங்கள்

NVO2R

- ஆங்கில ஆட்சியின் கீழ் இருந்த நிலவருவாய் கொள்கை
- நிலவருவாய் கொள்கையின் நிறை, குறைகள்
- விவசாயிகளின் நெருக்கடிகள் மற்றும் கிளர்ச்சிகள்

அறிமுகம்

காலனி ஆதிக்கத்திற்கு முன் இந்தியப் பொருளாதாரமானது, வேளாண்மையை அடிப்படையாகக் கொண்ட பொருளாதாரமாக இருந்தது. இக்காலத்தில் வேளாண்மை மக்களின் முதல்நிலைத் தொழிலாக இருந்தது. நெசவுத்தொழில், சர்க்கரை தொழில், எண்ணெய் தொழில் இன்னும் பிற தொழில்கள் வேளாண்மையைச் சார்ந்தே நடைபெற்றன. ஆங்கில அரசானது இந்தியாவின் பழமையான வேளாண்மை முறையையும் மற்றும் நிலவருவாய் கொள்கையையும் ஏற்றுக் கொள்ளவில்லை. நிலையான நில வருவாய் திட்டம், மகல்வாரி திட்டம், இரயத்துவாரி திட்டம் என்னும் மூன்று பெரிய நிலவருவாய் மற்றும் நில உரிமை திட்டத்தை ஆங்கில அரசு இந்தியாவில் அறிமுகப்படுத்தியது. இத்திட்டங்களின் மூலம் விவசாயிகளுக்கெதிரான பொருளாதார சுரண்டல் முறை பிற்காலத்தில் அவர்களை ஆங்கிலேயருக்கு எதிராக புரட்சியில் ஈடுபட வைத்தது.

ஆங்கிலேயர்களின் ஆட்சியின்கீழ் நிலவருவாய் கொள்கை

நிலையான நிலவரி திட்டம்

1765இல் இராபர்ட் கிளைவ் வங்காளம், பீகார் மற்றும் ஒரிசா ஆகிய பகுதிகளில் வரி வசூலிக்கும் உரிமையை பெற்ற பின்பு அங்கு அவர் ஓராண்டு நில வருவாய் திட்டத்தை நடைமுறைப்படுத்தினார். அதன் பிறகு வாரன் ஹேஸ்டிங்ஸ் தலைமை ஆளுநராக பதவியேற்ற பின்பு ஓராண்டு நிலவருவாய் திட்டத்தை ஐந்தாண்டு நில வருவாய் திட்டமாக மாற்றி பின்பு ஓராண்டு திட்டமாக மாற்றினார். ஆனால் காரன்வாலிஸ் பிரபு தலைமை ஆளுநரான பிறகு இத்திட்டத்தை பத்தாண்டு நில வருவாய் திட்டமாக 1793இல் மாற்றினார். இத்திட்டம் நிலையான நிலவருவாய் திட்டம் என்றழைக்கப்படுகிறது.

காரன்வாலிஸ் பிரபு

ஆங்கில ஆட்சியின் கீழ் நிலவருவாய் திட்டங்கள்
- நிலையான நில வருவாய் திட்டம் → காரன்வாலிஸ் பிரபு
- இரயத்வாரி முறை → தாமஸ் மன்றோ
- மகல்வாரி முறை → வில்லியம் பெண்டிங் பிரபு

3_History_Unit-3 Folder.indd 29 03/04/2023 13:29:55

இத்திட்டம் வங்காளம், பீகார், ஒரிசா, உத்திர பிரதேசத்தில் வாரணாசி பகுதி மற்றும் வடக்கு கர்நாடகம் ஆகிய பகுதிகளில் கொண்டுவரப்பட்டது. ஆங்கில இந்தியாவின் மொத்த நிலப்பரப்பில் 19% நிலப்பரப்பில் நடைமுறைப் படுத்தப்பட்டிருந்த இத்திட்டம் ஜமீன்தாரி, ஜாகீர்தாரி, மல்குஜாரி மற்றும் பிஸ்வேதாரி என்னும் பல பெயர்களால் அழைக்கப்பட்டது.

நிலையான நிலவரி திட்டத்தின் சிறப்பு கூறுகள்

- ஆங்கில கிழக்கிந்திய கம்பெனிக்கு முறையாக வரி செலுத்தும் வரை ஜமீன்தார்கள் நில உடைமையாளர்களாக அங்கீகரிக்கப்பட்டனர்.
- விவசாயிகளிடமிருந்து வரியை வசூல் செய்யும் அரசின் முகவர்களாக ஜமீன்தார்கள் செயல்பட்டனர்.
- ஜமீன்தார்கள் வணிகக்குழுவிற்கு செலுத்தி வந்த வரி நிலையாக நிர்ணயிக்கப்பட்டு, எந்த சூழ்நிலையிலும் உயர்த்தபடமாட்டாது என உறுதியளிக்கப்பட்டது.
- விவசாயிகளிடமிருந்து வசூலித்த 10/11 பங்கு வரியினை ஜமீன்தார்கள் ஆங்கில அரசுக்கு செலுத்தினர்.
- ஜமீன்தார்கள், விவசாயிகளுக்கு பட்டா (எழுதப்பட்ட ஒப்பந்தம்) வழங்கினர். இதன் மூலம் விவசாயிகள் அந்நிலத்தை உழும் காலம் வரை குத்தகைதாரர்களாக கருதப்பட்டனர்.
- அனைத்து நீதித்துறை அதிகாரங்களும் ஜமீன்தார்களிடமிருந்து திரும்ப பெறப்பட்டது.

நிறைகள்

- தரிசு நிலங்கள் மற்றும் காடுகள் விவசாய நிலங்களாக மாற்றப்பட்டன.
- ஜமீன்தார்கள் நிலத்தின் உரிமையாளராயினர்.
- நீதி வழங்கும் பொறுப்பிலிருந்து ஜமீன்தார்கள் விடுவிக்கப்பட்டனர்.
- ஜமீன்தார்கள் ஆங்கில அரசுக்கு நம்பிக்கைக்குரியவர்களாக மாறினர்.
- ஆங்கில அரசுக்கு நிலையான வருவாயை கிடைப்பதை உறுதி செய்தது.

குறைகள்

- ஆங்கிலேய அரசு விவசாயிகளுடன் நேரடியாக தொடர்பு கொள்ளவில்லை.
- விவசாயிகளின் உரிமைகள் மறுக்கப்பட்டதோடு, ஜமீன்தார்களின் பொறுப்பில் விடப்பட்டனர்.
- விவசாயிகள் பெரும்பாலும் அடிமைகளாகவே நடத்தப்பட்டனர்.
- இந்த திட்டத்தினால் ஜமீன்தார்கள் சோம்பேறிகளாகவும், ஆடம்பரப் பிரியர்களாகவும் மாறினர்.
- வங்காளத்தின் பல கிராமப்புறங்களில் ஜமீன்தார்களுக்கும், விவசாயிகளுக்குமிடையே பல மோதல்கள் ஏற்பட்டன.

இரயத்துவாரி முறை

இரயத்துவாரி முறை 1820இல் தாமஸ்மன்றோ மற்றும் கேப்டன் ரீட் என்பவர்களால் அறிமுகப்படுத்தப்பட்டது. இம்முறை மதராஸ், பம்பாய், அசாம் பகுதிகள் மற்றும் கூர்க் ஆகிய இந்திய மாகாணங்களில் கொண்டுவரப்பட்டது. இம்முறையின் மூலம் நிலத்தின் உரிமையானது விவசாயிகளின் வசம் ஒப்படைக்கப்பட்டது. இதனால் விவசாயிகள் நிலத்தின் உரிமையாளராயினர். ஆங்கிலேய அரசு நேரடியாகவே விவசாயிகளிடமிருந்து வரிவசூலைப் பெற்றது. தொடக்கத்தில் நிலவருவாயனது விளைச்சலில் பாதி என நிர்ணயிக்கப்பட்டது. பின்னர் இது தாமஸ் மன்றோ அவர்களால் விளைச்சலில் மூன்றில் ஒரு பங்காக குறைக்கப்பட்டது. இம்முறையில் நில வருவாயானது மண் மற்றும் பயிரின் தன்மையின் அடிப்படையில் தீர்மானிக்கப்பட்டது.

தாமஸ் மன்றோ

பொதுவாக 20 அல்லது 30 ஆண்டுகளுக்கு ஒருமுறை நிலத்தின் மீதான குத்தகை மாற்றியமைக்கப்பட்டது. இத்திட்டத்தில் விவசாயிகளின் நிலைமை மிகவும் பாதுகாப்பானதாக இருந்தது. உண்மையில், அரசு விவசாயிகளிடமிருந்து நிலவருவாயை வரியாக அல்லாமல் குத்தகையாகவே பெற்றுக் கொண்டது.

இரயத்துவாரி முறையின் சிறப்பு கூறுகள்

- வருவாய் ஒப்பந்தம் நேரடியாக விவசாயிகளுடன் செய்துகொள்ளப்பட்டது.
- நில அளவு மற்றும் விளைச்சலின் மதிப்பீடு கணக்கிடப்பட்டது.

3_History_Unit-3 Folder.indd 30 03/04/2023 13:29:55

- அரசு, விளைச்சலில் 45 லிருந்து 50 சதவீதம் வரை வரியாக நிர்ணயம் செய்தது.

இரயத்துவாரி முறையால் ஏற்பட்ட விளைவுகள்

- பெரும்பாலான பகுதிகளில் நிலவருவாய் மிக அதிகமாக நிர்ணயிக்கப்பட்டது. சிறப்பான பருவக் காலங்களில் கூட விவசாயிகள் நிலவரி செலுத்துவதற்கு மிகவும் சிரமப்பட்டனர்.
- அரசு, ஜமீன்தார்களுக்குப் பதிலாக விவசாயிகளை சுரண்டியது.

மகல்வாரி முறை

வில்லியம் பெண்டிங் பிரபு

மகல்வாரி முறை, என்பது ஹோல்ட் மெகன்சி என்பவரது சிந்தனையில் உதித்த, ஜமீன்தாரி முறையின் மாற்றியமைக்கப்பட்ட வடிவமே ஆகும். கங்கைச் சமவெளி, வடமேற்கு மாகாணங்கள், மத்திய இந்தியாவின் சில பகுதிகள் மற்றும் பஞ்சாப் போன்ற பகுதிகளில் 1822இல் அறிமுகப்படுத்தப்பட்டது. இராபர்ட் மெர்தின்ஸ் பர்ட் என்பவரின் வழிகாட்டுதலின்படி 1833இல் வில்லியம் பெண்டிங் பிரபு, இம்முறையில் சில அடிப்படை மாற்றங்களை கொண்டு வந்தார். மகல் அல்லது கிராம விளைச்சலின் அடிப்படையில் இம்முறையில் வருவாய் மதிப்பீடு செய்யப்பட்டது. மகல் பகுதியின் அனைத்து உரிமையாளர்களும் நிலவருவாய் செலுத்துவதற்கு கூட்டு பொறுப்புடையவர்களாவர். தொடக்கத்தில், மொத்த விளைச்சலில் மூன்றில் இரண்டு பங்கு நிலவருவாய் அரசின் பங்காக நிர்ணயிக்கப்பட்டது. பின்னர் வில்லியம் பெண்டிங் பிரபு மொத்த விளைச்சலில் நிலவருவாய் 50 சதவீதம் எனக் குறைத்தார். இம்முறையில் நிலவருவாயை கிராமம் முழுவதும் வசூல் செய்து அரசுக்கு செலுத்த ஒரு கிராமத் தலைவர் (Lambardar) நியமிக்கப்பட்டிருந்தார். இந்த முறை முதலில் ஆக்ரா, அயோத்தி போன்ற இடங்களில் அமுல்படுத்தப்பட்டது. பின்னர், ஐக்கிய மாகாணங்களின் பிற பகுதிகளுக்கும் விரிவுபடுத்தப்பட்டது. இத்திட்டத்திலும் அதிகமான வரிச்சுமைகள் அனைத்தும் விவசாயிகள் மீதே விழுந்தது.

மகல்வாரி முறையின் சிறப்பு கூறுகள்

- கிராமத் தலைவர் அரசுக்கும், கிராம மக்களுக்குமிடையே இடைத் தரகராக செயல்பட்டார்.
- இத்திட்டம் கிராமவாரியான மதிப்பீடாக இருந்தது. ஒரே நபர் பல கிராமங்களை தன் வசம் வைத்திருந்தார்.
- கிராம நிலங்களுக்கு, கிராமத்தை சேர்ந்த சமுதாயத்தினரே உரிமையாளராக இருந்தனர்.

மகல்வாரி முறையால் ஏற்பட்ட விளைவுகள்

- கிராமத் தலைவர், சலுகைகளை தமது சொந்த விருப்பங்களின் அடிப்படையில் தவறாகப் பயன்படுத்தினார்.
- இம்முறையானது விவசாயிகளுக்கு இலாபகரமானதாக இல்லை.
- இம்முறையானது ஜமீன்தாரி முறையின் திருத்தியமைக்கப்பட்ட வடிவமாக இருந்தது. மேலும் இது கிராமத்தின் உயர் வகுப்பினருக்கு இலாபகரமானதாக அமைந்தது.

விவசாயிகளின் மீது ஆங்கில நிலவருவாய் முறையின் தாக்கங்கள்

- அனைத்து நிலவரி முறைகளும் பொதுவாக, நிலத்திலிருந்து அதிகபட்ச வருமானம் பெறுவதாகவே இருந்தது. இதனால் நில விற்பனை அதிகரிப்பு மற்றும் விவசாயத் தொழில் அழிவிற்கு வழிவகுத்தது.
- விவசாயிகள் அதிக வரிவிதிப்பினால் பாதிக்கப்பட்டனர். அதிக வரிச்சுமை மற்றும் பஞ்சத்தினால் மக்கள் வறுமையாலும், கடன்சுமையாலும் அவதிப்பட்டனர். இதனால் விவசாயிகள் நிலத்தை விலைக்கு வாங்குவோர் மற்றும் வட்டிக்குப் பணம் தருபவர்களை தேடிச் சென்றனர். அவர்கள் விவசாயிகளிடமிருந்த நிலத்தை விலைக்கு வாங்கி பெரும் செல்வந்தர்களாயினர்.
- ஜமீன்தார்கள், வட்டிக்காரர்கள், வழக்கறிஞர்கள் ஆகியோர்களால் ஏழை விவசாயிகள் சுரண்டப்பட்டனர்.
- இந்திய கிராமங்களுக்கான நிலைப்புத் தன்மையும் தொடர்ச்சியான நிலையும் அசைக்கப்பட்டன.
- ஆங்கிலேய இறக்குமதி பொருட்களால் இந்தியக் குடிசைத் தொழில்கள் மறைந்தன. விவசாயிகள் வருமானத்திற்கு வேறு வழியின்றி தவித்தனர்.

3_History_Unit-3 Folder.indd 31 03/04/2023 13:29:56

- பழமையான பழக்க வழக்கங்கள் மாற்றப்பட்டு புதிய சட்ட அமைப்பு, நீதிமன்ற நடைமுறைகள் வழக்கத்திற்கு வந்தன.
- நிலத்தின் உண்மையான உரிமையாளர்களாகவும், உற்பத்தியின் பெரும் பங்குதாரர்களாகவும் இருந்த விவசாயிகளுடைய உழைப்பின் பலனானது, ஆங்கிலேயரின் கொள்கையால், ஒரு குறிப்பிட்ட சலுகையை பெற்ற சமுதாயத்திற்கு மட்டுமே நன்மையளிப்பதாக இருந்தது.

விவசாயிகளின் புரட்சிகள்

இந்தியாவில் ஆங்கில ஆட்சியானது வேளாண்மை முறையில் பல மாற்றங்களை கொண்டு வந்தது. புதிய வேளாண்மை யுக்திகளால் பழைய வேளாண் முறை மறைந்து போனது. ஜமீன்தார்கள் நில உரிமையாளர்களாக மாறினர். எந்தளவிற்கு முடியுமோ அந்தளவிற்கு, விவசாயிகளின் உழைப்பு ஜமீன்தார்களால் சுரண்டப்பட்டது. மேலும் விவசாயிகளின் வாழ்க்கை முறை மிகவும் துயரமானதாக இருந்தது. தாங்கள் எல்லையில்லா அளவில் சுரண்டப்படுவதை உணர்ந்த விவசாயிகள், இந்த சுரண்டலில் இருந்து பாதுகாத்து கொள்ள 19 மற்றும் 20 ஆம் நூற்றாண்டுகளில், ஆங்கிலேயர்களுக்கும் ஜமீன்தார்களுக்கும் எதிராக பல புரட்சி இயக்கங்களிலும், கலகங்களிலும் ஈடுபட்டனர்.

சந்தால் கலகம் (1855–56)

1855–56இல் விவசாயிகளின் எழுச்சியாகக் கருதப்பட்ட முதலாவது கலகம் சந்தால் கலகமாகும். பீகாரில் உள்ள ராஜ்மகால் குன்றுகளுக்கு அருகிலுள்ள பகுதிகளில் சந்தால் மக்கள் வேளாண்மை செய்து வந்தனர். சந்தால்களின் அறியாமையை சாதகமாக பயன்படுத்திக் கொண்ட, நகர்ப்புற நிலக்கிழார்கள் மற்றும் வட்டிக்குப் பணம் தருவோர் சந்தால்களின் நிலங்களை அபகரித்துக் கொள்ள ஆரம்பித்தனர். இது அவர்களிடையே கசப்பான உணர்வை ஏற்படுத்தி 1855இல் ஆயுதம் ஏந்திய புரட்சிக்கு இட்டுச் சென்றது. இதனைத் தொடர்ந்து, சந்தால்கள் தங்களை அன்னிய நாட்டு ஆக்கிரமிப்பு சக்திகளிலிருந்து விடுவித்து கொள்வது மட்டுமில்லாமல் தங்களுக்கென்று ஒரு அரசாங்கத்தை ஏற்படுத்திக் கொள்ள, சித்து மற்றும் கங்கு என்ற இரண்டு சந்தால் சகோதரர்களின் தலைமையின் கீழ் 10,000 வீரர்கள் ஒன்று கூடினர். இக்கூட்டத்தினரின் புரட்சி ஒரு மாதத்திற்குள் வலிமையான சக்தியினை பெற்றது. ஐரோப்பிய பண்ணையாளர்கள், ஆங்கிலேய அலுவலர்கள், இரயில்வே பொறியாளர்கள், ஜமீன்தார்கள் மற்றும் வட்டிக்குப் பணம் கொடுப்போர் ஆகிய அனைவரும் புரட்சியாளர்களால் தாக்கப்பட்டனர். புரட்சியானது பிப்ரவரி 1856 வரை தொடர்ந்தது. புரட்சியின் தலைவர்கள் கைது செய்யப்பட்டதை தொடர்ந்து, கலகமானது கடுமையாக அடக்கப்பட்டது. இதனைத் தொடர்ந்து சந்தால்கள் வசித்த பகுதிகளை சந்தால் பர்கானா என அரசு அறிவித்தது. அதன்படி சந்தால்களின் நிலங்களும், அடையாளமும் அன்னிய ஆக்ரமிப்பாளர்களிடமிருந்து பாதுகாக்கப்பட்டன.



சந்தால் கலகம்

இண்டிகோ கலகம் (அவுரி புரட்சி, 1859–60)

வங்காள அவுரி சாகுபடியாளர்களின் வேலை நிறுத்தம் அதிகளவில் பரவி தீவிர விவசாய புரட்சியாக மாறியது. ஐரோப்பிய இண்டிகோ தோட்டக்காரர்கள், விவசாயிகளுக்கு மிகவும் தீமை தரும் வகையில் இண்டிகோவை வளர்ப்பதற்கு குத்தகை விவசாயிகளை கட்டாயப்படுத்தினர். மேலும் குத்தகை விவசாயிகள், தாங்கள் விளைவிக்கும் அவுரியை தங்களுக்கு குறைந்த விலைக்கு விற்கும்படியும், குத்தகை முன்பணத்தை பின்னாளில் அவர்களுக்கு பயன்படும் வகையில் முன்கூட்டியே பெற்று கொள்ளும்படியும் வற்புறுத்தப்பட்டனர். மேலும், ஆள் கடத்தல், கொள்ளையடித்தல், கசையடி கொடுத்தல், எரித்தல் போன்ற சம்பவங்களும் நடந்தன. செப்டம்பர் 1859இல் திகம்பர் பிஸ்வாஸ் மற்றும் பிஸ்னு சரண் பிஸ்வாஸ்

3_History_Unit-3 Folder.indd 32 03/04/2023 13:29:56



இண்டிகோ கலகம்

ஆகியோரால் நாதியா மாவட்டத்தில் நடைபெற்ற கலகங்கள் ஐரோப்பிய பண்ணையாளர்களின் கடுமையான அடக்குமுறைகளால் கைவிடப்பட்டன. அதன் பின்னர் ஐரோப்பிய தொழிற்சாலைகள் எரிக்கப்பட்டு, கலகமானது வேறு இடங்களுக்கு பரவியது. நிலைமையை கட்டுக்குள் கொண்டு வர அரசு 1860இல் ஒரு அவுரி ஆணையத்தை அமைத்தது. அந்த ஆணையத்தின் பரிந்துரைப்படி 1862 சட்டம் பாகம் ஆறினை (VI) (Part of the Act of 1862) உருவாக்கியது. ஐரோப்பிய பண்ணையாளர்களின் அடக்கு முறைக்கு பயந்து வங்காளத்தின் அவுரி விவசாயிகள் பீகார் மற்றும் உத்திரப் பிரதேசத்தில் குடியேறினர். இந்து தேசபக்தன் என்ற செய்தித்தாள் சாகுபடியாளர்களின் துயரங்களை பலமுறை வெளிச்சத்திற்கு கொண்டு வந்தது. அதேபோல, தீனபந்து மித்ரா என்பவர், வங்காள அவுரி சாகுபடியாளர்களின் துயரங்களை மக்கள் மற்றும் அரசின் கவனத்திற்குக் கொண்டுவர நீல் தர்பன் (Nil Darpan) என்ற ஒரு நாடகத்தை எழுதினார்.

பாப்னா கலகம் (1873–76)

பாப்னா விவசாய எழுச்சி என்பது விவசாயிகளால் நடத்தப்பட்ட, ஜமீன்தார்களின் அடக்குமுறைக்கு எதிரான இயக்கமாகும். இக்கலகம் வங்காளத்தின் பாப்னாவில் உள்ள யூசுப்சாகி பர்கானாவில் கேசப் சந்திரா ராய் என்பவரால் ஆரம்பிக்கப்பட்டது. ஜமீன்தார்கள், விவசாயிகளிடமிருந்து, சட்டத்திற்கு புறம்பான முறையில், வற்புறுத்தி வரி வசூலித்தல், அதிகப்படியான வாரம் (வரி) வசூலித்தல், மற்ற பிற வரிகளையும் வழக்கமாக வசூல் செய்தனர். விவசாயிகள் வாடகை செலுத்தவில்லை என்ற போலி காரணங்களை கூறி அடிக்கடி நிலத்திலிருந்து வெளியேற்றப்பட்டனர்.

நாளடைவில் ஜமீன்தார்களால் பாதிக்கப்பட்ட விவசாயிகள் பெருங்கூட்டமாகக் கூடி கிராமங்கள் தோறும் சென்று ஜமீன்தார்களின் அச்சுறுத்தல்களை எடுத்துக்கூறி மற்ற விவசாயிகளும் தங்களுடன் இணையும்படி செய்தனர். போராட்ட செலவினங்களை கட்டுப்படுத்த விவசாயிகளிடமிருந்து நிதி திரட்டப்பட்டது. போராட்டம் படிப்படியாக பாப்னா முழுவதும் பரவி, பின்னர் கிழக்கு வங்காளத்தின் மற்ற மாவட்டங்களுக்கும் பரவியது. அப்பகுதி எங்கும் விவசாய சங்கங்கள் அமைக்கப்பட்டன. போராட்டத்தின் முதன்மை நோக்கம் சட்டத்தை எதிர்ப்பதாக இருந்தது.

ஜமீன்தார்கள் விவசாயிகளை கட்டாயப்படுத்திய போது மட்டும் மிகச் சிறிய அளவில் வன்முறை நடைபெற்றது. போராட்டத்தில், ஜமீன்தார்களின் வீடுகளை, கொள்ளையடித்ததாக சில நிகழ்வுகளே இருந்தன. நீதிமன்ற ஆணைகளை காவல் நிலையங்கள் செயற்படுத்த முயன்ற போது அதனை எதிர்த்து விவசாயிகள், ஒரு சில தாக்குதல்களை காவல் நிலையங்கள் மீதும் தொடுத்தனர். ஜமீன்தார்களும் ஜமீன்தார்களின் முகவர்களும் மிகவும் அரிதாகவே கொல்லப்பட்டனர் அல்லது காயப்படுத்தப்பட்டனர். போராட்டத்தின் வாயிலாக விவசாயிகள் சட்ட விழிப்புணர்வு மற்றும் அவர்களது சட்ட உரிமைகளை மேம்படுத்தினர். மக்களை ஒருங்கிணைத்து சங்கங்களை உருவாக்கி அமைதியான முறையில் எதிர்க்கும் ஆற்றலையும், வலிமையையும், விழிப்புணர்வையும் வளர்த்துக் கொண்டனர்.

தக்காண கலகம் (1875)

1875ஆம் ஆண்டு பூனா மாவட்டத்தில் உள்ள விவசாயிகள் ஒரு கலகத்தில் ஈடுபட்டனர். அது தக்காண கலகம் என்றழைக்கப்பட்டது. அப்பகுதி விவசாயிகள், ஆரம்பத்தில் தொடர்ந்து தங்கள் நிலங்களை அபகரித்துக் கொண்டிருந்த உள்ளூர் வட்டிக்காரர்களின் அடக்குமுறையை எதிர்த்துப் புரட்சி செய்தனர். பூனா மாவட்டத்தின் ஒரு கிராமத்தில், ஒரு வட்டிக்காரரின் சொத்துக்களை கைப்பற்றி, அவரை கிராமத்திலிருந்து வெளியேற்றிய பொழுது புரட்சி தொடங்கியது. மேலும் இப்புரட்சி

3_History_Unit-3 Folder.indd 33 03/04/2023 13:29:56

படிப்படியாக 33 கிராமங்களுக்குப் பரவியது. விவசாயிகள் மார்வாரி சகுகாரர்களின் சொத்துகளை கொள்ளையடித்தனர். சகுகாரர்கள், காவலர்களின் உதவியை நாடியபோது போராட்டம் வன்முறையாக மாறியது. இராணுவம் வரவழைக்கப்பட்டு அப்புரட்சி கட்டுப்படுத்தப்பட்டது. இப்புரட்சியின் விளைவாக "தக்காண விவசாயிகள் மீட்பு சட்டம்" நிறைவேற்றப்பட்டு அதன் மூலம் விவசாயிகளின் குறைகள் களையப்பட்டது.

பஞ்சாப் விவசாயிகள் இயக்கம் (1890–1900)

நகர்ப்புற வட்டிக்காரர்களிடம் கடனைப் பெற்று, கடனை திருப்பி செலுத்தத் தவறிய விவசாயிகள், தங்கள் நிலத்தின் மீது வட்டிக்கடைக்காரர்கள் மேற்கொண்ட ஒடுக்கு முறைகளை விரைந்து தடுக்கும் பொருட்டு பஞ்சாப் விவசாயிகள் புரட்சியில் ஈடுபட்டனர். ஆங்கிலேய அரசு இப்பகுதியில் எந்த ஒரு புரட்சி நடைபெறுவதையும் விரும்பவில்லை, ஏனெனில் அப்பகுதியில் இருந்துதான் ஆங்கிலேய இராணுவத்திற்கு வீரர்கள் தேர்வு செய்யப்பட்டனர். பஞ்சாப் விவசாயிகளைப் பாதுகாப்பதற்காக 1900இல் "பஞ்சாப் நில உரிமை மாற்று சட்டம்" நிறைவேற்றப்பட்டு சோதனை முறையில் செயற்படுத்தப்பட்டது. பஞ்சாபில் இச்சட்டம் சிறப்பாக செயல்பட்டதால் இந்தியாவின் மற்ற பகுதிகளுக்கும் விரிவுபடுத்தப்பட்டது. இச்சட்டத்தின் படி, பஞ்சாப் மக்கள் விவசாயிகள், சட்ட அங்கீகாரம் பெற்ற விவசாயிகள், வட்டிக்கடைக்காரர்கள் உட்பட இதர மக்கள் என்று மூன்று வகையாகப் பிரிக்கப்பட்டனர். முதல் பிரிவு மக்களிடமிருந்து மற்ற இரண்டு பிரிவு மக்களுக்கும் நிலத்தை விற்பது மற்றும் அடமானம் வைப்பது மீதான கட்டுப்பாடுகள் விதிக்கப்பட்டன.

சம்பரான் சத்தியாகிரகம் (1917–18)

பீகார் மாநிலத்தில் உள்ள சம்பரான் என்ற இடத்தில் ஐரோப்பிய பண்ணையாளர்கள் சட்டத்திற்குப் புறம்பான மற்றும் மனிதத் தன்மையற்ற முறைகளில், மிகவும் நியாயமற்ற விலைக்கு அவுரி சாகுபடியை செய்தனர். சம்பரான் இந்திய விவசாயிகள் (அவுரி சாகுபடியாளர்கள்), தங்களது மொத்த நிலத்தில் 20இல்3பங்கில்மட்டும்அவுரியைசாகுபடிசெய்து, அதனையும் ஐரோப்பிய தோட்டக்காரர்களுக்கு அவர்கள் நிர்ணயித்த விலைக்கே விற்க சம்பரான் தீன்கதியா என்ற நடைமுறையின் கீழ் பிணைக்கப்பட்டிருந்தார்கள். மேலும் அவர்கள் ஐரோப்பிய பண்ணையாளர்களால் சட்டவிரோத பணம் பறிப்பு, மற்றும் அடக்கு முறை போன்ற நிகழ்வுகளுக்கு ஆளாகினர். இந்த விவசாயிகளின் பிரச்சினையை அறிந்து கொண்ட மகாத்மா காந்தி அவர்களுக்கு உதவ முன்வந்தார். அரசு ஒரு விசாரணைக் குழுவை அமைத்து, மகாத்மா காந்தியை அக்குழுவின் ஓர் உறுப்பினராக சேர்த்துக் கொண்டது. விவசாயிகளின் குறைகள் விசாரிக்கப்பட்டு இறுதியில், மே, 1918இல் "சம்பரான் விவசாயச் சட்டம்" நிறைவேற்றப்பட்டது.

சம்பரான் சத்தியாகிரகம்

கேடா(கைரா) சத்தியாகிரகம் (1918)

1918இல் குஜராத்தின் கேடா மாவட்டத்தில், இடையராத பஞ்சத்தின் காரணமாக விவசாயம் பொய்த்தது. ஆனால் நிலவரி முழுவதையும் செலுத்த விவசாயிகளை அரசு அறிவுறுத்தியது. இதன் விளைவாக கேடா மாவட்டத்தில் உள்ளூர் விவசாயிகள் வரிகொடா இயக்கத்தை தொடங்கினர். அவ்வியக்கத்திற்கு காந்தியடிகள் தலைமை ஏற்றார்.

பஞ்சத்தின் நிலைகளை அரசுக்கு எடுத்துக்கூறி முழு பலத்துடன் சத்தியாகிரக முறையில் போராடும்படி காந்திஜி விவசாயிகளை ஆயத்தப்படுத்தினார். மேலும், விவசாயிகள் அச்சமின்றி எல்லா எதிர்ப்புகளையும் சந்திக்க ஊக்கமளித்தார். அவரது அழைப்புக்கு, முன்னெப்போதும் இல்லாத அளவிற்கு விவசாயிகளின் ஆதரவு இருந்தது. மற்றும் அரசாங்கம் விவசாயிகளுடன் ஒரு தீர்வுக்கு வரவேண்டியிருந்தது. இக்காலக் கட்டத்தில் சர்தார் வல்லபாய் பட்டேல் இந்திய சுதந்திரப் போராட்டத்தின் ஒரு முக்கியமான தலைவராக உருவானார்.

3_History_Unit-3 Folder.indd 34 03/04/2023 13:29:56

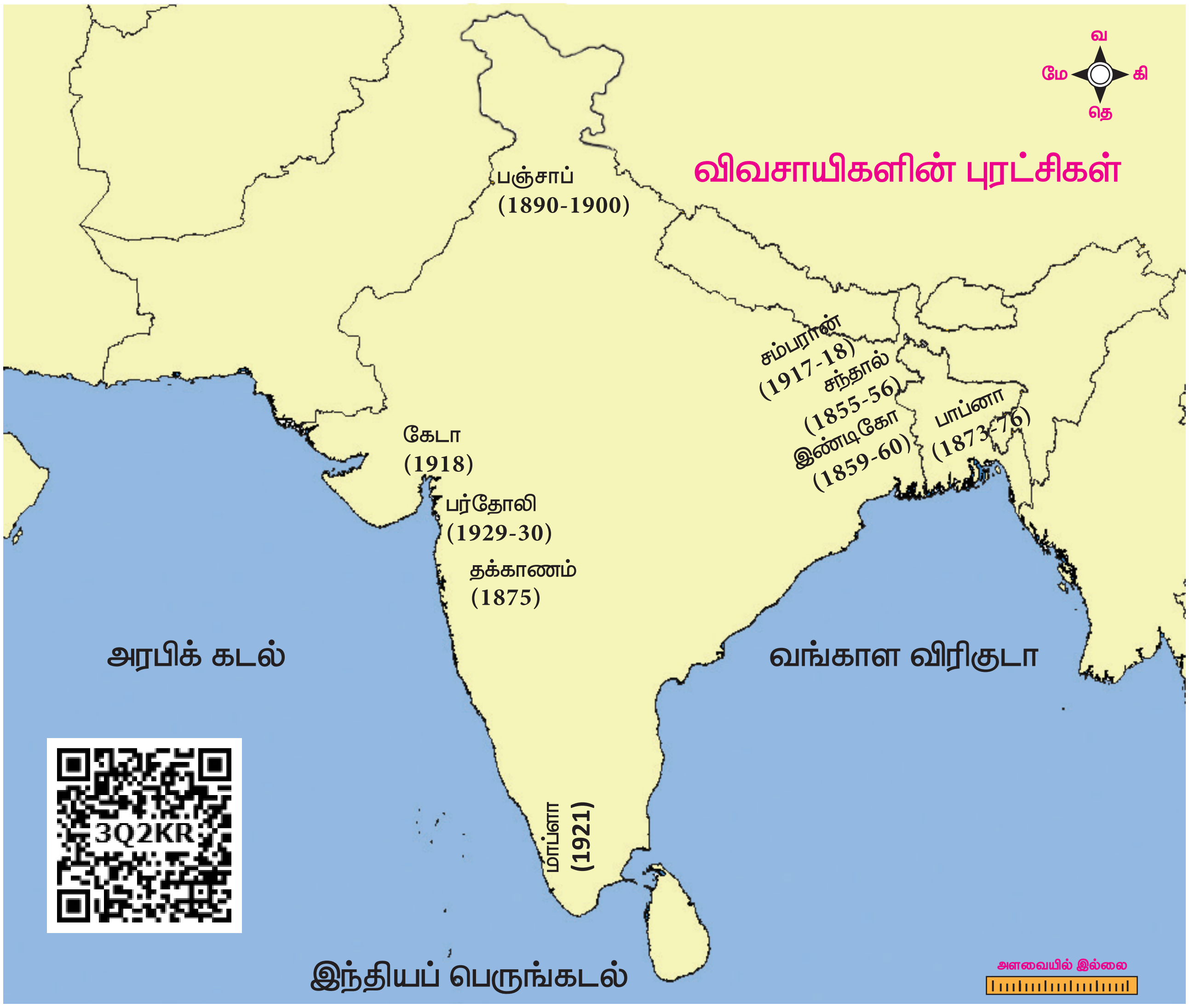

மாப்ளா கிளர்ச்சி (1921)

மாப்ளா என்று அழைக்கப்பட்ட முஸ்லீம் விவசாயிகள் (கேரளா), இந்து ஜமீன்தார்கள் (ஜென்மிஸ்) மற்றும் ஆங்கில அரசால் அடக்கப்பட்டு, சுரண்டப்பட்டனர். இதுவே இப்புரட்சிக்கு முதன்மை காரணமாக இருந்தது.

ஏப்ரல் 1920இல் நடைபெற்ற மலபார் மாவட்ட மாநாட்டின் மூலம் மாப்ளா விவசாயிகள் உத்வேகம் அடைந்தனர். அம்மாநாடு குத்தகைதாரர்களுக்கு ஆதரவளித்து, நிலக்கிழார் – குத்தகைதாரர் இடையில் உள்ள உறவினை ஒழுங்குப்படுத்த சட்டம் இயற்ற கோரியது. ஆகஸ்ட் 1921இல் மாப்ளா விவசாயிகள், ஜமீன்தார்களின் அடக்குமுறைக்கு எதிராக கிளர்ச்சியில் ஈடுபட்டனர். கிளர்ச்சியின் ஆரம்பத்தில் மாப்ளா விவசாயிகள் காவல் நிலையங்கள், பொது அலுவலகங்கள், செய்தி தொடர்பு சாதனங்கள், அடக்கு முறையில் ஈடுபட்ட நிலக்கிழாரின் வீடுகள், வட்டிக்கடைக்காரர்கள் உட்பட அனைவரையும் தாக்கினர். ஆனால் 1921 டிசம்பர் வாக்கில் அரசு இரக்கமின்றி மாப்ளா கிளர்ச்சியை அடக்கியது. அரசின் அதிகாரப்பூர்வ மதிப்பீட்டின்படி, அரசு தலையீட்டின் விளைவாக 2337 மாப்ளா கிளர்ச்சியாளர்கள் கொல்லப்பட்டனர். 1650 பேர் காயமடைந்தனர் மற்றும் 45,000க்கும் மேற்பட்டோர் சிறைபிடிக்கப்பட்டனர்.

மாப்ளா கைதிகள்

3_History_Unit-3 Folder.indd 35
03/04/2023 13:29:56

பர்தோலி சத்தியாகிரகம் (1929–30)

1928இல் 30 சதவீதம் அளவிற்கு அரசு நிலவருவாயை உயர்த்தியது அதனால், பர்தோலி (குஜராத்) விவசாயிகள் சர்தார் வல்லபாய் பட்டேல் தலைமையில் தங்களது எதிர்ப்பினை தெரிவித்தனர். மேலும் விவசாயிகள், உயர்த்தப்பட்ட நிலவரியை செலுத்த மறுப்பு தெரிவித்து பிப்ரவரி 12, 1928இல் வரிகொடா இயக்கத்தைத் தொடங்கினர். இதில் பல பெண்களும் கலந்து கொண்டனர்.

1930இல் பர்தோலியில் வரி செலுத்த மறுப்பு தெரிவித்த விவசாயிகள் தங்கள் நிலங்களை குறைந்த ஏலத்தில் விற்று இழப்பதற்கு தயாராக இருந்தாலும், நிலத்தை அரசுக்குத் தர மறுத்துவிட்டனர். ஆனாலும் அரசு அவர்கள் நிலத்தை கையகப்படுத்தி செய்து ஏலத்தில் விற்றது. இருப்பினும், 1937இல் காங்கிரஸ் ஆட்சிக்கு வந்தபொழுது விவசாயிகளின் நிலம் அனைத்தும் அவர்களுக்கே திருப்பி தரப்பட்டது.

பர்தோலி சத்தியாகிரகம்

மீள்பார்வை

- ஆங்கில அரசானது இந்தியாவின் பழமையான வேளாண்மை முறையையும் மற்றும் நிலவருவாய் கொள்கையையும் ஏற்றுக் கொள்ளவில்லை.
- காரன்வாலிஸ் பிரபு 1793இல் நிலையான நிலவரி திட்டத்தை அறிமுகப்படுத்தினார்.
- மகல்வாரி முறை, என்பது ஹோல்ட் மெகன்சி என்பவரது சிந்தனையில் உதித்த, ஜமீன்தாரி முறையின் மாற்றியமைக்கப்பட்ட வடிவமே ஆகும்.
- ராஜ்மகால் குன்றுகளுக்கு அருகிலிருந்த நிலங்கள் சந்தால்களால் பயிரிடப்பட்டன.
- தீனபந்து மித்ரா என்பவர் நீல்தர்பன் என்ற ஒரு நாடகத்தை வங்க மொழியில் எழுதினார்.
- பூனா மாவட்டத்தில் உள்ள விவசாயிகள் 1875ஆம் ஆண்டு ஒரு கலகத்தில் ஈடுபட்டனர். அது தக்காண கலகம் என்றழைக்கப்பட்டது .
- பஞ்சாப் விவசாயிகளைப் பாதுகாப்பதற்காக 1900இல் "பஞ்சாப் நில உரிமை மாற்று சட்டம்" நிறைவேற்றப்பட்டது.
- ஆகஸ்ட் 1921இல் மாப்ளா விவசாயிகள், ஜமீன்தார்களின் அடக்குமுறைக்கு எதிராக கிளர்ச்சியில் ஈடுபட்டனர்.
- பர்தோலி (குஜராத்) விவசாயிகள் சர்தார் வல்லபாய் பட்டேல் தலைமையில் தங்களது எதிர்ப்பினை தெரிவித்தனர்.

கலைச்சொற்கள்

புதிய அமைப்பு	Apparatus	New system
உரிமை கோருபவர்	Claimants	A person making a claim
விவசாயி	Cultivator	A person who cultivates the land
அத்துமீறல்	Encroachment	Intrusion on
கடன் தருபவர்	Moneylender	A person who lends money to people, at a high rate of interest
முக்கியமாக	Predominantly	Mainly
குத்தகையாளர்/ குடியிருப்பவர்	Tenants	A person who occupies land rented from a land lord

மதிப்பீடு

I சரியான விடையைத் தேர்ந்தெடுக்கவும்

NVO2R

1. ஜாகீர்தாரி, மல்குஜாரி, பிஸ்வேதாரி போன்ற பல்வேறு பெயர்களால் அழைக்கப்படும் நிலவரி முறை எது?

   அ) மகல்வாரி முறை

   ஆ) இரயத்துவாரி முறை

   இ) ஜமீன்தாரி முறை

   ஈ) இவற்றில் எதுவுமில்லை

2. எந்த கவர்னர்–ஜெனரலின் காலத்தில், வங்காளத்தில் நிரந்தர நிலவரித் திட்டம் செய்து கொள்ளப்பட்டது?

   அ) ஹேஸ்டிங்ஸ் பிரபு

   ஆ) காரன்வாலிஸ் பிரபு

   இ) வெல்லெஸ்லி பிரபு

   ஈ) மிண்டோ பிரபு

3. மகல்வாரி முறையில் 'மகல்' என்றால் என்ன?

   அ) வீடு ஆ) நிலம்

   இ) கிராமம் ஈ) அரண்மனை

4. மகல்வாரி முறை எந்தப் பகுதியில் செய்துகொள்ளப்பட்டது?

   அ) மகாராஷ்டிரா ஆ) மதராஸ்

   இ) வங்காளம் ஈ) பஞ்சாப்

5. கீழ்க்காணும் கவர்னர்களுள் மகல்வாரி முறையை அறிமுகப்படுத்தியவர் யார்?

   அ) ஹேஸ்டிங்ஸ் பிரபு

   ஆ) காரன்வாலிஸ் பிரபு

   இ) வெல்லெஸ்லி பிரபு

   ஈ) வில்லியம் பெண்டிங் பிரபு

6. ஆங்கிலேயரால் இரயத்துவாரி முறை அறிமுகப்படுத்தப்படாத பகுதி எது?

   அ) பம்பாய் ஆ) மதராஸ்

   இ) வங்காளம் ஈ) இவற்றில் எதுவுமில்லை

7. இண்டிகோ (அவுரி) கிளர்ச்சி யாரால் தலைமையேற்று நடத்தப்பட்டது?

   அ) மகாத்மா காந்தி

   ஆ) கேசப் சந்திர ராய்

   இ) திகம்பர் பிஸ்வாஸ் மற்றும் பிஸ்னு பிஸ்வாஸ்

   ஈ) சர்தார் வல்லபாய் பட்டேல்

8. பர்தோலி சத்தியாகிரகம் யார் தலைமையில் நடத்தப்பட்டது?

   அ) சர்தார் வல்லபாய் பட்டேல்

   ஆ) மகாத்மா காந்தி

   இ) திகம்பர் பிஸ்வாஸ்

   ஈ) கேசப் சந்திர ராய்

II கோடிட்ட இடங்களை நிரப்புக

1. __________ என்பது ஜமீன்தார் முறையின் திருத்தப்பட்ட முறையாகும்.
2. மகல்வாரி முறை __________ என்பவரின் சிந்தனையில் உதித்த திட்டம் ஆகும்.
3. இண்டிகோ (அவுரி) கிளர்ச்சி __________ல் நடைபெற்றது.
4. மாப்ளா கலகம் __________ல் நடைபெற்றது.
5. 'சம்பரான் விவசாயச் சட்டம்' நிறைவேற்றப்பட்ட ஆண்டு __________

III பொருத்துக

1	நிரந்தர நிலவரி திட்டம்	மதராஸ்
2	மகல்வாரி முறை	இண்டிகோ விவசாயிகளின் துயரம்
3	இரயத்துவாரி முறை	வடமேற்கு மாகாணம்
4	நீல் தர்பன்	வங்காளம்
5	சந்தால் கலகம்	முதல் விவசாயிகள் கிளர்ச்சி

IV சரியா / தவறா எனக் குறிப்பிடுக

1. வாரன் ஹேஸ்டிங்ஸ் ஐந்தாண்டு நிலவரி திட்டத்தை அறிமுகப்படுத்தினார்.
2. இரயத்துவாரி முறை, தாமஸ் மன்றோவால் அறிமுகப்படுத்தப்பட்டது.

3_History_Unit-3 Folder.indd 37 03/04/2023 13:29:57

3. குஜராத்தின் யூசுப்ஷாகி என்ற பர்கானாவில் பாப்னா கலகம் ஏற்பட்டது.

4 "பஞ்சாப் நில உரிமை மாற்று சட்டம்" 1918இல் நிறைவேற்றப்பட்டது.

V பின்வரும் கூற்றினை ஆராய்ந்து சரியானவற்றை (✓) செய்க

1. கீழ்க்கண்டவற்றுள் எந்த ஒன்று ஜமீன்தாரி முறைப் பற்றிய தவறான கூற்றாகும்.

அ) இந்த முறை 1793இல் அறிமுகப்படுத்தப்பட்டது.

ஆ) ஜமீன்தார்கள் நிலத்தின் உரிமையாளர் ஆவர்.

இ) விவசாயிகளுக்கு இந்த முறையில் ஒரு குறிப்பிட்ட வருவாய் நிலையாக கிடைத்தது.

ஈ) இந்தியாவின் மொத்த நிலப்பரப்பில் 19% நிலப்பரப்பில் நடமுறைப்படுத்தப்பட்டிருந்தது.

2. கீழ்க்கண்டவற்றுள் இந்தியாவில் நடைபெற்ற விவசாய புரட்சி பற்றிய சரியான கூற்று எது?

அ) சந்தால் கலகம் வங்காளத்தில் நடைபெற்றது.

ஆ) நீல் தர்பன் என்ற நாடகம் தீன பந்து மித்ராவால் எழுதப்பட்டது.

இ) தக்காண கலகம் 1873இல் பூனாவில் உள்ள கிராமம் ஒன்றில் துவங்கியது.

ஈ) மாப்ளா கலகம் தமிழகத்தில் நடைபெற்றது.

VI பின்வரும் வினாக்களுக்கு ஓரிரு வாக்கியங்களில் விடையளி

1. நிரந்தர நிலவரி திட்டத்தின் சிறப்புக்கூறுகள் ஏதேனும் இரண்டினை குறிப்பிடுக.
2. இரயத்துவாரி முறையின் சிறப்புக் கூறுகள் யாவை?
3. மகல்வாரி முறையின் விளைவுகளைக் கூறுக.
4. 1859–60இல் நடைபெற்ற இண்டிகோ (அவுரி) கலகத்திற்கு காரணம் என்ன?
5. சம்பரான் சத்தியாகிரகத்தில் மகாத்மா காந்தியின் பங்கினை குறிப்பிடுக?
6. பர்தோலி சத்தியாகிரகத்தில் வல்லபாய் பட்டேலின் பங்கு பற்றி எழுதுக.

VII விரிவான விடையளி

1. நிலையான நிலவரி திட்டத்தின் நிறை, குறைகளை விவாதிக்க.
2. ஆங்கிலேயர்களின் நிலவரி திட்டங்கள் இந்திய விவசாயிகள் மீது ஏற்படுத்திய தாக்கங்கள் என்ன?
3. மாப்ளா கிளர்ச்சி பற்றி ஒரு பத்தியில் எழுதுக.

VIII உயர் சிந்தனை வினா

1. வரிகள் மட்டும் அல்லாமல் வேறு எந்த வகைகளில் ஆங்கிலேயர்கள் இந்திய விவசாயிகளின் நிலங்களை சுரண்டினர்.

IX செயல்திட்டம் மற்றும் செயல்பாடு

1. காந்தியின் அகிம்சை மற்றும் சத்தியாகிரகத்தை வடிவமைப்பதில் செல்வாக்கு பெற்றது எது என்பது குறித்து எழுதுக.
2. உனது பள்ளியில், கடந்த கால மற்றும் தற்கால விவசாயிகளுக்கிடையே காணப்படும் ஒருமித்த சிறப்புகளை விளக்கும் கண்காட்சிக்கு ஏற்பாடு செய்க.

மேற்கோள் நூல்கள்

1. Bipan Chandra - History of Modern India, Orient Blackswan Private Limited 2018.
2. R.C.Majumdar - An Advance History of India Macmillan and Co., Limited London 1953.
3. Vincent .A.Smith - The Oxford History of India - From the Earliest Times to the end of 1911 – 1919 – Oxford At The Clarendon press

இணையதள வளங்கள்

- https://www.britannica.com
- https://www.ducksters.com/
- https://en.wikipedia.org/wiki/Permanent_Settlement
- https://en.wikipedia.org/wiki/Ryotwari
- https://en.wikipedia.org/wiki/Mahalwari

3_History_Unit-3 Folder.indd 38 03/04/2023 13:29:57

அலகு – 4

மக்களின் புரட்சி

கற்றலின் நோக்கங்கள்

- தமிழ்நாட்டில் பாளையக்காரர் முறை பற்றி அறிதல்
- ஆங்கிலேயர்களுக்கெதிராக நடைபெற்ற புரட்சியில் பூலித்தேவர் மற்றும் கட்டபொம்மனின் பங்கினைப் பற்றி புரிந்துகொள்ளுதல்
- தென்னிந்திய புரட்சி பற்றி தெரிந்துகொள்ளுதல்
- வேலூர் புரட்சியின் காரணங்கள் மற்றும் விளைவுகளைப் பற்றி அறிதல்
- 1857ஆம் ஆண்டு புரட்சியின் காரணங்கள் மற்றும் விளைவுகளைப் புரிந்துகொள்ளுதல்

NG4S2

அறிமுகம்

1857ஆம் ஆண்டு பிளாசிப் போருக்குப் பின் நாட்டின் அரசியல், சமூக–பொருளாதார நிலையைப் பாதிக்கும் வகையில் ஆங்கிலேயரால் நாட்டின் பல பகுதிகளில் அரசியல் மற்றும் பொருளாதார ஆதிக்கம் ஏற்படுத்தப்பட்டது. இது பல திறன்மிக்க நிலக்கிழார்கள் மற்றும் தலைவர்களிடையே அதிகார வேறுபாட்டிற்கு வழிகோலியது. இயற்கையாகவே அவர்களுள் பலர் ஆங்கிலேயர்களுக்கு எதிராக புரட்சியில் ஈடுபட்டனர். ஆங்கிலேயர்கள் பாளையக்காரர்களிடமிருந்து வருடாந்திர கப்பம் வசூலிக்கும் உரிமை பெற்றிருந்ததாகக் கருதப்படுகிறது. ஆங்கிலேயர்களுக்கு முதல் எதிர்ப்பு பூலித்தேவரால் ஏற்பட்டது. அவருக்குப்பின் மற்ற பாளையக்காரர்களான வீரபாண்டிய கட்டபொம்மன், ஊமைத்துரை, மருது சகோதரர்கள் மற்றும் தீரன் சின்னமலை ஆகியோரும் ஆங்கிலேயருக்கெதிரான எதிர்ப்பினைத் தெரிவித்தனர்.

பாளையங்களின் தோற்றம்

விஜய நகர ஆட்சியாளர்கள் தங்கள் மாகாணங்களில் நாயக்கர்களை நியமித்தனர். இதையொட்டி மதுரை நாயக்கர் பாளையக்காரரை நியமித்தார். 1529இல் விஸ்வநாதர் மதுரை நாயக்கரானார். இவரால் தனது மாகாணங்களில் அதிகாரங்களைப் பெற விரும்பிய சிறுகுடித் தலைவர்களை கட்டுப்படுத்த முடியவில்லை. அதனால் அவரது அமைச்சர் அரியநாதருடன் கலந்தாலோசித்து 1529இல் பாளையக்காரர் முறையை ஏற்படுத்தினார். அதன்மூலம் நாடு 72 பாளையங்களாகப் பிரிக்கப்பட்டு ஒவ்வொரு பாளையமும் ஒரு பாளையக்காரரின் கீழ் கொண்டுவரப்பட்டது. ஒவ்வொரு பாளையக்காரரும் ஒரு பிரதேசத்தின் அல்லது பாளையத்தின் உரிமையாளராக கருதப்பட்டார். இந்த பாளையக்காரர்கள், நாயக்கர்களுக்கு தேவை ஏற்படும் போது இராணுவம் மற்றும் இதர உதவிகளை முழு மனதுடன் செய்தனர். பாளையக்காரர்கள் வரிகளை வசூலித்து, தாங்கள் வசூலித்த வரிப்பணத்தில் மூன்றில் ஒரு பங்கினை மதுரை நாயக்கர்களுக்கும், அடுத்த மூன்றில் ஒரு பங்கினை இராணுவ செலவிற்கும் கொடுத்துவிட்டு மீதியை அவர்கள் சொந்த செலவிற்கு வைத்துக்கொண்டனர்.

4_History_Unit-4 Folder.indd 39 12/3/2022 6:52:38 PM

புரட்சியாளர்களின் கூட்டமைப்பு (1799 - 1800)

4_History_Unit-4 Folder.indd 40 12/3/2022 6:52:38 PM

தென்னிந்தியாவில் தொடக்ககால புரட்சிகள்

பாளையக்காரர்களின் புரட்சி

17 மற்றும் 18ஆம் நூற்றாண்டில் தமிழ்நாட்டின் அரசியலில் பாளையக்காரர்கள் முக்கிய பங்கு வகித்தனர். அவர்கள் தங்களை சுதந்திரமானவர்களாகக் கருதிக்கொண்டனர். பாளையக்காரர்களிடையே இரண்டு பாளையங்கள் (முகாம்கள்) இருந்தன. அவை கிழக்கு பாளையம் (முகாம்), மேற்கு பாளையம் (முகாம்) என்பன ஆகும். கிழக்கு பாளையங்களில் இருந்த நாயக்கர்கள் கட்டபொம்மனின் கட்டுப்பாட்டின் கீழ் ஆட்சி செய்தனர். மேற்கு பாளையங்களில் இருந்த மறவர்கள் பூலித்தேவரின் கட்டுப்பாட்டின் கீழ் ஆட்சி செய்தனர். இந்த இரண்டு பாளையக்காரர்களும் ஆங்கிலேயருக்கு கப்பம்(kist) கட்ட மறுத்துக் கிளர்ச்சியில் ஈடுபட்டனர்.

பாளையக்காரர்களுக்கும், கிழக்கிந்திய கம்பெனிக்குமிடையே ஆரம்ப கால போராட்டங்கள் அரசியலில் ஒரு வலிமையான பரிணாமத்தைப் பெற்றன. 1792ஆம் ஆண்டு கர்நாடக உடன்படிக்கையால் ஒருங்கிணைக்கப்பட்ட ஆங்கிலேய அதிகாரம் பாளையக்காரர்களின் மீது செலுத்தப்பட்டது. இந்த உடன்படிக்கையின் படி ஆங்கிலேயர்கள் வரிவசூல் செய்யும் உரிமையையும் பெற்றனர். அதன் விளைவாக பாளையக்காரர்களின் புரட்சி வெடித்தது.

பூலித்தேவர்

இந்தியாவில் ஆங்கில ஆட்சியை எதிர்ப்பதில் தமிழ்நாட்டில் முன்னோடியாக இருந்தவர் பூலித்தேவர் ஆவார். அவர் திருநெல்வேலியின் அருகிலிருந்த நெற்கட்டும் செவல் என்ற பாளையத்தின் பாளையக்காரர் ஆவார். அவரது ஆட்சிக் காலத்தில் ஆற்காட்டு நவாபான முகமது அலிக்கும் ஆங்கிலேயருக்கும் கப்பம் கட்ட மறுத்து அவர்களை எதிர்க்கத் தொடங்கினார். எனவே ஆற்காட்டு நவாப் மற்றும் ஆங்கிலேயரின் கூட்டுப்படைகள் பூலித்தேவரைத் தாக்கின. ஆனால் அக்கூட்டுப் படைகள், திருநெல்வேலியில் பூலித்தேவரால் தோற்கடிக்கப்பட்டன. இந்தியாவில், ஆங்கிலேயருடன் போரிட்டு அவர்களைத் தோற்கடித்த முதல் இந்திய மன்னர் பூலித்தேவரே ஆவார். இந்த வெற்றிக்குப் பிறகு பூலித்தேவர் நவாப் மற்றும் ஆங்கிலேயரை எதிர்க்க பாளையக்காரர்களின் கூட்டமைப்பை உருவாக்க முயன்றார்.

1759இல் யூசுப்கான் தலைமையிலான ஆற்காடு நவாப்பின் படைகள் நெற்கட்டும் செவலைத் தாக்கின. அந்தநல்லூரில் பூலித்தேவர் தோற்கடிக்கப்பட்டார். 1761இல் ஆற்காடு நவாப்பின் படைகள் நெற்கட்டும்செவ்வலைக் கைப்பற்றியது. பூலித்தேவர் தலைமறைவு வாழ்க்கை வாழ்ந்து 1764இல் நெற்கட்டும் செவ்வலைக் மீண்டும் கைப்பற்றினார். பிறகு அவர் 1767இல் கேப்டன் கேம்பெல் என்பவரால் தோற்கடிக்கப்பட்டார். பின்னாளில் பூலித்தேவர் தப்பித்து தலைமறைவாக வாழ்ந்து, தனது நோக்கம் நிறைவேறாமலேயே இறந்து போனார். இருந்தாலும் விடுதலைக்கான அவரது துணிச்சலான போராட்டம் தென்னிந்திய வரலாற்றில் நிலைத்து நிற்கிறது.

வீரபாண்டிய கட்டபொம்மன்

வீரபாண்டிய கட்டபொம்மன்

பாண்டியர்களின் கீழ் நிலமானிய அடிப்படையில் பாஞ்சாலங்குறிச்சியைத் தலைநகராகக் கொண்டு ஜெகவீரபாண்டியகட்டபொம்மன், வீரபாண்டியபுரத்தை ஆட்சி செய்தார்.பின்னர் நாயக்கர்களின் ஆட்சியில் பாளையக்காரரானார். ஜெகவீர பாண்டியனுக்குப்பின் அவரதுமகன் வீரபாண்டிய கட்டபொம்மன் பாளையக்காரரானார். அவரது மனைவி ஜக்கம்மாள், சகோதரர்கள் ஊமைத்துரை மற்றும் செவத்தையா ஆவர்.

ஆற்காடு நவாப்

விஜயநகரப் பேரரசின் வீழ்ச்சிக்குபின் முகலாயர்கள் தெற்கில் தங்கள் மேலாண்மையை நிறுவினர். கர்நாடகாவில் நவாப் முகலாயர்களின் பிரதிநிதியாக செயல்பட்டார். பாஞ்சாலங்குறிச்சி பாளையமும் நவாப்பின் ஆளுகையின் கீழ் கொண்டுவரப்பட்டது. எனவே அது, நவாப்பிற்கு கப்பம் (வரி) கட்ட பணிக்கப்பட்டது. ஆனால் 1792இல் ஏற்பட்ட கர்நாடக உடன்படிக்கை அரசியல் நிலைமைகளை முற்றிலும் மாற்றியது.

4_History_Unit-4 Folder.indd 41 12/3/2022 6:52:38 PM

கம்பெனி, பாஞ்சாலங்குறிச்சியிலிருந்து வரி வசூல் செய்யும் உரிமையையும் பெற்றது. கப்பம் வசூலித்ததே கட்டபொம்மனுக்கும், ஆங்கிலேயருக்குமிடையேயான மோதலுக்கான முதன்மை காரணமானது.

கட்டபொம்மன்–ஜாக்சன் சந்திப்பு

இராமநாதபுர கலெக்டர் காலின் ஜாக்சன் 1798இல் நிலுவைத் தொகையை செலுத்தச் சொல்லி கட்டபொம்மனுக்கு கடிதங்கள் எழுதினார். கட்டபொம்மனும் நாட்டின் பஞ்சத்தின் காரணமாக நிலுவையைச் செலுத்தும் சூழ்நிலையில் தான் இல்லை என்று பதில் எழுதினார். எனவே கோபமடைந்த ஜாக்சன் கட்டபொம்மனைத் தண்டிக்க ஒரு படையை அனுப்ப முடிவு செய்தார். இருப்பினும் சென்னை அரசாங்கம், கட்டபொம்மனுக்கு அழைப்பு அனுப்பி இராமநாதபுரத்தில் ஒரு கலந்துரையாடலுக்கு ஏற்பாடு செய்யும் படி கலெக்டருக்கு வழிகாட்டியது.

1798இல் கட்டபொம்மன் தனது அமைச்சர் சிவசுப்பிரமணியத்துடன் இராமநாதபுரத்தில் கலெக்டரை சந்தித்தார். 1080 பகோடா பாக்கியை தவிர பெரும்பாலான வரியை கட்டபொம்மன் செலுத்திவிட்டதை கணக்குகள் சரிபார்த்தலுக்குப் பின் அறிந்த ஜாக்சன் சமாதானமடைந்தார். இந்த சந்திப்பின் பொழுது கட்டபொம்மனும் அவரது அமைச்சர் சிவசுப்பிரமணியமும் ஜாக்சனின் முன் மூன்று மணி நேரம் நிற்கவைக்கப்பட்டனர். கலெக்டர், கட்டபொம்மனையும், அவரது அமைச்சரையும் அவமானப்படுத்தி கைது செய்ய முயற்சி செய்தார். கட்டபொம்மன் தனது அமைச்சருடன் தப்பிக்க முயன்றார். உடனே ஊமைத்துரை, தனது வீரர்களுடன் கோட்டைக்குள் நுழைந்து கட்டபொம்மன் தப்பிக்க உதவிசெய்தார். ஆனால் துரதிஷ்டவசமாக சிவசுப்பிரமணியம் கைது செய்யப்பட்டார்.

எட்வர்டு கிளைவ் மற்றும் கட்டபொம்மன்

பாஞ்சாலங்குறிச்சி திரும்பிய பின் கட்டபொம்மன் கலெக்டர் காலின் ஜாக்சன் அவரிடம் நடந்து கொண்டதை விவரித்து சென்னைக் கவுன்சிலுக்கு ஒரு கடிதம் எழுதினார். கடித்தைக் கண்ட சென்னை கவுன்சிலின் கவர்னர் எட்வர்டு கிளைவ் கட்டபொம்மனை சரணடைய ஆணையிட்டார். சென்னை கவுன்சில், கட்டபொம்மனை ஒரு குழுவின் முன்னிலையில் வர கோரியது. இதற்கிடையில் சிவசுப்பிரமணியம் விடுதலை செய்யப்பட்டதுடன், கலெக்டர் ஜாக்சன் அவருடைய தவறான அணுகுமுறைக்காக பதவி நீக்கமும் செய்யப்பட்டார். அவருக்குப்பின் கலெக்டராக S.R. லூஷிங்டன் நியமிக்கப்பட்டார்.

பாளையக்காரர்களின் கூட்டமைப்பு

இச்சூழ்நிலையில் சிவகங்கையின் மருது பாண்டியர், அருகில் இருந்த பாளையக்காரர்களை ஒன்றிணைத்து ஆங்கிலேயர்களுக்கு எதிராக 'தென்னிந்திய கிளர்ச்சியாளர்களின் கூட்டமைப்பு' ஒன்றை உருவாக்கினார். இந்த கூட்டமைப்பு ஓர் பிரகடனத்தை வெளியிட்டது. அது 'திருச்சிராப்பள்ளி அறிக்கை' என அழைக்கப்பட்டது. கட்டபொம்மன் இந்த கூட்டமைப்பின் மீது ஆர்வத்துடன் இருந்தார். இந்த கிளர்ச்சி கூட்டமைப்பில் இணைய மறுத்த சிவகிரி பாளையத்தின் மீது கட்டபொம்மன் தனது செல்வாக்கை செலுத்த முயன்றார். கட்டபொம்மன் சிவகிரியை நோக்கி முன்னேறினார். சிவகிரி பாளையக்காரர், கம்பெனிக்கு கப்பம் கட்டுபவராக இருந்ததால் கம்பெனி, கட்டபொம்மனின் சிவகிரி மீதான படையெடுப்பு தங்கள் அதிகாரத்திற்கு விடப்பட்ட சவாலாகக் கருதினர். எனவே கம்பெனியின் படைகள் பாஞ்சாலங்குறிச்சி நோக்கி செல்ல ஆணையிடப்பட்டது.

பாஞ்சாலங்குறிச்சி வீழ்தல்

1799 செப்டம்பர் ஐந்தாம் நாள் மேஜர் பானர்மேன் தன்னுடைய படையை பாஞ்சாலங்குறிச்சியை நோக்கி நகர்த்தினார். ஆங்கிலேயப்படை பாஞ்சாலங்குறிச்சி கோட்டையின் அனைத்து செய்தித்தொடர்புகளையும் துண்டித்தது. கோலார்பட்டியில் நடந்த சண்டையில் சிவசுப்பிரமணியம் கைது செய்யப்பட்டார். கட்டபொம்மன்புதுக்கோட்டைக்குதப்பிச்சென்றார். களப்பூர் காடுகளில் மறைந்திருந்த கட்டபொம்மனை புதுக்கோட்டை ராஜா விஜயரகுநாத தொண்டைமான் கைது செய்து

4_History_Unit-4 Folder.indd 42 12/3/2022 6:52:38 PM

கம்பெனியிடம் ஒப்படைத்தார். பாஞ்சாலங்குறிச்சி கோட்டை வீழ்ந்தபிறகு, பானர்மேன் கைதிகளை பாளையக்கரர்களின் அவைக்கு அழைத்து சென்று ஒரு விசாரணைக்குப் பிறகு அவர்களுக்கு மரணதண்டனை விதித்தார். நாகலாபுரத்தில் சிவசுப்பிரமணியம் தூக்கிலிடப்பட்டார். அக்டோபர் 16ஆம் நாள் பாளையக்காரர் அவையின் முன் கட்டபொம்மன் விசாரிக்கப்பட்டார். அடுத்த நாள் அக்டோபர் 16, 1799 அன்று கட்டபொம்மன் கயத்தாறு என்ற இடத்தில் தூக்கிலிடப்பட்டார். இவ்வாறான கட்டபொம்மனின் வீரம் பற்றி பல நாட்டுப்புற கதைப்பாடல்கள் இன்றும் பெருமையாக கூறுகின்றன. அவை அவருடைய நினைவை மக்களிடையே நீங்காமல் வைத்திருக்கின்றன.

வேலுநாச்சியார்

சிவகங்கையின் இராணி வேலுநாச்சியார் ஆவார். இவர் 16ஆம் வயதில் சிவகங்கையின் இராஜா முத்து வடுகநாதருக்கு திருமணம் செய்து வைக்கப்பட்டார். 1772இல் ஆற்காடு நவாப் மற்றும் பிரிட்டிஷ் படைகள் சிவகங்கையின் மீது போர் தொடுத்தன. அப்படை, முத்துவடுக நாதரை காளையார்கோயில் போரில் கொன்றது. வேலுநாச்சியார் தனது மகள் வெள்ளச்சி நாச்சியாருடன் தப்பித்து, திண்டுக்கல் அருகில் உள்ள விருப்பாச்சியில் கோபால நாயக்கர் பாதுகாப்பில் வாழ்ந்தார். இந்த காலகட்டத்தில் அவர் ஒரு படையை அமைத்து, ஆங்கிலேயர்கள் தங்கள் ஆயுதங்களை எங்கு சேமித்து வைத்திருக்கிறார்கள் என்பதை தனது நுண்ணறிவு படைப்பிரிவின் உதவியுடன் கண்டறிந்தார்.பின்னர்,தனது நம்பிக்கைக்குரிய படைத்தளபதி மற்றும் தொண்டர், குயிலி என்பவரால் ஒரு தற்கொலை தாக்குதலுக்கு ஏற்பாடு செய்தார். மருது சகோதரர்களின் உதவியுடன் சிவகங்கையைக் கைப்பற்றி மீண்டும் இராணியாக முடிசூட்டிக்கொண்டார். இந்தியாவில் பிரிட்டிஷ் காலனி ஆதிக்கத்தை எதிர்த்துப் போரிட்ட முதல் (இந்தியப்) பெண்ணரசி ஆவார். இவர் தமிழர்களால் 'வீரமங்கை' எனவும் 'தென்னிந்தியாவின் ஜான்சி ராணி' எனவும் அறியப்படுகிறார்.

வேலுநாச்சியார்

மருது சகோதரர்கள்

மருது சகோதரர்கள் பொன்னாத்தாள் மற்றும் மூக்கையா பழனியப்பன் ஆகியோரின் மகன்கள் ஆவர். மூத்த சகோதரர் பெரிய மருது (வெள்ளை மருது)எனவும், இளைய சகோதரர் சின்ன மருது எனவும் அழைக்கப்பட்டனர். இவற்றில் மருது பாண்டியன் என்றழைக்கப்பட்ட சின்னமருதுபிரபலமானவர். சின்ன மருது, சிவகங்கையின் மன்னர் முத்துவடுக நாத பெரிய உடையதேவரிடம் (1750–1772) பணிபுரிந்தார். 1772இல் ஆற்காடு நவாப்பின் படைகள் சிவகங்கையை முற்றுகையிட்டு அதனைக் கைப்பற்றியது. இப்போரின் போது முத்து வடுகநாத பெரிய உடையதேவர் போரில் இறந்தார். இருப்பினும் சில மாதங்களுக்குப் பிறகு, சிவகங்கை மருது சகோதரர்களால் மீண்டும் கைப்பற்றப்பட்டு பெரிய மருது, அரசராக பொறுப்பேற்றார். சின்னமருது அவரது ஆலோசகராக செயல்பட்டார். ஆங்கிலேயர்களுக்கெதிரான தீவிர நடவடிக்கைகளின் காரணமாக அவர் 'சிவகங்கை சிங்கம்' என அழைக்கப்பட்டார். பதினெட்டாம் நூற்றாண்டின் பிற்பகுதியில் தென்னிந்தியாவில் மருதுசகோதரர்களால் ஆங்கிலேயர்களுக்கெதிரான கிளர்ச்சி நடைபெற்றது.

மருது சகோதரர்கள்

மோதலுக்கான காரணங்கள்

கட்டபொம்மனின் இறப்பிற்கு பின், அவருடைய சகோதரர் ஊமைத்துரையும் மற்றவர்களும் சிவகங்கைக்குத் தப்பினர். அங்கு அவர்களுக்கு மருது சகோதரர்கள் பாதுகாப்பளித்தனர். மேலும் சிவகங்கை வியாபாரிகள், தங்களது உள்நாட்டு கொள்கையில் கம்பெனியின் தலையீட்டை விரும்பவில்லை. இந்த இரண்டு காரணங்களுக்காகவே, கம்பெனி சிவகங்கைக்கு எதிராக போர் புரிந்தது.

தென்னிந்திய கிளர்ச்சி (1800–1801)

பிப்ரவரி 1801இல் கட்டபொம்மனின் சகோதரர்களான ஊமைத்துரையும் செவத்தையாவும் பாளையங்கோட்டை

சிறையிலிருந்து தப்பித்து கமுதியை வந்தடைந்தனர். அங்கிருந்து தனது தலைநகர் சிறுவயலுக்கு அவர்களை சின்னமருது அழைத்து சென்றார். கட்டபொம்மனின் சகோதரர்கள், மீண்டும் பாஞ்சாலங்குறிச்சிக் கோட்டையை புனரமைத்தனர். ஏப்ரலில் காலின் மெக்காலே தலைமையில் ஆங்கிலப் படைகள் மீண்டும் கோட்டையை தன் வசப்படுத்தியது. அத்துடன் பாளையக்காரச் சகோதரர்கள் சிவகங்கையில் தான் தஞ்சமடைந்திருக்க வேண்டும் என்று கருதியது. எனவே ஆங்கிலேயர்கள் மருது சகோதரர்களிடம் தப்பித்தவர்களை தங்களிடம் ஒப்படைக்கும்படி கோரிக்கை விடுத்தனர். ஆனால் இக்கோரிக்கை மருது சகோதரர்களால் ஏற்றுக்கொள்ளப்படவில்லை. ஆகையால் கர்னல் அக்னியூ மற்றும் கர்னல் இன்ஸ் ஆகியோர் மருது சகோதரர்களுக்கெதிராக படை நடத்திச் சென்றனர்.

இப்பாளையக்காரர் போர், அதற்கு முன் நடந்த போர்களை விடவும் மிகவும் பெரிய அளவில் நடைபெற்றது. சிவகங்கையின் மருது சகோதரர்கள், திண்டுக்கல்லின் கோபால நாயக்கர், மலபாரின் கேரளவர்மன், மைசூரின் கிருஷ்ணப்பநாயக்கர் மற்றும் துண்டாஜி உள்ளிட்டோர் அடங்கிய கூட்டமைப்பால் போர் தொடங்கப்பட்டது. இக்கூட்டமைப்பிற்கு எதிராக ஆங்கிலேயர் போரை அறிவித்தனர்.

திருச்சிராப்பள்ளி பிரகடனம் (1801)

ஜூன் 1801இல் மருது சகோதரர்கள் 'திருச்சிராப்பள்ளி பிரகடனம்' என்றழைக்கப்பட்ட 'சுதந்திரப் பிரகடனம்' ஒன்றை வெளியிட்டனர். 1801 பிரகடனமே ஆங்கிலேயருக்கு எதிராக இந்தியர்களை ஒன்று சேர்க்கும் முதல் அழைப்பாக இருந்தது. இந்த அறிவிப்பின் ஒரு நகல் ஆற்காடு நவாபின் அரண்மனையான, திருச்சி கோட்டை சுவரிலும், மற்றொரு நகல் ஸ்ரீரங்கம் வைஷ்ணவ கோயில் சுவரிலும் ஒட்டப்பட்டது. இவ்வாறு மருது சகோதரர்கள், ஆங்கிலேயர்களுக்கெதிரான எதிர்ப்புணர்ச்சியை நாடெங்கும் பரப்பினர். இதன் விளைவாக தமிழ்நாட்டின் பல பாளையக்காரர்கள் ஆங்கிலேயரை எதிர்த்துப் போரிட ஓர் அணியாக சேர்ந்தனர். சின்னமருது, ஆங்கில படைக்கு சவாலாக கிட்டத்தட்ட 20,000 வீரர்களை திரட்டினார். ஆனால் ஆங்கிலேய படைகளுக்கு மேலும் வலுவூட்ட, வங்காளம், இலங்கை, மலாயா (மலேசியா) போன்ற இடங்களிலிருந்து படைகள் வரவழைக்கப்பட்டன. புதுக்கோட்டை, எட்டயபுரம் மற்றும் தஞ்சாவூர் மன்னர்களும் ஆங்கிலேயருக்கு ஆதரவளித்தனர். ஆங்கிலேயர்களின் பிரித்தாளும் கொள்கை பாளையக்காரர்களின் படைகளில் பிளவை ஏற்படுத்தியது.

ஆங்கிலேயர் சிவகங்கையை இணைத்தல்

மே 1801இல் தஞ்சாவூர் மற்றும் திருச்சி பகுதிகளில் கிளர்ச்சியாளர்களை ஆங்கிலேயர் தாக்கினர். எனவே கிளர்ச்சியாளர்கள் பிரான்மலை மற்றும் காளையார் கோயில் பகுதிகளுக்குச் சென்றனர். அவர்கள் மீண்டும் ஆங்கிலேயப் படைகளால் தோற்கடிக்கப்பட்டனர். இறுதியில் சிறந்த இராணுவ வலிமை மற்றும் சிறந்த ஆங்கில இராணுவத் தளபதிகளால் ஆங்கிலேயர் வெற்றி பெற்றனர். கிளர்ச்சி தோல்வியுற்றதால், 1801இல் சிவகங்கையை ஆங்கிலேயர் இணைத்துக் கொண்டனர். 1801 அக்டோபர் 24ஆம் நாள் மருது சகோதரர்கள், இராமநாதபுரம் மாவட்டத்திலுள்ள திருப்பத்தூர் கோட்டையில் தூக்கிலிடப்பட்டனர். 1801 நவம்பர் 16ஆம் நாள் ஊமைத்துரை மற்றும் செவத்தையா கைதுசெய்யப்பட்டு பாஞ்சாலங்குறிச்சியில் தூக்கிலிடப்பட்டனர். மேலும் 73 கிளர்ச்சியாளர்கள் மலாயாவின் பினாங்கிற்கு (பின்னர் வேல்ஸ் இளவரசர் தீவு என அழைக்கப்பட்டது) நாடு கடத்தப்பட்டனர். கிளர்ச்சியாளர்கள் ஆங்கிலேயரிடம் தோல்வியுற்றாலும் தமிழ் மண்ணில் தேசியம் என்ற விதையை விதைத்த முன்னோடிகளாவர்.

1800–1801ஆம் ஆண்டு கிளர்ச்சி ஆங்கில ஆவணங்களில் இரண்டாவது பாளையக்காரர் போர் என்று கூறப்பட்டாலும், இத்தென்னிந்திய புரட்சி தமிழக வரலாற்றில் ஓர் அடையாளமாகவே இருக்கிறது. 1801 ஜூலை 31இல் செய்துகொள்ளப்பட்ட கர்நாடக உடன்படிக்கைப்படி, தமிழ்நாட்டின் மீது ஆங்கிலேயர் நேரடி கட்டுப்பாட்டைப் பெற்றனர். இதனால் பாளையக்காரர் முறை நீக்கப்பட்டது.

தீரன் சின்னமலை

தீரன் சின்னமலை ஈரோடு மாவட்டம் சென்னிமலை அருகிலுள்ள

4_History_Unit-4 Folder.indd 44 12/3/2022 6:52:39 PM

மேலப்பாளையத்தில் பிறந்தார். அவரது இயற்பெயர் தீர்த்தகிரி. அவர், ஆங்கில கிழக்கிந்திய கம்பெனியை எதிர்த்த கொங்கு நாட்டு பாளையக்காரர் ஆவார். கொங்கு நாடு என்பது சேலம், கோயம்புத்தூர், கரூர் மற்றும் திண்டுக்கல் பகுதிகளை உள்ளடக்கிய மதுரை நாயக்க அரசின் ஒரு பகுதியாக உருவாக்கப்பட்டிருந்தது. ஆனால் இப்பகுதி மைசூர் உடையார்களால் இணைக்கப்பட்டது. மைசூர் உடையார்கள் வீழ்ந்தபிறகு, இந்தப் பகுதிகள் மைசூர் சுல்தான்களால் கட்டுப்படுத்தப்பட்டது. மூன்று மற்றும் நான்காம் மைசூர் போர்களுக்குப் பிறகு கொங்குநாடு முழுவதும் ஆங்கிலேயரின் வசமானது

தீரன் சின்னமலை, பிரெஞ்சு இராணுவத்தின் நவீன போர்முறை பயிற்சிப் பெற்றிருந்தார். இவர் திப்புசுல்தான் பக்கம் இருந்து ஆங்கிலேயருக்கெதிராக போராடி வெற்றிபெற்றார். திப்புசுல்தான் இறந்த பிறகு, இவர் ஓடாநிலை என்ற இடத்தில் தங்கி ஆங்கிலேயரைத் தொடர்ந்து எதிர்த்துப் போராட, அங்கு ஒரு கோட்டையைக் கட்டினார். 1800இல் கோயம்புத்தூரில் ஆங்கிலேயரைத் தாக்க, அவர் மராத்தியர் மற்றும் மருதுசகோதரர்களின் உதவியைப் பெற முயன்றார். ஆனால் ஆங்கிலப்படைகள் அக்கூட்டுப்படைகளைத் தடுத்து நிறுத்தியதால், தீரன் சின்னமலை மட்டும் கோயம்புத்தூரை தாக்கும் நிலைக்கு உள்ளானார். அதனால் அவரது படை தோற்கடிக்கப்பட்டது. அவர் ஆங்கில படைகளிடமிருந்து தப்பித்த தீரன் சின்னமலை காவேரி, ஓடாநிலை மற்றும் அரச்சலூர் போன்ற இடங்களில் நடைபெற்ற போர்களில் கொரில்லா போர் முறையில் ஆங்கிலப் படைகளைத் தோற்கடித்தார். இறுதி போரின் போது சின்னமலை தனது சமையற்காரர் நல்லப்பன் என்பவரால் காட்டிக்கொடுக்கப்பட்டதால் 1805இல் சங்ககிரி கோட்டையில் தூக்கிலிடப்பட்டார்.

வேலூர் கலகம் (1806)

நான்காம் மைசூர் போருக்குப் பிறகு திப்புவின் குடும்பத்தினர் வேலூர் கோட்டையில் சிறைவைக்கப்பட்டனர். மைசூரின் ஹைதர் அலி, திப்புசுல்தான் ஆகியோரின் பணியாளர்கள் மற்றும் வீரர்கள் 3000 பேரின் சொத்துக்கள் பறிமுதல் செய்யப்பட்டதால் அவர்கள் வேலூருக்கு அருகில் இடம் பெயர்ந்தனர். இதனால் அனைவரும் துயரமடைந்து ஆங்கிலேயரை வெறுக்கவும் செய்தனர்.

வேலூர் கோட்டை

வேலூர் கோட்டையானது பெரும்பாலான இந்திய வீரர்களைக் கொண்டிருந்தது. அதன் ஒரு பகுதியினர் அப்பொழுதுதான் 1800இல் நடைபெற்ற திருநெல்வேலி பாளையக்காரர் கிளர்ச்சியில் பங்கு பெற்றவர்களாகவும் இருந்தனர். மேலும் பல்வேறு பாளையங்களைச் சேர்ந்த பயிற்சி பெற்ற வீரர்கள் ஆங்கிலப் படையில் சேர்த்துக் கொள்ளப்பட்டனர். எனவே வேலூர் கோட்டை தென்னிந்திய கிளர்ச்சியாளர்களின் சந்திப்பு மையமாக திகழ்ந்தது.

1803இல் வில்லியம் காவெண்டிஷ் பெண்டிங் என்பவர் சென்னை மாகாண கவர்னரானார். அவரது காலத்தில் (1805–1806) சில கட்டுப்பாடுகள் இராணுவத்தில் அறிமுகப்படுத்தப்பட்டது, அதனை பின்பற்ற வேண்டுமென இராணுவ வீரர்கள் சென்னை மாகாண படைத்தளபதி சர் ஜான் கிரடாக் என்பவரால் கட்டாயப்படுத்தப்பட்டனர். சிப்பாய்கள் அதனை தங்களை அவமானப்படுத்த ஆங்கிலேயரால் வடிவமைக்கப்பட்டது எனக்கருதினர்.

கலகத்திற்கான காரணங்கள்

- கடுமையான கட்டுப்பாடுகள், புதிய ஆயுதங்கள், புதிய முறைகள் மற்றும் சீருடைகள் என அனைத்தும் சிப்பாய்களுக்கு புதிதாக இருந்தன.
- தாடி, மற்றும் மீசையை மழித்து நேர்த்தியாக வைத்துக்கொள்ள சிப்பாய்கள் கேட்டுக் கொள்ளப்பட்டனர்.

4_History_Unit-4 Folder.indd 45 12/3/2022 6:52:39 PM

- சமய அடையாளத்தை நெற்றியில் அணிதல், காதுகளில் வளையம் (கடுக்கன்) அணிதல் ஆகியன தடைசெய்யப்பட்டன.
- ஆங்கிலேயர்கள், இந்திய சிப்பாய்களை தாழ்வாக நடத்தியதோடு மட்டுமல்லாமல் சிப்பாய்களிடையே இன பாரபட்சமும் காட்டினர்.

உடனடிக் காரணம்

ஜூன் 1806இல் இராணுவத் தளபதி அக்னியூ, ஐரோப்பிய தொப்பியை ஒத்திருந்த சிலுவை சின்னத்துடன் கூடிய ஒரு புதிய தலைப்பாகையை அறிமுகப்படுத்தினார். அது பிரபலமாக 'அக்னியூ தலைப்பாகை' என அழைக்கப்பட்டது. இந்து மற்றும் முஸ்லீம் வீரர்கள் ஒன்றாக இதனை எதிர்த்தனர். இதனால் வீரர்கள் ஆங்கிலேயர்களால் கடுமையாகத் தண்டிக்கப்பட்டனர்.

கலகத்தின் போக்கு

இந்திய வீரர்கள் ஆங்கில அலுவலர்களைத் தாக்குவதற்கு ஒரு வாய்ப்பினை எதிர்பார்த்து காத்திருந்தனர். திப்பு குடும்பத்தினரும் இதில் பங்கெடுத்துக் கொண்டனர். திப்புவின் மூத்த மகன் பதே ஹைதர் ஆங்கிலேயருக்கு எதிரான ஒரு கூட்டமைப்பை ஏற்படுத்த முயன்றார். இதற்கிடையில் ஜூலை 10ஆம் நாள் விடியற்காலை, முதலாவது மற்றும் 23 வது படைப்பிரிவுகளைச் சார்ந்த இந்திய சிப்பாய்கள் கலகத்தை தொடங்கினர். படையை வழிநடத்திய கர்னல் பான்கோர்ட் கிளர்ச்சியாளர்களின் தாக்குதலுக்கு முதல் பலியானார். கோட்டையின் நுழைவாயில்கள் மூடப்பட்டன. அப்பொழுது கிளர்ச்சியாளர்கள் பதே ஹைதரை தங்களின் புதிய ஆட்சியாளராக அறிவித்தனர். வேலூர் கோட்டையில் ஆங்கிலக் கொடி இறக்கப்பட்டு புலி உருவம் பொறித்த திப்புவின் கொடி ஏற்றப்பட்டது.

கலகம் அடக்கப்படுதல்

கோட்டையின் வெளியே இருந்த மேஜர் கூட்ஸ் இராணிப்பேட்டைக்கு விரைந்து கர்னல் கில்லெஸ்பிக்கு தகவல் கொடுத்தார். கர்னல் கில்லெஸ்பி உடனடியாக வேலூர் கோட்டையை அடைந்தார். அவர் கிளர்ச்சி படைகளின் மீது தாக்குதல் நடத்தி கலகத்தை முழுமையாக அடக்கினார்.வேலூரில் அமைதி ஏற்படுத்தப்பட்டது. கலகத்தில் மொத்தம் 113 ஐரோப்பியர்கள் மற்றும் சுமார் 350 சிப்பாய்கள் கொல்லப்பட்டனர். குறுகிய காலத்திற்குள் கலகம் அடக்கப்பட்டது. எனினும் தமிழக வரலாற்றின் குறிப்பிடத்தக்க நிகழ்வுகளுள் இதுவும் ஒன்றாக திகழ்ந்தது.

வேலூர் கலகத்தின் விளைவுகள்

- புதிய முறைகள் மற்றும் சீருடை ஒழுங்கு முறைகள் விலக்கிக் கொள்ளப்பட்டன.
- முன்னெச்சரிக்கை நடவடிக்கையாக திப்புவின் குடும்பத்தினர் வேலூரிலிருந்து கல்கத்தாவிற்கு அனுப்பப்பட்டனர்.
- வில்லியம் காவெண்டிஷ் பெண்டிங் பணி நீக்கம் செய்யப்பட்டார்.

கலகத்தின் தோல்விக்கான காரணங்கள்

- இந்திய படை வீரர்களை வழிநடத்த சரியான தலைமையில்லை.
- கலகம் மிகச் சரியாக வடிவமைக்கப்படவில்லை.
- ஆங்கிலேயர்களின் பிரித்தாளும் கொள்கை இந்தியர்களின் ஒற்றுமையில் பிளவை ஏற்படுத்தியது.

மதிப்பீடு

1806இல் நடந்த வேலூர் கலகத்தை, 1857இல் நடைபெற்ற 'முதல் இந்திய சுதந்திரப் போரின் முன்னோடி' என V.D.சவார்க்கர் என்ற வரலாற்றாசிரியர் குறிப்பிடுகிறார்.

பெரும் புரட்சி (1857)

இந்தியாவில் ஆங்கிலேயர்களை அச்சுறுத்தும் வகையில் நடைபெற்ற ஆரம்பகால கலகங்கள் வெற்றிபெறவில்லை. எனவே அது 1857ஆம் ஆண்டு புரட்சிக்கு வழிகோலியது. அதன்மூலம் கம்பெனி அதன் நாட்டிற்கு திரும்பிச் செல்லவும், ஆங்கிலேயர்களின் ஆட்சியை மக்களில் பெரும்பாலானோர் ஏற்கவில்லை என ஆங்கிலேயர்களை எண்ணவும் செய்தது. 1857ஆம் ஆண்டு புரட்சியானது காலனி ஆட்சியினுடைய பண்பு மற்றும் கொள்கையின் விளைவாக உருவானதாகும். ஆங்கிலேயரின் விரிவுபடுத்தப்பட்ட கொள்கைகள், பொருளாதார சுரண்டல், மற்றும் நிர்வாக புதுமைகள் ஆகியவற்றின் ஒட்டுமொத்த விளைவே இந்தியாவின் அனைத்து அரசர்களின் நிலைமையிலும் மோசமான பாதிப்புகளை ஏற்படுத்தின.

4_History_Unit-4 Folder.indd 46 12/3/2022 6:52:39 PM

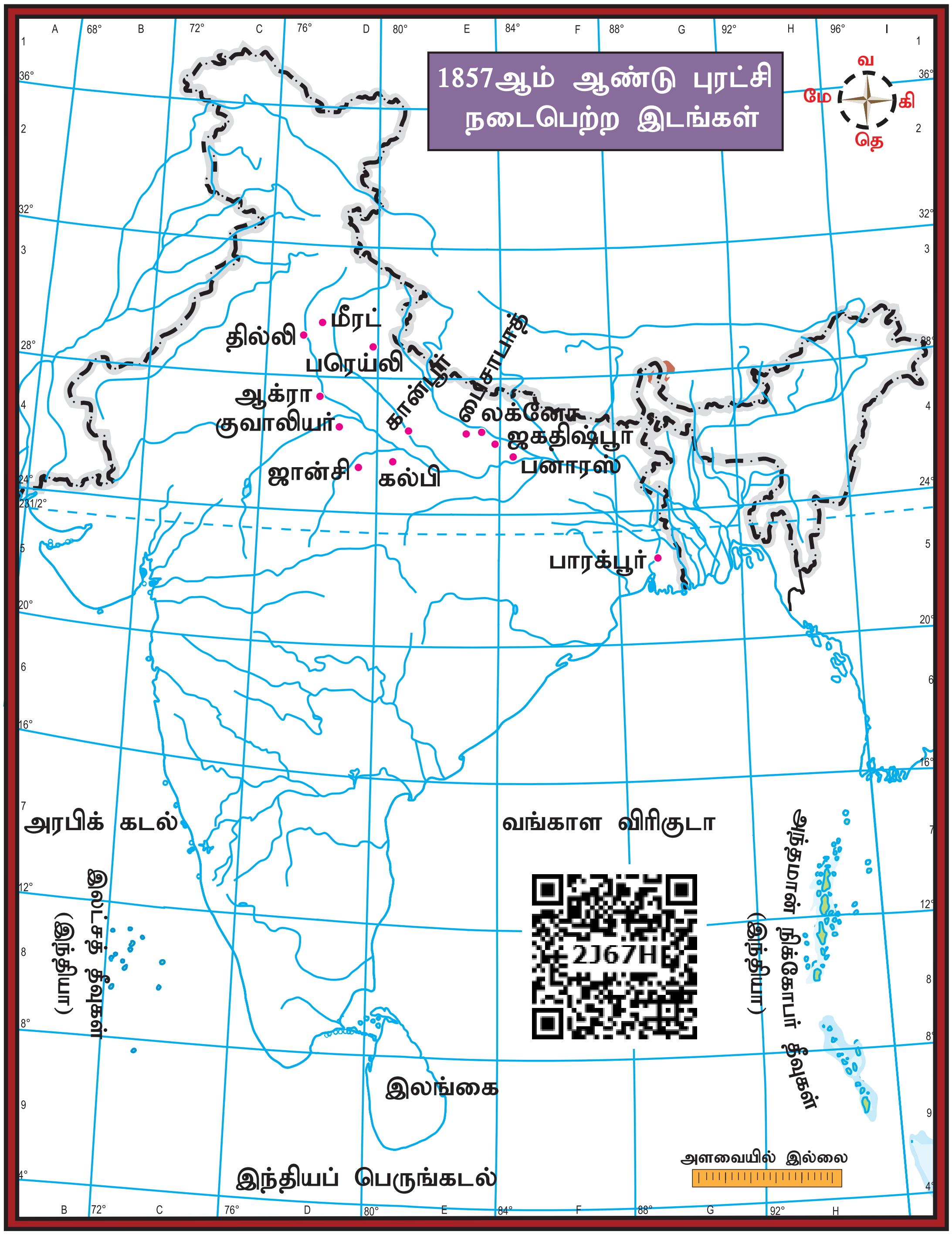

புரட்சிக்கான காரணங்கள்

- ஆங்கிலேயரின் பொருளாதார ரீதியான சுரண்டல் கொள்கையே, 1857ஆம் ஆண்டு புரட்சிக்குமுக்கிய காரணமாக இருந்தது. இது சமுதாயத்தின் அனைத்து பிரிவினரையும் காயப்படுத்தியது. அதிகப்படியான வரிவிதிப்பு மற்றும் கடுமையான வரிவசூல் முறைகளால் விவசாயிகள் துன்புற்றனர்.
- வாரிசு இழப்புக் கொள்கை, துணைப்படைத் திட்டம் மற்றும் பல கட்டுப்பாடுகள் ஆகியன மக்களிடையே அதிருப்தியை ஏற்படுத்தியது. மேலும் முறையற்ற வகையில் அயோத்தியை இணைத்தும் கூட ஆங்கிலேயரின் பிரதேச விரிவாக்கக் கொள்கை திருப்தி அடையவில்லை
- கிறித்துவ சமய பரப்பு குழுவினரின் மதமாற்ற நடவடிக்கைகள் மக்களால் அச்சத்துடனும் சந்தேகத்துடனும் பார்க்கப்பட்டது. மேலும் சமய தலைவர்கள் மற்றும் இஸ்லாமிய சமய அறிஞர்கள் (Maulavis) ஆங்கில ஆட்சிக்கெதிராக அதிருப்தியை வெளிப்படுத்தினர்.

4_History_Unit-4 Folder.indd 47 12/3/2022 6:52:39 PM

- சதி ஒழிப்பு, பெண்சிசுக் கொலை ஒழிப்பு, விதவை மறுமணம் மற்றும் பெண் கல்விக்கான ஆதரவு போன்ற ஆங்கிலேயரின் நடவடிக்கைகள் இந்தியர்களின் கலாச்சாரத்தில் ஐரோப்பியர்கள் தலையிடுவதாக கருதப்பட்டது.
- இந்திய சிப்பாய்கள், ஆங்கில அதிகாரிகளால் தாழ்வாகவும் அவமரியாதையாகவும் நடத்தப்பட்டனர். ஆங்கில வீரர்களைக் காட்டிலும் இந்திய வீரர்கள் குறைவான ஊதியம் பெற்றனர். மேலும் இராணுவ பதவி உயர்வுகள் அனைத்தும் இந்திய வீரர்களுக்கு மறுக்கப்பட்டு ஆங்கில வீரர்களுக்கு மட்டுமே வழங்கப்பட்டன.

உடனடிக் காரணம்

இராணுவத்தில் அறிமுகப்படுத்தப்பட்ட என்பீல்டுரக துப்பாக்கியே உடனடிக் காரணமாக இருந்தது. இந்த வகைத் துப்பாக்கியில் குண்டுகளை நிரப்புவதற்கு முன் அதன் மேலுறையை பற்களால் கடித்து நீக்க வேண்டும். அதன் மேலுறையில் பசுவின் கொழுப்பு மற்றும் பன்றியின் கொழுப்பு தடவப்பட்டிருந்தது. எனவே இதனை இந்திய சிப்பாய்கள் (இந்து, முஸ்லீம்) தங்கள் மத உணர்வை புண்படுத்துவதாக கருதினர். ஏனெனில் இந்துக்கள் பசுவை புனிதமாகக் கருதுபவர்களாகவும். முஸ்லீம்கள் பன்றியை வெறுப்பவர்களாகவும் இருந்தனர். ஆகையால் இந்து முஸ்லீம் வீரர்கள் என்பீல்டு துப்பாக்கியைப் பயன்படுத்த மறுத்து புரட்சியில் ஈடுபட்டனர். இவ்வாறு கொழுப்பு தடவப்பட்ட தோட்டாக்கள் புரட்சிக்கு அடிப்படை மற்றும் உடனடிக் காரணமாயிற்று.

கலகத்தின் தோற்றம்

மங்கள் பாண்டே

1857 மார்ச் 29ஆம் நாள் பாரக்பூரில் (கொல்கத்தா அருகில்) உள்ள வங்காள படைப்பிரிவைச் சேர்ந்த மங்கள் பாண்டே என்ற இளம் சிப்பாய் கொழுப்பு தடவப்பட்ட துப்பாக்கியைப் பயன்படுத்த மறுத்து தனது உயரதிகாரியைச் சுட்டுக் கொன்றார். அதனால் அவர் கைது செய்யப்பட்டு விசாரணைக்குப் பின் தூக்கிலிடப்பட்டார். இச்செய்தி பரவியதால், பல சிப்பாய்கள் புரட்சியில் ஈடுபட்டனர்.

புரட்சியின் போக்கு

1857 மே 10ஆம் நாள் மீரட்டில் மூன்றாம் குதிரைப் படையைச் சேர்ந்த சிப்பாய்கள் சிறைச்சாலையை உடைத்து, தங்களது சக படைவீரர்களை விடுவித்ததன் மூலம் வெளிப்படையாக புரட்சியில் ஈடுபட்டனர். அவர்கள் உடனே 11 ஆவது மற்றும் 20 ஆவது உள்ளூர் காலாட்படையினருடன் இணைந்தனர், மேலும், சிலர் ஆங்கில அலுவலர்களைக் கொலை செய்ததுடன், டெல்லிக்கும் விரைந்தனர். டெல்லிக்கு வந்த மீரட் சிப்பாய்கள் மே 11ஆம் நாள் இரண்டாம் பகதூர்ஷாவை இந்தியாவின் பேரரசராக அறிவித்தனர். அதன் மூலம் டெல்லி பெரும் புரட்சியின் மையமாகவும் பகதூர்ஷா அதன் அடையாளமாகவும் விளங்கினார்.

புரட்சி மிக வேகமாக பரவியது. லக்னோ, கான்பூர், ஜான்சி, பரெய்லி, பீகார், பைசாபாத் மற்றும் வட இந்தியாவின் பல பகுதிகளில் கலகங்கள் ஏற்பட்டன. புரட்சியாளர்களுள் பலர், நிழக்கிழார்களிடம் தாங்கள் கொடுத்த பத்திரங்களை எரிக்க,

மத்திய இந்தியாவில் புரட்சி ஜான்சியின் ராணி இலட்சுமிபாய் அவர்களால் வழிநடத்தப்பட்டது. இந்தியாவின் மாபெரும் தேசபக்தர்களுள் அவரும் ஒருவர். சர் ஹக்ரோஸ் ஜான்சியை ஆக்கிரமித்தார். ஜான்சியிலிருந்து தப்பிய இராணி லட்சுமிபாய், குவாலியரில் படையை தலைமையேற்று வழிநடத்திய தாந்தியா தோபேவுடன் இணைந்தார். ஆனால் ஆங்கிலப் படை ஜூன் 1858இல் குவாலியரை கைப்பற்றியது. போரில் ராணி லட்சுமிபாய் கொல்லப்பட்டார். தப்பிய தாந்தியா தோபே கைது செய்யப்பட்டு தூக்கிலிடப்பட்டார். ஆங்கில வரலாற்றாசிரியர்களின் கூற்றுப்படி 1857 புரட்சியில் கலந்து கொண்ட தலைவர்களில் மிகவும் துணிச்சலானவர் இராணி லட்சுமிபாய் ஆவார்.

4_History_Unit-4 Folder.indd 48 12/3/2022 6:52:40 PM

இதனை ஒரு நல்வாய்ப்பாகக் கருதினர். ஆங்கில அரசு பலருடைய பட்டங்கள், ஓய்வூதியங்களை நீக்கியதால் ஆங்கில அரசை பழிவாங்குவதற்காக புரட்சியில் பலர் கலந்துகொண்டனர்.

கலகம் அடக்கப்படுதல்

கவர்னர் ஜெனரல் கானிங் பிரபு புரட்சியை அடக்க உடனடியாக நடவடிக்கை எடுத்தார். அவர் சென்னை, பம்பாய், இலங்கை மற்றும் பர்மாவிலிருந்து படைகளை வரவழைத்தார். மேலும் அவரது சொந்த முயற்சியால் சீனாவிலிருந்த ஆங்கிலப் படைகளை கல்கத்தாவிற்கு வரவழைத்தார். விசுவாசமான சீக்கிய படைகளை உடனடியாக டெல்லிக்கு விரைந்து செல்லுமாறு ஆணையிட்டார். இதன்மூலம் ஆங்கிலேயர் தாங்கள் இழந்த பகுதிகளை உடனே மீட்டனர்.

1857 செப்டம்பர் 20இல் படைத்தளபதி நிக்கல்சனால் டெல்லி மீண்டும் கைப்பற்றப்பட்டது. எனவே, இரண்டாம் பகதூர்ஷா ரங்கூனுக்கு நாடு கடத்தப்பட்டார். அங்கு அவர் 1862இல் இறந்தார்.

கான்பூர் மீட்பு இராணுவ நடவடிக்கைகள், லக்னோ மீட்பு நடவடிக்கைகளுடன் நெருங்கிய தொடர்புகொண்டிருந்தது. சர் காலின் கேம்பெல் கான்பூரை கைப்பற்றினார். கான்பூரில் புரட்சியை வழிநடத்திச் சென்ற நானா சாகிப் தோற்கடிக்கப்பட்டார். தோற்ற நானா சாகிப் நேபாளத்திற்கு தப்பியோடினார். அவரது நெருங்கிய நண்பர் தாந்தியா தோபே மத்திய இந்தியாவுக்கு தப்பிச்சென்றார். தப்பிய அவர் தூங்கும் பொழுது கைது செய்யப்பட்டுக் கொல்லப்பட்டார். இராணி லட்சுமிபாய் போர்களத்தில் கொல்லப்பட்டார். கன்வர்சிங், மற்றும் கான் பகதூர் கான் ஆகிய இருவரும் போரில் இறந்தனர். அயோத்தியின் பேகம் ஹஸ்ரத் மகால் நேபாளத்தில் மறைந்து வாழும் நிலைக்குத் தள்ளப்பட்டார். இவ்வாறாக புரட்சி முழுவதும் அடக்கப்பட்டது. 1859ஆம் ஆண்டின் இறுதியில் பிரிட்டிஷ் அதிகாரம் மீண்டும் இந்தியா முழுவதும் நிறுவப்பட்டது.

கலகத்தின் தோல்விக்கான காரணங்கள்

கலகத்தின் தோல்விக்கு பல நிகழ்வுகள் காரணமாக அமைந்தன.

- சரியான ஒருங்கிணைப்பு, ஒழுக்கம், கட்டுப்பாடு, பொதுவானதிட்டம், மையப்படுத்தப்பட்ட தலைமை, நவீன ஆயுதங்கள் மற்றும் தொழில்நுட்பம் ஆகியவை புரட்சியாளர்களிடையே இல்லை.
- கலகத்தில் ஈடுபட்டவர்கள், ஆங்கில படைத்தளபதிகளுக்கு இணையானவர்களாக இல்லை. மேலும் இராணி லட்சுமிபாய், நானாசாகிப் மற்றும் தாந்தியா தோபே ஆகியோர் தைரியமானவர்கள், ஆனால் சிறந்த தளபதிகளாக இல்லை.
- வங்காளம்,பம்பாய்,சென்னை,மேற்குபஞ்சாப் மற்றும் இராஜபுதனம் ஆகிய பகுதிகள் புரட்சியில் கலந்து கொள்ளவில்லை.
- நவீனக் கல்வி கற்ற இந்தியர்கள் ஆங்கில ஆட்சி மட்டுமே இந்திய சமுதாயத்தை சீர்திருத்தி நவீனப்படுத்த முடியும் என நம்பினர். எனவே அவர்கள் புரட்சியை ஆதரிக்கவில்லை.
- சீக்கியர்கள், ஆப்கானியர்கள் மற்றும் கூர்க்கா படைப்பிரிவினர் ஆகியோர்களின் விசுவாசத்தை ஆங்கிலேயர் பெற்றனர். புரட்சியை அடக்குவதில் கூர்க்காப் படையினர் ஆங்கிலேயருக்கு உதவினர்.
- ஆங்கிலேயர்கள் சிறந்த ஆயுதங்கள், சிறந்த தளபதிகள் மற்றும் சிறந்த ஒருங்கிணைப்பைக் கொண்டிருந்தனர்.

கலகம் நடைபெற்ற இடங்கள்	இந்திய தலைவர்கள்	கலகத்தை அடக்கிய ஆங்கிலேய அதிகாரிகள்
டெல்லி	இரண்டாம் பகதூர்ஷா	ஜான் நிக்கல்சன்
லக்னோ	பேகம் ஹஸ்ரத் மகால்	ஹென்றி லாரன்ஸ்
கான்பூர்	நானா சாகிப்	சர் காலின் கேம்பெல்
ஜான்சி & குவாலியர்	ராணிலட்சுமிபாய், தாந்தியா தோபே	ஜெனரல் ஹக்ரோஸ்
பரெய்லி	கான் பகதூர் கான்	சர் காலின் கேம்பெல்
பீகார்	கன்வர் சிங்	வில்லியம் டைலர்

4_History_Unit-4 Folder.indd 49 12/3/2022 6:52:40 PM

கலகத்தின் விளைவுகள்

- 1857ஆம் ஆண்டு கலகம் இந்திய வரலாற்றில் ஒரு திருப்பு முனையை ஏற்படுத்தியது. அது நிர்வாக முறை மற்றும் அரசின் கொள்கைகளில் மாற்றங்கள் ஏற்பட வழிகோலியது.
- 1858ஆம் ஆண்டு வெளியிடப்பட்ட விக்டோரியா மகாராணியின் பேரறிக்கையின் மூலம் இந்தியாவின் நிர்வாகம் கிழக்கிந்திய கம்பெனியிடமிருந்து ஆங்கில (பாராளுமன்றத்திற்கு) அரசுக்கு மாற்றப்பட்டது.
- கவர்னர்–ஜெனரல், அதன் பிறகு வைசிராய் என அழைக்கப்பட்டார்.
- இயக்குநர் குழு மற்றும் கட்டுப்பாட்டு வாரியம் நீக்கப்பட்டு இந்திய விவகாரங்களை மேற்பார்வையிட செயலரின் தலைமையில் 15 உறுப்பினர்களைக் கொண்ட ஒரு சபை (கவுன்சில்) ஏற்படுத்தப்பட்டது.
- இந்திய இராணுவம் முற்றிலும் மாற்றியமைக்கப்பட்டது. அதிகப்படியான ஆங்கிலேயர்கள், இராணுவத்தில் பணியமர்த்தப்பட்டனர்.
- 'பிரித்தல் மற்றும் எதிர் தாக்குதல்' என்ற கொள்கை ஆங்கில இராணுவக் கொள்கையில் ஆதிக்கம் செலுத்தியது.

உண்மையில் 1857ஆம் ஆண்டு புரட்சி இந்திய மக்கள் அனைவரையும் ஒருங்கிணைத்து இந்தியா ஒரே நாடு என்ற உணர்வை கொண்டு வருவதில் முக்கிய பங்கு வகித்தது. பெரும் புரட்சி நவீன தேசிய இயக்கம் தோன்ற வழிவகுத்தது. 1857ஆம் ஆண்டு பெரும் புரட்சி இருபதாம் நூற்றாண்டின் தொடக்கமாக இருந்தது. வி.டி. சவார்க்கர் 'முதல் இந்திய சுதந்திர போர்' என்ற தனது நூலில் 1857ஆம் ஆண்டு பெரும் புரட்சியை 'ஒரு திட்டமிடப்பட்ட தேசிய சுதந்திரப் போர்' என விவரிக்கிறார்.

மீள்பார்வை

- விஜயநகர ஆட்சியாளர்கள் தங்கள் மாகாணங்களில் நாயக்கர்களை நியமித்தனர்.
- மதுரை நாயக்கர்கள் பாளையக்காரர்களை நியமித்தனர்.
- ஆங்கிலேயர்கள் பெற்ற வரி வசூலிக்கும் உரிமையால் பாளையக்காரர்கள் கலகம் வெடித்தது.
- கப்பம்(வரி) வசூலித்ததே கட்டபொம்மனுக்கும், ஆங்கிலேயருக்குமிடையே போட்டி ஏற்பட முதன்மை காரணமானது.
- மருது சகோதரர்கள் மூக்கையா பழனியப்பன் மற்றும் பொன்னாத்தாள் ஆகியோரின் மகன்களாவர்.
- பிரெஞ்சு இராணுவத்தின் மூலம் தீரன் சின்னமலை நவீனபோர் முறைகளில் பயிற்சி பெற்றார்.
- திப்பு சுல்தான் ஆங்கில கிழக்கிந்திய கம்பெனிக்கெதிராக போரிட்டார்.
- 1857ஆம் ஆண்டு புரட்சியின் தலைவர்களில் இராணி லட்சுமிபாய் மிகச் சிறந்த மற்றும் மிகத்துணிச்சலான தலைவர் ஆவார்.

கலைச்சொற்கள்		
தூக்கிலிடு	Beheaded	Hanged to death
காட்டிக்கொடு	Betrayed	Give away information about somebody
தோட்டா	Cartridge	Bullet
முடிவாக	Eventually	In the end
காலாட்படை	Infantry	An army unit consisting of soldiers who fight on foot
கப்பம்	Tribute	Payment made periodically by one state
கூட்டம்	Swarm	Crowd

4_History_Unit-4 Folder.indd 50 12/3/2022 6:52:40 PM

மதிப்பீடு

F64TV

I சரியான விடையைத் தேர்ந்தெடுக்கவும்

1. பாளையக்காரர் முறை ஏற்படுத்தப்பட்ட ஆண்டு
   அ) 1519 ஆ) 1520
   இ) 1529 ஈ) 1530
2. பின்வரும் தமிழ்நாட்டு பாளையக்காரர்களுள் ஆங்கில ஆட்சியை எதிர்த்ததில் முன்னோடியானவர்
   அ) பூலித்தேவர்
   ஆ) யூசுப்கான்
   இ) கட்டபொம்மன்
   ஈ) மருது சகோதரர்கள்
3. காலின் ஜாக்சன் எந்தப் பகுதியின் ஆட்சியாளர்?
   அ) மதுரை
   ஆ) திருநெல்வேலி
   இ) இராமநாதபுரம்
   ஈ) தூத்துக்குடி
4. வீரபாண்டிய கட்டபொம்மன் கீழ்க்கண்ட எந்த இடத்தில் தூக்கிலிடப்பட்டார்?
   அ) பாஞ்சாலங்குறிச்சி ஆ) சிவகங்கை
   இ) திருப்பத்தூர் ஈ) கயத்தாறு
5. வேலு நாச்சியார் எப்பகுதியின் ராணி ஆவார்?
   அ) நாகலாபுரம் ஆ) சிவகிரி
   இ) சிவகங்கை ஈ) விருப்பாச்சி
6. 'திருச்சிராப்பள்ளி பிரகடனம்' யாரால் வெளியிடப்பட்டது?
   அ) மருது பாண்டியர்கள்
   ஆ) கிருஷ்ணப்ப நாயக்கர்
   இ) வேலு நாச்சியார்
   ஈ) தீரன் சின்னமலை
7. கீழ்க்கண்டவைகளுள் தீரன் சின்னமலையோடு தொடர்புடைய பகுதி எது?
   அ) திண்டுக்கல் ஆ) நாகலாபுரம்
   இ) புதுக்கோட்டை ஈ) ஓடாநிலை
8. ராணி லட்சுமிபாய் எப்பகுதியில் ஏற்பட்ட புரட்சியை வழிநடத்தினார்?
   அ) மத்திய இந்தியா ஆ) டெல்லி
   இ) கான்பூர் ஈ) பரெய்லி

II கோடிட்ட இடங்களை நிரப்புக

1. கிழக்குப்பகுதி பாளையங்கள் ________ கட்டுப்பாட்டின் கீழ் இருந்தது.
2. விஸ்வநாத நாயக்கர் அவரது அமைச்சர் ________ உடன் கலந்தாலோசித்து பாளையக்கார முறையை ஏற்படுத்தினார்.
3. கட்டபொம்மனின் முன்னோர்கள் ________ பகுதியைச் சார்ந்தவர்கள்.
4. ________ தமிழர்களால் 'வீர மங்கை' எனவும் தென்னிந்தியாவின் ஜான்சி ராணி எனவும் அறியப்பட்டார்.
5. ________ 'சிவகங்கையின் சிங்கம்' என அழைக்கப்படுகிறார்.
6. 1857 ஆம் ஆண்டு புரட்சியை ________ என்பவர் 'முதல் இந்திய சுதந்திரப் போர்' என விவரிக்கிறார்.

III பொருத்துக

1	டெல்லி	கன்வர் சிங்
2	கான்பூர்	கான் பகதூர் கான்
3	ஜான்சி	நானா சாகிப்
4	பரெய்லி	லட்சுமி பாய்
5	பீகார்	இரண்டாம் பகதூர் ஷா

IV சரியா / தவறா எனக் குறிப்பிடுக

1. விஜய நகர ஆட்சியாளர்கள் தங்கள் மாகாணங்களில் நாயக்கர்களை நியமித்தனர்.
2. சிவசுப்பிரமணியம் என்பவர் மருது பாண்டியர்களின் அமைச்சர் ஆவார்.
3. 1799 அக்டோபர் 16 ஆம் நாள் கட்டபொம்மன் தூக்கிலிடப்பட்டார்.
4. திப்பு சுல்தானின் மூத்த மகன் பதே ஹைதர் ஆவார்.

V அ) பின்வரும் கூற்றை ஆராய்ந்து சரியான விடையைக் குறிப்பிடவும்

I. வேலூர் புரட்சி 1801ஆம் ஆண்டு ஏற்பட்டது.

4_History_Unit-4 Folder.indd 51 12/3/2022 6:52:40 PM

II. நான்காம் மைசூர் போருக்குப்பின் திப்புவின் குடும்பத்தினர் வேலூர் கோட்டையில் சிறைவைக்கப்பட்டனர்.

III. வேலூர் புரட்சியின் போது வில்லியம் பெண்டிங் சென்னையின் ஆளுநராக இருந்தார்.

IV. ஆங்கிலேயருக்கு எதிரான வேலூர் கலகத்தின் வெற்றி இந்திய வரலாற்றில் ஒரு முக்கியமான நிகழ்வு ஆகும்.

அ) I & II சரி ஆ) II & IV சரி

இ) II & III சரி ஈ) I, II, & IV சரி

ஆ) தவறான இணையைக் கண்டுபிடிக்கவும்

அ) மருது பாண்டியர் – எட்டயபுரம்

ஆ) கோபால நாயக்கர் – திண்டுக்கல்

இ) கேரளவர்மன் – மலபார்

ஈ) துண்டாஜி – மைசூர்

இ) மாறுபட்ட ஒன்றைக் கண்டுபிடி

அ) கட்டபொம்மன் ஆ) ஊமைத்துரை

இ) செவத்தையா ஈ) திப்பு சுல்தான்

VI பின்வரும் வினாக்களுக்கு ஓரிரு வாக்கியங்களில் விடையளி

1. பாளையக்காரர்கள் என்பவர் யார்? சிலரின் பெயரைக் கூறுக?
2. பாளையக்கார புரட்சியில் வேலு நாச்சியாரின் பங்கு என்ன?
3. தென்னிந்திய புரட்சியில் பாளையக்கார கூட்டமைப்பின் தலைவர்கள் யாவர்?
4. 'திருச்சிராப்பள்ளி பிரகடனத்தின்' முக்கியத்துவம் யாது?
5. வேலூர் கலகத்தின் விளைவுகளை எழுதுக?
6. 1857ஆம் ஆண்டு புரட்சிக்கான உடனடிக் காரணம் என்ன?

VII விரிவான விடையளி

1. பூலித்தேவரைப் பற்றி நீவிர் அறிந்ததை எழுதுக?
2. தீரன் சின்னமலைக்கும் ஆங்கிலேயருக்கும் இடையேயான போராட்டத்திற்கு இட்டுச்சென்ற சூழ்நிலைகளை விவரி?
3. 1857ஆம் ஆண்டு புரட்சிக்கான காரணங்களை எழுதுக?
4. 1857ஆம் ஆண்டு புரட்சியின் தோல்விக்கான காரணங்களை எழுதுக.

VIII உயர் சிந்தனை வினா

1. 1857ஆம் ஆண்டு புரட்சியில் தலைவர்களிடையே ஒரு பொதுவான குறிக்கோள் இல்லை– நிரூபி.

IX வரைபட திறன்

1. இந்திய ஆறுகள் வரைபடத்தில் கீழ்க்காணும் இடங்களை குறிக்கவும்.

1. டெல்லி 2. லக்னோ 3. மீரட்

4. பாரக்பூர் 5. ஜான்சி 6. குவாலியர்

7. கான்பூர்

X செயல்பாடு

1. பாளையக்காரர்கள் படங்களை சேகரித்து ஒரு செருகேட்டினை (Album) தயார் செய்க.

மேற்கோள் நூல்கள்

1. Rajayyan, K. - South Indian rebellion : The First War of Independence 1800-1801, Mysore : Rao and Raghavan, Mysore 1971
2. Bipan Chandra - History of Modern India, Orient Blackswan Private Limited 2018
3. Ishita Banerjee-Dube - A History of Modern India, Cambridge University Press 2014

இணையதள வளங்கள்

- https://www.britannica.com
- https://www.ducksters.com/
- https://en.wikipedia.org/wiki/Vellore_mutiny
- https://en.wikipedia.org/wiki/Indian_Rebellion_of_1857

4_History_Unit-4 Folder.indd 52 12/3/2022 6:52:40 PM

அலகு – 5

இந்தியாவில் கல்வி வளர்ச்சி

கற்றலின் நோக்கங்கள்

கீழ்க்காணும் நிகழ்வுகள் பற்றி அறிதல்:

- பழங்கால இந்தியாவில் வழங்கப்பட்ட முறையான கல்வி
- பாரம்பரிய மையங்களில் குருகுல முறையின் கீழ் கல்வி கற்றல்; அதேபோல மடங்களிலும் மடாலயங்களிலும் கல்வி கற்பித்தல்
- இஸ்லாமியக் கல்வி மையங்களில் கல்வி கற்பித்தல்
- பிரிட்டிஷ் இந்தியாவில் ஐரோப்பிய மறை ஊழியங்களும் மேற்கத்தியக் கல்வியின் மேம்பாடும்
- சுதந்திரத்திற்குப் பிந்தைய இந்தியாவில் கல்வி முன்னேற்றம்

UOLGC

அறிமுகம்

கல்வி கற்றல் என்பது ஒருவரின் பிறப்பில் தொடங்கி அவரின் வாழ்நாள் முழுவதும் தொடரும் ஒரு செயல்பாடாகும். பள்ளியில் வழங்கப்படும் முறையான கல்வியின் அடிப்படை நோக்கம் குழந்தைகளை அறிவுசார் திறன்களுடனும் உடல் திறத்தினுடனும் வளர்க்க உதவுவதே ஆகும். பள்ளிப்படிப்புக்குப் பிறகு கல்லூரியிலோ, பல்கலைக்கழகத்திலோ சேரும் மாணவர்கள் தங்களின் எதிர்கால வாழ்விற்குத் தேவையான திறன்களை அங்கே பெறுகின்றார்கள். உயர்கல்வி நிறுவனத்திலிருந்து பட்டம் பெற்ற ஒருவர் தான் தேர்ந்தெடுத்துப் படித்தப் பாடத்தில் முழுமையான அறிவைப் பெற்றிருப்பார் எனவும் அவர் அறிவியல் மற்றும் வரலாற்றுக் கண்ணோட்டம் கொண்டிருப்பார் எனவும் எதிர்பார்க்கப்படுகிறது. காலப்போக்கில் இந்தியாவில் கல்விமுறை எத்தகையப் பரிணாம வளர்ச்சியுடன் உருப்பெற்றது என்பதை இந்த அத்தியாயத்தில் காணலாம்.

LVR6G

பழங்கால இந்தியாவில் கல்வி

பழங்கால இந்தியாவில், அந்தணர் மற்றும் அரச குலத்தோரின் மகள்கள், மகன்களுக்கு மட்டுமே கல்வி வழங்கப்பட்டது. மாணவர்களுக்கு ஆசிரமங்கள், துறவிகளின் வாழிடங்களில் வேதபாடல்கள் மனப்பாடம் செய்வதற்குக் கற்பிக்கப்பட்டது. மேலும் அவர்கள் சமஸ்கிருத இலக்கணம், உரைநடை மற்றும் செய்யுள் புனைதல், தர்க்க சாஸ்திரம் மற்றும் பௌதிக மெய்யியல் போன்ற பாடங்களையும் கற்றனர். அவர்களின் பாடத்திட்டத்தில் வானியல், கணிதம், மருத்துவம், ஜோதிடம் ஆகியவையும் இடம்பெற்றன. இத்தகையக் கற்றல் – கற்பித்தல் வழக்கே குருகுல அமைப்பு எனப்பட்டது.

5_History_Unit-5_TM.indd 53 03/04/2023 13:27:05

பண்டைய தமிழ்நாட்டின் கற்றறிந்த பெண்கள் குறித்து சங்க இலக்கியங்களில் காணமுடிகின்றது. சங்க காலத்தில் வாழ்ந்த கற்றறிந்தபெண்பாற்புலவர்களில்ஆதிமந்தியார், ஔவையார் போன்று, நாற்பதுக்கும் மேற்பட்டோரை உதாரணமாய்ச் சொல்லலாம். தமிழ்நாட்டின் சிவகங்கை மாவட்டத்தின் கீழடியில் நடைபெற்ற அகழாய்வில் கண்டெடுக்கப்பட்டப் பானையோடுகளில் காணப்படும் எழுத்து வடிவப் பொறிப்புகள், கி.மு. (பொ.ஆ.மு.) ஆறாம் நூற்றாண்டிற்கு முன்பே கீழடியில் வாழ்ந்த மக்களின் கல்வி மேம்பாட்டை நன்கு விளக்குகின்றது.

ஔவையார்

பானையோடுகளில் காணப்படும் எழுத்துக்கள், கீழடி

சங்க காலத்தைச் சேர்ந்த ஆரியப் படை கடந்த நெடுஞ்செழியன் (ஆரியப் படையைத் தோற்கடித்த நெடுஞ்செழியன்) தான் எழுதியப் புறநானூற்றுப் பாடலில் (183) கல்வியின் முக்கியத்துவத்தை வலியுறுத்திக் கூறியுள்ளார். தனது பாடலில் அவர், ஏழ்மை நிலையில் இருப்பவரும் ஆசிரியர்களிடம் சென்று கற்க வேண்டும் என்பதையும் கற்பிக்கும் ஆசிரியர்களுக்குப் பரிசில்கள் வழங்கவேண்டும் என்பதையும் வலியுறுத்துகின்றார். மேலும் தாயானவள், தான் பெற்றெடுத்தக் குழந்தைகளில் கற்றறிந்த குழந்தையையேப் பெரிதும் ஆதரிப்பாள் என்றும் ஆள்பவர்களும் கற்றோரின் சொற்களுக்கே முக்கியத்துவம் கொடுத்துப் பின்பற்றுவர் என்றும் கூறுகின்றார். மேல்தட்டு மக்கள், கற்றுச் சிறந்தோர் கீழ்த்தட்டு மக்களாயினும் அவர் சொல்லுக்குத் தலை வணங்குவர் எனவும் கல்வியின் பெருமையைப் பெரிதும் போற்றியுள்ளார்.

உபநிடதங்கள், வேதத்தின் மீதான நம்பிக்கையிலிருந்து முற்றிலுமாக மாறுபட்டிருந்ததை வெளிப்படுத்தின. உப–நி–ஷத் என்ற சொல்லுக்கு, 'ஒருவருக்கு அருகில் உட்காருதல்' என்று பொருள். இது பொதுவாகக் காட்டினில், ஒரு முனிவரின் காலடியில் அமர்ந்து, இரகசியமாகக் கற்றுக்கொண்ட வித்தைகளைக் குறிக்கின்றது. கடவுள்கள், சடங்குகள் ஆகியவற்றிலிருந்து முற்றிலுமாக விலகி மெய்ஞானம் பெறுதலை உபநிடதங்கள் வலியுறுத்தின. பிந்தைய வேதகாலத்தில் நன்கு கற்றறிந்த ஆசிரியர்களின் குடியிருப்புகளிலோ அல்லது தனியார் இல்லங்களிலோ கல்வி கற்கும்படியாக ஏற்பாடு செய்யப்பட்டிருந்தது. பிரெஞ்சுப் பயணி பெர்னியர் என்பாரின் குறிப்புகளிலிருந்து, வாரணாசியில் (பனாரஸ்/காசி) பின்பற்றப்பட்ட குருகுல முறையிலான கல்வி பற்றி அறிந்துகொள்ள முடிகின்றது. அவரது கூற்றுப்படி, காசியில் கற்றறிந்த ஆசிரியர்கள் நகரின் பல பகுதிகளுக்கும் அனுப்பப்பட்டு பல தனியார் இல்லங்களிலும் குறிப்பாகப் பணக்கார வணிகர்களின் தோட்டங்களிலும் கற்பித்தலில் ஈடுபடுத்தப்பட்டனர். இவர்களில் சிலருக்கு நான்கு சீடர்களும் மற்றவர்களுக்கு ஆறு அல்லது ஏழு சீடர்களும் புகழ்மிக்க ஆசிரியர்களுக்கு பன்னிரெண்டு சீடர்களும் இருந்தனர். இங்கு வேதங்கள், உபநிடதங்கள், தர்ம சாஸ்திரங்கள் மற்றும் காவியங்கள் கற்பிக்கப்பட்டன. ஆசிரியர்கள் தங்கள் வாழ்வாதாரத்திற்கென குருதட்சணையாகக் குறைந்த அளவிலான கட்டணத்தைப் பெற்றுக்கொண்டோ அல்லது சமூகத்தில் அன்று வழக்கத்திலிருந்த பரிசுப் பொருள்களைப் பெற்றுக்கொண்டோ கற்பித்தனர். ஆசிரியரின் வீட்டிற்குத் தேவையானவற்றை வழங்குவதும் ஆசிரியருக்குக் கட்டணமின்றி உணவளிப்பதும் நடைமுறையில் இருந்தது.

மடாலயங்களில் கல்வி

கி.மு. (பொ.ஆ.மு.) 6ஆம் நூற்றாண்டில் தோன்றிய மிகச் சிறந்த மதச் சீர்திருத்தவாதிகளான மகாவீரர், புத்தர், கோசலர் ஆகியோர் வேதங்களின்

5_History_Unit-5_TM.indd 54 03/04/2023 13:27:06

மேலாதிக்கத்தை நிராகரித்தனர். அதனைத் தொடர்ந்து ஏராளமான சமயப்பிரிவுகள் தோன்றினாலும் அவற்றில் சமணமும் பௌத்தமும் மட்டுமே நவீனகாலம் வரை நிலைத்திருக்கின்றன. சமண – பௌத்த மடாலயங்கள் தங்களது துறவிகளுக்குக் கல்வி கற்பித்தும் பயிற்சி அளித்தும் வந்தன. இங்கு கல்வி பயிலவரும் மாணவர்கள் தங்களது கல்வி பயிலும் காலம் முடியும்வரை அங்கேயே தங்கிக் கற்றனர். சமணர்களின் சமய இலக்கியங்கள் அர்த்த–மகதி மொழியிலும் பாலி மொழியிலும் இருந்தன. தென்னிந்தியாவில் மதுரைக்கு அருகிலும் காஞ்சிபுரத்திலும், கர்நாடகாவில் சரவணபெலகொலா என்னும் இடத்திலும் மத போதனைக்கான மையங்களை சமணர்கள் நிறுவினர்.

தமிழ்ச் சொல்லானப் 'பள்ளி' என்பது கல்வி கற்பிக்கும் சமண மடாலயங்களைக் குறித்தன. தமிழ் இலக்கியத்திற்குச் சமணர்கள் ஆற்றியப் பணிகள் அளப்பரியவை. அவைகளுள் பெரிதும் போற்றப்படுபவை திருக்குறள் மற்றும் நாலடியார் ஆகியன.

பழங்காலத்தையப் பாரம்பரியக் கல்வி மையங்களுக்கு மாறாக, சமண, பௌத்த கல்வி மையங்கள், பல்கலைக்கழகங்களைப் போன்ற பெரிய வளாகங்களில் கல்வியை வழங்கின. பீகாரில் சிறந்த பௌத்த கல்வி மையமாகத் திகழ்ந்த நாளந்தா பல்கலைக்கழகம், கல்வி பயில்வதற்கென சீனா மற்றும் தென்கிழக்கு ஆசிய நாடுகளின் பல பகுதிகளிலிருந்து வரும் மாணவர்களை ஈர்த்தது. இங்கு பயின்ற மாணவர்கள் புத்தரின் கோட்பாடுகளைத் தங்கள் நாடுகளுக்குக் கொண்டு சென்றனர். இதேபோல் கி.பி. (பொ.ஆ) எட்டாம் நூற்றாண்டில் வங்காளத்தில் பாலர் வம்சத்தின் அரசர் தர்மபாலர், விக்ரமசீல பல்கலைக்கழகத்தை நிறுவி புத்தரின் கோட்பாடுகளைப் பரவச் செய்தார். காஞ்சிபுரத்தில் நாளந்தா பல்கலைக்கழகத்திற்கு இணையான புகழ்பெற்றப் பல கல்வி நிலையங்கள் நிறுவப்பட்டிருந்தன. முதலாம் நரசிம்ம பல்லவனின் ஆட்சிக்காலத்தில் சீனாவைச் சேர்ந்த புத்தத் துறவி யுவான் சுவாங் காஞ்சிபுரத்திற்கு வருகை தந்திருந்தார்.

யுவான் சுவாங்

நாளந்தா பல்கலைக்கழகம்

பழங்கால ஓலைச்சுவடி

உங்களுக்குத் தெரியுமா?

கி.பி. (பொ.ஆ) ஏழாம் நூற்றாண்டில் யுவான் சுவாங் நாளந்தாவிற்கு வருகை தந்தபோது, அங்கு மாணவர்கள் வேதங்களோடு நுண்கலைகள், மருத்துவம், கணிதம், வானியல், அரசியல் மற்றும் போர்க்கலை ஆகியவற்றில் பயிற்சியும் பெற்றனர். நாளந்தா அகழாய்வுத் தளத்தை யுனெஸ்கோ (UNESCO) 2009ஆம் ஆண்டு உலகப் பாரம்பரியச் சின்னங்களில் ஒன்றாக அறிவித்தது.

இடைக்கால இந்தியாவில் கல்வி

இடைக்காலத்தில் முறையான கல்வியை வழங்கும் இடமாகக் கோவில்கள் செயல்பட்டன. சிறிய கிராமங்களில் கோவில் அர்ச்சகரே மாணவர்களுக்குக் கல்வி கற்பித்தார். மிகவும்

5_History_Unit-5_TM.indd 55 03/04/2023 13:27:07

மேம்பட்ட நிலையில் உயர்கல்வி கற்பிக்கும் கல்லூரிகள் பெரிய கோவில்களுடன் இணைக்கப்பட்டிருந்தன. இடைக்கால இந்தியாவில் மடங்கள் அல்லது மடாலயங்கள் கல்வி கற்பிக்கும் இடமாகத் திகழ்ந்தன. சைவ மற்றும் வைணவ மடங்கள் அரசர்களிடமிருந்து நன்கொடைகள் பெற்றுச் செயல்பட்டன. இவை சைவ சமயம், வைணவ சமயம், தற்காப்புக் கலைகள், இசை மற்றும் ஓவியம் போன்றவற்றைக் கற்பிப்பதை நோக்கமாகக் கொண்டிருந்தன. இன்றளவும் செயல்படுகின்ற இத்தகைய மடங்களுள் ஒன்றான பதினான்காம் நூற்றாண்டில் நிறுவப்பட்ட திருவாவடுதுறை சைவ மடத்தில்தான் தமிழறிஞர் உ.வே. சாமிநாதர் கல்வி பயின்றார்.

தொழில்நுட்பக் கல்வியை வழங்குதல் தொழில்நுட்பக் கூட்டுறவு அமைப்பிடமே இருந்தது. சுரங்கம், உலோகவியல், நெசவு, சாயமேற்றுதல், தச்சுவேலை பற்றிய அறிவு அந்தந்த கைவினைஞர்கள் கூட்டமைப்பின் கட்டுப்பாட்டிலேயே இருந்தன. கைவினைஞர்களின் மகன்கள் தங்களது பரம்பரைத் தொழில்களிலேயே பயிற்சி பெற்றனர். இந்தத் தொழில்நுட்பக் கூட்டமைப்புகளுக்கும் கல்வி மையங்களுக்கும் இடையே எத்தகைய அறிவு, தொழில்நுட்பப் பரிமாற்றமும் நடைபெறாமல் தனித்தனியாகவே செயல்பட்டன.

சுல்தானிய மற்றும் முகலாயர் ஆட்சியின்போது, உயர்நிலை மற்றும் ஆளும் வகுப்பினருக்கு மட்டுமே கல்வி வழங்கிய சமஸ்கிருதப் பள்ளிகளைப் போலல்லாமல், இஸ்லாமியப் பள்ளிகள் (மக்தாப்கள்) எத்தகையத் தடையுமின்றி அனைவருக்குமானதாகச் செயல்பட்டன. இங்கு மாணவர்கள், குர்ஆனின் சில பகுதிகளை மனப்பாடம் செய்ததோடு, வட்டார மொழிகள் மற்றும் பாரசீக மொழியினையும் கற்றனர். மதரசாக்களில் (அரபி உயர்கல்வி நிறுவனங்கள்), தொலைதூரத்தில் இருந்து கல்வி கற்க வரும் ஒவ்வொரு ஏழை மாணவரும் தனது வாழ்க்கைக்கானத் தேவைகளை கல்வி நிலையத்திற்கு அருகில் வசித்த இறை நம்பிக்கையுள்ள ஏதாவது ஒரு குடும்பத்திடமிருந்துப்பெறமுடிந்தது. மதரசாக்கள் இறையியல் கற்பிக்கும் பள்ளியாகவும் சட்டப்பள்ளியாகவும் செயல்பட்டன. இங்குப் பாடத்திட்டமானது குர்ஆன் மற்றும் முகமது நபியின் போதனைகளை (ஹதீஸ்) மையமாகக் கொண்டு அமைந்திருந்தது. மேலும் மாணவர்களுக்கு அரபு இலக்கணம், இலக்கியம், கணிதம் மற்றும் கணக்குப்பதிவியல், தர்க்க சாஸ்திரம் ஆகியவையும் கற்பிக்கப்பட்டன.

மதரசா

ஆங்கில கிழக்கிந்திய கம்பெனி மற்றும் நவீன கல்வியின் தொடக்கம்

இந்தியர்களின் கல்விபற்றி முதலில் அக்கறை கொண்டிருந்த கவர்னர் ஜெனரல் வாரன் ஹேஸ்டிங்ஸ் ஒரு மௌல்வி தலைமையிலான இஸ்லாமிய தூதுக் குழுவின் கோரிக்கையை ஏற்று 1780–'81இல் ஒரு மதரசாவை முதன்முதலாகக் கல்கத்தாவில் நிறுவினார். அங்கு கல்வி உதவித்தொகை பெற்றுப் பயிலும் நாற்பது மாணவர்கள் இருந்தனர். அடுத்த பத்தாண்டுகளில் (1791–'92) அவருக்குப் பின் பதவியேற்ற காரன்வாலிஸ், பின்னாளில்பம்பாயின்கவர்னரானஜொனாதன் டங்கன் ஆதரவுடன் காசியில் ஒரு சமஸ்கிருதக் கல்லூரியை அரசு செலவில் நிறுவினார். அதன்பிறகு இருபது ஆண்டுகளுக்குக் கல்விக்கான நேரடிப் பொறுப்பை ஆங்கிலேய அரசு ஏற்கவில்லை. கல்வி நிதியானது தொடர்ந்து பல ஆண்டுகளுக்கு கீழைநாட்டுக் கல்விக்காகவே செலவிடப்பட்டது. இங்கிலாந்து நாட்டுப் பாராளுமன்றம் 1813இல் கிழக்கிந்திய

5_History_Unit-5_TM.indd 56 03/04/2023 13:27:07

கம்பெனியின் சாசனத்தைப் புதுப்பிக்கும்போது, இந்தியாவில் உள்ள பிரிட்டிஷ் பகுதிகளில் இலக்கியம் மற்றும் அறிவியலை மேம்படுத்துவதற்கு 'ஒரு லட்ச ரூபாய்க்குக் குறையாமல்' நிதி ஒதுக்குவதற்கான ஒரு விதிமுறையைச் சேர்த்துச் சட்டம் இயற்றியது. இருப்பினும் அதற்காக ஒதுக்கப்பட்ட நிதி செலவழிக்கப்படாமலேயே இருந்தது.

இதற்கிடையில், சமூக சீர்திருத்தவாதி ராஜாராம் மோகன்ராயின் முன்முயற்சியால் 1817இல் கல்கத்தாவில் இந்து கல்லூரி என்ற ஓர் கல்வி நிலையம் உள்ளூரில் திரட்டப்பட்ட நிதியிலிருந்து நிறுவப்பட்டது. இதன் நோக்கம் ஆங்கில மொழியில் கல்வியை வழங்குவதாகும். கிறித்தவ சமயப்பரப்பாளர்கள் தங்களுக்குக் கிடைத்த சலுகையைப் பயன்படுத்தி அடுத்த ஆண்டே (1818) செராம்பூரில் ஒரு பாப்டிஸ்ட் மிஷன் கல்லூரியைத் திறந்தனர். ராஜாராம் மோகன்ராய் 'கணிதம், தத்துவம், வேதியியல், உடற்கூறியல் மற்றும் பிற பயனுள்ள அறிவியல்களை உள்ளடக்கிய அறிவொளி மயமான கல்விமுறையை' நடைமுறைப்படுத்த வேண்டுகோள் விடுத்தார்.



இந்து கல்லூரி, கல்கத்தா

ஆங்கிலக் கல்வி

வில்லியம் பெண்டிங் இந்தியாவின் கவர்னர் ஜெனரலாக நியமிக்கப்பட்டபோது, பண்பட்ட உயர்தட்டு இந்தியர்கள் பலர் ஆங்கிலக் கல்வியை விரும்புவதைக் கணக்கில் கொண்டு, அவர், தாமஸ் பாபிங்டன் மெக்காலேயை அன்றிருந்த கல்விக் குழுவின் தலைவராக நியமித்துக் கல்விக்கான ஒரு வரைவுக் கொள்கையினைத் தயாரித்து வழங்கும்படிக் கோரினார். மெக்காலே 1835ஆம் ஆண்டு தனது புகழ்பெற்ற கல்விக்கான வரைவுக் கொள்கையைத் தயாரித்தார். இந்த வரைவுக் கொள்கையின்படி அரசாங்கத்தின் கல்விக் கொள்கையின் நோக்கம் 'இந்தியாவின் பூர்வீக மக்களிடையே ஐரோப்பிய இலக்கியத்தையும் அறிவியலையும் மேம்படுத்துவது' ஆகும். இதனைக் கற்பிக்க ஆங்கில மொழியினைப் பயன்படுத்த வேண்டும் எனவும் மெக்காலே அறிவுறுத்தினார். பெண்டிங் மெக்காலேயின் வரைவுக் கொள்கைக்கு ஒப்புதல் அளித்ததோடு, கல்விக்கான நிதியை இனி ஆங்கில வழிக் கல்விக்கு மட்டுமே செலவிட வேண்டும் என்றும் முடிவு செய்தார்.

உட் அறிக்கை

சார்லஸ் உட்

1852இல் கம்பெனியின் பட்டயச் சட்டம் புதுப்பிக்கப்பட இருந்தபோது, பிரிட்டிஷ் பாராளுமன்றம் கல்வி சம்பந்தமாக உறுதியானதோர் முடிவை எடுப்பதற்குச் சந்தர்ப்பத்தை வழங்கியது. இதற்காக 1854ஆம் ஆண்டில் புகழ்பெற்ற சார்லஸ் உட் அறிக்கை புதிய கல்விக் கொள்கையாக அனுப்பப்பட்டது. உட்டின் அறிக்கை 1835ஆம் ஆண்டின் மெக்காலேயின் கல்விக் கொள்கையையே மீண்டும் வலியுறுத்தியது. இந்தியப் பழமைவாதப் பிரிவினரின் எதிர்ப்புகள் இருந்தபோதிலும் அரசாங்கம் அதன் கொள்கையை அமல்படுத்த மூன்று மாகாணங்களிலும் ஒவ்வோர் பல்கலைக்கழகத்தை நிறுவியது. லண்டன் பல்கலைக்கழகத்தைப் போன்று சென்னை, பம்பாய், கல்கத்தா ஆகிய இடங்களில் 1857இல் பல்கலைக்கழகங்கள் தொடங்கப்பட்டன. தேர்வு நடத்துவதும் பல்கலைக்கழகங்களுடன் இணைப்பிலிருந்த கல்லூரிகளில் தேர்ச்சி பெற்றவர்களுக்குப் பட்டம் வழங்குவதும் இப் பல்கலைக்கழகங்களின் முக்கியப் பணியாக இருந்தது. ஒவ்வொரு மாகாணத்திலும் மாணவர்களுக்கான படிப்புகள் மற்றும் பாடத்திட்டங்களை அங்குள்ள பல்கலைக்கழகம் பரிந்துரைத்தது.

5_History_Unit-5_TM.indd 57 03/04/2023 13:27:07

கிறித்தவ சமயப்பரப்புக் குழுக்களும் கல்வியும்

வங்காளம்:

கல்விக்கு கிறித்தவ மறை குழுக்களின் பங்களிப்புப் பாராட்டத்தக்கது. பாப்டிஸ்ட் சமயப் பரப்பாளர்கள் 1800இல் செராம்பூரில் ஓர் வங்கத் தொடக்கப்பள்ளியைத் தொடங்கி நாற்பது மாணாக்கருக்குக் கல்வி கற்பித்தனர். இதனைத் தொடர்ந்து வங்காள மாகாணத்தில் இலண்டன் சமயப் பரப்பாளர் சங்கம் பள்ளிகள் பலவற்றை நிறுவியது. இந்தியப் பெண்களின் முன்னேற்றத்தில் அன்றைய அரசாங்கத்தை விட ஐரோப்பிய சமயப்பரப்பாளர்கள் அதிக ஆர்வம் காட்டினர். மிஸ் மேரி ஆன் குக் என்பார் 1821இல் இந்தியாவிற்கு வந்தபோது கல்கத்தாவிலும் அதைச் சுற்றியுள்ள கிராமங்களிலும் சராசரியாக 25 முதல் 30 மாணவியர் வரை பயிலக்கூடிய பெண்களுக்கான 23 பள்ளிகளை நிறுவினார். மற்றொரு குறிப்பிடத்தக்க நிகழ்வு, ஜான் எலியட் டிரிங்க்வாட்டர் பெத்துன் என்பவரால் கல்கத்தாவில் நிறுவப்பட்ட பெத்துன் பள்ளி (1849). அவரது மரணத்திற்குப் பிறகு இப்பள்ளி அரசாங்கத்தால் ஏற்று நடத்தப்பட்டது. பின்னர் இது 1879இல் பெண்களுக்கான முதல் உயர்கல்வி அளிக்கும் நிறுவனமாக மாறியது.

பம்பாய்:

போர்வீரர்களின் பெண் குழந்தைகளுக்குக் கல்வி வழங்கும் நோக்கத்துடன் அமெரிக்கர் சங்கம் 1824இல் பெண்களுக்கானப் பள்ளியை நிறுவியது. 1829–'30களில் டாக்டர் வில்சன் என்பாரும் மேடம் வில்சனும் பம்பாயில் பெண்களுக்கென ஆறு பள்ளிகளைத் திறந்தனர். ஜோதிபா புலே பூனாவில் காலங்காலமாக ஓரங்கட்டப்பட்டிருந்த சமூகத்தைச் சேர்ந்த பெண் குழந்தைகளுக்காகவே ஒரு முன்னோடிப் பள்ளியை (1848) நிறுவினார். 1889இல் பூனாவில் கார்வே என்ற பேராசிரியர் இந்து விதவைகளுக்கென ஒரு பள்ளியைத் தொடங்கினார். இது 1916இல் மகளிர் பல்கலைக்கழகமாக (Shreemati Nathibai Damodar Thackersey Women's University – SNDT) உருவானது. பம்பாயில் இருந்த பார்சி வகுப்பினர் பெண்கள் கல்வியில் தீவிர ஆர்வம் காட்டினர். 1913ஆம் ஆண்டில் பம்பாயிலிருந்த பெண்களுக்கான பத்து உயர்நிலைப் பள்ளிகளில் எட்டு பள்ளிகள் பார்சி வகுப்பினரால் நடத்தப்பட்டன. 1926இல் அகில இந்திய மகளிர் மாநாடு முழுக்கமுழுக்க பெண்களால் நிர்வகிக்கப்படும் ஒரு கல்லூரியைத் தொடங்கத் தீர்மானித்தது. இந்தக் கல்லூரிதான் டெல்லியில் உள்ள இர்வின் சீமாட்டி கல்லூரி ஆகும்.

SNDT மகளிர் பல்கலைக்கழகம், பூனா

இர்வின் சீமாட்டி கல்லூரி, டெல்லி

தமிழ்நாடு:

சீகன்பால்கு

சமயப்பரப்புக்குழுக்களின் கல்விப் பணியானது, தமிழ்நாட்டில் ஜெர்மன் லூத்தரன் சமயப் பரப்பாளர் பார்த்தலோமஸ் சீகன்பால்கு மற்றும் ஹென்றிச் ப்ளுட்சோ என்ற அவரது மூத்த சக ஊழியர், 1706 ஜூலை 9 அன்று இந்தியா வந்ததிலிருந்து தொடங்கின. புராட்டஸ்டன்ட் மதத்திற்குச் சேவை செய்வதே அவர்களின் நோக்கமாக இருந்தாலும், தரங்கம்பாடியில் டேனிஷ் குடியேற்றத்தில் பள்ளிகளை நிறுவினர். இது ஒரு முன்னோடி முயற்சியாகும். இது பின்னர் இதர கிறித்தவ சமயக் குழுக்களால் பின்பற்றப்பட்டது. சீகன்பால்கு தமிழ் கற்றுக் கொண்டு பைபிளைத் தமிழில் மொழிபெயர்த்தார். ஜெர்மனியில் இருந்து அச்சு இயந்திரம் ஒன்றினை இறக்குமதி செய்து கிறித்தவ இலக்கியங்களை அச்சிட்டு வெளியிடவும் ஏற்பாடு செய்தார்.

சென்னை மாகாணத்தில், 1822ஆம்ஆண்டு மேற்கொள்ளப்பட்ட ஒரு கணக்கெடுப்பின்படி 1, 84, 110 மாணவர்களுடன் 12,498 அனைத்து வகையிலுமான கல்வி நிறுவனங்கள் இருந்தன. கல்வியின் நிலையானது இங்கிலாந்தை ஒப்பிடும்போது குறைவாக

5_History_Unit-5_TM.indd 58 03/04/2023 13:27:07

இருந்தாலும், பெரும்பாலான ஐரோப்பிய நாடுகளை விட உயர்வாக இருப்பதாக சர் தாமஸ் மன்ரோ (சென்னை மாகாண கவர்னர், 1820–27) குறிப்பிடுகிறார்.

சென்னையில் ஸ்காட்லாந்து நாட்டைச் சேர்ந்த ரெவரன்ட் லாரி, ரெவரன்ட் போவி என்ற இரண்டு மதகுருமார்கள், 1835ஆம் ஆண்டு எழும்பூர் செயின்ட் ஆண்ட்ரூஸ் தேவாலயத்திற்கு அருகில் ஒரு பள்ளியைத் தொடங்கினர். இந்த பள்ளி பின்னர் 1837இல் பிளாக்டவுனுக்கு (1911இலிருந்து ஜார்ஜ்டவுன்) மாற்றப்பட்டது. அப் பள்ளியில் 59 மாணவர்கள் பயின்று வந்தனர். 1862ஆம் ஆண்டில், ரெவரன்ட் வில்லியம் மில்லர் இப்பள்ளியைக் கல்லூரியாகத் தரம் உயர்த்தினார். இதுதான் தாம்பரத்தில் தற்போது உள்ள சென்னை கிறித்தவக் கல்லூரி ஆகும். ஆங்கிலக் கல்வியின் முக்கியத்துவத்தை உணர்ந்த சென்னை நகரத்தில் வசித்த உயர்தட்டு மக்கள் மேற்கத்தியக் கல்வி அனைவருக்கும் கிடைக்கவேண்டி 1839இல் அரசாங்கத்திடம் மனு ஒன்றினை அளித்தனர். அதன் பிரதிபலனாக 1840இல் எழும்பூரில் ஒரு உயர்நிலைப் பள்ளி நிறுவப்பட்டது. அது 1857இல் கல்லூரியாகத் தரம் உயர்த்தப்பட்டது. அதுவே இன்றிருக்கும் சென்னை மாநிலக் கல்லூரி ஆகும்.

சென்னை கிறித்தவக் கல்லூரி

சென்னை மாநிலக் கல்லூரி

உங்களுக்குத் தெரியுமா?

திருச்சிராப்பள்ளியில் 1838ஆம் ஆண்டு புனித சிலுவை சகோதரிகள் செயின்ட் ஜோசப் (புனித சூசையப்பர்) ஆங்கிலோ–இந்தியன் பள்ளியை நிறுவினர். 1844ஆம் ஆண்டு ஜெசூட்கள் (இயேசு சபையினர்) செயின்ட் ஜோசப் (புனித சூசையப்பர்) கல்லூரியை நிறுவினர். திருநெல்வேலியில் கிறிஸ்டியன் மிஷன் சொசைட்டி 1844ஆம் ஆண்டு ஒரு பள்ளியைத் தொடங்கியது. அது 1876ஆம் ஆண்டில் ஒரு கல்லூரியாக (அப்போது C.M.S. கல்லூரி, தற்போது புனித யோவான் கல்லூரி) தரம் உயர்த்தப்பட்டது.

பிரிட்டிஷ் அரசின்கீழ் உயர்கல்வியில் ஏற்பட்ட முன்னேற்றம்

கிழக்கிந்தியகம்பெனியின்அரசாங்கத்தையும் அதன் கீழிருந்த பிரதேசங்களையும் பிரிட்டிஷ் அரசின் நேரடிக் கட்டுப்பாட்டிற்கு பிரிட்டிஷ் பாராளுமன்றம் மாற்றிய பின்பு, கல்வி விவகாரங்களில் கம்பெனியின் கொள்கையையே அரசின் கொள்கையாகத் தொடர்ந்தது. பல்கலைக்கழகக் கல்வியின் வெற்றியும், நிர்வாகத்திலும் நீதிமன்றங்களிலும் படித்த இந்தியர்களுக்கான தேவை அதிகரித்ததும் அதிக எண்ணிக்கையிலான கல்லூரிகள் மற்றும் பல்கலைக்கழகங்களைத் துவங்குவதற்கு ஊக்கமளித்தன. அதேசமயம் பாரசீக மொழியானது நீதிமன்ற மொழியாகவும் நிர்வாக மொழியாகவும் இருந்தபோது, நீதிமன்றங்களிலும் அலுவலகங்களிலும் அதிக வேலைவாய்ப்புப் பெற்றிருந்த இஸ்லாமியர்கள், அங்கெல்லாம் ஆங்கிலம் அலுவலக மொழியாக மாறியதால் தங்களின் வேலைவாய்ப்பை இழந்தனர். இந்த நேரத்தில்தான் சர் சையது அகமது கான் அலிகாரில் முகமதிய–ஆங்கிலோ பள்ளியை (1875) நிறுவினார். இது இறுதியில் அலிகார் முஸ்லிம் பல்கலைக்கழகமாக(1920) வளர்ந்தது. இருபதாம் நூற்றாண்டின் இரண்டாம் பத்தாண்டுகளில், சேட்லர் கல்விக்குழுவின் அறிக்கையைத் (1917) தொடர்ந்து பல முக்கிய நகரங்களில் பல்கலைக்கழகங்கள் தொடங்கப்பட்டன. நல்லுள்ளம் கொண்ட கொடையாளிகளின் முன்முயற்சிகளால், இணைப்புக் கல்லூரிகள் ஏதுமற்ற விடுதியுடன் கூடியப் பல்கலைக்கழகங்கள் பல



அலிகார் முஸ்லிம் பல்கலைக்கழகமும் சர் சையது அகமது கானும்

5_History_Unit-5_TM.indd 59 03/04/2023 13:27:08

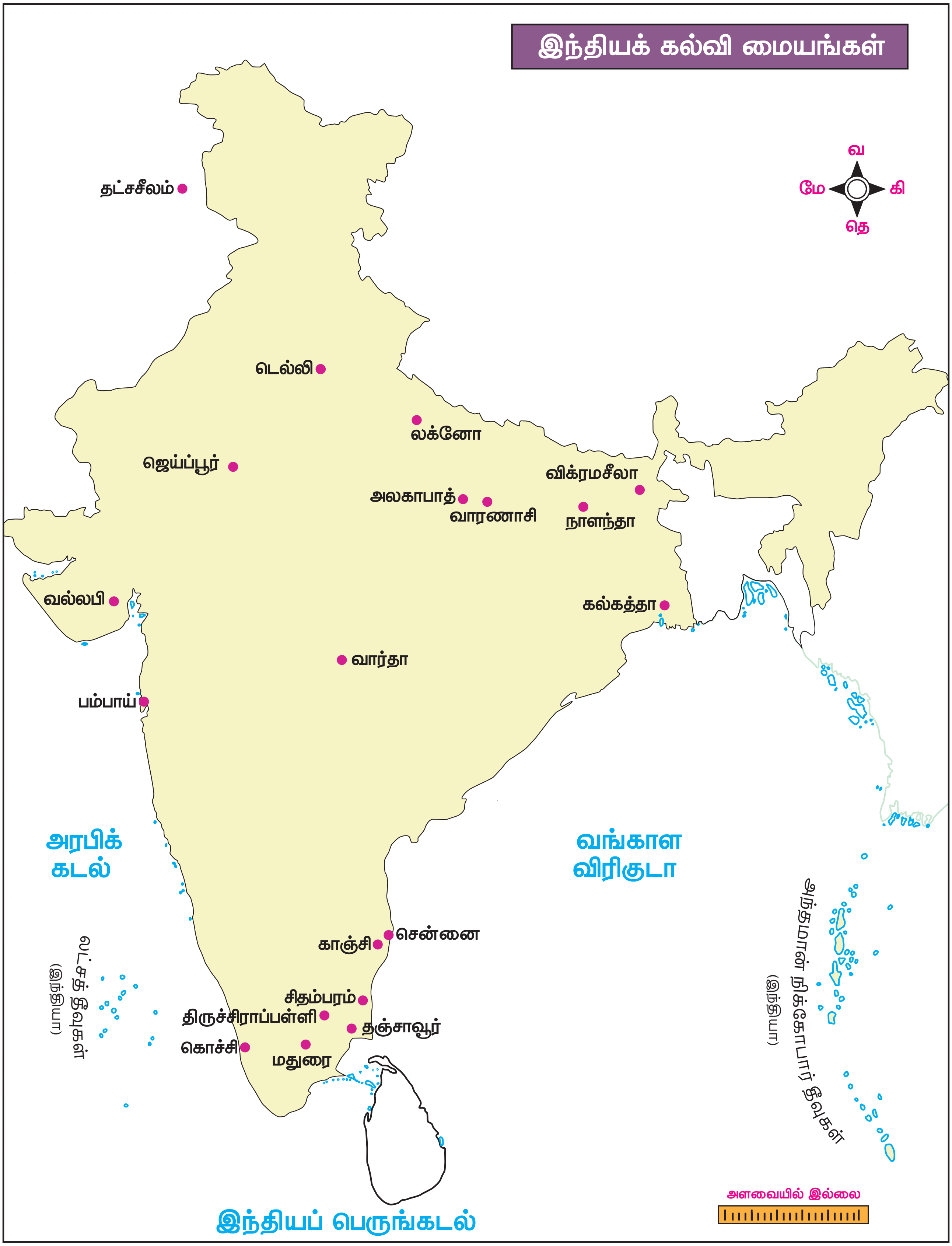

5_History_Unit-5_TM.indd 60 03/04/2023 13:27:08

தொடங்கப்பட்டன. இதற்குக் குறிப்பிடத்தக்க ஓர் எடுத்துக்காட்டாய் விளங்குவது பெங்களூருவில் உள்ள ஜாம்ஷெட்ஜி டாடாவின் இந்திய அறிவியல் கழகம் (1909). துபாஷ் பச்சையப்பர் பெயரால் மதராஸில் 18ஆம் நூற்றாண்டில் துவங்கப்பட்ட பச்சையப்பன் பள்ளி (1845) பின்னர் 1880இல் கல்லூரியாகத் தரம் உயர்த்தப்பட்டது. தமிழ்நாட்டில் அண்ணாமலைப் பல்கலைக்கழகம் 1929இல் நிறுவப்பட்டது.



ஜாம்ஷெட்ஜி டாடா



வள்ளல் பச்சையப்பர்

கல்வி பரவல்

உயர்தர மற்றும் நடுத்தர வர்க்கத்தினரின் பாதுகாவலனாக, கல்லூரிகள் மற்றும் பல்கலைக்கழகங்கள் வழங்குகின்ற கல்வி அமைந்திருந்தது. காந்தியடிகள் வார்தா கல்வித்திட்டத்தைக் கொண்டு வந்தார். வார்தா கல்வித்திட்டம் அனைவருக்கும் அடிப்படையான தொடக்கக் கல்வியையும் கைத்தொழில் சிலவற்றைக் கற்பிப்பதையும் நோக்கமாகக் கொண்டிருந்தது. மாணவர்கள் தாங்களே உற்பத்தி செய்யும் பொருள்களின் விற்பனையின் மூலம் கிடைக்கும் பணத்தால் அவர்களுக்கான இலவச, கட்டாயக் கல்வி சாத்தியமாகும் என்று நம்பப்பட்டது. எவ்வாறாயினும், ஆரம்பக் கல்வியை வழங்குவதற்கானப் பொறுப்பை உள்ளூர் மற்றும் நகராட்சி அமைப்புகள் வழங்கவேண்டும் என நிர்ணயித்த ஹண்டர் ஆணையத்தின் பரிந்துரையானது மாகாணங்களில் (1921–1937) இரட்டையாட்சி செயல்பாட்டில் இருந்தபோது சாத்தியமானது. 6–11 வயதுக்குட்பட்ட அனைத்து இந்தியக் குழந்தைகளுக்கும் இலவச மற்றும் கட்டாயக் கல்வியை அறிமுகப்படுத்திய சார்ஜென்ட் கல்விக்குழுவின் திட்டத்தை (1944) நாட்டில் செயல்படுத்த நாம் சுதந்திரம் பெறும்வரைக் காத்திருக்க வேண்டியிருந்தது.

சுதந்திர இந்தியாவில் கல்வி

1951இல் 18.3 விழுக்காடு மக்கள் மட்டுமே கல்வியறிவு பெற்றிருந்தனர். ஆண்களின் கல்வியறிவு 27.2 விழுக்காடாகவும் பெண்களின் கல்வியறிவு 8.9 விழுக்காடாகவும் இருந்தது. 1950–51இல் உயர்கல்வி நிறுவனங்களில் இரண்டு லட்சம் மாணவர்கள் சேர்ந்திருந்தனர். உயர்கல்வியின் தரத்தைப் பேணுவதற்காக 1956ஆம் ஆண்டு பல்கலைக்கழக மானியக்குழு அமைக்கப்பட்டபோது 58 பல்கலைக்கழகங்கள் செயல்பாட்டில் இருந்தன. தேசிய அரசு டாக்டர் இராதாகிருஷ்ணன் கல்விக் குழுவையும் (1948) டாக்டர் லட்சுமணசுவாமி முதலியார் (1952–'53) தலைமையில் இடைநிலைக் கல்விக்கான குழுவையும் கோத்தாரி ஆணையத்தையும் (1964) நியமித்ததில் அவை நாட்டின் கல்விமுறையை நவீனமயமாக்குவதற்கான நடவடிக்கைகள் பலவற்றைப் பரிந்துரைத்தன.

டாக்டர் இராதாகிருஷ்ணன்

டாக்டர் லட்சுமணசுவாமி முதலியார்


கோத்தாரி

கோத்தாரி ஆணையத்தின் முக்கியப் பரிந்துரைகள்: 1.10+2+3 கல்விமுறை 2.இடைநிலைக் கல்வியைத் தொழில் கல்வியாக்கல் 3.பொதுப்பள்ளிக்கல்விமுறையில் செயல்படும் பள்ளிகளில் 5ஆம் வகுப்புவரை மாணவர்கள் தங்கள் தாய்மொழியில் கற்கலாம் 4.6–14 வயதுள்ள குழந்தைகளுக்கு இலவச, கட்டாயக் கல்வி 5. மத்திய அரசு தனது மொத்த உள்நாட்டு உற்பத்தியில் குறைந்தபட்சம் ஆறு விழுக்காட்டினையாவது கல்வித்துறையில் முதலீடு செய்யவேண்டும் போன்றவையாகும்

அறிவியல், தொழில்நுட்பக் கல்வி

இதற்கிடையில், நாட்டில் பெருமளவு புறக்கணிக்கப்பட்ட அறிவியல் மற்றும் தொழில்நுட்பத் துறையினை வலுப்படுத்தும் நடவடிக்கைகளை இந்திய அரசு மேற்கொண்டது. மூன்று ஐந்தாண்டுத்

5_History_Unit-5_TM.indd 61 03/04/2023 13:27:08

திட்டகாலங்கள் முடிவதற்குள் ஐந்து ஐஐடி'கள், பல்வேறு சிறப்புமிக்க ஆராய்ச்சிப் பிரிவுகளில் 17 தேசிய ஆய்வகங்கள், அறிவியல் மற்றும் தொழில்துறை ஆராய்ச்சி கவுன்சில் (சிஎஸ்ஐஆர்), பாதுகாப்பு ஆராய்ச்சி மற்றும் மேம்பாட்டு நிறுவனம் (டிஆர்டிஓ), அணு ஆராய்ச்சி மையம் ஆகியவை நிறுவப்பட்டன. அதன்பின் 1983இல் ஆசிரியர் கல்விக்காக டி.பி. சட்டோபாத்யாயா குழு, 1986இன் தேசிய கல்விக்கொள்கை ஆணையம், 1990இல் அமைக்கப்பட்ட ஆச்சார்யா ராமமூர்த்தி மீளாய்வுக்குழு, யஷ்பால் குழு 1993, டி.எஸ். ஆர். சுப்பிரமணியன் ஆணையம்(2015) ஆகியவை மாறிவரும் காலத்திற்கேற்பப் பாடத்திட்டத்தில் மாற்றங்களைச் செய்யும் நோக்கத்துடன் அமைக்கப்பட்டன. அவை கல்வி மேம்பாட்டிற்காகப் பல பரிந்துரைகளை வழங்கியுள்ளன.

சென்னை ஐஐடி

இன்று வரையிலான வளர்ச்சி

மேலே குறிப்பிட்ட கல்விக் குழுக்கள், கமிட்டிகளின் அறிக்கைகளின் அடிப்படையிலும், மத்திய, மாநில அரசுகள் தொடர்ந்து மேற்கொண்ட முன்னெடுப்பு நடவடிக்கைகளாலும் தகுதி அடிப்படையில் மட்டுமன்றி கல்வியில் பின்தங்கிய வசதியற்ற குடும்பச் சூழலிலிருந்து வரும் மாணவர்கள் என்ற அடிப்படையிலும் கல்வி உதவித்தொகை, இலவசச் சீருடை மற்றும் மதியஉணவுத் திட்டங்கள், பட்டப்படிப்புப் பயில்வோருக்குக் கல்விக் கட்டணத்தில் தள்ளுபடி ஆகியவற்றின் மூலமும் மாணவர் சேர்க்கை விகிதம் இன்று அதிகரித்திருப்பதால் பள்ளிகளில் இடைநிற்றலின் விகிதம் கணிசமான அளவில் குறைந்துள்ளது. இதனால் ஆண்களின் கல்வியறிவு 2019–21இல் 84.4% ஆகவும் (1951இல் இது 27.2% மட்டுமே) பெண்களின் கல்வியறிவு 71.5% ஆகவும் (1951இல் இது 8.9% மட்டுமே) இருந்தது. 2018இல் சுமார் 36.6 மில்லியன் மாணவர்கள் 907 உயர்கல்வி நிறுவனங்களில் சேர்ந்திருந்தனர் (1956இல் உயர்கல்வி நிறுவனங்கள் 58 மட்டுமே).

மீள்பார்வை

- பழங்காலத்தில் ஆசிரமங்களிலும் துறவிகள் வாழிடங்களிலும் மாணவர்களுக்கு வேத பாடல்கள் மனப்பாடமாகக் கற்றுத் தரப்படல்.
- குருகுல முறையில் கல்வியானது கற்றோர் குடியிருப்புகளிலும் தனியார் இல்லங்களிலும் வழங்கப்படல்.
- இடைக்காலத்தில் முறையான கல்வி கற்பிக்குமிடமாக கோவில்களும் மடங்களும் இருத்தல்.
- மக்தாப்கள் (இஸ்லாமியப் பள்ளிகள்), மதரசாக்கள் (உயர்கல்வி நிறுவனங்கள்) போன்ற இஸ்லாமிய கல்வி நிறுவனங்கள் பாரபட்சமின்றி அனைவருக்கும் கல்வி வழங்குதல்
- கவர்னர் ஜெனரல்கள் வாரன் ஹேஸ்டிங்ஸ், காரன்வாலிஸ் ஆகியோர் கீழைநாட்டுக் கல்வியை ஊக்குவித்தல்.
- நவீன கல்வி, குறிப்பாகப் பெண் கல்விக்கு கிறித்தவ மறை ஊழியர்களின் பங்களிப்பு.
- தேசிய அரசின் நவீன கல்விக்கான நடவடிக்கைகள்:

  டாக்டர் இராதாகிருஷ்ணன் கல்விக் குழு (1948)

  டாக்டர் லட்சுமணசுவாமி முதலியார் கல்விக் குழு (1952)

  கோத்தாரி கல்விக் குழு (1964)
- கல்வியில் முன்னேற்றம்: இந்தியா சுதந்திரம் அடைந்தபோதிருந்த கல்வி நிலையோடு இருபத்தோறாம் நூற்றாண்டின் இரண்டாம் பத்தாண்டுகளின் இறுதியில் நிலவிய கல்விநிலை பற்றிய ஒப்பீடு.

5_History_Unit-5_TM.indd 62 03/04/2023 13:27:08

கலைச்சொற்கள்		
பிறர் நலனுக்கு உழைப்பவர், கொடையாளி, நன்கொடையாளார்.	Philanthropist	refers to someone who makes donations to charities intended to increase human well being
இஸ்லாமிய கிரந்தங்கள்	Hadith	a collection of traditions containing sayings of the prophet Muhammad with accounts of his daily practices
துறவிகள் வாழ்விடம்	Hermitage	refers to the abode of a hermit
இஸ்லாமியச் சட்ட நிபுணர்	Maulvi	expounder of Muhammadan law, Muslim theologian
அறிவாளி	Savant	Genius
வலியுறுத்துதல்	Reiterated	restated
தள்ளுபடி செய்தல்	Waiving	refraining from insisting on
இந்திய மொழிபெயர்ப்பாளர்	Dubash	an Indian translator or interpreter

மதிப்பீடு

I சரியான விடையைத் தேர்ந்தெடுக்கவும்

1. வாரணாசியில் இருந்த குருகுலக் கல்வி முறைக்கான சான்றுகளை வழங்கியவர் யார்?

அ) நிகிடின் ஆ) யுவான் சுவாங்

இ) டொமிங்கோ பயஸ் ஈ) பெர்னியர்

2. வங்காளத்தில் அரசர் தர்மபாலரால் நிறுவப்பட்டப் பல்கலைக்கழகம் எது?

அ) தட்சசீல பல்கலைக்கழகம்

ஆ) விக்ரமசீல பல்கலைக்கழகம்

இ) பனாரஸ் பல்கலைக்கழகம்

ஈ) நாளந்தா பல்கலைக்கழகம்

3. யாருடைய ஆட்சியின் போது சீனத்துறவி யுவான் சுவாங் காஞ்சிபுரத்திற்கு வருகை புரிந்தார்?

அ) இரண்டாம் சந்திரகுப்தர்

ஆ) மகேந்திர பல்லவன்

இ) முதலாம் நரசிம்ம பல்லவன்

ஈ) ஹர்ஷ வர்த்தனர்

4. நாளந்தாவை உலகப் பாரம்பரியச் சின்னமாக யுனெஸ்கோ எந்த ஆண்டு அறிவித்தது?

அ) 2006 ஆ) 2007

இ) 2008 ஈ) 2009

5. கல்கத்தாவில் முதல் மதரசாவை நிறுவிய கவர்னர் ஜெனரல் யார்?

அ) வாரன் ஹேஸ்டிங்ஸ்

ஆ) ராபர்ட் கிளைவ்

இ) வில்லியம் பென்டிங்

ஈ) ரிப்பன்

6. காலங்காலமாக ஓரங்கட்டப்பட்டிருந்த சமூகப் பெண்களுக்கெனப் பள்ளி ஒன்றை நிறுவியவர் யார்?

அ) ஜோதிபா புலே

ஆ) ராஜா ராம்மோகன் ராய்

இ) கேசவ சந்திர சென்

ஈ) சர் சையது அகமது கான்

7. ஜெர்மானிய சமயப் பரப்பாளர் பார்த்தலோமஸ் சீகன்பால்கு, தமிழ்நாட்டில் எங்கு முதல் பள்ளியை நிறுவினார்?

அ) தரங்கம்பாடி

ஆ) திருநெல்வெலி

இ) தஞ்சாவூர்

ஈ) திருச்சிராப்பள்ளி

5_History_Unit-5_TM.indd 63 03/04/2023 13:27:08

II கோடிட்ட இடங்களை நிரப்புக

1. அந்தணர் மற்றும் அரச குலத்தோரின் மகள்கள், மகன்கள் மட்டுமே -------- இந்தியாவில் கல்வி கற்க முடிந்தது.
2. பாப்டிஸ்ட் மிஷன் கல்லூரி 1818இல் ------ என்ற இடத்தில் தொடங்கப்பட்டது.
3. பேராசிரியர் கார்வே ________ வில் இந்து விதவைகளுக்காக ஒரு பள்ளியைத் தொடங்கினார்.
4. அகில இந்திய மகளிர் மாநாடு தீர்மானம் இயற்றி -------- கல்லூரியை டில்லியில் தொடங்கியது.
5. முதல் இடைநிலைக் கல்விக்குழுவின் தலைவர் ---------- ஆவார்.

III பொருத்துக

1. பல்கலைக்கழக மானியக் குழு	–	அ) 1964
2. கோத்தாரி கல்விக் குழு	–	ஆ) ஆங்கிலக் கல்வி
3. மெக்காலே	–	இ) பெங்களூரு
4. இலவச, கட்டாயக் கல்வி	–	ஈ) 1956
5. டாடாவின் இந்திய அறிவியல் கழகம்	–	உ) 6–14 வயது வரை

IV சரியா / தவறா எனக் குறிப்பிடுக

1. சிந்துவெளி எழுத்துக்களும் கீழடியில் அகழ்ந்தெடுக்கப்பட்ட பானையோடுகளில் பொறிக்கப்பட்ட எழுத்துக்களும் ஒன்றே என்பதை வெளிக்காட்ட நமக்குச் சான்றுகள் கிடைத்துள்ளன.
2. நாலடியார் சமணர் வழங்கிய நூலாகும்.
3. உப–நி–ஷத் என்ற சொல்லுக்கு, 'ஒருவருக்கு அருகில் உட்காருதல்' என்று பொருள்.
4. புத்தர், மகாவீரர் மற்றும் கோசலர் ஆகியோர் வேதங்களின் மேலாதிக்கத்திற்கு எதிராகக் கிளர்ச்சி செய்தனர்.
5. நாளந்தா ஒரு சிறந்த வேதக் கல்விமையமாக இருந்தது.

V பின்வருவனவற்றுள் சரியானவற்றைத் தேர்ந்தெடு

i) சமஸ்கிருதக் கல்வியானது வேதங்கள், உபநிடதங்கள், தர்ம சாஸ்திரங்கள் மற்றும் காவியங்களைப் பயிற்றுவித்தது.

ii) வாரணாசியில் இருந்த குருகுலக் கல்வி முறையில், ஆசிரியர்கள் தங்கள் இல்லங்களில் கற்பித்தார்கள்.

iii) பல்கலைக்கழகவளாகப் பாணியில் மடாலயங்கள் கட்டப்பட்டிருந்தன.

iv) குருகுலக் கல்வி முறையில் ஆசிரியர்கள் மன்னர்களின் மானியங்களால் பயனடைந்தனர்.

அ) i) மற்றும் ii) சரியானவை

ஆ) ii) மற்றும் iv) சரியானவை

இ) iii) மற்றும் iv) சரியானவை

ஈ) i) மற்றும் iii) சரியானவை

VI பின்வரும் வினாக்களுக்கு ஓரிரு வாக்கியங்களில் விடையளி

1. புறநானூறு, கல்வியின் முக்கியத்துவம் குறித்துக் கூறுவதை எழுதவும்
2. தமிழ் இலக்கியத்திற்குச் சமணர்களின் பங்களிப்பினை எடுத்துரைக்க.
3. நாளந்தா பல்கலைக்கழகம் பற்றி உங்களுக்கு தெரிவது யாது?
4. இடைக்கால இந்தியாவில் இஸ்லாமியக் கல்வியின் சாராம்சத்தைச் சுட்டிக் காட்டவும்.
5. காந்தியடிகளின் வார்தா கல்வித் திட்டம் என்றால் என்ன?

VII கீழ்க்கண்டவற்றிற்கு ஒரு பத்தி அளவில் விடையளி

1. சமண, பௌத்த மடாலயங்களில் கல்வியின் முக்கியக் கூறுகளைப் பற்றி விவாதிக்கவும்.
2. மெக்காலேயின் புகழ்பெற்ற அறிக்கை பற்றி சுருக்கமாக எழுதுக.

5_History_Unit-5_TM.indd 64 03/04/2023 13:27:08

3. விடுதலைக்குப் பிறகு இந்திய அரசால் அறிவியல் மற்றும் தொழில்நுட்ப மேம்பாட்டிற்காக அமைக்கப்பட்ட நிறுவனங்கள் யாவை?

4. கோத்தாரி கல்விக் குழுவின் முக்கியமானப் பரிந்துரைகளைச் சுட்டிக்காட்டுக.

VIII உயர் சிந்தனை வினா

1. பிரிட்டிஷ் இந்தியாவில் நவீன கல்வி வளர்ச்சியில் கிறித்தவ மறைக் குழுவினரின் பங்கினை மதிப்பிடுக.

IX கீழ்க்காணும் இடங்களை இந்திய வரைபடத்தில் குறிக்கவும்

1. நாளந்தா	2. திருச்சிராப்பள்ளி
3. மதுரை	4. காஞ்சிபுரம்
5. விக்ரமசீலா	6. டெல்லி
7. வாரணாசி	8. பம்பாய்
9. கல்கத்தா	10. சென்னை

X. செயல்திட்டம் மற்றும் செயல்பாடு

1. பண்டைய மற்றும் இடைக்கால இந்தியாவில் வேத, சமண, பௌத்த, இஸ்லாமியக் கல்வி நிறுவனங்களின் படங்களைச் சேகரித்து செருகேடு (album) ஒன்றினைத் தயாரிக்கலாம்.

2. ஆங்கிலேயர் காலத்து கல்வி முறைக்கு ஆதரவாகவும் எதிராகவும் மாணவர்கள் பங்குபெறும் விவாதங்களை நடத்தலாம்.

மேற்கோள் நூல்கள்

1. Abraham Eraly, *Gem in the Lotus, Penguin, 2002*
2. Abraham Eraly, *The Age of Wrath: A History of the Delhi Sultanate, Penguin, 2014*
3. Burton Stein, *A History of India, Oxford University, 2004*
4. M.A. Laird, “The Contribution of Christian Missionaries to Education in Bengal”, 1795-1857, Ph.D. thesis submitted to School of Oriental and African Studies,1 968.
5. L.S.S. O’Malley, *Modern India and the West,* Oxford University Press, 1968
6. Romila Thapar, *Early India: From the Origins to* A.D. 1300, Penguin, 2002
7. Sulochana Krishnamoorthy, “Development of Education for Women in Bombay under British Raj”, *Proceedings of the Indian History Congress*, Vol.64 (2003), pp. 1110-1115.

இணையதள ஆதாரங்கள்

1. The Post–Independence India: The Education, https://www.britanica.com
2. UGC Annual Report 2018–19 in http://14/139.60.153
3. www.wikicommons

இணையச் செயல்பாடு **இந்தியாவில் கல்வி வளர்ச்சி**

படி – 1 URL அல்லது QR குறியீட்டினைப் பயன்படுத்தி இச் செயல்பாட்டிற்கான இணையப் பக்கத்திற்கு செல்க.

படி – 2 தேடு பொறியில் Education in India' என்று தட்டச்சு செய்யவும்

படி –3 காலக்கோடு நிகழ்வுகளை பட விளக்கத்துடன் அறிவதற்கு அடிப்பகுதியில் உள்ள 'Timeline Bar' ஐ இழுத்து விடவும்

உரலி: **https://www.timetoast.com/categories**

5_History_Unit-5_TM.indd 65 03/04/2023 13:27:09

அலகு – 6

இந்தியாவில் தொழிலகங்களின் வளர்ச்சி



கற்றலின் நோக்கங்கள்

- இந்தியாவின் பாரம்பரிய கைவினைத் தொழில்கள் பற்றி அறிதல்
- இந்திய தொழிலகங்களின் வீழ்ச்சிக்கான காரணங்களைப் பகுப்பாய்வு செய்தல்
- நவீன தொழிலகங்களின் தொடக்கத்தைப் புரிந்து கொள்ளுதல்
- ஐந்தாண்டு திட்டங்களின் நோக்கம் பற்றி தெரிந்து கொள்ளுதல்
- இந்தியாவில் தொழிற்துறை வளர்ச்சியின் பல்வேறு கட்டங்களைப் புரிந்து கொள்ளுதல்

KU19T

அறிமுகம்

இந்திய தொழில்களின் வரலாறு மனிதகுல வரலாற்றிலிருந்தே தொடங்குகிறது. விவசாயமும் கைவினைப் பொருட்கள் கலந்த கலவையாகவே இந்திய பாரம்பரிய பொருளாதாரம் காணப்பட்டது. எட்வர்ட் பெயின்ஸ் என்பவர் "பருத்தி உற்பத்தியின் பிறப்பிடம் இந்தியா என்றும் அது உண்மையான வரலாற்று காலத்திற்கு முன்பே செழித்தோங்கி இருந்தது" என்றும் குறிப்பிடுகிறார். முகலாய பேரரசர் ஷாஜஹான் ஆட்சியின்போது இந்தியாவிற்கு வருகை தந்த பெர்னியர், இந்தியாவில் நம்பமுடியாத எண்ணிக்கையில் பொருட்கள் உற்பத்தி செய்யப்பட்டதைக் கண்டு வியப்படைந்தார். பிரெஞ்சு நாட்டு பயணி தவர்னியர் இந்தியாவில் உள்ள மயிலாசனம், பட்டு மற்றும் தங்கத்தினாலான தரைவிரிப்புகள், சிறிய அளவிலான சிற்ப வேலைப்பாடுகளையும் கண்டு வியப்படைந்தார்.

இந்தியாவின் பாரம்பரிய கைவினைப் பொருட்கள்

இந்தியாவின் கைவினைப் பொருட்கள் ஒரு சிறந்த வரலாற்றைக் கொண்டுள்ளன. கைவினைப் பொருட்கள் இந்திய மக்களின் வாழ்க்கையில் ஒருங்கிணைந்த ஒரு பகுதியாக இருந்தன. இயந்திரமயமாக்கப்பட்ட தொழிற்சாலைகள் வருவதற்கு முன்னர், இந்திய கிராமங்களில் விவசாயத்திற்கு அடுத்த நிலையில் கைவினைத் தொழில் பெரிய வேலை வாய்ப்பாக இருந்தது. நெசவு, மரவேலை, தந்தவேலை, மதிப்புமிக்க கற்களை வெட்டுதல், தோல், வாசனை மரங்களில் வேலைப்பாடுகள் செய்தல், உலோக வேலை மற்றும் நகைகள் செய்தல் ஆகிய பாரம்பரிய தொழில்களில் இந்தியா மிகவும் புகழ்பெற்று விளங்கியது. கிராமப்புற கைவினைஞர்களான பானைத் தயாரிப்பாளர்கள், நெசவாளர்கள், உலோக வேலை செய்வோர் ஆகியோர் வீட்டுப் பயன்பாட்டிற்கான பொருட்களையும்

கைவினைப் பொருட்கள்

6_History_Unit-6 Folder.indd 66 12/3/2022 6:54:56 PM

பாத்திரங்களையும் உற்பத்தி செய்தனர். ஆனால் சில சிறப்பு வாய்ந்த பொருட்கள் உள்நாட்டு மற்றும் வெளிநாட்டு சந்தைகளுக்காக உற்பத்தி செய்யப்பட்டன. அவைகள் பருத்தித் துணிகள், மஸ்லின் துணிகள், கம்பளி, பட்டு மற்றும் உலோகப் பொருட்கள் ஆகியனவாகும். பருத்தி மற்றும் பட்டு ஆடைகளின் சிறந்த தரத்திற்கு இந்தியா பிரபலமானது. நெசவாளர்கள், தையல்காரர்கள் மற்றும் சாய தொழிலாளர்கள் ஆகியோரைப் பற்றி பல அறிவார்ந்த படைப்புகளில் குறிப்புகள் காணப்படுகின்றன. குறிப்பிட்ட சில உலோகத் தொழிற்சாலைகளுக்கான மையங்கள் நன்கு பிரபலமானவை. உதாரணமாக மணி தயாரிக்கப் பயன்படும் உலோகமான வெண்கலத்துக்கு சௌராஷ்டிரா பெயர்பெற்றது. தகரத் தொழிற்சாலைக்கு வங்காளம் புகழ்பெற்றது. மஸ்லின் ஆடைகளுக்கு டாக்கா புகழ்பெற்றது.

டாக்காவின் மஸ்லின் ஆடைகள்

கி.மு. (பொ.ஆ.மு.) 2000ஆம் ஆண்டுகள் பழமையான எகிப்திய கல்லறைகளில் உள்ள மம்மிகள் மிகச் சிறந்த தரம் வாய்ந்த இந்திய மஸ்லின் ஆடைகள் கொண்டு சுற்றப்பட்டிருந்தது கண்டுபிடிக்கப்பட்டுள்ளது.

50 மீட்டர் அளவு கொண்ட மெல்லிய இந்த மஸ்லின் துணியை ஒரு தீப்பெட்டிக்குள் அடக்கிவிடலாம்.

இந்தியத் தொழிலகங்களின் வீழ்ச்சி

அ) ஆட்சியாளர்களின் ஆதரவின்மை

இந்தியாவில் பிரிட்டிஷாரின் வெற்றியானது சுயச்சார்புடன் இருந்த இந்திய பொருளாதாரத்தை காலனித்துவ பொருளாதாரமாக மாற்றியது. பிரிட்டிஷார் இந்திய நிலப்பகுதிகளை ஒன்றன்பின் ஒன்றாக வெற்றி கொண்டதால், பூர்வீக ஆட்சியாளர்கள், உயர்குடியினர் மற்றும் நிலக்கிழார்கள் ஆகியோர் தங்கள் அதிகாரத்தையும் செல்வவளத்தையும் இழந்தனர். அரசவையில் நுண்ணிய வேலைப்பாடுகளைக் கொண்ட பொருட்களை காட்சிப்படுத்துவதும் பிற சடங்கு சம்பிரதாயங்களும் மறைந்தன. இதன் விளைவாக பூர்வீக ஆட்சியாளர்களால் ஆதரிக்கப்பட்ட கைவினைஞர்கள் தங்கள் முக்கியத்துவத்தை இழந்து ஏழைகளாயினர். பல தலைமுறைகளாக தங்கள் கைவினைத் தொழிலை மட்டுமே மேற்கொண்ட இந்திய கைவினைஞர்கள் மற்ற தொழில்களுக்கான திறமைகளை கொண்டிருக்கவில்லை.எனவே அவர்கள் அன்றாட தேவைகளை பூர்த்தி செய்ய வயல்வெளிகளில் தொழிலாளர்களாக வேலை செய்ய வேண்டியதாயிற்று. இந்த மாற்றம் விவசாயத்தின் மீது அதிக அழுத்தத்தை ஏற்படுத்தியது மற்றும் தகுதிக்கேற்ற வேலையின்மை அதிக அளவில் விவசாயத் தொழிலில் ஏற்பட்டது. விவசாயமும் வணிக பயிர்களுக்கு மாறியதால், இந்திய வேளாண் சார்ந்த தொழிலகங்கள் அழிவை நோக்கிச் சென்றன. இந்தியாவின் பல்வேறு பகுதிகளில் கிழக்கிந்திய கம்பெனியின் அரசியல் செல்வாக்குப் பரவியதால் உள்நாட்டு கைத்தொழில்களின் சிறப்பான காலம் முடிவுக்கு வந்தது எனலாம்.

ஆ) உற்பத்தியாளர், மூலப்பொருட்களின் ஏற்றுமதியாளராக மாறுதல்



நீராவி இயந்திரம்

நாட்டை புகழ்பெறச் செய்த இந்திய கைவினைப் பொருள்கள் காலனித்துவ ஆட்சியின் கீழ் சரிவைச் சந்தித்தன. பிரிட்டிஷ் ஆட்சியாளர்களால் பிரிட்டனில் இருந்து இறக்குமதி செய்யப்பட்ட இயந்திரத்தால் தயாரிக்கப்பட்ட பொருட்களின் போட்டியே இதற்கு முக்கிய காரணமாக அமைந்தது. பிரிட்டிஷ் ஆட்சியானது, இந்தியாவை தங்கள் தொழில்களுக்கான மூலப்பொருள்களின் உற்பத்தியாளராகவும், தங்களால் தயாரித்து முடிக்கப்பட்ட பொருட்களுக்கான சந்தையாகவும் மாற்றியது. மேலும்

6_History_Unit-6 Folder.indd 67 12/3/2022 6:54:57 PM

பிரிட்டிஷாரால் அறிமுகப்படுத்தப்பட்ட ரயில்வே மற்றும் சாலைகளானது முடிவுற்ற பொருட்களை இந்தியாவின் தொலைதூர பகுதிகளுக்குக் கொண்டு செல்லவும் பல்வேறு பகுதிகளிலிருந்து மூலப்பொருட்களைக் கொள்முதல் செய்யவும் வாய்ப்பை ஏற்படுத்தியது.

இ) இயந்திரத்தால் தயாரிக்கப்பட்ட பொருட்களின் போட்டி

இந்தியாவின் பழமையான தொழில் நெசவுத் தொழிலாகும். இந்திய நெசவாளர்களின் மிகவும் சிறப்பு வாய்ந்த திறன்கள் மற்றும் குறைந்த உற்பத்தி செலவு ஆகியவை ஐரோப்பிய உற்பத்தியாளர்களுக்கு கடுமையான போட்டியை அளித்தன. இப்போட்டி இங்கிலாந்தில் காட்டன் ஜின், பறக்கும் எறிநாடா, நூற்கும் ஜென்னி மற்றும் நீராவி இயந்திரம் ஆகியவை கண்டுபிடிப்பதற்கும், அவை நெசவு உற்பத்தியை பெரிய அளவில் உருவாக்கவும் உதவியது. பிரிட்டனில் உற்பத்தியான பொருட்களின் சந்தையாக இந்தியா மாறியது. இதன் விளைவாக பகுதிநேர வேலையாக நூற்பு மற்றும் நெசவு மூலம் தங்கள் வருமானத்தை ஈடுசெய்த விவசாயிகள் தற்போது பயிரிடுவதை மட்டுமே சார்ந்திருக்க வேண்டியதாயிற்று. அதனால் அவர்கள் தங்கள் வாழ்வாதாரத்தை இழந்தனர். மேலும் பழமையான தொழில்நுட்பங்களுடன் தயாரிக்கப்பட்ட இந்தியப் பொருட்கள் இங்கிலாந்தில் இயந்திரங்களால் முடிக்கப்பட்ட பொருட்களுடன் போட்டியிட முடியவில்லை.



நெசவாலை

தாதாபாய் நௌரோஜியின் செல்வச் சுரண்டல் கோட்பாடு

ஆங்கிலேயர்கள் இந்தியாவின் வளங்களை சுரண்டுவதும் இந்தியாவின் செல்வங்களை பிரிட்டனுக்கு கொண்டு செல்வதுமே இந்திய மக்களின் வறுமைக்குக் காரணம் என்பதை முதலில் ஏற்றுக் கொண்டவர் தாதாபாய் நௌரோஜி ஆவார்.

ஈ) ஆங்கிலேயர்களின் வர்த்தகக் கொள்கை

இந்தியாவில் பிரிட்டிஷ் அரசாங்கத்தால் செயல்படுத்தப்பட்ட அனைத்து கொள்கைகளும் இந்திய உள்நாட்டு தொழில்களின் மீது மிகப்பெரிய தாக்கத்தை ஏற்படுத்தின. கிழக்கிந்திய கம்பெனியால் பின்பற்றப்பட்ட தடையில்லா வாணிபக் கொள்கை, இந்திய வர்த்தகர்கள் தங்கள் பொருட்களை சந்தை விலைக்கு குறைவாக விற்க கட்டாயப்படுத்தியது. இது பல கைவினைஞர்கள் தங்கள் மூதாதையர்களிடம் இருந்து கற்றுக் கொண்ட கைவினைத் திறமைகளை கைவிடவும் கட்டாயப்படுத்தியது. கிழக்கிந்தியக் கம்பெனியின் நோக்கமானது மலிவான விலையில் இந்திய தயாரிப்பு பொருட்களைப் பெருமளவிற்கு வாங்கி மற்ற ஐரோப்பிய நாடுகளுக்கு பெரும் லாபத்திற்கு விற்க வேண்டும் என்பதாகும். இது இந்தியப் பாரம்பரிய தொழில்களை வெகுவாக பாதித்தது. இந்தியாவின் வர்த்தக நலன்களுக்கெதிரான பாதுகாப்புக் கட்டணங்களின் கொள்கையை ஆங்கிலேயர்கள் பின்பற்றினர். பிரிட்டனுக்குக் கொண்டுசெல்லப்பட்ட இந்தியபொருட்களுக்குக் கடுமையான வரி விதிக்கப்பட்டன. அதே நேரத்தில் இந்தியாவுக்குக் கொண்டுவரப்பட்ட ஆங்கிலேய பொருட்களுக்குப் பெயரளவில் மட்டுமே வரி விதிக்கப்பட்டன.

உ) தொழில்மயம் அழிதல்

பத்தொன்பதாம் நூற்றாண்டின் முதல் பாதியில் மேற்கத்திய நாடுகள் தொழில்மயமாக்கலை அனுபவித்து வந்த அதே வேளையில் இந்தியத் தொழிற்துறையானது வீழ்ச்சியின் காலத்தைச் சந்தித்தது.

பாரம்பரிய இந்திய கைவினை தொழிலுக்கு இடையூறு ஏற்படுத்தும் செயல்பாடு மற்றும்

6_History_Unit-6 Folder.indd 68 12/3/2022 6:54:57 PM

தேசிய வருமானத்தின் வீழ்ச்சி ஆகியன தொழில்மயம் அழிதல் என குறிப்பிடப்படுகிறது.

ஒரு சக்திவாய்ந்த தொழிற்துறை அமைப்பு, மிகப்பெரிய இயந்திரங்கள், பெரிய அளவிலான உற்பத்தி ஆகியவற்றை பின்புலமாகக் கொண்ட வெளிநாட்டு தொழிலகங்களுடன் இந்திய உள்நாட்டு தொழிலகங்கள் போட்டியிட முடியவில்லை. சூயஸ் கால்வாய் கட்டுமானத்திற்குப் பின்பு இந்தியத் தொழிற்துறை மேலும் சிக்கலைச் சந்தித்தது. ஏனென்றால் இது போக்குவரத்துச் செலவினைக் குறைத்ததுடன் இந்தியாவில் பிரிட்டிஷ் பொருட்களை மலிவானதாக மாற்றியது. நவீன தொழிற்சாலையின் அதிகமான வேலைவாய்ப்புகளும் வருமானம் ஈட்டும் விளைவுகளும் கைவினைத் தொழில் வீழ்ச்சிக்கு முக்கிய காரணமாக அமைந்தது.

நவீன தொழிலகங்களின் தொடக்கம்

பத்தொன்பதாம் நூற்றாண்டின் நடுப்பகுதியில் இந்தியாவில் தொழில்மயமாக்கலின் செயல்பாடு தொடங்கியது. நவீனத் தொழிற்துறையின் தொடக்கமானது முக்கியமாக சணல், பருத்தி மற்றும் எஃகு தொழில்களின் வளர்ச்சியுடன் தொடர்புடையது எனலாம். நிலக்கரி சுரங்கத்தொழில் வளர்ச்சி குறிப்பிட்ட அளவில் தான் இருந்தது. ரயில்வே மற்றும் சாலைகளின் வளர்ச்சி துரிதப்படுத்தப்பட்டவுடன் தொழில்மயமாக்கல் தொடங்கியது. இந்த வளர்ச்சி நாட்டு மக்களின் சமூக மற்றும் பொருளாதார வாழ்க்கையைப் பெரிதும் பாதித்தது. இரசாயனம், இரும்பு மற்றும் எஃகு, சர்க்கரை, சிமெண்ட், கண்ணாடி மற்றும் மற்ற நுகர்வோர் பொருட்கள் போன்ற தொழில்களின் வளர்ச்சிக்கு இரண்டு உலகப் போர்களும் ஒரு உத்வேகத்தை அளித்தன. பெரும்பாலான ஆலைகள் பணக்கார இந்திய வணிகர்களால் அமைக்கப்பட்டன. தொடக்கத்தில் இந்த வளர்ச்சி பருத்தி மற்றும் சணல் ஆலைகள் அமைப்பதில் மட்டுமே இருந்தது.

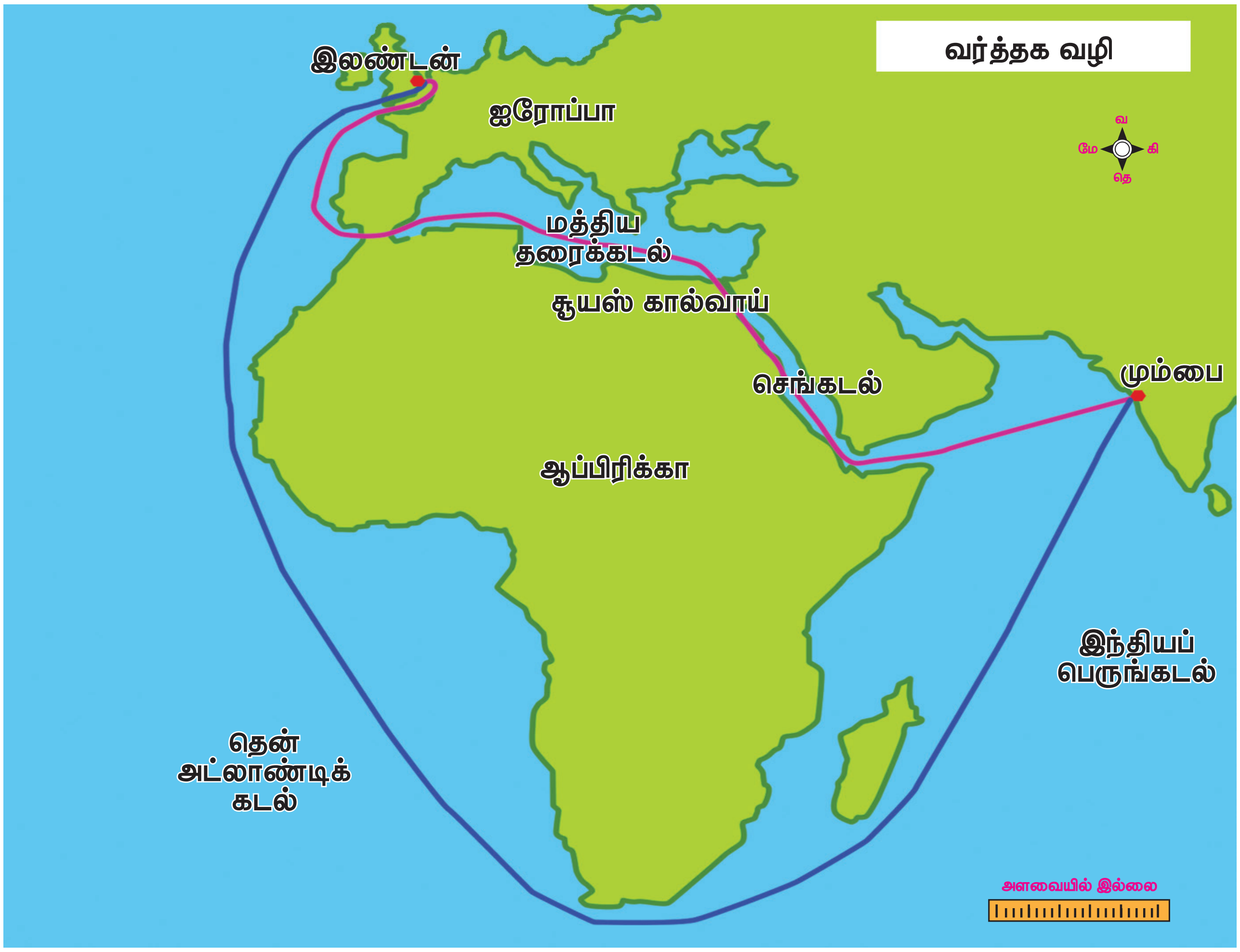

6_History_Unit-6 Folder.indd 69 12/3/2022 6:54:57 PM

அ) தோட்டத் தொழில்கள்

தோட்டத் தொழில் முதன் முதலில் ஐரோப்பியர்களை ஈர்த்தது. பெருந்தோட்டத் தொழில் பெரிய அளவில் வேலைகளை வழங்க முடிந்ததென்றாலும், உண்மையில் இது பிரிட்டிஷ் சமுதாயத்தால் அதிகரித்து வரும் தேநீர், காபி மற்றும் கருநீலச்சாயம் (இண்டிகோ) ஆகியவற்றிற்கான தேவைகளைப் பூர்த்தி செய்ய முடிந்தது. எனவே தான் தோட்டத் தொழில் ஆரம்பத்திலேயே தொடங்கப்பட்டது. அஸ்ஸாம் தேயிலை நிறுவனம் 1839 ஆம் ஆண்டு நிறுவப்பட்டது. அதே நேரத்தில் காபி தோட்டமும் தொடங்கப்பட்டது. தேயிலைத் தோட்டம் கிழக்கிந்திய பகுதிகளில் மிக முக்கியமான தொழிலாக இருந்தது போலவே காபி தோட்டமும் தென்னிந்தியாவின் நடவடிக்கைகளின் மையமாக மாறியது. மூன்றாவது முக்கிய தோட்டத் தொழிலான சணல் பல தொழிற்சாலைகள் உருவாக வழிவகுத்தது. இந்த தொழில்கள் அனைத்தும் பிரிட்டிஷ் கிழக்கிந்திய நிறுவனத்தின் முன்னாள் ஊழியர்கள் பலரால் கட்டுப்படுத்தப்பட்டன.

ஆ) இயந்திர அடிப்படையிலான தொழில்கள்

தேயிலை தோட்டம்

இந்தியாவில் 1854ஆம் ஆண்டு பம்பாயில் பருத்தி நூற்பு ஆலை நிறுவியதுடன் ஒரு ஒருங்கமைக்கப்பட்ட வடிவிலான நவீன தொழிற்துறைப் பிரிவு தொடங்கப்பட்டது. 1855ஆம் ஆண்டு கல்கத்தாவிற்கு அருகில் ரிஷ்ரா என்ற இடத்தில் ஹூக்ளி ஆற்றங்கரையில் சணல் தொழிற்சாலை தொடங்கப்பட்டது. 1870ஆம் ஆண்டு முதல் காகித ஆலை கல்கத்தாவுக்கு அருகில் பாலிகன்ஜ் என்ற இடத்தில் துவங்கப்பட்டது. பருத்தி ஆலைகள் இந்திய நிறுவனங்களால் ஆதிக்கம் செலுத்தப்பட்டன, மற்றும் சணல் ஆலைகள் பிரிட்டிஷ் முதலாளிகளுக்கு சொந்தமானவையாக இருந்தன. பம்பாய் மற்றும் அகமதாபாத்தில் பருத்தி ஆலைகள் ஏற்படுத்தப்பட்டன மற்றும் ஹூக்ளி ஆற்றங்கரையில் சணல் ஆலைகள் பல்கிப் பெருகின. கான்பூரில் கம்பளி மற்றும் தோல் தொழிற்சாலைகள் முக்கியத்துவம் பெற்றன.

இ) கனரக தொழில்கள்

கனரக தொழில்களில் இரும்பு மற்றும் எஃகு தொழில் அடங்கும். 1874ஆம் ஆண்டு குல்டி என்ற இடத்தில் முதன்முறையாக நவீன முறையில் எஃகு தயாரிக்கப்பட்டது. 20ஆம் நூற்றாண்டின் தொடக்கத்தில் இரும்பு மற்றும் எஃகு தொழில்கள் இந்திய மண்ணில் வேரூன்ற தொடங்கின. இருப்பினும் இந்தியாவில் மிகப்பெரிய அளவிலான எஃகு உற்பத்தியை மேம்படுத்திய பெருமை ஜாம்ஷெட்ஜி டாடா என்பவரையேச் சாரும். 1907ஆம் ஆண்டு ஜாம்ஷெட்பூர் என்ற இடத்தில் டாட்டா இரும்பு மற்றும் எஃகு நிறுவனம் (TISCO) அமைக்கப்பட்டது. இந்நிறுவனம் 1911ஆம் ஆண்டு தேனிரும்பு மற்றும் 1912ஆம் ஆண்டு உலோக வார்ப்பு கட்டிகளையும் உற்பத்தி செய்தது.

TISCO – ஜாம்ஷெட்பூர்

நவீன தொழிலகங்களின் வளர்ச்சி

1861ஆம் ஆண்டு 2,573 கிலோ மீட்டர் ஆக இருந்த ரயில்வேயின் நீளம் 1914ஆம் ஆண்டு 55,773 கிலோ மீட்டர்களாக அதிகரித்தது. சூயஸ் கால்வாய் திறப்பு ஐரோப்பாவிற்கும் இந்தியாவிற்குமான தூரத்தைச் சுமார் 4,830 கிலோ மீட்டர் தூரமாகக் குறைத்தது. இந்த குறைக்கப்பட்ட தூரம் இந்தியாவின் தொழில்மயமாக்கலுக்கு

6_History_Unit-6 Folder.indd 70 12/3/2022 6:54:58 PM

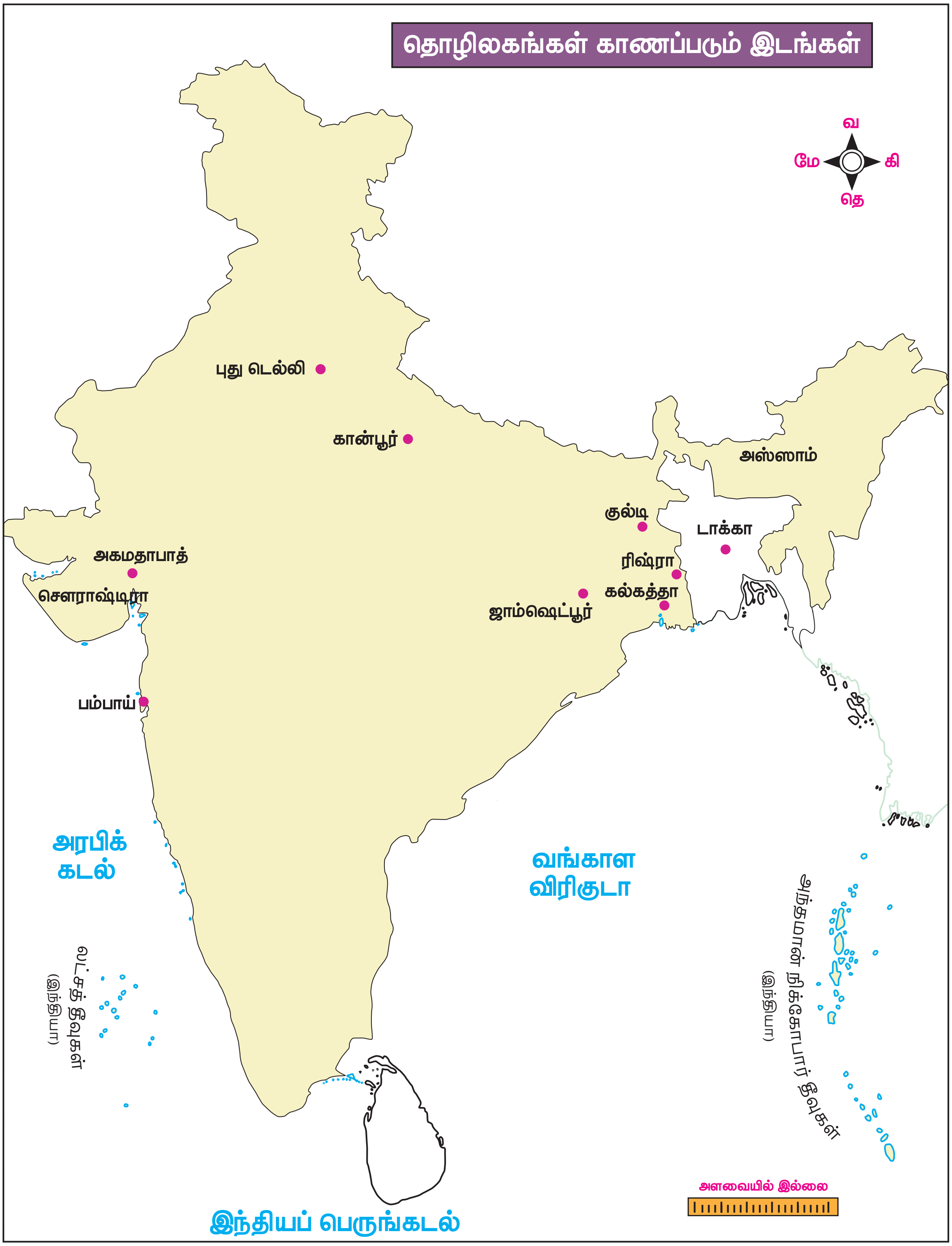

6_History_Unit-6 Folder.indd 71 12/3/2022 6:54:58 PM

மேலும் உதவியது. சுதேசி இயக்கத்தின் விளைவாக பருத்தி ஆலைகள் 194 லிருந்து 273 ஆகவும் சணல் ஆலைகள் 36 லிருந்து 64 ஆகவும் அதிகரித்தன. ஆங்கிலேயர்கள் இந்தியாவில் அதிகாரத்தைப் பலப்படுத்தி அதன் மூலம் ஏராளமான வெளிநாட்டு தொழில் முனைவோர்களையும் வெளிநாட்டு மூலதனத்தையும் குறிப்பாக இங்கிலாந்தில் இருந்து ஈர்த்தனர். அதிக லாபம் ஈட்டும் இந்திய தொழிற்துறைகள் வெளிநாட்டு முதலாளிகளை மிகவும் கவர்ந்திழுத்தது. ஏனென்றால் வேலையாட்களும் மூலப்பொருட்களும் மிகவும் மலிவாக கிடைத்தன. மேலும் இந்தியாவும் அதன் அண்டை நாடுகளும் ஒரு சந்தையை வழங்க தயாராக இருந்தன.

இந்திய தொழிற்துறை கூட்டமைப்பு (CII)

CII
Confederation of Indian Industry

இந்திய தொழிற்துறை கூட்டமைப்பு என்பது இந்தியாவில் உள்ள ஒரு வணிக சங்கம் ஆகும். இது ஒரு அரசு சாரா, இலாப நோக்கமற்ற, தொழிற்துறை வழிநடத்துதல் மற்றும் தொழிற்துறையை நிர்வகிக்கும் ஒரு அமைப்பாகும். இது 1985இல் நிறுவப்பட்டது. தனியார் மற்றும் பொதுத் துறைகளை உள்ளடக்கிய சிறு மற்றும் நடுத்தர நிறுவனங்களில் (SME) இருந்தும் மற்றும் பன்னாட்டு நிறுவனங்களில் (MNC) இருந்தும் 9,000 உறுப்பினர்களைக் கொண்டு உருவாக்கப்பட்டதாகும்.

இந்தியாவில் தொழிலக வளர்ச்சி

தொழிலக வளர்ச்சியின் கனவை நனவாக்கும் விதமாக இந்திய அரசு சில தொழிற்துறை கொள்கைகளையும், ஐந்தாண்டு திட்டங்களையும் ஏற்றுக்கொண்டுள்ளது. சுதந்திரத்திற்கு பிறகு தொழிற்துறையில் ஏற்பட்ட மிக முக்கியமான புதுமைகளுள் ஒன்று ஐந்தாண்டு திட்டங்கள் அறிமுகப்படுத்தப்பட்டதாகும். மேலும் 1948ஆம் ஆண்டு தொழிற்துறை கொள்கை தீர்மானத்தினால் அரசாங்கம் தொழிற்துறையில் நேரடியாக பங்களிப்பினை வெளிப்படுத்துகிறது. இந்த தீர்மானம் தொழிற்துறை வளர்ச்சியில் ஒரு தொழில் முனைவோராகவும் அதிகார மையமாகவும் அரசின் பங்கினை வரையறுத்தது. 1956 ஆம் ஆண்டு தொழிற்துறை கொள்கை தீர்மானத்தின்படி தொழிற்துறையானது மூன்று வகைகளாக வகைப்படுத்தப்பட்டுள்ளது.

அட்டவணை 1

இவ்வகையான தொழிற்துறைகளை அரசாங்கம் மட்டுமே நிர்வகிக்கும். அவற்றுள் சில அணுசக்தி, மின்னணு, இரும்பு மற்றும் எஃகு ஆகியவை அடங்கும்.

அட்டவணை 2

இவைகள் சாலைகள் மற்றும் கடல் போக்குவரத்து, இயந்திரக் கருவிகள், அலுமினியம், நெகிழி மற்றும் உரங்கள் உள்ளிட்ட ரசாயனங்கள், இரும்பு கலவை மற்றும் குறிப்பிட்ட வகையான சுரங்கங்கள் ஆகியவை அடங்கும்.

அட்டவணை 3

இந்த வகையின் கீழ் மீதமுள்ள தொழில்கள் மற்றும் தனியாருக்கு விடப்பட்ட துறைகள் ஆகியவை அடங்கும்.

தொழிலக வகைப்பாடு

- மூலப்பொருட்களின் அடிப்படையில் தொழில்களை வேளாண் அடிப்படையிலானவை மற்றும் கனிம அடிப்படையிலானவை என வகைப்படுத்தலாம்.
- தொழிலகங்கள் அவைகளின் பங்களிப்பின்படி அடிப்படை தொழில்கள் மற்றும் முக்கிய தொழில்கள் எனவும் வகைப்படுத்தலாம்.
- தொழில் உரிமத்தின் அடிப்படையில் பொதுத்துறை, தனியார் துறை மற்றும் கூட்டுறவுத் துறை என தொழிலகங்களை வகைப்படுத்தலாம்.

இந்தியாவில் தொழிற்துறை வளர்ச்சியின் பல்வேறு கட்டங்கள்

அ. தொழிற்துறை வளர்ச்சி (1950–1965)

இந்த காலகட்டத்தில் பெரும்பான்மையான நுகர்வோர் பொருட்கள் இந்தியாவில் உற்பத்தி செய்யப்பட்டன. தொழிற்துறை

6_History_Unit-6 Folder.indd 72 12/3/2022 6:54:58 PM

பலவீனமான உள்கட்டமைப்புடன் வளர்ச்சியடையாமல் இருந்தது. தொழில்நுட்ப திறன்கள் குறைந்த அளவிலேயே கிடைத்தன. முதல் மூன்று ஐந்தாண்டு திட்டங்கள் மிகவும் முக்கியமானவை ஏனெனில் அவைகளின் நோக்கம் சுதந்திர இந்தியாவில் ஒரு வலுவான தொழிற்துறை தளத்தை உருவாக்குவதே ஆகும். இந்த ஐந்தாண்டுத் திட்டங்கள் பெரும்பாலும் மூலதனப் பொருட்களின் வளர்ச்சியில் கவனம் செலுத்தின. இதன் விளைவாக இக்காலக் கட்டத்தில் உற்பத்தி வளர்ச்சி விகிதம் ஒரு துரிதமான வளர்ச்சியைக் கண்டது.

ஆ. தொழிற்துறை வளர்ச்சி (1965–1980)

முதல் மூன்று ஐந்தாண்டுத் திட்டங்கள் பெரும்பாலும் மூலதனப் பொருட்கள் துறையின் வளர்ச்சியில் கவனம் செலுத்தியதால், நுகர்வோர் பொருட்களின் துறை புறக்கணிக்கப்பட்டது. நுகர்வோர் பொருட்களின் துறையே கிராமப்புற பொருளாதாரத்தின் முதுகெலும்பாகும். இதன் விளைவாக தொழிற்துறை உற்பத்தி வளர்ச்சி விகிதம் வீழ்ச்சி அடைந்தது. எனவே இந்த காலகட்டம் பின்னடைவு காலமாக கருதப்படுகிறது.

இ. தொழிற்துறை வளர்ச்சி (1980–1991)

1980 களின் காலகட்டத்தை தொழிற் துறையின் மீட்பு காலமாகக் கருதலாம். ஏனெனில் இந்தக் காலத்தில் தொழிற்துறை மிகவும் வளமான வளர்ச்சியைக் கண்டது.

ஈ. 1991 ஆம் ஆண்டு பொருளாதார சீர்திருத்தத்திற்கு பின்னர் தொழிற்துறை வளர்ச்சி

1991ஆம் ஆண்டு பொருளாதார தாராளமயமாக்கல் ஒரு புதிய சகாப்தத்தை உருவாக்கியது. தொழிற்துறையின் செயல்திறனை மேம்படுத்த இந்தியா ஒரு முக்கியமான முடிவை எடுத்தது. பத்தாவது மற்றும் பதினொன்றாவது ஐந்தாண்டுத் திட்டங்கள் தொழிற்துறை உற்பத்தியில் உயர் வளர்ச்சி விகிதத்தைக் கண்டன. தொழிற்துறை உரிமத்தை ஒழித்தல், விலைக் கட்டுப்பாடுகளை நீக்குதல், சிறு தொழில்களுக்கான கொள்கைகளை நீர்த்து போகச் செய்தல் மற்றும் ஏகபோக சட்டத்தின் மாயயை ஒழித்தல் ஆகியவை இந்தியத் தொழிற்துறை செழிக்க உதவியது. புதிய பொருளாதார கொள்கை வெளிநாட்டு முதலீடுகளை வரவேற்கிறது.

நவீனமயமாக்கல்

இந்தியா தற்போது பல்வேறு வகையான இயல்பினைக் கொண்ட பொருட்களை உற்பத்தி செய்வதே அதிக அளவு நவீனமயமாக்கலைக் காட்டுகிறது. சில நவீன தொழில்கள் உண்மையில் வளர்ச்சி அடைந்து வெளி உலகத்துடன் திறம்பட போட்டியிடுகின்றன. இது வெளிநாட்டு நிபுணர்கள் மற்றும் தொழில்நுட்ப வல்லுநர்களைச் சார்ந்து இருப்பதை பெரிதும் குறைத்துள்ளது. மாறாக, ஒப்பீட்டளவில் குறைந்த வளர்ச்சியடைந்த நாடுகளுக்குப் பயிற்சி பெற்ற பணியாளர்களை இந்தியா அனுப்புகிறது.

தகவல் தொழில்நுட்பம் என்ற சொல் மென்பொருளுடன் கணினி மற்றும் தகவல் தொடர்புதொழில்நுட்பத்தையும் உள்ளடக்கியது ஆகும். முதல்நிலை, இரண்டாம் நிலை மற்றும் மூன்றாம் நிலைத் தொழில்களுடன் நான்காம் தொழிற்துறையாக தகவல் தொடர்பான தொழில்கள் உருவாகியுள்ளது. அறிவு சார்ந்த பொருளாதாரமானது இயந்திரமயமான உழைப்பாளரின் தீவிர உற்பத்தி மற்றும் சேவை நடவடிக்கைகள், சுகாதாரம், தொலை தூர கல்வி, மென்பொருள் உற்பத்தி மற்றும் பல்லூடகம் (மல்டிமீடியா), பொழுதுபோக்கு ஆகியவை புதிய சேவை தொழில்களின் வளர்ச்சியைச் சித்தரிக்கின்றது.

தற்சார்புடைமை

தற்சார்பு இலக்கை அடைந்திருப்பது தொழிற்துறை வளர்ச்சியின் மற்றொரு சாதகமான அம்சமாகும். இயந்திரங்கள், ஆலைகள் மற்றும் இதர தளவாடங்கள் உற்பத்தியில் நாம் தற்சார்பினை அடைந்துள்ளோம். தற்போது, தொழிற்துறை மற்றும் உள்கட்டமைப்பு வளர்ச்சிக்கு தேவையான தளவாடங்களின் பெரும்பகுதி இந்தியாவிலேயே உற்பத்தி செய்யப்படுகிறது.

இந்தியாவின் சாலைப் போக்குவரத்தானது உலகின் மிகப்பெரிய போக்குவரத்துகளுள் ஒன்றாகும். அரசாங்கத்தின் முயற்சிகளானது, தேசிய நெடுஞ்சாலைகள், மாநில நெடுஞ்சாலைகள் மற்றும் முக்கிய மாவட்ட சாலைகளின் அமைப்பினை விரிவாக்க வழிவகுத்தன. இது தொழிற்துறை வளர்ச்சிக்கு நேரடியான பங்களிப்பை அளித்தது.

இந்தியாவிற்கு அதன் வளர்ச்சி இயந்திரத்தை இயக்க சக்தி தேவைப்படுவதால் ஆற்றல் கிடைப்பதற்கான குறிப்பிடத்தக்க முயற்சிகளைத் தூண்டிவிட்டுள்ளது. சுதந்திரத்திற்குப் பின்னர் ஏறக்குறைய எழுபது ஆண்டுகளுக்குப் பிறகு இந்தியா மின்சார உற்பத்தியில் ஆசியநாடுகளில் மூன்றாவது மிகப் பெரிய நாடாக உருவாகியுள்ளது.

முடிவுரை

தொழில்மயமாக்கல் என்பது பொருளாதார வளர்ச்சியின் ஒரு முக்கிய அங்கமாகும். திட்ட காலத்தில் இந்தியாவின் தொழிற்துறை விரிவாக்கமானது கலப்புப் பொருளாதாரம் ஏற்பட வழிவகை செய்தது. சுதந்திரத்திற்கு முன் இருந்த தொழிற்துறை வளர்ச்சியைக் காட்டிலும் ஐந்தாண்டுத் திட்டங்களின் மூலம் தொழில் வளர்ச்சி தனித்துவம் பெற்று விளங்கியது.

பாடச்சுருக்கம்

- இந்தியத் தொழிலக வரலாறு மனித குல வரலாறு உருவானதிலிருந்தே தொடங்குகிறது.
- இந்தியக் கைவினைப் பொருட்கள் ஒரு சிறந்த வரலாற்றினைக் கொண்டுள்ளது.
- புகழ்பெற்ற இந்தியக் கைவினைப் பொருட்கள் காலனித்துவ ஆட்சியில் சீர்குலைந்தன.
- 19ஆம் நூற்றாண்டு நடுப்பகுதியிலிருந்து தொழில்மயமாக்கலின் செயல்பாடு இந்தியாவில் தொடங்கியது.
- இந்தியாவின் நவீன தொழிற்துறை அமைப்பு பருத்தி நெசவு தொழிற்சாலை நிறுவியதிலிருந்து தொடங்குகிறது.
- இந்தியத் தொழிற்துறையின் கூட்டமைப்பு என்பது ஒரு அரசு சாரா, இலாப நோக்கமற்ற, தொழிற்துறையை வழிநடத்தும், தொழிற்துறையை நிர்வகிக்கும் ஓர் அமைப்பு ஆகும்.

கலைச்சொற்கள்		
நம்பமுடியாத	Incredible	Unbelievable
உள்நாட்டு	Indigenous	Native
விரைவுப்படுத்துதல்	Acceleration	Increasing the speed
உள்நாட்டு உற்பத்திப்பொருள்	Swadeshi	Produced with in this country
தொழில் முனைவோர்	Entrepreneur	Businessman
பின்னோக்கிச் செல்லுதல்	Retrogression	To return to older

6_History_Unit-6 Folder.indd 74 12/3/2022 6:54:58 PM

மதிப்பீடு

I சரியான விடையைத் தேர்ந்தெடுக்கவும்

1. பின்வருவனவற்றில் மக்களின் எந்த செயல்பாடுகள் கைவினைகளில் சாராதவை?
   அ) கல்லிருந்து சிலையைச் செதுக்குதல்
   ஆ) கண்ணாடி வளையல் உருவாக்குதல்
   இ) பட்டு சேலை நெய்தல்
   ஈ) இரும்பை உருக்குதல்

2. ________ தொழில் இந்தியாவின் பழமையான தொழிலாகும்.
   அ) நெசவு ஆ) எஃகு
   இ) மின்சக்தி ஈ) உரங்கள்

3. கம்பளி மற்றும் தோல் தொழிற்சாலைகள் காணப்படும் முக்கிய இடம் ________
   அ) பம்பாய் ஆ) அகமதாபாத்
   இ) கான்பூர் ஈ) டாக்கா

4. இந்தியாவின் முதல், மூன்று ஐந்தாண்டுத் திட்டங்களின் முக்கிய நோக்கமாக இருந்தது என்ன?
   அ) மக்கள் தொகை வளர்ச்சியைக் கட்டுப்படுத்துதல்
   ஆ) எழுத்தறிவின்மையைக் குறைத்தல்
   இ) வலுவான தொழிற்துறை தளத்தை உருவாக்குதல்
   ஈ) பெண்களுக்கு அதிகாரமளித்தல்

5. இந்தியாவில் தொழில்மயம் அழிதலுக்கு காரணம் அல்லாதது எது?
   அ) ஆட்சியாளர்களின் ஆதரவின்மை
   ஆ) இயந்திரத்தால் தயாரிக்கப்பட்ட பொருட்களின் போட்டி
   இ) இந்தியாவின் தொழிற்துறை கொள்கை
   ஈ) பிரிட்டிஷாரின் வர்த்தக கொள்கை

II கோடிட்ட இடங்களை நிரப்புக

1. ________ இந்திய மக்களின் வாழ்க்கையில் ஓர் ஒருங்கிணைந்த பகுதியாக இருந்தது.
2. தொழிற்புரட்சி நடைபெற்ற இடம் ________
3. அஸ்ஸாம் தேயிலை நிறுவனம் தோற்றுவிக்கப்பட்ட ஆண்டு ________
4. கொல்கத்தா அருகிலுள்ள ஹூக்ளி பள்ளத்தாக்கில் ________ இடத்தில் சணல் தொழிலகம் ஆரம்பிக்கப்பட்டது.
5. ________ ஐரோப்பாவிற்கும் இந்தியாவிற்கும் இடையே தூரத்தை குறைத்தது.

III பொருத்துக

1. தவர்னியர்	–	செல்வச் சுரண்டல் கோட்பாடு
2. டாக்கா	–	காகித ஆலை
3. தாதாபாய் நௌரோஜி	–	கைவினைஞர்
4. பாலிகன்ஜ்	–	மஸ்லின் துணி
5. ஸ்மித்	–	பிரெஞ்சு பயணி

IV சரியா / தவறா எனக் குறிப்பிடுக

1. இந்தியா பருத்தி மற்றும் பட்டுத் துணிகளுக்கு புகழ்வாய்ந்தது.
2. இந்தியாவில் ஆங்கிலேயர்களால் இரயில்வே அறிமுகப்படுத்தப்பட்டது.
3. நவீன முறையில் முதன்முதலாக இரும்பு ஜாம்ஷெட்பூரில் உற்பத்தி செய்யப்பட்டது.
4. 1948 ஆம் ஆண்டு தொழிலக கொள்கையானது கலப்பு பொருளாதாரத்தை கொண்டு வந்தது.
5. பத்தாவது மற்றும் பதினொன்றாவது ஐந்தாண்டு திட்டம் தீவிர வேளாண்மை உற்பத்தி வளர்ச்சிக்குச் சான்றாக உள்ளது.

V சரியான கூற்றை கண்டுபிடி

1. பின்வருவனவற்றில் சரியானவைகளை தேர்ந்தெடுத்துக் குறியிடவும்.
   i. எட்வர்ட் பெய்ன்ஸ் கருத்துப்படி 'பருத்தி உற்பத்தியின் பிறப்பிடம் இங்கிலாந்து'.
   ii. இயந்திரமயமாக்கப்பட்ட தொழிற்சாலைக்கு முன்னால் இந்தியாவில் கிராம கைவினை தொழில் இரண்டாவது பெரிய தொழிற்சாலையாக அமைந்தது.
   iii. சௌராஷ்டிரா தகர தொழிற்சாலைக்கு பெயர் பெற்றது.

6_History_Unit-6 Folder.indd 75 12/3/2022 6:54:58 PM

iv. சூயஸ் கால்வாய் கட்டப்பட்டதால் இந்தியாவில் பிரிட்டிஷாரின் பொருட்கள் மலிவாக கிடைக்க வழிவகை உருவானது.

அ) (i) மற்றும் (ii) சரி

ஆ) (ii) மற்றும் (iv) சரி

இ) (iii) மற்றும் (iv) சரி

ஈ) (i), (ii) மற்றும் (iii) சரி

2. **கூற்று:** இந்திய கைவினைஞர்கள் பிரிட்டிஷாரின் காலனிய ஆதிக்கத்தில் நலிவுற்றனர்.

காரணம்: பிரிட்டிஷார் இந்தியாவை தனது மூலப்பொருள் தயாரிப்பாளராகவும் முடிவுற்ற பொருட்களுக்கான சந்தையாகவும் கருதினர்.

அ) கூற்று சரி. காரணம் கூற்றுக்கான விளக்கம்

ஆ) கூற்று சரி. ஆனால் கூற்றைக் காரணம் சரியாக விளக்கவில்லை

இ) கூற்றும் காரணமும் சரி

ஈ) கூற்றும் காரணமும் தவறானவை

3. பின்வருவனவற்றுள் சரியாக பொருந்தாது ஒன்று எது?

அ) பெர்னியர்	–	ஷாஜகான்
ஆ) பருத்தி ஆலை	–	அகமதாபாத்
இ) TISCO	–	ஜாம்ஜெட்பூர்
ஈ) பொருளாதார தாராளமயமாக்கல்	–	1980

VI பின்வரும் வினாக்களுக்கு ஓரிரு வாக்கியங்களில் விடையளி

1. இந்தியாவின் பாரம்பரிய கைவினை பொருட்களின் தொழிற்சாலைகள் யாவை?
2. செல்வச் சுரண்டல் கோட்பாடு பற்றி எழுதுக.
3. பெரிய அளவில் நெசவு உற்பத்திக்கு பயன்படுத்திய கண்டுபிடிப்புகளின் பெயர்களை எழுது.
4. இந்திய தொழிற்துறை கூட்டமைப்பு (CII) பற்றி சிறுகுறிப்பு எழுதுக.
5. தொழில்மயம் அழிதல் என்றால் என்ன?

VII விரிவான விடையளி

1. இந்தியத் தொழில்மயம் அழிதலுக்கு பிரிட்டிஷாரின் வர்த்தகக் கொள்கை எவ்வாறு காரணமானது?
2. தோட்டத் தொழில்கள் பற்றி விரிவாக எழுதுக?
3. 1991 ஆம் ஆண்டு சீர்திருத்தங்களுக்குப் பிறகு தொழிற்துறையின் வளர்ச்சியை விளக்குக?

VIII உயர் சிந்தனை வினா

1. எவ்வாறு கைவினைப்பொருட்களும், இயந்திர தயாரிப்புப் பொருட்களும் வேறுபடுகின்றன.

IX பின்வரும் இடங்களை இந்திய வரைபடத்தில் குறிக்கவும்

1. பம்பாய்	6. அகமதாபாத்
2. கல்கத்தா	7. கான்பூர்
3. டாக்கா	8. குல்டி
4. ஜாம்ஷெட்பூர்	9. புது டெல்லி
5. ரிஷ்ரா	10. அஸ்ஸாம்

X செயல்திட்டம் மற்றும் செயல்பாடுகள்

1. உனது மாநிலத்தில் உள்ள தொழிற்சாலைகளின் பெயர்களை எழுதி வேளாண்மை தொழிற்சாலை மற்றும் வனப்பொருட்கள் தொழிற்சாலை ஆகியவைகளை வகைப்படுத்தவும்.
2. தொழிலக முன்னேற்றத்தால் காற்று, நீர், நிலம் ஆகியவை எவ்வாறு மாசுபடுகிறது என்பதை திட்ட செயல்முறை மூலம் தயாரிக்கவும்.
3. விளக்க காட்சியின் மூலம் இந்தியாவின் தொழிலக வளர்ச்சியினால் ஏற்படும் முக்கிய அம்சங்களை முன்னிலைப்படுத்தவும்.

மேற்கோள் நூல்கள்

1. Dharmakumar (ed). *The Cambridge Economic History of India, Vol II, c.1757-2003*
2. *The Gazeteer of India. Vol II* Publications Division
3. *India 1995 - A reference Annual,* Publications Division

இணையதள வளங்கள்

1. http://www.suezcanal.gov.eg
2. http://www.cii.in

6_History_Unit-6 Folder.indd 76 12/3/2022 6:54:59 PM

அலகு - 7

ஆங்கிலேயர் ஆட்சியில் நகர்ப்புற மாற்றங்கள்

கற்றலின் நோக்கங்கள்

- பண்டைய மற்றும் இடைக்காலங்களில் நகரங்களின் தோற்றம் மற்றும் வளர்ச்சியைப் புரிந்து கொள்ளுதல்
- ஆங்கிலேயர் ஆட்சிக்காலத்தில் நகரமயமாக்கலின் தன்மை மற்றும் அம்சத்தைப் பகுப்பாய்வு செய்தல்
- புதிய மையங்களான இராணுவ குடியிருப்புக்கள், மலைவாழிடங்கள் மற்றும் துறைமுக நகரங்கள் பற்றி அறிந்து கொள்ளுதல்
- மதராஸின் (சென்னை) தோற்றம் மற்றும் வளர்ச்சியைக் கண்டறிதல்

அறிமுகம்

நகரங்களின் பரிணாமம் (நகர்ப்புற குடியேற்றங்கள்) பல்வேறு வழிகளில், பல்வேறு கட்டங்களில் நிகழ்ந்துள்ளது. இந்தியாவில் வரலாற்றுக்கு முந்தைய காலத்திலிருந்தே நகரங்கள் செழித்து வளர்ந்தன. இந்தியாவில் உள்ள நகரங்களைப் பண்டைய கால நகரங்கள், இடைக்கால நகரங்கள் மற்றும் நவீன கால நகரங்கள் என வகைப்படுத்தலாம்.

பண்டைய கால நகரங்கள்

பண்டைய காலங்களில் மன்னரின் குடியிருப்புப் பகுதிகள் மற்றும் அதைச் சுற்றியுள்ள பகுதிகளில் நகரங்கள் தோன்றியதோடு, அவற்றின் அமைப்பு வர்த்தகத்திற்கு ஏற்றார்போல் கடல் மற்றும் ஆறுகளை அடைவதற்கு ஏற்றதாக இருந்தது. பெரும்பாலானவை நிர்வாக, சமய மற்றும் பண்பாட்டு மையங்களாக வளர்ந்தன. ஹரப்பா, மொகஞ்சதாரோ, வாரணாசி, அலகாபாத் மற்றும் மதுரை ஆகியவை புகழ்பெற்ற பண்டைய கால நகரங்கள் ஆகும்.

இடைக்கால நகரங்கள்

இடைக்காலத்தில் பெரும்பாலான நகரங்கள் பிராந்திய மற்றும் மாகாணங்களில் தலைநகரங்களாக வளர்ந்தன. அவை கோட்டை நகரமாகவோ அல்லது துறைமுக நகரமாகவோ செயல்பட்டன. அவற்றில் முக்கியமானவை டெல்லி, ஹைதராபாத், ஜெய்பூர், லக்னோ, ஆக்ரா மற்றும் நாக்பூர்.

நவீன கால நகரங்கள்

ஐரோப்பியர்களின் வருகை நகரங்களின் வளர்ச்சியில் புதிய மாற்றங்களைக் கொண்டு வந்தது. அவர்கள் முதலில் சூரத், டாமன், கோவா மற்றும் பாண்டிச்சேரி போன்ற சில கடலோர நகரங்களை உருவாக்கினர். இந்தியாவில் தங்களை நன்கு நிலைநிறுத்திக் கொண்ட பிரிட்டிஷார் மும்பை, சென்னை, கொல்கத்தா ஆகிய மூன்று நகரங்களை நிர்வாகத் தலைநகராகவும் வணிக மையங்களாகவும் வளர்த்தனர். ஆளுமையின் பரப்பு விரிவடைய, பல புதிய நகரங்களை அதன் அமைவிடத்திற்காகவும் தேவைக்காகவும்

வளங்களுக்காகவும் உருவாக்கினர். புதியதாக வளர்ச்சிபெற்ற நகரங்கள், மலை நகரங்கள், தொழில் நகரங்கள், நீதிமன்ற நகரங்கள், இருப்புப்பாதை நகரங்கள், இராணுவ குடியிருப்புகள் மற்றும் நிர்வாக நகரங்களாக விளங்கின.

ஆங்கிலேயரின் ஆட்சியில் நகரமயமாக்கலின் தனித்துவங்கள்

I. தொழில் முடக்கப்படுதல்

18ஆம் நூற்றாண்டின் தொடக்கத்தில் ஆங்கிலேயர்களின் கொள்கைகள் நகரமயமாக்கலுக்கு எதிராக இருந்தது நிரூபணமானது. பின்னர் ஆங்கிலேயர்கள் பின்பற்றியப் பொருளாதாரக் கொள்கைகள் இந்தியாவின் பொருளாதாரத்தை விரைவாக ஒரு காலனித்துவப் பொருளாதாரமாக மாற்றுவதற்கும் நகரங்களின் வளர்ச்சிக்கும் வழிவகுத்தன.

பிரிட்டிஷாரின் ஒரு வழியிலான சுதந்திரமான வர்த்தகத்தின் விளைவாக இந்திய உற்பத்தித் தொழில்கள் அழிக்கப்பட்டன. இந்திய உற்பத்தித் தொழில்களின் மொத்த அழிவின் விளைவாக லட்சக்கணக்கான கலைஞர்கள் மற்றும் கைவினைஞர்கள் நசிந்து போயினர். பல நூற்றாண்டுகளாக நாகரிக உலகின் சந்தைகளில் கோலோச்சியிருந்த இந்தியாவின் நகர்ப்புற கைவினைத் தொழில்களில் திடீர் சரிவு ஏற்பட்டது.

நீண்ட காலமாக சிறப்பான உற்பத்தி பொருளுக்காகப் புகழ்பெற்ற நகர்ப்புற சந்தைகள் தொடர்ந்து குறையலாயின. இதன் விளைவாக புகழ்பெற்ற பழைய உற்பத்தி நகரங்களான டாக்கா, மூர்ஷிதாபாத், சூரத் மற்றும் லக்னோ போன்றவை முந்தைய முக்கியத்துவத்தை இழந்தன. இறக்குமதி செய்யப்பட்ட பொருட்களின் கடுமையான போட்டியினால் ஒட்டுமொத்த தொழில்துறை கட்டமைப்பும் செயலிழந்து போயின.

பாரம்பரியத் தொழில்களை அடிப்படையாகக் கொண்டிருந்த இந்திய கைவினைத் தொழில் பொருட்கள், உற்பத்தி செய்யும் நகரங்கள் தொழிற்புரட்சியின் விளைவாக அழிந்தன. அதிகப்படியான இறக்குமதி வரி மற்றும் ஏற்றுமதி சார்ந்த பிற கட்டுப்பாடுகள் காரணமாக இந்தியப் பொருட்கள் பிரிட்டன் மற்றும் ஐரோப்பிய நாடுகளில் இறக்குமதி செய்யப்படுவது குறையலாயின. இவ்வாறு இந்தியா, பிரிட்டனின் வேளாண்மை குடியேற்றமாக மாறியது.

II. நகர்மயமாதல் குறைதல்

இந்தியப் பொருளாதாரம் காலனிய பொருளாதாரமாக மாறியதால் உற்பத்தியாளர்களின் சந்தையாகவும் தொழிற்சாலைகளுக்கு கச்சாப் பொருட்களை வழங்குமிடமாகவும் மாறியதோடு பல நகரங்களில் உள்ள தொழிற்சாலைகள் மற்றும் வணிகத்தளத்தைக் கடுமையாக பாதித்தது.

மன்னர்களின் அதிகாரங்கள் படிப்படியாக சரியத் தொடங்கியதால் அவர்களது ஆட்சியுடன் தொடர்புடைய நகரங்களின் அழிவுக்கு அது வழிவகுத்தது. 19ஆம் நூற்றாண்டில் முதல் காலாண்டில் அதுவரை பேரரசின் தலைநகரமாக இருந்த ஆக்ரா முற்றிலும் அழிக்கப்பட்டது. பிரிட்டிஷாரின் பல்வேறு ஏகாதிபத்திய கொள்கைகளின் விளைவாக இந்திய அரசர்கள் தங்களது ஆட்சியை இழந்தனர்.

பிரிட்டிஷ் காலத்திற்கு முந்தைய நகர்ப்புற மையங்களின் வீழ்ச்சிக்கு பங்களித்த மற்றொரு காரணி 1853ஆம் ஆண்டு இந்தியாவில் இருப்புப் பாதைகளை அறிமுகப்படுத்தியதாகும். இரயில்வே அறிமுகப்படுத்தப்பட்டதன் விளைவாக வர்த்தகப் பாதைகள் திசைதிருப்பப்பட்டு ஒவ்வொரு ரயில் நிலையமும் மூலப்பொருள்களை ஏற்றுமதி செய்யும் மையமாக மாறியது. பிரிட்டிஷ் உற்பத்தியாளர்கள் நாட்டின் ஒவ்வொரு மூலை முடுக்கிலும் சென்றடைய இரயில்வே வழிவகுத்ததால் நாட்டின் கிராமங்களிலுள்ள பாரம்பரிய தொழில்கள் அடியோடு நசிந்தன.

III. புதிய நகர மையங்களின் வளர்ச்சி

கிழக்கு மற்றும் மேற்கு கடலோரப் பகுதிகளிலுள்ள கல்கத்தா, மதராஸ் மற்றும் பம்பாய் போன்ற இடங்களில் பிரிட்டிஷ் புதிய வர்த்தக மையங்களை உருவாக்கியது. மதராஸ் (1639), பம்பாய் (1661) மற்றும் கல்கத்தா (1690) போன்ற நகரங்களை உருவாக்கி பிரிட்டிஷார்

7_History_Unit-7 Folder.indd 78 12/3/2022 6:55:59 PM

காலனித்துவ நகர வளர்ச்சி

துறைமுக நகரங்கள்	இராணுவ குடியிருப்புகள்	மலை வாழிடங்கள்	இரயில்வே நகரங்கள்
துறைமுகங்களைச் சுற்றி மாகாணங்களின் தலைநகர் வளர்ச்சி	பெருவழிச் சாலைகள் மற்றும் போர்த் திறன்வாய்ந்த பகுதிகளில் உள்மாகாணங்களின் தலைநகர்	காலனித்துவ ஆட்சியாளர்கள் சுகாதாரம் மற்றும் பொழுதுபோக்குக்காக உருவாக்கிய ஒரு இடம்	படைகள் மற்றும் பொருட்களின் விரைவான போக்குவரத்திற்காக உருவாக்கப்பட்டன

வலுப்படுத்தினர். இவை அனைத்தும் முன்னர் மீன்பிடித்தல் மற்றும் நெசவு தொழில் செய்யும் கிராமங்களாகும். இங்கு அவர்கள் வீடுகள், கடைகள் மற்றும் தேவாலயங்களைக் கட்டியதோடு வணிக மற்றும் நிர்வாக தலைமையகத்தையும் அமைத்தனர்.

18ஆம் நூற்றாண்டின் மையப்பகுதியில் மாற்றத்தின் ஒரு புதிய காலகட்டம் தோன்றியது. 1757ஆம் ஆண்டு பிளாசிப் போருக்குப் பின்னர் ஆங்கிலேயர்கள் படிப்படியாக அரசியல் ஆதிக்கம் பெற்றதால் ஆங்கில கிழக்கிந்திய நிறுவனத்தின் வர்த்தகம் விரிவடைந்தது.

சூயஸ் கால்வாய் திறப்பு, நீராவிப் போக்குவரத்து அறிமுகம், ரயில்வே சாலைகள் அமைத்தல், கால்வாய்கள், துறைமுகங்கள், தொழிற்சாலைகள் வளர்ச்சி, நிலக்கரி சுரங்கம், தேயிலைத் தோட்டம், வங்கிப்பணி, கப்பல் போக்குவரத்து மற்றும் காப்பீடு வளர்ச்சியினால் 19ஆம் நூற்றாண்டின் பிற்பகுதியில் நகரமயமாக்கலில் புதிய போக்கு தொடங்கியது. வர்த்தக பிணைப்புகளில் ஏற்பட்ட மாற்றம் நகர்ப்புற மையங்களின் வளர்ச்சியில் பிரதிபலித்தது.

ஒரு நகர்ப்புற பகுதி என்பது அதிக மக்கள் தொகை அடர்த்தியோடு உணவு உற்பத்தியல்லாத தொழில்களில் ஈடுபடுவதும் நன்கு கட்டமைக்கப்பட்ட சூழலில் வாழ்வதும் ஆகும்.

அ) துறைமுக நகரங்கள்

ஆங்கிலேயர்கள் வர்த்தகத்திற்காக இந்தியா வந்தனர். மதராஸ், கல்கத்தா மற்றும் பம்பாய் ஆகியவை முக்கிய துறைமுகங்களாக மாறின. இவை வர்த்தகத்தில் முக்கிய பங்கு வகித்தன. ஐரோப்பிய பாணியிலான உயரமான கட்டடங்களுடன் இந்த நகரங்கள் முக்கிய வணிகப் பகுதிகளாக மாறின. ஆங்கில கிழக்கிந்திய நிறுவனம் அதன் தொழிற்சாலைகளைக் அமைத்ததோடு குடியேற்றத்தின் பாதுகாப்பிற்காக கோட்டைகளையும் அமைத்தனர். சென்னையில் புனித ஜார்ஜ் கோட்டையும் கல்கத்தாவில் வில்லியம் கோட்டையும் இதற்குச் சிறந்த எடுத்துக்காட்டுகளாகும்.

வில்லியம் கோட்டை, கல்கத்தா

7_History_Unit-7 Folder.indd 79 12/3/2022 6:55:59 PM

ஆ) இராணுவக் குடியிருப்பு நகரங்கள்

ஆங்கிலேயர் தங்கள் இராணுவ பலத்தால் இந்தியப் பகுதிகளையும், அரசியல் அதிகாரத்தையும் கைப்பற்றினர். எனவே வலுவான இராணுவ முகாம்கள் தேவைப்பட்டதால் இரணுவக் குடியிருப்புகளை ஏற்படுத்தினர். இராணுவக் குடியிருப்புகள் முற்றிலும் புதிய நகர்ப்புற மையங்களாக இருந்தன. இராணுவ வீரர்கள் இந்த பகுதிகளில் வசிக்கத் தொடங்கினர். மேலும் இப்பகுதிகள் படிப்படியாக நகரங்களாக வளர்ந்தன. எடுத்துகாட்டு: கான்பூர், லாகூர்.

இ) மலைவாழிடங்கள்

காலனித்துவ நகர்ப்புற வளர்ச்சியில் மலைவாழிடங்கள் தனித்துவம் வாய்ந்தவையாகும். ஆங்கிலேயர்கள் இந்தியாவிற்கு வருவதற்கு முன்பு மலைவாழிடங்கள் பற்றி அறியப்படவில்லை. அவை சிலவாக இருந்ததோடு குறைந்த மக்கள்தொகையைக் கொண்டிருந்தன. அவர்களும் குறிப்பிட்ட தேவைகளுக்காகவே அடிக்கடி வருகை புரிந்தனர். எடுத்துக்காட்டாக ஸ்ரீநகர் ஒரு முகலாய பொழுதுபோக்கு மையமாகவும் கேதர்நாத் மற்றும் பத்ரிநாத் ஆகியவை இந்து சமய மையங்களாகவும் விளங்கின. குளிர்ந்த கால நிலையிலிருந்து வந்த ஆங்கிலேயர்கள் இந்தியாவில் கோடைகாலத்தில் வாழ்வது கடினம் என உணர்ந்தனர். அவர்களுக்கு இந்திய மலைகளின் குளிர்ந்த காலநிலை பாதுகாப்பானதாக மற்றும் நன்மை அளிப்பதாக இருந்தது. இது வெப்பமான வானிலையிலிருந்தும் தொற்று நோயிலிருந்தும் ஐரோப்பியர்களைப் பாதுகாத்தது. ஆகையால் அவர்கள் மாற்றுத் தலைநகரங்களை குளிர்ந்த பகுதிகளில் கல்கத்தாவுக்கு மாற்றாக டார்ஜிலிங்கிலும் டெல்லிக்கு மாற்றாக டேராடூனிலும் ஏற்படுத்தினர். மலைப்பிரதேசங்கள் படைகள் தங்குமிடமாகவும்எல்லைகளைப்பாதுகாக்கவும் தாக்குதலைத் தொடங்கும் இடமாகவும் இருந்தன. மலைவாழிடங்கள் வட மற்றும் தென் இந்தியாவில் வளர்ச்சி பெற்றன. எ.கா. சிம்லா, நைனிடால், டார்ஜிலிங், உதகமண்டலம், கொடைக்கானல். கூர்க்கர்களுடன் (1814–16) நடைபெற்ற போரின் போது சிம்லா நிறுவப்பட்டது. டார்ஜிலிங் பகுதியானது சிக்கிம் ஆட்சியாளர்களிடமிருந்து 1835இல் கைப்பற்றப்பட்டது. இம்மலைப்பிரதேசங்கள் சுகாதார மையமாக வளர்ச்சி பெற்றன (படையினர் ஓய்வெடுப்பதற்கும், நோய்களிலிருந்து மீள்வதற்கான இடங்கள்). ரயில்வேயின் அறிமுகம் மலைவாழிடங்களை எளிதில் சென்றடைய வழிவகுத்தது.

ஈ) இரயில்வே நகரங்கள்

ஆங்கிலேயர்களால் இரயில்வே 1853இல் அறிமுகப்படுத்தப்பட்ட பிறகு இரயில்வே நகரங்களும் ஒருவகை நகர்ப்புற குடியேற்றங்களாக ஏற்படுத்தப்பட்டன. எ.கா சென்னை, மும்பை, கல்கத்தா.

நகராட்சிகள் மற்றும் மாநகராட்சிகள் தோற்றுவிக்கப்படுதல்

இந்தியாவில் ஆங்கிலேயர்கள் ஆட்சியில் உள்ளாட்சி மன்றத்தின் வளர்ச்சியினை மூன்று வெவ்வேறு நிலைகளில் அறியலாம்.

அ) முதல் கட்டம் (1688–1882)

இந்தியாவில் நகராட்சி அரசாங்கம் 1688இல் சென்னையில் ஒரு மேயர் பதவியுடன் உருவானது. கிழக்கிந்திய கம்பெனியின் இயக்குநர்களில் ஒருவரான சர் ஜோசியா சைல்டு மாநகராட்சி உருவானதற்கு காரணமாக இருந்தார். மூன்று மாகாண நகரங்களில் 1793ஆம் ஆண்டின் பட்டயச் சட்டம் நகராட்சி நிர்வாகத்தை நிறுவியது. வடமேற்கு எல்லைப்புற மாகாணங்களிலும், அயோத்தியிலும் நகராட்சிகள் 1850ஆம் ஆண்டு சட்டப்படி அமைக்கப்பட்டன. மேயோ பிரபுவின் 1870ஆம் ஆண்டின் புகழ்பெற்ற தீர்மானம் உள்ளாட்சி அரசாங்கத்தின் வளர்ச்சிக்கான வாய்ப்புகளை வழங்குவதை நோக்கமாகக் கொண்டிருந்தது.

ஆ) இரண்டாம் கட்டம் (1882–1920)

உள்ளாட்சி அரசாங்கம் தொடர்பான ரிப்பன் பிரபுவின் தீர்மானம் உள்ளாட்சி அரசாங்கத்தின் வரலாற்றில் ஒரு மைல்கல்லாக விளங்கியது. எனவே ரிப்பன் பிரபு இந்தியாவின் 'உள்ளாட்சி

7_History_Unit-7 Folder.indd 80 12/3/2022 6:55:59 PM

அமைப்பின் தந்தை' என்று அழைக்கப்படுவது பொருத்தமானதாகவும் அவரது தீர்மானம் 'உள்ளாட்சி அரசாங்கத்தின் மகாசாசனம்' எனவும் கருதப்படுகிறது.

இ) மூன்றாம் கட்டம் (1920–1950)

மாகாணங்களில் இரட்டை ஆட்சியை 1919ஆம் ஆண்டு இந்திய அரசு சட்டம் அறிமுகப்படுத்தியது. மாகாண சுயாட்சியை 1935ஆம் ஆண்டு இந்திய அரசு சட்டம் அறிமுகப்படுத்தியது. 1947இல் சுதந்திரம் அடைந்தவுடன் சுதந்திர இந்தியாவின் தேவைகளைப் பூர்த்திசெய்ய உள்ளாட்சி அரசாங்கத்தை உருவாக்கி வடிவமைப்பதற்கான சிறப்பான வாய்ப்பை இந்தியா பெற்றது.

மாகாண நகரங்களின் நிர்வாகம்

18ஆம் நூற்றாண்டின் முடிவில் நாடாளுமன்றத்தின் ஒரு சட்டம் தலைமை ஆளுநருக்கு மாகாண நகரங்களில் அமைதியை ஏற்படுத்த நீதிபதிகளை நியமிக்கும் அதிகாரத்தை அளித்தது. பல்வேறு முயற்சிகளுக்குப் பிறகு மூன்று மாகாண நகரங்களில் அரசாங்க அமைப்பு உருவாக்கப்பட்டது. அது பெரிய மாநகராட்சிகள் போல தேர்ந்தெடுக்கப்பட்ட உறுப்பினர்கள், சுதந்திரமான வலிமை பெற்ற நிர்வாக அமைப்பு, கணக்குகளைச் சரிபார்க்கப் போதுமான ஏற்பாடுகள், பாதுகாப்பு மற்றும் செயல்திறனுக்கான சட்டபூர்வ பாதுகாப்புகள், சுகாதாரம், நீர் வழங்கல் மற்றும் வருவாய் வசூல் போன்ற முக்கிய அம்சங்களைக் கொண்டுள்ளது.

மதராஸின் தோற்றம் மற்றும் வளர்ச்சி

மதராஸ் நகரத்தின் தொடக்கம் இந்தியாவில் பிரிட்டிஷ் வணிக நிறுவனத்திற்கு முன்பிருந்தே உள்ளது. ஆங்கில கிழக்கிந்திய வணிகக்குழு கி.பி.(பொ.ஆ.)1600இல் தொடங்கப்பட்டது. பன்னிரெண்டு ஆண்டுகளுக்குப் பின்னர் மேற்கு கடற்கரையில் சூரத்தில் ஒரு தொழிற்சாலை அமைக்கப்பட்டது. பின்னர் ஆங்கில வணிகர்களின் ஜவுளி வர்த்தகத்தேடல் கிழக்கு கடற்கரையிலும் துறைமுகத்தைக் பெற வழிவகுத்தது.

ஆங்கிலேயர்கள் சில முயற்சிகளுக்குப் பிறகு மசூலிப்பட்டினத்தில் ஒரு தொழிற்சாலையைக் கட்டும் உரிமையைப் பெற்றனர். இது பருவக்காற்று பாதிப்பிலிருந்து நன்கு பாதுகாக்கப்பட்டது. அதனால் பின்னர் மசூலிப்பட்டினம் பஞ்சத்தின் பிடியில் சிக்கியது. பாதுகாப்பின் ஒவ்வொரு உத்தரவாதமிருந்தும் மத்தியிலும், ஆங்கில வர்த்தகம் அவ்விடத்தில் செழிக்கவில்லை.

பின்னர் ஆங்கில வணிகர்கள் புதிய தளத்தைத் தேடினர். மசூலிப்பட்டின கழக உறுப்பினர் மற்றும் ஆர்மகான் தொழிற்சாலையின் தலைவரான பிரான்சிஸ் டே 1637ஆம் ஆண்டு ஒரு புதிய குடியேற்றத்திற்கான தளத்தை தேர்ந்தெடுக்கும் நோக்கில் ஒரு ஆய்வு பயணத்தை மேற்கொண்டார். இறுதியில் மதராசப்பட்டினத்தைத் தேர்ந்தெடுப்பதற்கான வாய்ப்பு கிடைத்தது. பிரான்சிஸ் டே அந்த இடத்தை ஆய்வு செய்து, அது தொழிற்சாலை அமைப்பிற்கு ஏற்ற இடம் என்பதைக் கண்டறிந்தார்.

சந்திரகிரி (திருப்பதிக்கு மேற்கே 12 கி.மீ) அரசரின் பிரதிநிதியான தமர்லா வெங்கடபதி அவர்களால் அதிகாரபூர்வமான மானியமாக நிலம் வழங்கப்பட்டது. கூவம் நதிக்கும் எழும்பூருக்கும் இடையில் ஒரு சிறுபகுதி நிலத்தைத் தமர்லா பிரிட்டிஷாருக்கு வழங்கினார். ஒப்பந்த பத்திரம் ஆங்கில கிழக்கிந்திய கம்பெனியின் பிரான்சிஸ் டே அவர்களால் 1639ஆம் ஆண்டில் கையெழுத்திடப்பட்டபோது அவருடன் மொழிபெயர்ப்பாளரான பெரி திம்மப்பா மற்றும் உயர்அலுவலர் ஆண்ட்ரு கோகன்



புனித ஜார்ஜ் கோட்டை

7_History_Unit-7 Folder.indd 81 12/3/2022 6:55:59 PM

(மசூலிப்பட்டினம் தொழிற்சாலையின் தலைவர்) உடனிருந்தனர். பிரான்சிஸ் டே மற்றும் ஆண்ட்ரு கோகன் ஆகியோருக்கு வணிகதளத்துடன் கூடிய தொழிற்சாலைக்கும் மதராசபட்டினத்தில் ஒரு கோட்டையை அமைப்பதற்கும் 1639ஆம் ஆண்டில் அனுமதி வழங்கப்பட்டது. இக்கோட்டைகுடியிருப்பு பின்னர் புனித ஜார்ஜ் குடியிருப்பு எனப் பெயர் பெற்றது. இது வெள்ளை நகரம் எனவும் குறிப்பிடப்படுகிறது. இதன் அருகாமையில் உள்ள கிராமங்களில் மக்கள் வசித்த பகுதி கருப்பு நகரம் எனவும் அழைக்கப்பட்டது. மதராஸ் வெள்ளை நகரம் மற்றும் கருப்பு நகரம் எனவும் சேர்த்து அழைக்கப்பட்டது.

மதராசபட்டினம்

தமர்லா வெங்கடபதி ஆங்கிலேயருக்கு மதராசபட்டனத்தை மானியமாக வழங்கினார். இவர் சந்திரகிரியின் அரசரான வெங்கடபதி ராயலுவின் கட்டுப்பாட்டில் இருந்தார். வெங்கடபதியைத் தொடர்ந்து 1642இல் ஸ்ரீரங்கராயலு பதவிக்கு வந்தார். அவர் ஆங்கிலேயருக்கு 1645இல் ஸ்ரீரங்கராயபட்டினம் எனும் புதிய மானியத்தை வழங்கினார். வெங்கடபதி அவரது தந்தை சென்னப்ப நாயக்கர் பெயரால் ஆங்கிலேயர்களின் புதிய கோட்டை மற்றும் குடியேற்றங்கள் சென்னப்பட்டினம் என்று அழைக்கப்பட வேண்டும் என விரும்பினார். ஆனால் ஆங்கிலேயர் இரண்டு ஐக்கிய நகரங்களையும் மதராசபட்டினம் என்று அழைக்க விரும்பினார்கள்.

சென்னை உருவாதல்

இரண்டு ஆங்கில கிழக்கிந்திய கம்பெனி வணிகர்கள் வருகைபுரியும் வரை கிராமங்களின் தொகுப்பாகவும் பனைமரங்கள் மற்றும் நெல் வயல்களுக்கிடையேயும் சென்னை அமைந்திருந்தது. சந்திரகிரியின் ராஜா மஹால் அரண்மனையால் கிழக்கிந்திய கம்பெனியை சேர்ந்த சர் பிரான்சிஸ் டேவிற்கு 1639இல் தொழிற்சாலை கட்டுவதற்காக நிலம் மானியமாக வழங்கப்பட்டு, அது பின்னர் மதராஸ் என பெயரிடப்பட்டது. புனித ஜார்ஜின் தினமான ஏப்ரல் 23, 1640 அன்று இதன் முதல் தொழிற்சாலை கட்டிமுடிக்கப்பட்டு அதற்கு புனித ஜார்ஜ் கோட்டை என்று பெயரிடப்பட்டது. புனித ஜார்ஜ் கோட்டையை கட்டப்பட்டதற்கு டே மற்றும் கோகன் ஆகிய இருவரும் கூட்டாக பொறுப்பாவார்கள். இது 1774 வரை கிழக்கிந்திய கம்பெனியின் முதன்மை குடியிருப்பாக இருந்தது.

> கோட்டைக்குள் கடல் நுழைவாயில் வழியாக நுழைந்தால் முதலில் காணப்படும் கட்டடம் தமிழக அரசின் இருக்கையாகும். இந்த சுவராசியமான கட்டடம் 1694 மற்றும் 1732க்கு இடையில் கட்டப்பட்டதோடு இது இந்தியாவில் ஆங்கிலேயர்களால் கட்டப்பட்ட மிகப் பழமையான கட்டுமானங்களில் ஒன்று என கூறப்படுகிறது.

மதராஸ் மாகாணம் ஒரு நிர்வாக துணைப்பிரிவாகும். இது மெட்ராஸ் மாகாணம் என்று குறிப்பிடப்படுகிறது. சென்னை மாகாணம் என்பது பிரிட்டிஷ் ஆட்சிகாலத்தில் இந்தியாவின் தெற்குப் பகுதியில் பெரிய நிலப்பகுதிகளை உள்ளடக்கி தற்போதைய தமிழ்நாடு, லட்சத்தீவு, வடக்கு கேரளா, ராயலசீமா, கடலோர ஆந்திரா, கர்நாடக மாவட்டங்கள் மற்றும் தெற்கு ஒரிசாவின் பல்வேறு மாவட்டங்களைக் கொண்டிருந்தது.

> கல்கத்தாவில் உள்ள டல்ஹௌசி சதுக்கம் மற்றும் மதராஸில் உள்ள புனித ஜார்ஜ் கோட்டை ஆகியவை மத்திய வணிகப் பகுதிக்கு அருகில் இருந்தன. மேலும் பிரம்மாண்டமான கட்டடங்களைக் கொண்டிருந்தன. அவை பிரிட்டிஷ் வகையிலான ரோமானிய பாணிகளில் அமைந்திருந்தன.

1947ஆம் ஆண்டு சுதந்திரத்திற்குப் பிறகு மதராஸ் மாகாணமானது மதராஸ் மாநிலமாக மாறியது மற்றும் முந்தைய மாகாணத்தின் ஒரு பகுதியாக இருந்த பிற பகுதிகளும் 1956ஆம் ஆண்டு மாநில மறுசீரமைப்புச் சட்டத்தின் கீழ் ஆந்திரா, கேரளா மற்றும் கர்நாடக மாநிலங்களாக அமைக்கப்பட்டன. பின்னர் 1969இல் மதராஸ் மாநிலம் தமிழ்நாடு என மறுபெயரிடப்பட்டது. ஜூலை 17, 1996இல் மதராஸ் அதிகாரப்பூர்வமாக சென்னை என மறுபெயரிடப்பட்டது.

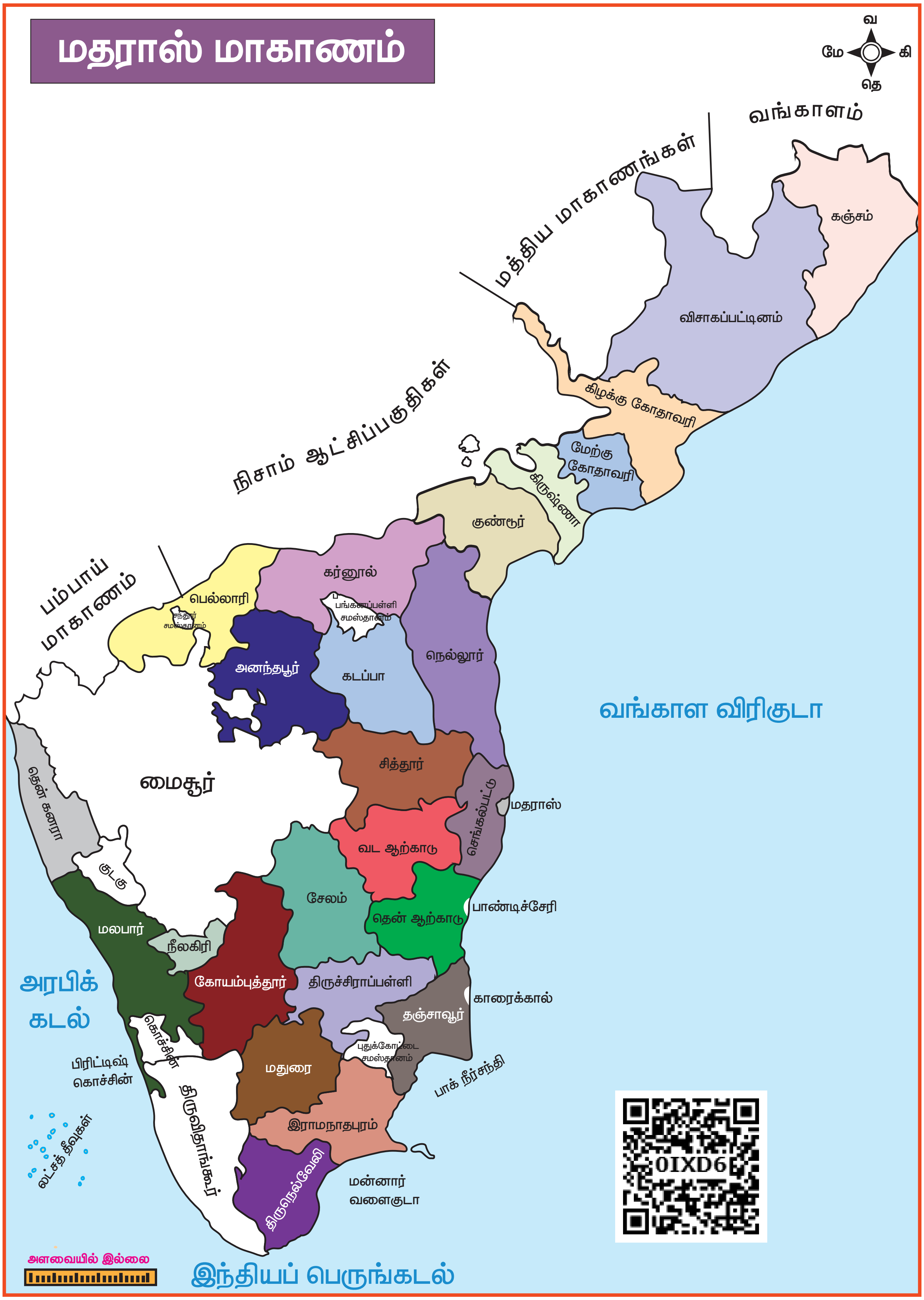

(ஆதாரம்: Atlas of the Madras Presidency, Central Survey Office, Madras, 1921)

7_History_Unit-7 Folder.indd 83 12/3/2022 6:56:00 PM

பம்பாய்

பம்பாய் ஏழு தீவுகளைக் கொண்டதாகும். இது 1534லிருந்து போர்த்துகீசியர்களின் கட்டுப்பாட்டில் இருந்தது. இங்கிலாந்து மன்னர் இரண்டாம் சார்லஸ் போர்த்துகீசிய மன்னரின் சகோதரியைத் திருமணம் செய்து கொண்டதற்குப் பம்பாய் பகுதியை 1661இல் சீதனமாகப் பெற்றார். மன்னர் அப்பகுதியை கிழக்கிந்திய வணிகக்குழுவிற்குக் குத்தகைக்கு அளித்தார். கிழக்கிந்திய கம்பெனி மேற்கிந்தியாவில் அதன் முக்கிய துறைமுகமாக பம்பாயைப் பயன்படுத்தத் தொடங்கியபோது பம்பாய் நகரம் வளரத்தொடங்கியது. ஆங்கில கிழக்கிந்திய நிறுவனம் 1687ஆம் ஆண்டு அதன் தலைமையகத்தைச் சூரத்திலிருந்து பம்பாய்க்கு மாற்றியது.

கல்கத்தா

ஆங்கில வணிகர்கள் சுதநூதியில் 1690ஆம் ஆண்டு ஒரு குடியேற்றத்தை நிறுவினர். அவர்கள் சுதநூதி, கல்கத்தா மற்றும் கோவிந்தபூர் மீது ஜமீன்தாரி உரிமைகளைப் 1698ஆம் ஆண்டில் பெற்றனர். ஆங்கிலேய கிழக்கிந்திய நிறுவனம் கல்கத்தாவில் வில்லியம் கோட்டையை நிறுவியது. கல்கத்தா மாகாணமாக மாறியதோடு அதன் அலுவல்களை நிர்வகிக்க ஆளுநர் மற்றும் குழு இருந்தது.

முடிவுரை

பிரிட்டிஷ் பேரரசு படிப்படியாக நிலைநிறுத்தப்பட்டு நிர்வாகத்தில் இடம்சார்ந்த கட்டமைப்பை ஒருங்கிணைத்து சாம்ராஜ்யத்தின் தலைநகரம், மாநில தலைநகரம் மற்றும் மாவட்ட தலைநகரங்களை உருவாக்கியது. புதிய ஆட்சியாளர்கள், புதிய அலுவலர்களையும், புதிய நிறுவனங்கள் மற்றும் புதிய கட்டமைப்பைக் கொண்ட நகரங்கள் இராணுவ குடியிருப்பு, காவல்நிலையம், சிறை, கருவூலம், பொதுத் தோட்டம், அஞ்சல் அலுவலகம், பள்ளிகள், சிகிச்சை மையங்கள் கொண்டு வந்தனர். எல்லாவற்றுக்கும் மேலாக நகராட்சிக்குழு ஒன்றையும் கொண்டிருந்தது.

இவ்வாறு காலப்போக்கில் நிர்வாக தலைமையகம் நாட்டின் மிக முக்கியமான நகரங்கள் மற்றும் மாநகரங்களாகவும் உருவெடுத்தன. உதாரணமாக இருபதாம் நூற்றாண்டின் தொடக்கத்தில் கல்கத்தா, பம்பாய் மற்றும் மதராஸ் இந்தியாவின் முதன்மை நிர்வாக, வணிக மற்றும் தொழில்துறை நகரங்களாக மாறியிருந்தன. இந்நகரங்கள் ஐரோப்பிய பாணியிலான கட்டடங்களுடன் வணிக மையமாக மாறின. துணை நகர்ப்புற இரயில்வே டிராம் வண்டி மற்றும் நகரப்பேருந்துகள் குடியேற்ற நகரங்களுக்குப் புதிய தோற்றத்தையும் மதிப்பையும் அளித்தன.

மீள்பார்வை

- நகர்ப்புற குடியேற்றத்தின் பரிணாமம் பல்வேறு வழிகளில், பல்வேறு கட்டங்களில் நிகழ்ந்துள்ளது.
- மன்னரின் அரண்மனையைச் சுற்றியுள்ள பகுதிகளில் நகரங்கள் தோன்றின. இடைக்காலத்தில் நகரங்கள் கோட்டை நகரம் அல்லது துறைமுக நகரமாக செயல்பட்டன.
- ஆதிக்கத்தின் விரிவாக்கத்துடன் பிரிட்டிஷ் அதன் இருப்பிடம், நோக்கம் மற்றும் வளங்களைப் பொறுத்து புதிய நகரங்களை உருவாக்கியது.
- 18ஆம் நூற்றாண்டின் கடைசியில் கல்கத்தா, பம்பாய் மற்றும் மதராஸ் மாகாணம் நகரங்களாக எழுச்சிபெற்றது.
- சென்னை ஒரு காலத்தில் கிராமங்களின் தொகுப்பாக இருந்தது. 1639ஆம் ஆண்டு தொழிற்சாலை அமைக்க கிழக்கிந்திய நிறுவனத்தைச் சேர்ந்த சர் பிரான்சிஸ் டே என்பவருக்கு நிலம் வழங்கப்பட்டது. அது பின்னர் சென்னை என ஆயிற்று.
- ஜூலை 17, 1996 அன்று மதராஸ் அதிகாரபூர்வமாக சென்னை என மறுபெயரிடப்பட்டது.

7_History_Unit-7 Folder.indd 84 12/3/2022 6:56:00 PM

கலைச்சொற்கள்		
இராணுவக் குடியிருப்புகள்	Cantonment	A military station in british india
நகரமயமாதல்	Urbanisation	The process of making an area more urban
நகராட்சி	Municipality	A town or district that has local government
இரட்டையாட்சி	Dyarchy	Government by two independent authorities
பெயரிடப்பட்டது	Rechristened	Give a new name to
கருவூலம்	Treasury	A place or building where treasure is stored

மதிப்பீடு

I சரியான விடையைத் தேர்ந்தெடுக்கவும்

1. பழங்கால நகரங்கள் எனப்படுவது

அ) ஹரப்பா மற்றும் மொகஞ்சதாரோ

ஆ) டெல்லி மற்றும் ஹைதராபாத்

இ) பம்பாய் மற்றும் கல்கத்தா

ஈ) மேற்கண்ட எதுவுமில்லை

2. ஆங்கிலேயர்களால் உருவாக்கப்பட்ட கடலோர நகரம் / நகரங்கள்

அ) சூரத் ஆ) கோவா

இ) பம்பாய் ஈ) மேற்கண்ட அனைத்தும்

3. 19ஆம் நூற்றாண்டின் பிற்பகுதியில் தொடங்கிய நகரமயமாக்கலின் ஒரு புதிய நடைமுறை

அ) சூயஸ் கால்வாய் திறப்பு

ஆ) நீராவிப் போக்குவரத்து அறிமுகம்

இ) ரயில்வே கட்டுமானம்

ஈ) மேற்கண்ட அனைத்தும்

4. ஆங்கிலேயர்கள் இந்தியாவுக்கு வருகை தந்தது

அ) வர்த்தகத்திற்காக

ஆ) தங்கள் சமயத்தைப் பரப்புவதற்காக

இ) பணி புரிவதற்காக

ஈ) ஆட்சி செய்வதற்காக

5. புனித ஜார்ஜ் கோட்டை ஆங்கிலேயர்களால் கட்டப்பட்ட இடம்

அ) பம்பாய் ஆ) கடலூர்

இ) மதராஸ் ஈ) கல்கத்தா

6. 1744ஆம் ஆண்டு வரை கிழக்கிந்திய கம்பெனியின் முதன்மை குடியிருப்பாக இருந்தது எது?

அ) வில்லியம் கோட்டை

ஆ) புனித டேவிட் கோட்டை

இ) புனித ஜார்ஜ் கோட்டை

ஈ) இவற்றில் எதுவுமில்லை

II கோடிட்ட இடங்களை நிரப்புக

1. இந்தியாவில் இருப்புப்பாதை போக்குவரத்து அறிமுகப்படுத்தப்பட்ட ஆண்டு ________.

2. இந்தியாவின் 'உள்ளாட்சி அமைப்பின் தந்தை' என்று அழைக்கப்படுபவர் ________

3. 1919ஆம் ஆண்டு இந்திய அரசு சட்டம் மாகாணங்களில் ________ அறிமுகப்படுத்தியது.

4. நகராட்சி உருவாவதற்குப் பொறுப்பாக இருந்தவர் ________

7_History_Unit-7 Folder.indd 85 12/3/2022 6:56:00 PM

5. ________ இல் பிரான்சிஸ் டே மற்றும் ஆண்ட்ரூ கோகன் ஆகியோர் மதராசபட்டினத்தில் ஒரு தொழிற்சாலை மற்றும் வர்த்தக நிறுவனத்தை நிறுவுவதற்கு அனுமதி பெற்றனர்.

III பொருத்துக

1.	பம்பாய்	–	சமய மையம்
2.	இராணுவ குடியிருப்புகள்	–	மலை வாழிடங்கள்
3.	கேதர்நாத்	–	பண்டைய நகரம்
4.	டார்ஜிலிங்	–	ஏழு தீவு
5.	மதுரை	–	கான்பூர்

IV சரியா / தவறா எனக் குறிப்பிடுக

1. இந்தியாவில் வரலாற்றுக்கு முந்தைய காலங்களிலிருந்து நகரங்கள் செழித்து வளர்ந்தன.
2. பிளாசிப்போருக்குப் பின்னர் ஆங்கிலேயர்கள் அரசியல் ஆதிக்கம் பெற்றனர்.
3. வில்லியம் கோட்டை சென்னையில் அமைந்துள்ளது.
4. குடியிருப்புகளில் இராணுவ வீரர்கள் வாழத் தொடங்கினர்.
5. மதராஸ் 1998இல் அதிகாரப்பூர்வமாக சென்னை என மறுபெயரிடப்பட்டது.

V சரியான கூற்றைத் தேர்வு செய்யவும்

1. **கூற்று:** இந்தியா பிரிட்டனின் வேளாண்மை குடியேற்றமாக மாறியது.

   காரணம்: பிரிட்டிஷாரின் ஒரு வழியிலான சுதந்திரமான வர்த்தகக் கொள்கை மற்றும் தொழில்துறை புரட்சி இந்திய உள்நாட்டு தொழில்களை அழித்தன.

   அ) கூற்று சரி மற்றும் காரணம் தவறு

   ஆ) கூற்று தவறு மற்றும் காரணம் சரி

   இ) கூற்று சரி மற்றும் காரணம் கூற்றை விளக்குகிறது

   ஈ) கூற்று சரி மற்றும் காரணம் கூற்றை விளக்கவில்லை

2. பின்வரும் எந்த அறிக்கை / அறிக்கைகள் உண்மையற்றவை?

   i) ஸ்ரீரங்க ராயலு ஆங்கிலேயர்களுக்கு மதராசபட்டணத்தை மானியமாக வழங்கினார்.

   ii) டே மற்றும் கோகன் ஆகிய இருவரும் புனித ஜார்ஜ் கோட்டை கட்டியதற்கு பொறுப்பானவர்கள்.

   iii) 1969ஆம் ஆண்டில் மெட்ராஸ் மாநிலம் தமிழ்நாடு என மறுபெயரிடப்பட்டது.

   அ) i மட்டும் ஆ) i மற்றும் ii

   இ) ii மற்றும் iii ஈ) iii மட்டும்

3. **கூற்று:** ஆங்கிலேயர்கள் தங்கள் மாற்று தலைநகரங்களை மலைப்பாங்கான பகுதிகளில் அமைத்தனர்.

   காரணம்: அவர்கள் இந்தியாவில் கோடைக்காலத்தில் வாழ்வது கடினம் என உணர்ந்தனர்.

   அ) கூற்று சரி மற்றும் காரணம் தவறு

   ஆ) கூற்று தவறு மற்றும் காரணம் சரி

   இ) கூற்று சரி மற்றும் காரணம் கூற்றை விளக்குகிறது

   ஈ) கூற்று சரி மற்றும் காரணம் கூற்றை விளக்கவில்லை

VI பின்வரும் வினாக்களுக்கு ஓரிரு வாக்கியங்களில் விடையளி

1. நகர்ப்புற பகுதி என்றால் என்ன?
2. மலைப்பிரதேசங்கள் காலனித்துவ நகர்ப்புற வளர்ச்சியில் தனித்துவமான அம்சமாக இருந்தன. ஏன்?
3. மாகாண நகரங்கள் மூன்றின் பெயர்களைக் குறிப்பிடுக?
4. 19ஆம் நூற்றாண்டில் நகரமயமாக்கலின் புதிய போக்குக்கு ஏதேனும் நான்கு காரணங்களைக் கூறுக.
5. இராணுவ குடியிருப்பு நகரங்கள் பற்றி சிறு குறிப்பு எழுதுக.
6. பிரிட்டிஷ் ஆட்சியின் போது மதராஸ் மாகாணம் உள்ளடக்கிய பகுதிகள் யாவை?

7_History_Unit-7 Folder.indd 86 12/3/2022 6:56:00 PM

VII விரிவான விடையளி

1. காலனித்துவ நகர்ப்புற வளர்ச்சியைப் பற்றி விளக்குக.
2. மதராஸின் தோற்றம் மற்றும் வளர்ச்சியைப் பற்றி எடுத்துரைக்கவும்.
3. இந்தியா பிரிட்டனின் வேளாண்மை குடியேற்றமாக மாறியது. எப்படி?

VIII செயல்திட்டம் மற்றும் செயல்பாடுகள்

1. ஒரு புகைப்படத்தொகுப்பை உருவாக்கவும் – "சென்னை உருவாகுதல்" (தொடக்க காலத்திலிருந்து தற்போது வரை).
2. இந்திய வரைபடத்தில் துறைமுக நகரங்கள், இராணுவ குடியிருப்புகள், மலைவாழிடங்களைக் குறிக்கவும். (ஒவ்வொன்றிலிருந்தும் ஏதாவது நான்கு இடங்கள்).

மேற்கோள் நூல்கள்

1. G. Venkatesan, *Development of Rural Local Self Government*, Rainbow Publications, Coimbatore, 1983.
2. Saroja Sundarajan, *Madras Presidency in Pre-Gandhian era; a historical perspective, 1884-1915*, Lalitha Publications, 1997.
3. *Atlas of the Madras Presidency*, Central Survey Office, Madras, 1921.
4. *India*, Dorling Kindersely Limited, London, 2002.

இணையச் செயல்பாடு

ஆங்கிலேயர் ஆட்சியில் நகர்ப்புற மாற்றங்கள்

இந்த செயல்பாட்டின் மூலம் உலக நாடுகளின் வரலாற்று வரைபடங்களை அறிந்து கொள்ள முடியும்

படி – 1 URL அல்லது QR குறியீட்டினைப் பயன்படுத்தி இச்செயல்பாட்டிற்கான இணையப்பக்கத்திற்குச் செல்க.

படி – 2 திரையின் இடது பக்கத்தில் "Play" பொத்தானைச் சொடுக்கவும்.

படி – 3 திரையின் கீழே தோன்றும் வரைபடங்களை ஒவ்வொன்றாக தேர்ந்தெடுக்கவும்

உரலி: https://www.zum.de/whkmla/region/india/xpresbengal.html

* படங்கள் அடையாளத்திற்கு மட்டும்.

* தேவையெனில் Adobe Flash ஐ அனுமதிக்க

7_History_Unit-7 Folder.indd 87 12/3/2022 6:56:00 PM

அலகு - 8

காலங்கள்தோறும் இந்தியப் பெண்களின் நிலை

கற்றலின் நோக்கங்கள்

கீழ்க்காண்பனவற்றோடு அறிமுகமாதல்

- பழங்கால சமூகத்தில் பெண்களின் நிலை
- மத்தியகாலத்தில் பெண்களின் நிலை வீழ்ச்சி அடைதல்
- இந்திய சமூகத்தில் நிலவிய முக்கிய சமூக தீமைகள்
- சமூக தீமைகளின் ஒழிப்பில் சமூக சீர்திருத்தவாதிகளின் பங்கு
- கல்வியின் மூலம் பெண்கள் விடுதலை அடைதல்
- சமூக சட்டங்களும் அதிகாரமளித்தலும்

அறிமுகம்

பொதுவாக மனித சமூகமானது தனக்குள்ளிருந்தும் வெளியிலிருந்தும் மாற்றங்களை உட்கிரகித்தும் வெளிப்படுத்தியும் நீக்கியும் தொடர்ந்து மாறிக்கொண்டே இருக்கிறது. மக்கள் தொகையில் சரிபாதியாக பெண்கள் உள்ளனர். இதனால் பல்வேறு காலங்களில் பெண்களின் நிலையை வரலாற்று ரீதியாகப் புரிந்து கொள்ளுதல் அவசியமாகிறது.

பெண்களின் நிலை அனைத்து காலகட்டங்களிலும் ஒரே மாதிரியாக இருந்ததில்லை. மேலும் வட்டார அளவிலும் கூட வேறுபட்டிருந்தன. முந்தைய வேதகாலத்தில் பெண்கள் மதிக்கப்பட்டனர். ஆனால் கங்கைச் சமவெளி குடியேற்றத்திற்குப் பின் சமூகத்தில் அவர்களின் நிலை மோசமடையத் தொடங்கியது. அவர்கள் அடக்கப்பட்டு இரண்டாம் நிலைக்குத் தள்ளப்பட்டனர். புதிய சமூக நடைமுறைகள், பழக்கவழக்கங்கள் சமூகத்திற்குள் நுழைந்து பெண்களின் சுதந்திரத்திற்குச் சில வரம்புகள் மற்றும் கட்டுப்பாடுகளை விதித்தன.

பிரிட்டிஷ் ஆட்சியின் போது ராஜா ராம்மோகன் ராய், தயானந்த சரஸ்வதி, கேசவ சந்திர சென், ஈஸ்வர சந்திர வித்யாசாகர், பண்டித ரமாபாய், டாக்டர். முத்துலட்சுமி அம்மையார், ஜோதிராவ் பூலே, பெரியார் ஈ.வெ.ரா., டாக்டர் தர்மாம்பாள் போன்ற பல முக்கிய சமூக–சமய சீர்திருத்தவாதிகள் பெண்களின் மேம்பாட்டிற்காக போராடினர். ராஜா ராம்மோகன் ராயின் முயற்சியினால் 1829ஆம் ஆண்டு சதி ஒழிப்புச் சட்டம் இயற்றப்பட்டது. வித்யாசாகரின் அயராத முயற்சியால் விதவைப் பெண்களின் நிலையில் முன்னேற்றம் ஏற்பட்டதுடன் 1856இல் விதவை மறுமண சட்டம் கொண்டு வருவதற்கும் வழிவகுத்தது. பெண்கள் கல்வி கற்பதன் மூலமே சமூக தீமைகளை ஒழிக்க முடியும் என்பதைச் சீர்திருத்தவாதிகள் உணர்ந்தனர். ஆகையால் அவர்கள் பெண்களுக்கான பள்ளிகளை நாட்டின் பல பகுதிகளிலும் தொடங்கினர். அதுவே பெண்களின் வாழ்க்கையில் குறிப்பிடத்தகுந்த மாற்றங்களைக் கொண்டுவந்தன.

8_History_Unit-8 Folder.indd 88 03/04/2023 13:32:37

இந்திய சுதந்திர போராட்டத்தில் பெண்கள் முக்கிய பங்கு வகித்தனர். சுதந்திரம் பெறும்வரை பெண்களின் நிலையில் பெரும் மாற்றங்கள் ஏற்படவில்லை. இந்தியா சுதந்திரம் பெற்ற பின்னர் பெண்கள் அனைத்து துறைகளிலும் வளர்ச்சியடைந்துள்ளனர். பெண்கள் தற்பொழுது வாழ்க்கையின் ஒவ்வொரு துறைகளிலும் தங்களது பங்களிப்பை உறுதிப்படுத்துகின்றனர்.

பெண்களின் நிலை

அ) பண்டைய காலம்

பண்டைய இந்தியாவின் சிந்துவெளி நாகரிகத்தில் தாய் கடவுளை வணங்கியதற்கான சான்றுகள் கிடைத்துள்ளன. அச்சான்றுகளிலிருந்து அந்தக் காலகட்டத்தில் பெண்கள் மதிக்கப்பட்டிருந்தனர் என தெளிவாகத் தெரிகிறது. ரிக்வேத காலத்தில் மனைவியின் நிலை போற்றுதலுக்குரியதாக இருந்தது. குறிப்பாக மதச் சடங்குகளில் பெண்கள் பங்கெடுத்துக் கொள்வது ஏற்றுக்கொள்ளப்பட்டன.

பின்வேதகாலத்தில் பெண்களின் நிலையில் பல மாற்றங்கள் ஏற்பட்டன. சமய வேள்வி செயல்பாடுகளைத் தவிர்த்து, அவர்களின் சமூக மற்றும் அரசியல் சுதந்திரம் கட்டுப்படுத்தப்பட்டது. பின்வேதகாலத்தின் போது சதி எனும் பழக்கம் பிரபலமானது. விதவைகள் தாங்களாகவோ அல்லது கட்டாயத்தின் பேரிலோ கணவரின் சிதையோடு சேர்த்து எரிக்கப்பட்டனர். தந்தை வழி முறை கடுமையானதாக மாறியது. பெண்கள் வேதாகமங்களைப் படிக்க மறுக்கப்பட்டனர்.

ஆ) இடைக்காலம்

இடைக்கால சமூகத்தில் பெண்களின் நிலை மேலும் மோசமடைந்தது. சதி, குழந்தை திருமணங்கள், பெண்சிசுக்கொலை, மற்றும் அடிமைத்தனம் போன்ற பல சமூக தீமைகளால் அவர்கள் பாதிக்கப்பட்டனர். பொதுவாக ஒருதார மணமே இருந்தது. ஆனால் செல்வந்த மக்களிடையே பலதாரமணமும் நிலவியது. குறிப்பாக அரச மற்றும் உயர்தர சமூகத்தினரிடையே சதி எனும் பழக்கம் நடைமுறையில் இருந்தது. ஆனால் முகலாய ஆட்சியாளர் அக்பர் சதி முறையினை ஒழிக்க முயன்றார் என்ற உண்மையை நாம் மறுக்க இயலாது. விதவை மறுமணம் அரிதாகவே காணப்பட்டது. இந்தியாவின் சில பகுதிகளில் தேவதாசி முறை நடைமுறையில் இருந்தது. ராஜஸ்தானில் உள்ள ராஜபுத்திரர்களிடையே ஜவ்கார் எனும் பழக்கம் நடைமுறையில் இருந்தது. இடைக்காலத்தில் விதவையின் நிலை பரிதாபமாக மாறியது. பெண்கல்விக்குச் சிறிதளவே முக்கியத்துவம் கொடுக்கப்பட்டது.

> ஜவ்கார் என்பது அந்நியர்களால் தாங்கள் கைப்பற்றப்படுவதையும், அவமதிக்கப்படுவதையும் தவிர்ப்பதற்காக தோற்கடிக்கப்பட்ட ராஜபுத்திர போர்வீரர்களின் மனைவிகளும் மகள்களும் கூட்டாக தீயில் குதித்து உயிரை மாய்த்துக் கொள்ளும் நடைமுறையைக் குறிப்பிடுகிறது.

பொதுவாக பெண்களின் நிலை மோசமடைந்திருந்தபோதிலும், ரசியா சுல்தானா, ராணி துர்காவதி, சாந்த் பீபி, நூர்ஜஹான், ஜஹனாரா, ஜீஜாபாய் மற்றும் மீராபாய் போன்ற சில விதிவிலக்குகளையும் நாம் காணலாம்.

இடைக்காலத்தில் பெண்களின் கல்வி முற்றிலும் புறக்கணிக்கப்படவில்லை. இருப்பினும் பெண்களுக்கென தனியாக பள்ளிகள் எதுவும் காணப்படவில்லை, பெண்கல்வி முறையாக இல்லை. பெண்கள் பொதுவாக குழந்தை பருவத்தில் பெற்றோரிடமிருந்து தங்கள் பாடங்களைக் கற்றுக்கொண்டனர். ஆனால் செல்வந்தர்கள் தங்கள் மகள்களுக்கு வீட்டிலேயே பாடம் கற்பிக்க ஆசிரியர்களை நியமித்தனர். ராஜபுத்திர தலைவர்கள் மற்றும் ஜமீன்தார்களின் மகள்கள் இலக்கியம், தத்துவம் ஆகியவற்றைக் கற்றனர்.

இ) ஆங்கிலேயர்கள் காலம்

இந்தியாவில் பல நூற்றாண்டுகளாக பெண்கள் ஆண்களுக்கு அடிபணிந்திருந்ததோடு சமூகரீதியாகவும் ஒடுக்கப்பட்டிருந்தனர். 19ஆம் நூற்றாண்டில் ஏற்பட்ட தேசிய விழிப்புணர்வின் விளைவாக சமூகத்தில் சீர்திருத்தம் ஏற்பட்டது. கடுமையான சமூக தீமைகள் மற்றும் காலாவதியான பழக்கவழக்கங்களுக்கு எதிராக அறிவார்ந்த மக்கள் பெருமளவில் கிளர்ச்சி செய்தனர்.

8_History_Unit-8 Folder.indd 89 03/04/2023 13:32:37

ஏராளமான தனிநபர்கள், சீர்திருத்த சங்கங்கள் மற்றும் சமய அமைப்புகள் பெண் கல்வியைப் பரப்ப கடுமையாக உழைத்தன. விதவை மறுமணத்தை ஊக்குவித்தல், குழந்தை திருமணத்தைத் தடுத்தல், ஒருதார மணத்தை நடைமுறைப்படுத்துதல் மற்றும் நடுத்தரவர்க்க பெண்கள், தொழில்கள் அல்லது பொது வேலைவாய்ப்புகளை மேற்கொள்ள உதவுதல் போன்ற செயல்பாடுகளில் ஈடுபட்டன.

19ஆம் நூற்றாண்டின் தொடக்கத்தில் ஆண் கல்வியறிவுடன் ஒப்பிடும்போது பெண் கல்வியறிவு மிகக்குறைவாகவே இருந்தது. கிறித்துவ அமைப்புகள் 1819ஆம் ஆண்டு கல்கத்தாவில் முதன் முதலில் பெண் சிறார் சங்கத்தை அமைத்தன. கல்கத்தாவில் கல்வி கழகத்தின் தலைவராக இருந்த J.E.D. பெதுன் என்பவர் 1849ஆம் ஆண்டு பெதுன் பள்ளியை நிறுவினார்.

1854ஆம் ஆண்டின் சார்லஸ் வுட் கல்வி அறிக்கை பெண் கல்விக்கு அதிக முக்கியத்துவம் அளித்தது. 1882ஆம் ஆண்டில் இந்திய கல்விக் (ஹண்டர்) குழு சிறுமிகளுக்கான தொடக்கப் பள்ளியையும் ஆசிரியர் பயிற்சி நிறுவனங்களையும் தொடங்க பரிந்துரைத்தது. மேலும், சிறுமிகளுக்கு சிறப்பு உதவித்தொகை மற்றும் பரிசுகளை வழங்க பரிந்துரைத்தது. இந்தியப் பெண்கள் 1880களில் பல்கலைக்கழகங்களில் நுழையத் தொடங்கினர். அவர்கள் மருத்துவர்களாகவும் ஆசிரியர்களாகவும் பயிற்சி பெற்றனர். மேலும் அவர்கள்புத்தகங்களையும்பத்திரிகைகளையும் எழுத தொடங்கினர். 1914இல் மகளிர் மருத்துவ சேவை அமைப்பு செவிலியர்களுக்குப் பயிற்சி அளிப்பதில் பெரும்பங்காற்றியது. 1890களில் D.K. கார்வே என்பவர் பூனாவில் ஏராளமான பெண் பள்ளிகளை நிறுவினார். பேராசிரியர் D.K. கார்வே, பண்டித ரமாபாய் ஆகியோர் கல்வியறிவின் மூலம் பெண்கள் விடுதலை பெற தீவிர முயற்சி எடுத்தது உண்மையிலேயே குறிப்பிடத்தக்கது. 1916இல் இந்திய மகளிர் பல்கலைக்கழகம் பேராசிரியர் D.K. கார்வேவால் தொடங்கப்பட்டது. இது பெண்களுக்குக் கல்வியை வழங்குவதில் சிறந்த நிறுவனமாக விளங்கியது. அதே ஆண்டில் லேடி ஹார்டிங் மருத்துவக் கல்லூரியும் டெல்லியில் தொடங்கப்பட்டது.

முக்கிய சமூக தீமைகள்

அ) பெண்சிசுக் கொலை

பெண்சிசுக்கொலை 19ஆம் நூற்றாண்டில் இந்திய சமுதாயத்தைப் பாதித்த ஒரு மனிதாபிமானமற்ற நடைமுறையாகும். இது குறிப்பாக ராஜபுதனம், பஞ்சாப் மற்றும் வடமேற்கு மாகாணங்களில் நடைமுறையில் இருந்தது. இப்பெண்சிசுக்கொலையானது பொருளாதார சுமையைத் தவிர்ப்பதற்காக மேற்கொள்ளப்பட்டன.

குடும்பப் பெருமை, வரதட்சணைக் கொடுமை, பெண் குழந்தைக்குப் பொருத்தமான வரனை கண்டுபிடிக்க முடியாது என்ற பயம் போன்ற காரணிகளே இந்த நடைமுறைக்கு முக்கிய காரணங்கள் ஆகும். எனவே, பிறந்த உடனேயே பெண் கைக்குழந்தைகள் கொல்லப்பட்டனர்.

கிழக்கிந்திய கம்பெனி நிர்வாகம் இந்த நடைமுறையை தடைசெய்ய நடவடிக்கை மேற்கொண்டது. 1795ஆம் ஆண்டின் வங்காள ஒழுங்காற்றுச் சட்டம் XXI, 1802ஆம் ஆண்டின் ஒழுங்குமுறைச் சட்டம் மற்றும் 1870ஆம் ஆண்டின் பெண் சிசுக்கொலை தடைச் சட்டம் ஆகிய சட்டங்களை நிறைவேற்றி பெண்சிசுக்கொலை நடைமுறையைத் தடைசெய்தது.

ஆ) பெண்சிசு கருக்கொலை

பெண்சிசு கருக்கொலை என்பது சாதி, சமய, வர்க்கம் மற்றும் பிராந்திய எல்லைகளைக் கடந்த மற்றொரு மனிதாபிமானமற்ற நடைமுறையாகும். பெண் சிசுக்கொலை அல்லது பெண்சிசு கருக்கொலை எதுவாக இருந்தாலும் நோக்கம் ஒன்றே. பெண்சிசு கருக்கொலை மற்றும் கருவிலேயே பாலினம் அறிதல் ஆகியவற்றைத் தடை செய்வதற்காக மத்திய அரசு பல்வேறு சட்டங்களை நிறைவேற்றி உள்ளது.

இ) குழந்தைத் திருமணம்

குழந்தைத் திருமணமானது நடைமுறையில் பெண்களுக்கெதிரான மற்றொரு சமூக தீமையாக காணப்பட்டது.

1846ஆம் ஆண்டில் பெண்களுக்கான குறைந்தபட்ச திருமண வயது 10 என இருந்தது. 1872இல் நிறைவேற்றப்பட்ட உள்நாட்டு திருமணச் சட்டம் மூலம் பெண்களின் குறைந்தபட்ச திருமண வயது 14 ஆகவும், ஆண்களுக்கு 18 ஆகவும் நிர்ணயிக்கப்பட்டது.

8_History_Unit-8 Folder.indd 90 03/04/2023 13:32:37

அக்பர் குழந்தை திருமணத்தைத் தடுத்ததுடன் திருமணத்திற்கு முன் மணமகன் மற்றும் மணமகளின் ஒப்புதலைப் பெற்றோர்கள் கட்டாயமாக பெற்றுக்கொள்ள வேண்டும் என்று உத்தரவிட்டார். அவர் பெண்ணிற்கான திருமணவயது 14 எனவும் ஆண்களுக்கான திருமண வயது 16 எனவும் நிர்ணயித்தார்.

1930இல் மத்திய சட்டபேரவையில் ராய்சாகிப் ஹர்பிலாஸ் சாரதா குழந்தை திருமண மசோதா கொண்டுவரப்பட்டது. இச்சட்டம் ஆண்களுக்கான குறைந்தபட்ச திருமண வயது 18 எனவும் பெண்களுக்கான குறைந்தபட்ச திருமணவயது 14 ஆகவும் நிர்ணயித்தது. பின்னர் இது 1955ஆம் ஆண்டு இந்து திருமணச் சட்டத்தின்படி ஆண்களுக்கான குறைந்தபட்ச திருமணவயது 21 ஆகவும் பெண்களுக்கான குறைந்தபட்ச திருமண வயது 18 எனவும் திருத்தப்பட்டது.

ஈ) சதி

இந்திய சமூகத்தில் நிலவிய மற்றொரு சமூகதீமை சதி ஆகும். குறிப்பாக ராஜபுத்திரர்களிடையே இப்பழக்கம் காணப்பட்டது. பெரும்பாலும் கணவனை இழந்தப் பெண்கள் உறவினர்களின் வற்புறுத்தலாலேயே சிதையில் அமர்ந்தனர். கி.பி.(பொ.ஆ.) 1420இல் விஜயநகருக்கு வருகைப்புரிந்த இத்தாலிய பயணி நிக்கோலோ கோண்டி தனது குறிப்புகளில் 'அந்தப்பகுதியில் வாழ்ந்தவர்கள் தங்கள் விருப்பத்தின் பேரில் பல பெண்களை திருமணம் செய்து கொண்டனர் என்றும் பெண்கள் இறந்த தன் கணவருடன் எரிக்கப்பட்டனர்' என்றும் குறிப்பிடுகிறார்.

19ஆம் நூற்றாண்டின் தொடக்கத்தில் சதி என்னும் பழக்கம் வங்காளத்தின் பல பகுதிகளிலும் மேற்கு இந்தியா மற்றும் தென் இந்தியாவிலும் நடைமுறையில் இருந்தது. 1811ஆம் ஆண்டில், இராஜா ராம்மோகன் ராயின் சகோதரர் ஜெகன்மோகன் ராய் காலமானதால் அவருடன் அவரது மனைவியும் எரிக்கப்பட்டார். இராஜா ராம்மோகன் ராய் அதைப் பார்த்தபோது மிகவும் அதிர்ச்சியடைந்தார். இந்த கொடூரமான நடைமுறையைச் சட்டத்தின் மூலம் ஒழிப்பேன் என்று சபதம் செய்தார். அவர் சதியை ஒழிப்பதற்காக தொடர்ச்சியான போராட்டத்தைப் பத்திரிகை மூலமாகவும் மேடைகளில் பேசுவதன் மூலமாகவும் மேற்கொண்டார்.

ராஜா ராம்மோகன் ராய் 1818–20இல் பல கட்டுரைகளை வெளியிட்டார், அதில் சதி எனும் சடங்கு சாஸ்திரங்களால் கட்டளையிடப்படவில்லை என்பதைக் குறிப்பிட்டார். சதி எனும் சடங்கு இந்து மதத்தின் ஒரு அங்கம் என்று பொதுவாக ஏற்றுக்கொள்ளப்பட்ட கருத்தை சிதைக்க செராம்பூர் சமயப் பரப்புக் குழுக்களில் இந்த கருத்துகள் பயன்படுத்தப்பட்டது. பழமையான இந்து பழக்கமான சதி ஒழிப்புக்கு எதிராக ராதாகந்த் தேப் மற்றும் பவானி சரண் பானர்ஜி ஆகியோர் தங்களது கருத்துகளை வெளியிட்டனர்.

வில்லியம் பெண்டிங் பிரபு குற்றவியல் நீதிமன்றங்களின் நீதிபதிகளால் சதி எனும் பழக்கம் ரத்து செய்யப்படுவது பரிந்துரைக்கப்பட்டிருப்பதை கண்டார். எனவே அவர் டிசம்பர் 4, 1829இல் விதிமுறை XVII என்ற சட்டத்தை நிறைவேற்றினார். இச்சட்டத்தின் மூலம் சதியில் ஈடுபடுவது அல்லது எரித்தல் அல்லது இந்துவிதவைகளை உயிருடன் புதைத்தல் ஆகியவை சட்டத்திற்கு புறம்பானது மற்றும் குற்றவியல் நீதிமன்றங்களால் தண்டிக்ககூடியவை எனவும் அறிவித்தார். அதே போன்ற நடவடிக்கைகள் பம்பாய் மற்றும் சென்னையிலும் உடனடியாக சட்டமாக்கப்பட்டது.

உ) தேவதாசி முறை

தேவதாசி (சமஸ்கிருதம்) அல்லது தேவர் அடியாள் (தமிழ்) என்ற வார்த்தையின் பொருள் "கடவுளின் சேவகர்" என்பதாகும். பெண் குழந்தையைக் கோவிலுக்கு நேர்த்தி கடனாக அர்ப்பணிக்கும் வழக்கம் இருந்தது. அவர்கள் கோயிலைக் கவனித்துக்கொள்வதோடு மட்டுமல்லாமல், பரத நாட்டியம் மற்றும் பிற பாரம்பரிய இந்திய கலைகளையும் கற்றுக் கொண்டனர்.

பிற்காலங்களில் அவர்கள் மோசமாக நடத்தப்பட்டு அவமானப்படுத்தப்பட்டனர். மேலும் தேவதாசிகள் தங்கள் கண்ணியம், பெருமை உணர்வு, சுயமரியாதை மற்றும் கௌரவம் ஆகியவற்றை இழந்தனர்.

இந்தியாவின் முதல் பெண் மருத்துவரான

8_History_Unit-8 Folder.indd 91 03/04/2023 13:32:37

டாக்டர் முத்துலட்சுமி அம்மையார், கொடுமையான தேவதாசி முறையை தமிழ்நாட்டிலிருந்து ஒழிப்பதற்காக தன்னை அர்ப்பணித்துக் கொண்டார். தேவதாசி முறைக்கு எதிரான அவரது போராட்டத்தைப் பாராட்டும் வகையில் 1929இல் அவர் சென்னை சட்டமன்றத்திற்கு பரிந்துரைக்கப்பட்டார். பெரியார் ஈ.வெ.ரா. "தேவதாசி ஒழிப்பு மசோதாவை" நிறைவேற்றுவதில் முக்கிய கருவியாக செயல்பட்டார். 1930இல் டாக்டர் முத்துலட்சுமி அம்மையார் இம்மசோதாவைச் சென்னை சட்டமன்றத்தில் முன்மொழிந்தார்.

தேவதாசிகளின் விடுதலைக்காக போராடிய மற்றொரு பெண்மணி மூவலூர் ராமாமிர்தம் ஆவார். ராஜாஜி, பெரியார் மற்றும் திரு.வி.க. ஆகியோரின் தொடர்ச்சியான தார்மீக ஆதரவுடன் இந்த கொடுமையான முறைக்கு எதிராக அவர் முழக்கம் எழுப்பினார். இதன் விளைவாக அரசாங்கம் "தேவதாசி ஒழிப்புச் சட்டத்தை" நிறைவேற்றியது.

மதராஸ் தேவதாசி சட்டம் என்பது அக்டோபர் 9, 1947இல் நிறைவேற்றப்பட்ட ஒரு சட்டமாகும். மதராஸ் மாகாணத்தில் நிறைவேற்றப்பட்ட இந்த சட்டம் தேவதாசிகளுக்குச் சட்டப்படி திருமணம் செய்து கொள்ளும் உரிமையை வழங்கியதுடன், இந்திய கோவில்களுக்கு பெண் குழந்தைகளைத் தானமாக வழங்குவது சட்டவிரோதம் எனவும் அறிவித்தது.

சமூக சீர்திருத்தவாதிகளின் பங்கு

பத்தொன்பதாம் நூற்றாண்டின் இரண்டாம் பாதியிலிருந்து, பல சமூக சீர்திருத்தவாதிகள் மற்றும் சமூக சீர்திருத்த இயக்கங்கள் பெண்களுக்கு கல்வி அளிப்பது, அவர்களின் திருமண வயதை உயர்த்துவது, விதவைகளை பராமரிப்பது, அதே போன்று சாதிமுறையின் இறுக்கமான தன்மையை நீக்குவது மற்றும் ஒடுக்கப்பட்ட வகுப்பைச் சமத்துவநிலைக்கு உயர்த்துதல் ஆகியவற்றின் மூலம் பெண்களின் முன்னேற்றத்தை ஊக்குவிக்க முயன்றது. இவ்வியக்கங்களை வழிநடத்திய சீர்திருத்தவாதிகளே நவீன இந்தியாவின் முன்னோடிகள் ஆவர்.

அ) இராஜா ராம்மோகன் ராய்

இந்தியாவில் காணப்பட்ட சமூக அடக்குமுறைகளை சீர்திருத்த முயன்ற பிரிட்டிஷாரின் முயற்சியை ஆதரித்த சில அறிவார்ந்த இந்தியர்கள் இருந்தனர். அவர்களில் மிக முக்கியமானவர் இராஜா ராம்மோகன் ராய் ஆவார். இந்திய சமூக சீர்திருத்த இயக்கத்தின் முன்னோடியான இராஜா ராம்மோகன் ராய், தனது உடன் பிறந்த சகோதரரின் வாழ்க்கையில் இந்த நடைமுறையைக் கண்டபின்னர் சாதிகளுக்கு அப்பால் சதி எதிர்ப்பு போராளியானார். மனிததன்மையற்ற இத்தீய பழக்கத்திற்கு எதிரான இயக்கத்தைத் தொடங்கினார். இரக்கமற்ற கொடிய இப்பழக்கத்தினால் பாதிக்கப்பட்ட இராஜா ராம்மோகன் ராய் தலைமையிலான இயக்கத்தின் செல்வாக்கினால், பிரிட்டிஷ் அரசாங்கம் இந்தச் செயலை "குற்றம் சார்ந்த கொலை" என்று அறிவித்தது. 1829இல் சதி எனும் உடன்கட்டை ஏறுதல் தண்டனைக்குரிய குற்றம் என வில்லியம் பெண்டிங் பிரபு அறிவித்தார். இந்த தடைச்செயலுக்கு உதவியதற்காக ராஜா ராம்மோகன் ராய் மிகவும் நினைவு கூறப்படுகிறார். மேலும் குழந்தைத் திருமணம் மற்றும் பெண்சிசுக்கொலை ஆகியவற்றையும் அவர் எதிர்த்தார். விதவை மறுமணம், பெண்கல்வி மற்றும் பெண்களின் சொத்துரிமை ஆகியவற்றை ஆதரித்தார். இவ்வாறாக சதி என்னும் தீய பழக்கம் சமூகத்திலிருந்து ஒழிக்கப்பட்டது.

ஆ) ஈஸ்வர சந்திர வித்யாசாகர்

ஈஸ்வர சந்திர வித்யாசாகர் பெண் கல்வி, விதவை மறுமணம் ஆகியவற்றை ஆதரிக்கவும் பலதார மணத்தை ஒழிப்பதற்காகவும் வங்காளத்தில் ஒரு இயக்கத்தை மேற்கொண்டார். 1856இல் இந்து விதவை மறுமணச் சட்டத்தை நிறைவேற்றுவதற்காக இந்திய சட்டமன்றத்திற்கு அவர் பல மனுக்களைச் சமர்ப்பித்தார். மற்றவர்களுக்கு முன்மாதிரியாக அவரது மகன் நாராயணச்சந்திரா, ஒரு விதவையைத் திருமணம் செய்து கொண்டார். வித்யாசாகர்

8_History_Unit-8 Folder.indd 92 03/04/2023 13:32:37

பெண் கல்வியை மேம்படுத்துவதற்காக வங்காளத்தில் நாடியா, மிட்னாபூர், ஹூக்ளி மற்றும் பர்த்வான் ஆகிய மாவட்டங்களில் பல பெண்கள் பள்ளியை நிறுவினார்.

இ) கந்துகூரி வீரேசலிங்கம்

கந்துகூரி வீரேசலிங்கம் பந்துலு தென்னிந்தியாவில் மகளிர் விடுதலைக்காக போராடிய ஆரம்பகால போராளி ஆவார். அவர் விவேகவர்தினி என்ற பத்திரிகையை வெளியிட்டார். மேலும் அவர் 1874இல் தனது முதல் பெண்கள் பள்ளியைத் திறந்தார். விதவை மறுமணம் மற்றும் பெண் கல்வி ஆகியவற்றைச் சமூக சீர்திருத்தத்திற்கான தனது திட்டத்தின் முக்கிய குறிக்கோளாகக் கொண்டார்.

கந்துகூரி வீரேசலிங்கம்

ஈ) M.G. ரானடே மற்றும் B.M. மலபாரி

M.G. ரானடே மற்றும் B.M. மலபாரி ஆகியோர் பம்பாயில் பெண்கள் முன்னேற்றத்திற்கான இயக்கத்தை நடத்தினர். 1869ஆம் ஆண்டில், ரானடே விதவை மறுமண சங்கத்தில் சேர்ந்து, விதவை மறுமணம் மற்றும் பெண் கல்வியை ஊக்குவித்ததுடன் குழந்தை திருமணத்தை எதிர்த்தார். 1887இல் இந்திய தேசிய சமூக மாநாட்டை தொடங்கினார். அது சமூக சீர்திருத்தத்திற்கான ஒப்புயர்வற்ற நிறுவனமாக உருவானது. ஒரு பத்திரிகையாளரான B.M. மலபாரி 1884இல் குழந்தை திருமணத்தை ஒழிப்பதற்கான ஒரு இயக்கத்தைத் தொடங்கினார். துண்டுப்பிரசுரங்களை வெளியிட்டு நடவடிக்கை எடுக்குமாறு அரசாங்கத்திடம் வேண்டுகோள் விடுத்தார்.

உ) கோபால கிருஷ்ண கோகலே

கோபால கிருஷ்ண கோகலே 1905ஆம் ஆண்டில் இந்திய ஊழியர் சங்கத்தை தொடங்கினார். அது தொடக்கக் கல்வி, பெண் கல்வி மற்றும் ஒடுக்கப்பட்ட வகுப்பினரின் மேம்பாடு ஆகியவற்றில் சீர்திருத்தங்களைக் கொண்டுவந்தது. பெண் கல்வியின் பரவலானது, பல பெரிய சமூக சீர்திருத்தங்களுக்கு வழிவகுத்ததோடு, சுதந்திர போராட்டத்தில் பெண்கள் பங்கேற்கவும் வழிவகுத்தது.

கோபால கிருஷ்ண கோகலே

ஊ) பெரியார் ஈ.வெ.ரா

பெரியார் ஈ.வெ.ரா தமிழ்நாட்டின் மிகச் சிறந்த சமூக சீர்திருத்தவாதிகளில் ஒருவராவார். இவர் பெண்கல்வி, விதவை மறுமணம் மற்றும் கலப்பு திருமணம் ஆகியவற்றை ஆதரித்தார். மேலும் குழந்தை திருமணத்தை எதிர்த்தார்.

எ) பெண் சீர்திருத்தவாதிகள்

பெரும்பாலான சீர்திருத்த இயக்கங்களான பிரம்ம சமாஜம் (1828), பிரார்த்தனை சமாஜம் (1867) மற்றும் ஆரிய சமாஜம் (1875) போன்றவை ஆண் சீர்திருத்தவாதிகளால் வழிநடத்தப்பட்டன. அவர்கள் பெண்கள் சுதந்திரம் மற்றும் வளர்ச்சியில் ஒரு எல்லையை நிர்ணயித்தனர். பண்டித ரமாபாய், ருக்மாபாய் மற்றும் தாராபாய் ஷிண்டே போன்ற பெண் சீர்திருத்தவாதிகள் மேலும் அதை விரிவுபடுத்த முயற்சித்தனர். 1889இல் இந்து விதவைகளுக்காக சாரதா சதன் (கற்றல் இல்லம்) எனும் அமைப்பினை பண்டித ரமாபாய் பம்பாயில் தொடங்கினார். பின்னர் அது பூனாவுக்கு மாற்றப்பட்டது. அவரது முயற்சிகளிலேயே மகத்தானது இந்தியாவில் விதவைகளுக்கு முதன்முதலில் கல்வி புகட்ட மேற்கொண்டதாகும். மேலும் சென்னையில் பிரம்மஞான சபை (தியோசாபிகல் சங்கம்) நிறுவப்பட்டது. டாக்டர் அன்னிபெசன்ட் அம்மையார் ஐரோப்பாவிலிருந்து வருகை தந்து அவற்றில் இணைந்தார். இச்சங்கமும் பொது சமூக சீர்திருத்த திட்டத்தை உருவாக்கியது.

பெரியாரின் கருத்துக்களால் மிகவும் கவரப்பட்ட மற்றொரு சீர்திருத்தவாதி டாக்டர் S. தர்மாம்பாள் ஆவார். அவர் விதவை மறுமணத்தைச் செயல்படுத்துவதிலும் பெண்கல்வியிலும் மிகுந்த ஆர்வம் காட்டினார். சீர்திருத்தவாதியான டாக்டர் முத்துலட்சுமி அம்மையாருடன் இணைந்து தேவதாசி முறைக்கு எதிராக மூவலூர் ராமாமிர்தம் அம்மையார் குரல் எழுப்பினார். அம்மையார் அவர்களது நினைவாக தமிழக அரசு 'மூவலூர் ராமாமிர்தம் அம்மையார் நினைவு திருமண

8_History_Unit-8 Folder.indd 93 03/04/2023 13:32:38

உதவி' திட்டத்தைத் தொடங்கியது. இந்த சமூக நலத்திட்டம் மூலம் ஏழைப்பெண்களுக்கு நிதிஉதவி வழங்கப்படுகிறது. இவ்வாறாக தங்களின் உரிமைகளை வென்றெடுப்பதற்காக பெண் சீர்திருத்தவாதிகளும் பெரும் பங்காற்றியுள்ளனர்.

தங்களின் நலன்களைப் பாதுகாத்துக் கொள்வதற்காக தங்களுக்கானதொரு சங்கம் நிறுவப்படுவதன் அவசியத்தைப் புகழ்பெற்ற பெண்கள் உணர்ந்தனர். அதன் விளைவாக, இந்தியாவில் இந்திய பெண்கள் சங்கம், தேசிய பெண்கள் ஆணையம் மற்றும் அகில இந்திய பெண்கள் மாநாடு போன்ற மூன்று மிகப்பெரிய பெண்கள் அமைப்புகள் நிறுவப்பட்டது.

மூவலூர் ராமாமிர்தம்

விடுதலை இயக்கத்தில் பெண்கள்

தொடக்ககால காலனிய எதிர்ப்பு போராட்டத்தில் பெண்கள் பல்வேறு வகைகளில் முக்கிய பங்காற்றினர். சிவகங்கையின் வேலுநாச்சியார் ஆங்கிலேயருக்கு எதிராக வீரதீரமாக போரிட்டு சிவகங்கையில் தனது ஆட்சியை மீட்டெடுத்தார். 1857ஆம் ஆண்டு ஆங்கிலேயருக்கு எதிரான போராட்டத்தில் பேகம் ஹஸ்ரத் மஹால், ஜான்சியின் ராணி லட்சுமி பாய் போன்றோர் ஆயுதமேந்தி போராடினர்.

வேலுநாச்சியார்

விடுதலைப் போராட்டத்தில் ஆயிரக்கணக்கான பெண்கள் அயல்நாட்டு பொருட்களை புறக்கணித்தல், ஊர்வலங்களில் கலந்துகொள்வது, சட்டங்களை மீறுதல் மூலம் தடியடி பெற்று சிறைக்குச் சென்றனர். விடுதலைப் போராட்டத்தில் அவர்களது பங்களிப்பு வெகுஜன தன்மையில் புதிய பரிணாமத்தைச் சேர்த்தது.

சீர்திருத்த இயக்கத்தின் தாக்கம்

- பெண்களின் விடுதலையில் குறிப்பிடத்தக்க முன்னேற்றத்தை ஏற்படுத்தியது.
- இது மக்களிடையே தேசிய விழிப்புணர்வை உருவாக்கியது.
- தியாகம், சேவை மற்றும் பகுத்தறிவு உணர்வு ஆகியவற்றை உருவாக்கியது.
- சதி மற்றும் பெண்சிசுக்கொலை ஆகியவை சட்டவிரோதமாக்கப்பட்டது.
- விதவை மறுமணம் செய்ய அனுமதிக்கப்பட்டனர்.

சுதந்திர இந்தியாவில் பெண்கள்

இந்தியாவில் பெண்கள் தற்போது கல்வி, அரசியல், மருத்துவம், கலாச்சாரம், சேவைத் துறைகள், அறிவியல் மற்றும் தொழில்நுட்பம் உட்பட அனைத்துத் துறைகளிலும் பங்கேற்கின்றனர்.

பின்வரும் சட்டங்கள் திருமணம், தத்தெடுப்பு, வாரிசு போன்ற விஷயங்களில் பெண்களின் நிலையை மேம்படுத்தியுள்ளது.

முக்கிய சட்டவிதிகள்	முக்கிய பிரிவுகள்
வங்காள ஒழுங்குமுறைச் சட்டம் XXI, 1804	பெண்சிசுக்கொலை சட்டவிரோதமானது என அறிவிக்கப்பட்டது.
ஒழுங்குமுறை XVII, 1829	சதி எனும் பழக்கம் சட்டவிரோதமானது என்று அறிவிக்கப்பட்டது.
இந்து விதவைகள் மறுமணச்சட்டம், 1856	விதவைகளை மறுமணம் செய்ய அனுமதித்தது.
உள்நாட்டு திருமணச்சட்டம், 1872	குழந்தை திருமணம் தடை செய்யப்பட்டது.
சாரதா சட்டம், 1930	சிறுவர்கள் சிறுமிகளுக்கான திருமணவயது உயர்த்தப்பட்டது.
தேவதாசி ஒழிப்புச் சட்டம், 1947	தேவதாசி முறையை ஒழித்தது.

8_History_Unit-8 Folder.indd 94 03/04/2023 13:32:38

இந்திய அரசியலமைப்பு (பிரிவு 14) சம வாய்ப்பு மற்றும் சம வேலைக்குச் சம ஊதியம் என உத்திரவாதமளிக்கிறது.

பெண்களுக்கு அதிகாரம் அளிப்பதற்கான தேசிய கொள்கையானது, தேசிய கல்விக் கொள்கை (1986) கீழ் நிறைவேற்றப்பட்டது. புதிதாக தொடங்கப்பட்ட 'மஹிளா சமக்யா' எனும் திட்டமானது பெண்களுக்கு அதிகாரமளிப்பதில் முக்கிய கவனம் செலுத்துகிறது. பெண்களுக்கு 33 சதவீத இடத்தை ஒதுக்கியது பெண்களின் சமூக–அரசியல் செல்வாக்கில் முன்னேற்றத்தை ஏற்படுத்தியது.

ஜனவரி 1992இல் பெண்களுக்கான தேசிய ஆணையம் அமைக்கப்பட்டது. பெண்கள் தொடர்பான சட்டங்களை மறுஆய்வு செய்வது, பெண்களுக்கு எதிரான அநீதிகள் மற்றும் உரிமைகள் மறுப்பு குறித்த தனிப்பட்ட புகார்களில் தலையிடுவது இதன் முக்கிய பணிகள் ஆகும்.

மீள்பார்வை

- பெண்களின் நிலை எல்லா காலங்களிலும் ஒரேமாதிரியாக இருந்ததில்லை மேலும் வட்டார அளவிலும் வேறுபட்டிருந்தது.
- இந்திய சமுதாயத்தில் பல சமூக தீமைகள் இருந்தன.
- பல சமூக சீர்திருத்தவாதிகள் மற்றும் சமூக சீர்திருத்த இயக்கங்கள் பெண்களுக்குக் கல்வி அளிப்பதன் மூலம் அவர்களின் முன்னேற்றத்தை ஊக்குவிக்க முயன்றன.
- இந்தியாவில் பெண்கள் தற்போது அனைத்துத் துறைகளிலும் பங்கேற்கின்றனர்.

கலைச்சொற்கள்		
பெருநிலக்கிழார்	zamindar	a landowner
விடுதலை	emancipation	free from social, or political restriction
அறிவொளி	enlightenment	the state of being enlightened
பலதார மணம்	polygamy	the custom of being married to more than one person
சீர்திருத்தவாதி	reformer	a person who makes changes to something in order to improve it

மதிப்பீடு

I சரியான விடையைத் தேர்ந்தெடுக்கவும்

1. ________ சமூகமானது தனக்குள்ளிருந்தும் வெளியிலிருந்தும் மாற்றங்களை உட்கிரகித்தும் வெளிப்படுத்தியும் நீக்கியும் தொடர்ந்து மாறிக்கொண்டே இருக்கிறது.

   அ) மனித ஆ) விலங்கு
   இ) காடு ஈ) இயற்கை

2. இந்தியாவின் முதல் பெண் மருத்துவர்

   அ) தர்மாம்பாள்
   ஆ) முத்துலட்சுமி அம்மையார்
   இ) மூவலூர் ராமாமிர்தம்
   ஈ) பண்டித ரமாபாய்

3. சதி எனும் நடைமுறை ஒழிக்கப்பட்ட ஆண்டு

   அ) 1827 ஆ) 1828
   இ) 1829 ஈ) 1830

4. B.M. மலபாரி என்பவர் ஒரு

   அ) ஆசிரியர் ஆ) மருத்துவர்
   இ) வழக்கறிஞர் ஈ) பத்திரிகையாளர்

5. பின்வருவனவற்றில் எது/எவை சீர்திருத்த இயக்கம்/இயக்கங்கள்?

   அ) பிரம்ம சமாஜம்
   ஆ) பிரார்த்தனை சமாஜம்
   இ) ஆரிய சமாஜம்
   ஈ) மேற்கண்ட அனைத்தும்

8_History_Unit-8 Folder.indd 95 03/04/2023 13:32:38

6. பெதுன் பள்ளி ________ இல் J.E.D. பெதுன் என்பவரால் நிறுவப்பட்டது.

அ) 1848 ஆ) 1849

இ) 1850 ஈ) 1851

7. 1882ஆம் ஆண்டில் சிறுமிகளுக்கான ஆரம்பப் பள்ளிகளைத் தொடங்க எந்த ஆணையம் பரிந்துரைத்தது?

அ) வுட்ஸ் ஆ) வெல்பி

இ) ஹண்டர் ஈ) முட்டிமன்

8. சாரதா குழந்தை திருமண மசோதாவானது சிறுமிகளுக்கான குறைந்தபட்ச திருமண வயதை ________ என நிர்ணயித்தது.

அ) 11 ஆ) 12 இ) 13 ஈ) 14

II கோடிட்ட இடங்களை நிரப்புக

1. ________ 1819இல் கிறித்தவ சமயப்பரப்பு குழுக்களால் அமைக்கப்பட்டது.
2. சிவகங்கையை சேர்ந்த ________ என்பவர் பிரிட்டிஷாரை எதிர்த்து வீரமாக போராடினார்.
3. இந்திய ஊழியர் சங்கத்தை நிறுவியவர் ________
4. தமிழ்நாட்டின் மிகப்பெரிய சமூக சீர்திருத்தவாதிகளில் ஒருவர் ________ ஆவார்.
5. கந்துகூரி வீரேசலிங்கம் வெளியிட்ட பத்திரிகையின் பெயர் ________ ஆகும்.

III பொருத்துக

1	பிரம்மஞான சபை	–	இத்தாலிய பயணி
2	சாரதா சதன்	–	சமூக தீமை
3	வுட்ஸ் கல்வி அறிக்கை	–	அன்னிபெசன்ட்
4	நிக்கோலோ கோண்டி	–	பண்டித ரமாபாய்
5	வரதட்சணை	–	1854

IV சரியா / தவறா எனக் குறிப்பிடுக

1. ரிக் வேத காலத்தில் பெண்கள் கௌரவிக்கப்பட்டனர்.
2. தேவதாசி முறை ஒரு சமூக தீமை.
3. இந்திய சமூக சீர்திருத்த இயக்கத்தின் முன்னோடி ராஜா ராம்மோகன் ராய்.
4. பெண்களுக்கான 23 சதவீத இட ஒதுக்கீடு என்பது பெண்களின் சமூக – அரசியல் நிலையை மேம்படுத்துவதைக் குறிக்கிறது.
5. 1930ஆம் ஆண்டு சாரதா சட்டம் சிறுவர்கள் மற்றும் சிறுமிகளுக்கான திருமண வயதை உயர்த்தியது.

V சரியான கூற்றைத் தேர்வு செய்யவும்

1. சரியான இணையை கண்டுபிடி.

அ	மகளிர் பல்கலைக்கழகம்	–	பேராசிரியர் D.K. கார்வே
ஆ	நீதிபதி ரானடே	–	ஆரிய சமாஜம்
இ	விதவை மறுமணச் சட்டம்	–	1855
ஈ	ராணி லட்சுமிபாய்	–	டெல்லி

2. மாறுபட்ட ஒன்றினைக் கண்டுபிடி.

அ) குழந்தை திருமணம்

ஆ) சதி

இ) தேவதாசி முறை

ஈ) விதவை மறுமணம்

3. பின்வரும் கூற்றுகளைக் கவனிக்கவும்.

i) பேகம் ஹஸ்ரத் மஹால், ராணி லட்சுமி பாய் ஆகியோர் ஆங்கிலேயர் மீது ஆயுதமேந்திய கிளர்ச்சியில் ஈடுபட்டனர்.

ii) தமிழ்நாட்டின் சிவகங்கையைச் சேர்ந்த வேலுநாச்சியார், பிரிட்டிஷாருக்கு எதிராக வீரமாக போராடினார்.

மேலே கொடுக்கப்பட்ட எந்த வாக்கியம் (ங்கள்) சரியானவை?

அ) i மட்டும் ஆ) ii மட்டும்

இ) i மற்றும் ii ஈ) இரண்டுமில்லை

4. **கூற்று:** ராஜா ராம்மோகன் ராய் அனைத்து இந்தியர்களாலும் மிகவும் நினைவு கூறப்படுகிறார்.

காரணம்: இந்திய சமுதாயத்தில் இருந்த சதி என்ற தீயபழக்கத்தை ஒழித்தார்.

அ) கூற்று மற்றும் காரணம் இரண்டும் தவறானவை.

ஆ) கூற்று சரியானது. காரணம் தவறு.

இ) கூற்று சரியானது. காரணம் கூற்றை விளக்குகிறது.

ஈ) கூற்று சரி. காரணம் கூற்றை விளக்கவில்லை.

8_History_Unit-8 Folder.indd 96 03/04/2023 13:32:38

VI பின்வரும் வினாக்களுக்கு ஓரிரு வாக்கியங்களில் விடையளி

1. பெண்களின் முன்னேற்றத்திற்காக போராடிய முக்கிய தலைவர்களின் பெயரினைக் குறிப்பிடுக.
2. சமூக தீமைகளில் சிலவற்றைப் பட்டியலிடுக.
3. இடைக்கால இந்தியாவில் குறிப்பிடத்தக்க பெண்கள் யாவர்?
4. இந்திய விடுதலைப் போராட்டத்தில் ஈடுபட்ட முக்கியமான பெண்களைக் குறிப்பிடுக.
5. 'சதி' பற்றி ஒரு குறிப்பு வரைக.

VII விரிவான விடையளி

1. சுதந்திரப் போராட்டத்தில் பெண்களின் பங்கினைக் கண்டறியவும்.
2. சமூக தீமைகளை ஒழிப்பதில் சமூக சீர்திருத்தவாதிகளின் பங்களிப்பை விளக்குக.
3. சீர்திருத்த இயக்கத்தின் தாக்கம் குறித்து விரிவாக விடையளிக்கவும்.

VIII செயல்திட்டம் மற்றும் செயல்பாடு

1. பெண்களின் வளர்ச்சியில் சமூக சீர்திருத்தவாதிகளின் பங்களிப்பு குறித்து தகவல் தொகுப்பைத் தயாரிக்கவும். (ஏதேனும் ஒரு சீர்திருத்தவாதியைத் தேர்வு செய்து அவர் தொடர்பான தகவல்களைச் சேகரிக்கவும்)
2. **குழு விவாதம்:** விடுதலை இயக்கத்தில் பெண்களின் பங்கேற்பு.

மேற்கோள் நூல்கள்

1. Kali Kinkar Datta, *A Social History of Modern India,* New Delhi: The Macmillan, 1975.
2. P.N. Chopra, B. N. Puri, M.N. Das, A.C. Pradan, *A Comprehensive History of Modern India,* New Delhi: Sterling Publishers, 2003.
3. P.N. Chopra, B. N. Puri, M.N. Das, *A Social, Cultural and Economic History of India Vol I, II, III,* New Delhi: The Macmillan, 2004.
4. Bipan Chandra, *History of Modern India,* New Delhi: Orient Black Swan, 2016.

8_History_Unit-8 Folder.indd 97 03/04/2023 13:32:38

புவியியல்

8th_Geography_TM_Unit 1.indd 98 03/04/2023 13:34:40

அலகு - 1

பாறை மற்றும் மண்

கற்றலின் நோக்கங்கள்

- பாறைகளின் தன்மைகள்; அதன் வகைகள் மற்றும் பயன்களைப் புரிந்து கொள்ளுதல்
- பல்வேறு வகையான பாறைகளை அடையாளம் காணல்
- மண்ணின் தன்மை அதன் கூட்டமைப்புப் பற்றி அறிதல்
- மண்வளப் பாதுகாப்பு மற்றும் அதன் முக்கியத்துவத்தைப் புரிந்து கொள்ளுதல்

அறிமுகம்

உங்கள் இருப்பிடத்திற்கு அருகிலோ அல்லது பயணத்தின் போதோ மலைகள் அல்லது பாறைகளைப் பார்த்திருக்கிறீர்களா? உங்களின் விடுமுறை நாட்களில் ஏதேனும் மலைப்பகுதிகளுக்குச் சென்றது உண்டா? இவைகள் புவியின் மேற்பரப்பில் எப்படி உருவாயின என்று உங்களுக்குத் தெரியுமா? கோயில்கள், கட்டடங்கள், சாலைகள் மற்றும் மேம்பாலங்கள் போன்றவற்றின் கட்டுமானங்களில் எந்த வகையான பொருள்கள் பயன்படுத்தப்படுகின்றன என உங்களுக்குத் தெரியுமா? இந்தப் பாடத்தில் நாம் பாறைகள் மற்றும் மண்ணைப் பற்றி அறிந்துகொள்வோம்.

கீழ் வகுப்புகளில் நாம் புவியின் நான்கு பகுதிகளான நிலக்கோளம், நீர்க்கோளம், வளிக்கோளம் மற்றும் உயிர்க்கோளம் பற்றி படித்திருக்கிறோம். புவியின் மேற்பரப்பில் அமைந்துள்ள குறிப்பிடத்தக்க முக்கியத்துவம் வாய்ந்த கோளம் நிலக்கோளமாகும். இது திடப்பாறைகள் மற்றும் திடமற்ற பொருள்களைக் கொண்டதாகும். நிலக்கோளம் என்பது இயல்பாகவே ஒரு "**பாறையின் கோளமாகும்**".

உங்களுக்குத் தெரியுமா?

பாறையியல் என்பது 'புவியமைப்பியல்' ஒரு பிரிவு ஆகும். இது பாறைகள் ஆய்வுடன் தொடர்புடையது. பாறையியல் (Petrology) என்ற சொல் கிரேக்க மொழியிலிருந்து பெறப்பட்டது. "பெட்ரஸ்" (Petrus) என்பது பாறைகளையும் Logos "லோகோஸ் என்பது அதைப் பற்றியப் படிப்பு ஆகும்

கண்டறிக

வீடு கட்டப்படும்போது அதன் அடித்தளம் எதைக் கொண்டு உருவாக்கப்படுகிறது.

பாறைகள்

பாறைகள் என்பது திட கனிம பொருட்களால் புவியின் மேற்பரப்பில் மற்ற கோள்களில் உள்ளது போல் உருவானவையாகும். புவியின் மேலோடு (நிலக்கோளம்– Lithosphere) பாறைகளால் உருவானது. பாறைகள், ஒன்று அல்லது பல கனிமப்பொருட்களால் ஆனவை. இது ஒரு திடநிலையில் உள்ள ஒரு முக்கியமான இயற்கை வளம் ஆகும். பாறைகள்

8th_Geography_TM_Unit 1.indd 99 03/04/2023 13:34:40

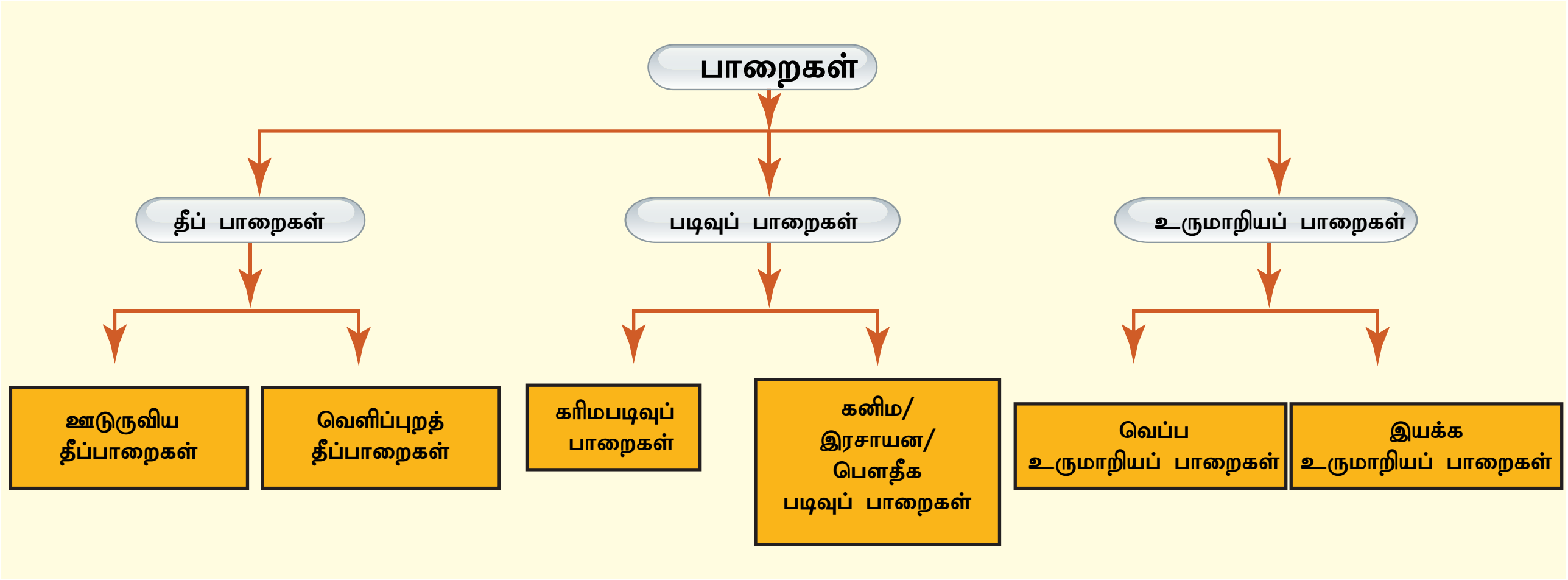

இயற்கையிலேயே கடின மற்றும் மென்தன்மைக் கொண்டவைகளாகும். புவியின் மேற்பரப்பில் 2000 வகையிலான கனிம வகைகள் உள்ளன என மதிப்பிடப்பட்டுள்ளது. இவற்றில் பொதுவாக புவி முழுவதும் 8 அடிப்படை கனிமங்கள் கண்டறியப்பட்டுள்ளன. கனிமங்கள் வேதி மூலங்களின் தொகுதிகளால் ஆனவை. பாறைகள் என்பவை கனிமங்கள் தனித்த கூறுகளாகவோ அல்லது கூட்டுக்கலவையாகவோ உருவாகலாம்.

பாறைகளின் வகைபாடுகள்

புவி பரப்பில் காணப்படும் பாறைகளை, அவை தோன்றும் முறைகளின் அடிப்படையில் மூன்று வகைகளாகப் பிரிக்கலாம்.

(1) தீப்பாறைகள் (Igneous Rocks)

(2) படிவுப் பாறைகள் (Sedimentary Rocks)

(3) உருமாறியப் பாறைகள் அல்லது மாற்றுருப் பாறைகள் (Metamorphic Rocks)

தீப்பாறைகள்

தீப்பாறைகள்

தீப்பாறைகள் புவியின் ஆழமானப் பகுதியிலிருந்து வெளியேறும் உருகிய பாறைக் குழம்பு (Magma) உறைந்து உருவானவை. இப்பாறைகளிலிருந்து மற்ற பாறைகள் உருவாகின்றதால் இவற்றை முதன்மைப் பாறைகள் (Primary Rocks) அல்லது தாய்ப் பாறைகள் (Parent Rocks) என்று அழைக்கிறோம்.

உங்களுக்குத் தெரியுமா?

இக்னியஸ் (Igneous) என்ற சொல் இலத்தீன் மொழியிலிருந்து பெறப்பட்டது. இக்னியஸ் என்றால் "தீ" என்று பொருள்படும்.

தீப்பாறைகளின் பண்புகள்

1. இந்தப் பாறைகள் கடினத் தன்மை உடையவை.
2. இவை நீர்புகாத் தன்மைக் கொண்டவை.
3. உயிரினப் படிமப்பொருள்கள் (Fossils) இப்பாறைகளில் இருக்காது.
4. தீப்பாறைகள் எரிமலை செயல்பாடுகளோடு தொடர்புடையவை.

தீப்பாறைகளின் வகைகள்

தீப்பாறைகளை இரண்டு வகைகளாகப் பிரிக்கலாம். அவை:

1. வெளிப்புறத் தீப்பாறைகள் (Extrusive Igneous Rocks)
2. ஊடுருவிய தீப்பாறைகள் (Intrusive Igneous Rocks)

1. வெளிப்புறத் தீப்பாறைகள் (Extrusive Igneous Rocks)

எரிமலையில் இருந்து வெளியேறும் லாவாவை நீங்கள் பார்த்ததுண்டா?

புவியின் உட்பகுதியில் இருந்து அதன் மேல் பகுதிக்கு வரும் செந்நிற, உருகிய பாறைக்

8th_Geography_TM_Unit 1.indd 100 03/04/2023 13:34:41

குழம்பு 'லாவா' (LAVA) எனப்படும். பாறைக் குழம்பு புவியின் மேற்பரப்பிற்கு வந்தவுடன் குளிர்ந்து பாறைகளாக மாறுகின்றன. இவ்வாறு புவி மேலோட்டின் மேற்பரப்பில் உருவாகும் பாறைகள் "வெளிப்புறத் தீப்பாறைகள்" என்று அழைக்கப்படுகிறது. இப்பாறைகள் விரைவாக குளிர்வதால் மெல்லிழைகள் மற்றும் கண்ணாடி போன்ற தன்மை கொண்டதாக இருக்கும். இந்தியாவின் வடமேற்கு தீபகற்ப பகுதிகளில் காணப்படும் கருங்கல் (Basalt) வகை பாறைகள் வெளிப்புறத் தீப்பாறைகளுக்குச் சிறந்த எடுத்துக்காட்டாகும்.

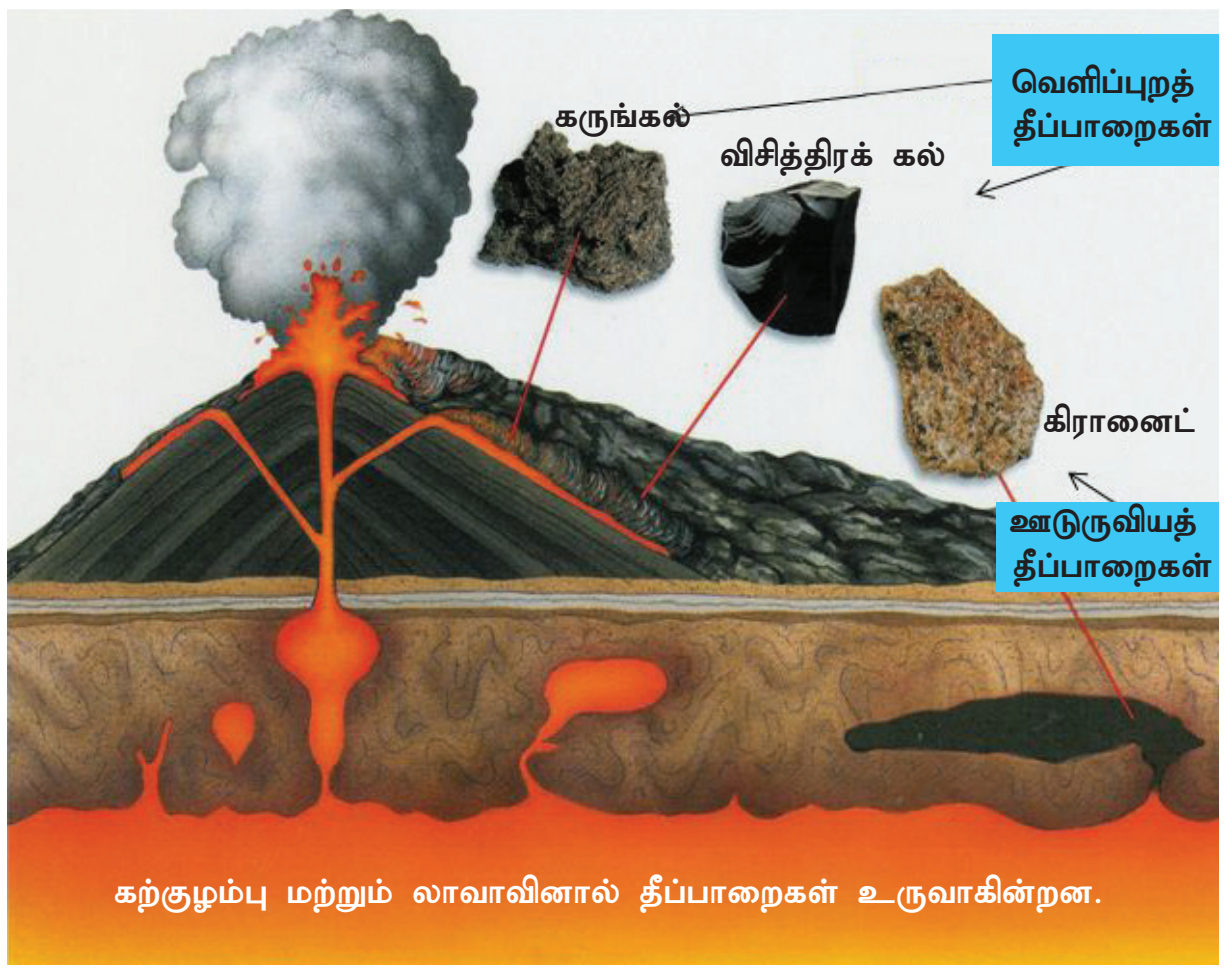

வெளிப்புற & ஊடுருவிய தீப்பாறைகள்

2. ஊடுருவிய தீப்பாறைகள் (Intrusive Igneous Rocks)

பாறைக்குழம்பு புவிமேலோட்டிற்கு கீழே ஆழமான பகுதிகளில் உறைந்து உருவாகும் பாறைகள் ஊடுருவிய தீப்பாறைகள் எனப்படும். இவை மெதுவாக குளிர்வடைவாதால் படிகங்ளாக உருவாகின்றன இவைகள் படிகப் பாறைகள் (Crystalline Rocks) என்றும் அழைக்கப்படுகிறது.

ஊடுருவிய தீப்பாறைகள் இரண்டு வகைப்படும். அவை:

1. அடியாழப் பாறைகள் (அ) பாதாளப் பாறைகள் (Plutonic Rocks)
2. இடையாழப் பாறைகள் (Hypabysal Rocks)

புவியின் அதிக ஆழத்தில் உறைந்து உருவாகும் பாறைகள் அடியாழப் பாறைகள் எனப்படும்.

புவி மேற்பரப்பிலிருந்து கீழே புவியின் குறைந்தஆழத்தில்பாறைக்குழம்புஉறைவதால் உருவாகும் பாறைகள் இடையாழப் பாறைகள் எனப்படும்.

கிரானைட், டயரைட் மற்றும் எறும்புக்கல் ஆகியன அடியாழப்பாறைகளுக்குச் சிறந்த உதாரணங்களாகும். மேலும் டொலிரைட் இடையாழப்பாறைக்கு சிறந்த உதாரணமாகும்.

உங்களுக்குத் தெரியுமா?

இத்தாலியில் உள்ள மவுண்ட் வெசூவியஸ், மவுண்ட் ஸ்ட்ராம்போலி மற்றும் மவுண்ட் எட்னா ஹவாய் தீவுகளில் உள்ள மவுனாலோவா மற்றும் மௌனாக்கியா ஆகியவை உலகின் முக்கியமான செயல்படும் எரிமலைகளாகும்.

படிவுப் பாறைகள்

படிவுப் பாறைகள்

செடிமென்டரி (sedimentary) என்ற சொல் 'செடிமென்டம்' என்ற இலத்தீன் சொலிலிருந்து பெறப்பட்டது. அதன் பொருள் படியவைத்தல் என்பதாகும்.

படிவுப் பாறைகள் அரிப்பு காரணிகளால் அரிக்கப்பட்டு (காற்று, நீர், பனியாறுகள்) படிய வைக்கப்பட்ட படிவுகள் நீண்ட காலமாக அதிக வெப்பம் மற்றும் அழுத்தத்தின் காரணமாக இறுகியதால் படிவுப் பாறைகள் உருவாகின்றன. இப்பாறைகள் பல அடுக்குகளை உள்ளடக்கியுள்ளன. பல்வேறு காலக்கட்டத்தில் படியவைக்கப்பட்ட பொருட்கள் பல படிநிலைகளைக் கொண்டிருப்பதால் இவைகள் அடுக்குப்பாறைகள் (Stratified Rocks) எனவும் அழைக்கப்படுகின்றன.

உங்களுக்குத் தெரியுமா?

படிவுப் பாறைகள் நிலக்கரி, எண்ணெய் மற்றும் இயற்கை வாயு போன்ற இயற்கை வளங்கள் உருவாக முக்கிய ஆதாரமாகும்.

8th_Geography_TM_Unit 1.indd 101 03/04/2023 13:34:41

படிவுப்பாறைகளின் பண்புகள்

1. இப்பாறைகள் பல அடுக்குகளைக் கொண்டது.
2. இப்பாறைகள் படிகங்களற்ற பாறைகளாக உள்ளது.
3. இப்பாறைகளில் உயிரின படிமங்கள் (Fossil) உள்ளன.
4. இப்பாறைகள் மென் தன்மையுடையதால் எளிதில் அரிப்புக்கு இவை உட்படுபடுகின்றன.

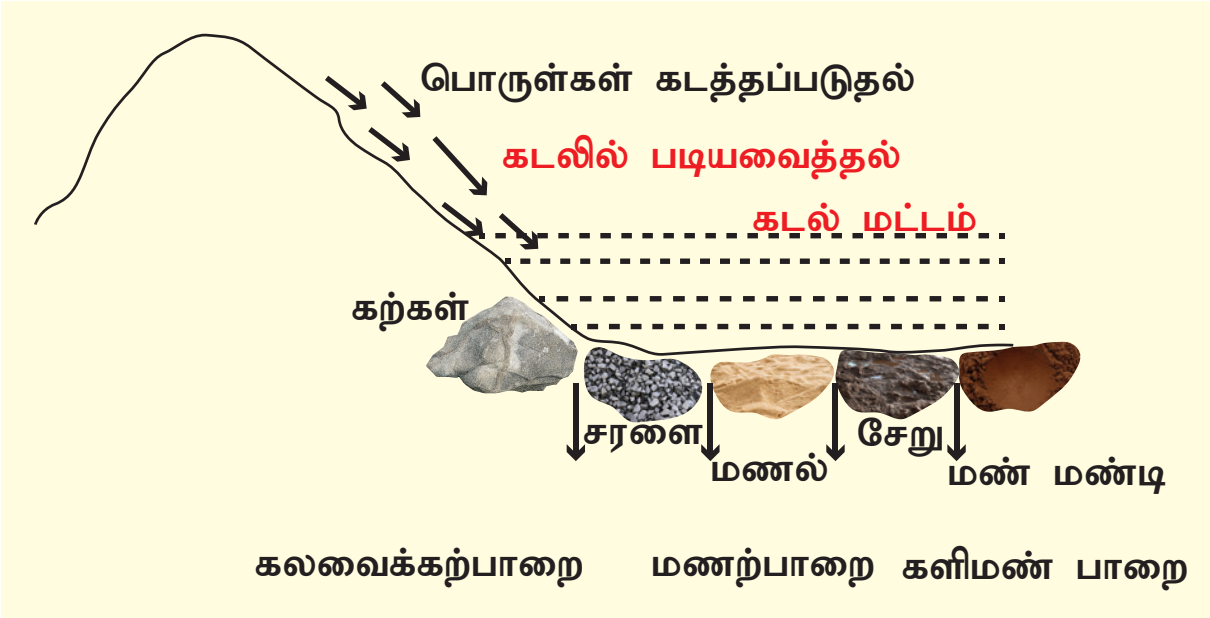

படிவுப் பாறைகள் உருவாகுதல்

> **உங்களுக்குத் தெரியுமா?**
>
> உலகின் மிகப் பழமையான படிவுப் பாறைகள் கிரீன்லாந்தில் கண்டுபிடிக்கப்பட்டன. இவற்றின் வயது 3.9 பில்லியன் ஆண்டுகள் என மதிப்பிடப்பட்டுள்ளது

படிவுப் பாறைகளின் வகைப்பாடு

படிவுப் பாறைகளின் வகைகள்:

படிவுகளின் தன்மை, படியவைக்கும் செயல் முறைகள் மற்றும் படிவுகளின் மூலாதாரம் போன்ற அம்சங்களின் அடிப்படையில் படிவுப் பாறைகளை மூன்று வகைகளாகப் பிரிக்கலாம். அவை:

1. உயிரினப் படிவுப் பாறைகள் (Organic sedimentary rocks)

இவ்வகையான பாறைகள் இறந்து சிதைக்கப்பட்ட விலங்கின மற்றும் தாவர படிவுகள் இறுகித் தோன்றியதாகும். இவை உயிரினப் படிமங்களால் ஆனவை. சாக் (Chalk), பட்டுக்கல் (Talc), டோலமைட் (Dolomite) மற்றும் சுண்ணாம்புப் பாறைகள் (Limestones) போன்றவை, இவ்வாறு உருவானவையாகும்.

2. பௌதீக படிவுப் பாறைகள் (Mechanical sedimentary rocks)

பௌதீக படிவுப் பாறைகள், தீப்பாறைகளும் உருமாறிய பாறைகளும் சிதைந்து உருவாகின்றன. ஆறு, காற்று, பனியாறு போன்ற இயற்கைக் காரணிகளால் அரிக்கப்பட்டும், கடத்தப்பட்டும் அவை சாதகமான இடங்களில் படியவைக்கப்படுகின்றன. இவை நீண்ட காலத்திற்கு பிறகு இறுகி பாறைகளாக மாறுகின்றன. மணற்பாறைகள் (Sand stones), மற்றும் களிப்பாறை (Shale) இப்பாறைகளுக்கு சிறந்த எடுத்துக்காட்டுகளாகும்.

3. இரசாயன படிவுப் பாறைகள் (Chemical sedimentary rocks)

இரசாயன படிவுப் பாறைகள், பாறைகளில் உள்ள கனிமங்கள் நீரில் கரைந்து, இரசாயன கலவையாக மாறுகிறது. இவை ஆவியாதல் மூலமாக உருவாகின்றன. இப்பாறைகள் உப்புபடர் பாறைகள் (Evaporite Rocks) என்றும் அழைக்கப்படுகின்றன. ஜிப்சம் இவ்வகையான பாறைகளுக்கு உதாரணமாகும்.

உருமாறிய பாறைகள் (Metamorphic rocks)

மெட்டமார்பிக் என்ற வார்த்தை இரண்டு கிரேக்க சொல்லான மெட்டா (Meta) மற்றும் மார்பா (Morpha) என்ற வார்த்தையில் இருந்து பெறப்பட்டதாகும். மெட்டா என்பது 'மாற்றம்' என்றும், மார்பா என்பது 'வடிவம்' என்றும் பொருள்படும். அதிக வெப்ப அழுத்தம் காரணமாக தீப்பாறைகளும் படிவுப்பாறைகளும் மாற்றமடைந்து உருமாறிய பாறைகள் என பெயர் பெறுகிறது.

உருமாறிய பாறைகள் இரண்டு காரணிகளால் உருவாகின்றன:

1. வெப்ப உருமாற்றம் (Thermal Metamorphism)
2. இயக்க உருமாற்றம் (Dynamic Metamorphism)

1. **வெப்ப உருமாற்றம்:** பாறைக்குழம்பு பாறைகளில் ஊடுருவி செல்லும் போது அப்பாறைக்குழம்பின் வெப்பம், அங்குள்ள பாறைகளை உருமாற்றம் செய்கிறது. இது வெப்ப உருமாற்றம் எனப்படும்.
2. **இயக்க உருமாற்றம்:** பாறைக்குழம்பு பாறைகளில் ஊடுருவிச் செல்லும் போது அப்பாறைக் குழம்பின் அழுத்தத்தால், அங்குள்ள பாறைகளை உருமாற்றம்

8th_Geography_TM_Unit 1.indd 102 03/04/2023 13:34:42

செய்கிறது. இது இயக்க உருமாற்றம் எனப்படும்.

> உங்களுக்குத் தெரியுமா?
>
> உலக அதிசயங்களில் ஒன்றான இந்தியாவில் உள்ள தாஜ்மஹால் உருமாறிய பாறையிலிருந்து உருவான வெள்ளை பளிங்கு கற்களால் (White Marble) கட்டப்பட்டது.

உருமாறிய பாறை

தீப்பாறையில் இருந்து உருமாறிய பாறை:

1. இயக்க உருமாற்றத்தினால், கிரானைட் (Granite) பாறை பளிங்கடுக்குப்பாறையாக (Gneiss) உருமாறுகிறது.
2. வெப்ப உருமாற்றத்தினால் "கருங்கல்" (Basalte) பாறை இக்லோகைட் (Eclogite) உருமாறுகிறது.

படிவுப் பாறையிலிருந்து உருமாறியப் பாறை:

1. வெப்ப உருமாற்றத்தினால் மணற் பாறைகள் (Sand stone), வெண் கற்பாறைகளாக (Quartzite) மாறுகின்றன.
2. களிப்பாறைகள் (Shale), பலகைப் பாறைகளாக (Slate) மாறுகின்றன.

உருமாறியப் பாறைகளின் பண்புகள்

1. உருமாறியப் பாறைகள் பெரும்பாலும் படிக தன்மைக் கொண்டவை.
2. உருமாறிய பாறைகள் வெளிர் நிற கனிமங்கள் மற்றும் கருமை நிற கனிமங்களை கொண்டு அடுத்தடுத்த பட்டைகளாக காணப்படுகின்றன.

பாறை சுழற்சி (Rock Cycle)

தீப்பாறைகள் என்பவை புவியில் தோன்றிய முதன்மையான பாறைகளாகும். இப்பாறைகள் சிதைவடைந்து, அரித்தல், கடத்துதல் மற்றும் படியவைத்தலால் படிவுப்பாறைகளாக உருவாகின்றன. தீப்பாறைகளும் படிவுப் பாறைகளும் வெப்பம் மற்றும் அழுத்தத்தின் காரணமாக உருமாறியப் பாறைகளாக மாற்றம் அடைகின்றன. உருமாறிய பாறைகள் சிதைக்கப்பட்டும், கடத்தப்பட்டும் மற்றும் படியவைப்பதால் படிவுப் பாறைகள் உருவாகின்றன. உருகிய பாறைக்குழம்பு புவியின் உட்பகுதியிலிருந்து வெளியேறி புவியின் மேற்பரப்பிலோ அல்லது புவிக்கு உட்பகுதியிலோ குளிர்ந்து தீப்பாறைகளாக மாறுகின்றன. புவியின் மேலோட்டுப் பகுதியில் பாறைகள் பல்வேறு இயற்கை சக்திகள் மற்றும் அக மற்றும் புறக்காரணிகளால் பாறைகள் ஒரு நிலையிலிருந்து மற்றொரு நிலைக்கு மாறுகின்றன. இத்தொடர்ச்சியான செயலே பாறைச்சுழற்சி ஆகும்

> உங்களுக்குத் தெரியுமா?
>
> சலவைக் கற்கள் (Marble) பொதுவாக கட்டுமானம் மற்றும் சிற்ப வேலைப்பாடுகளுக்கு பயன்படுத்தப்படுகின்றன. சலவைக் கற்கள் பரவலாக அழகான சிலைகள், அலங்கார பொருள்கள் குவளை மற்றும் சிறிய பரிசு பொருள்கள் தயாரிக்கப் பயன்படுகின்றன.

பாறைகளின் பயன்கள்

பாறைகள் வரலாற்று காலம் முதல் மனித குலத்தால் பயன்படுத்தப்பட்டு வருகிறது. பாறைகள் அனைத்தும் பொருளாதார அம்சங்களில் ஒரு மதிப்புமிக்க பொருளாக உள்ளன. உலோகங்கள், கனிமங்கள் மனித நாகரிக வளர்ச்சிக்கு இன்றியமையாததாக இருந்து வந்துள்ளது. மேலும் பாறைகள் நம்முடைய வாழ்க்கையில் பல முறைகளில் பயன்படுத்தப்பட்டு வருகிறது. அவற்றில் சில கீழே கொடுக்கப்பட்டுள்ளன.

8th_Geography_TM_Unit 1.indd 103 03/04/2023 13:34:43

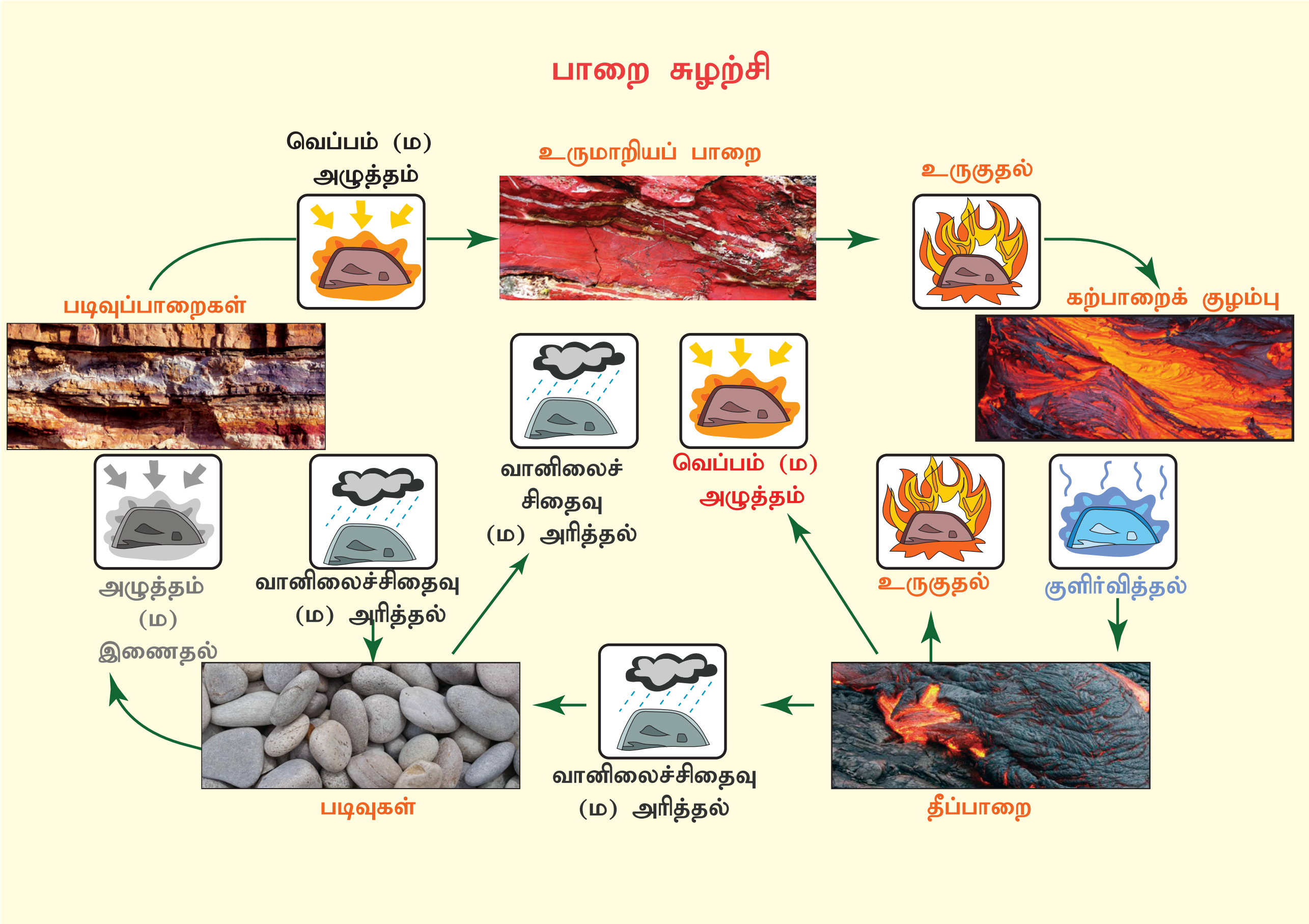

பாறைச் சுழற்சி

பாறைகளின் பயன்கள்

1. சிமெண்ட் தயாரித்தல்
2. சுண்ண எழுதுகோல்
3. தீ (நெருப்பு)
4. கட்டடப் பொருள்கள்
5. குளியல் தொட்டி
6. நடைபாதையில் பதிக்கப்படும் கல்
7. அணிகலன்கள்
8. கூரைப் பொருள்கள்
9. அலங்காரப் பொருள்கள்
10. தங்கம் வைரம் மற்றும் நவரத்தினங்கள் போன்ற மதிப்புமிக்க பொருள்கள்.

> **செயல்பாடு**
>
> பல்வேறு வகையான பாறைகளை சேகரித்து வகுப்பறையில் காட்சிப்படுத்தவும்

மண் மற்றும் அதன் உருவாக்கம்

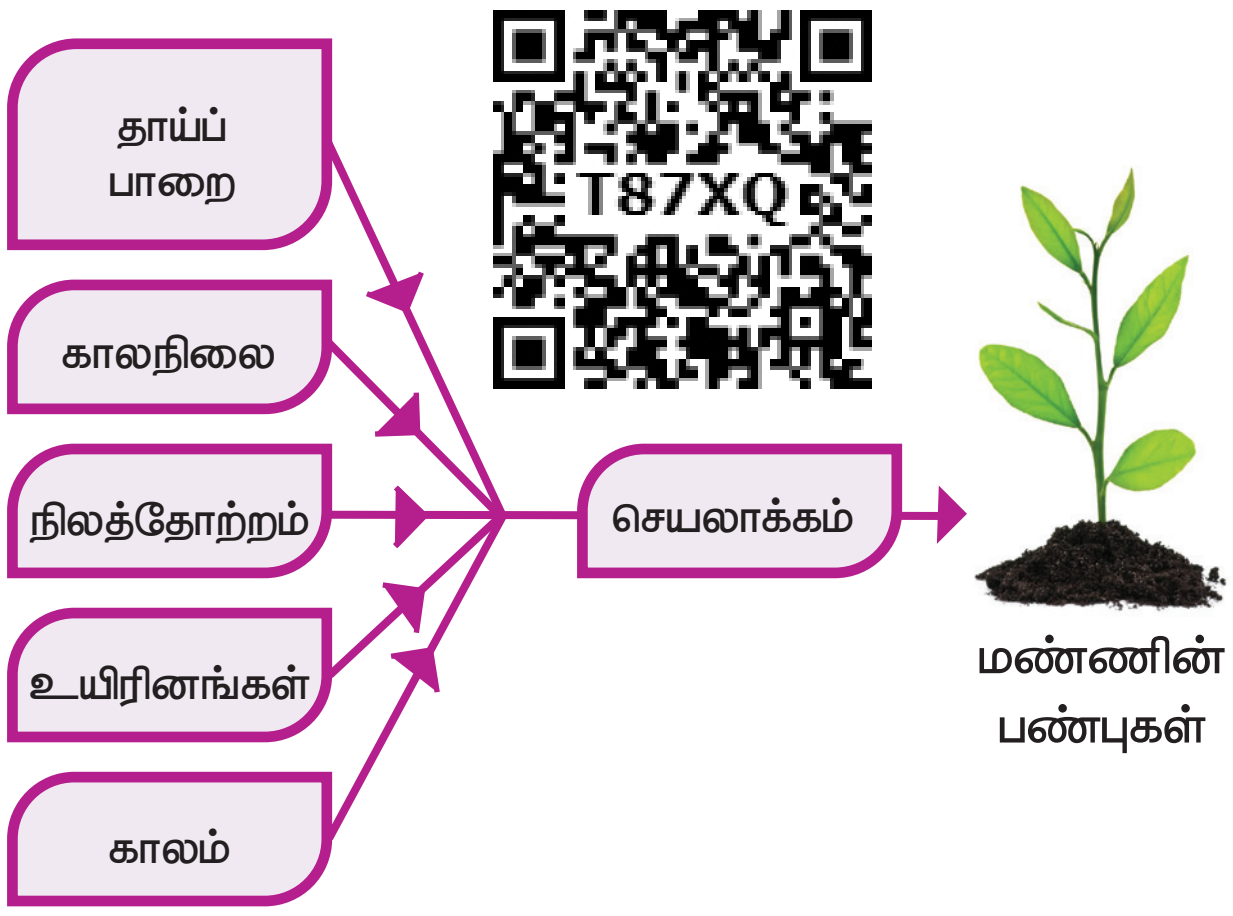

மண் என்பது பல்வகை கரிமப்பொருள்கள், கனிமங்கள், வாயுக்கள், திரவப் பொருள்கள் மற்றும் பல உயிரினங்கள் கலந்த கலவையாகும். இது உயிரினங்கள் வாழ துணைபுரிகிறது. மண்ணில் உள்ள கனிமங்கள் மண்ணை உருவாக்கும் ஒரு அடிப்படை காரணியாகும். புவிபரப்பின் மேல் மண் உருவாவதால் இது "புவியின் தோல்"

8th_Geography_TM_Unit 1.indd 104 03/04/2023 13:34:45

(Skin of the Earth) என்று அழைக்கப்படுகிறது. பாறைகள், வானிலை சிதைவு மற்றும் அரித்தல் செயல்முறைகளுக்கு உட்படுத்தபடும்பொழுது மண்ணாக உருவாகிறது. நீர், காற்று, வெப்ப நிலைமாறுபாடு, புவி ஈர்ப்பு விசை, வேதிபரிமாற்றம், உயிரின செயல்பாடுகள் மற்றும் அழுத்த வேறுபாடுகளால் தாய்ப்பாறைகள் சிதைவுறுகின்றன. மேலும், தாய்ப்பாறைகளை தளர்ந்த பாறைகளாக மாற்றுகின்றன. இக்காரணிகள் காலப்போக்கில் இப்பாறைகள் உடைபட்டு மிருதுவான துகள்களாக மாறுகிறது. இந்தச் செயல்முறைகள் பாறைத் துகள்களிலிருந்து தாதுக்கள் வெளிப்படக் காரணமாகின்றன. பின்னாளில் தாவரங்கள் வளர்ந்து இலைமக்குசத்தின் முலம் மண்ணை வளமடையச் செய்கின்றன.

உங்களுக்குத் தெரியுமா?

ஒவ்வொரு ஆண்டும் டிசம்பர் 5 ஆம் நாள் உலக மண் நாளாக கொண்டாடப்படுகிறது.

மண்ணின் கூட்டுப் பொருள்கள் (Soil Composition)

மண்ணின் கூட்டுப் பொருள்களான கனிமங்கள், கரிமப்பொருள்கள், நீர், மற்றும் காற்று ஆகும். பொதுவாக மண்ணில் கனிமங்கள் 45% கரிமப்பொருள்கள் 5%, நீர் 25% மற்றும் காற்று 25% கொண்டுள்ளது. மண்ணின் கலவையானது இடத்திற்கு இடம், காலத்திற்கு காலம் வேறுபடுகிறது.

மண்ணின் குறுக்கமைப்பு (Soil Profile)

மண்ணின் குறுக்கமைப்பு என்பது புவி மேற்பரப்பிலிருந்து தாய் பாறை வரை உள்ள மண் அடுக்குகளின் செங்குத்து குறுக்கு வெட்டுத் தோற்றமாகும்.

செயல்பாடு

தங்கள் பகுதியிலுள்ள பல்வேறு மண் மாதிரிகளைச் சேகரித்து உனது வகுப்பறையில் காட்சிப்படுத்தவும்.

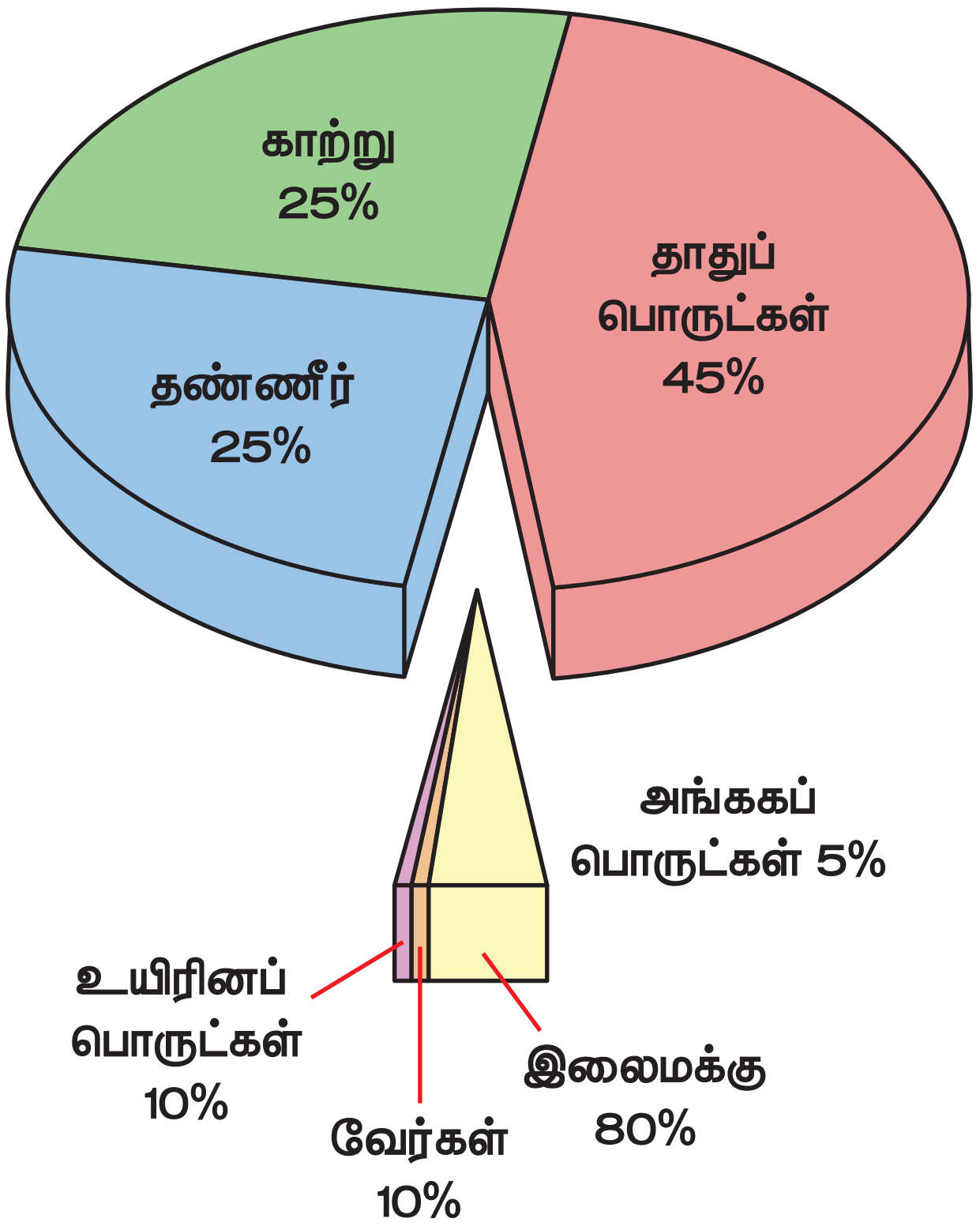

மண்ணின் கூட்டுப் பொருள்கள்

மண்ணின் வகைபாடு

மண் உருவாகும் விதம், அவற்றின் நிறம் பெளதீக மற்றும் இரசாயன பண்புகளின் அடிப்படையில் ஆறு பெரும் பிரிவுகளாக வகைப்படுத்தப்படுகின்றன.

அவைகள் பின்வருமாறு,

1. வண்டல் மண்
2. கரிசல் மண்
3. செம்மண்
4. சரளை மண்
5. மலை மண்
6. பாலை மண்

1. வண்டல் மண்

வண்டல் மண் ஆற்றுச் சமவெளிகள், வெள்ளச் சமவெளிகள், கடற்கரைச் சமவெளிகளில் காணப்படுகிறது. இவை ஓடும் நீரின் மூலம் கடத்தப்படும் நுண்ணிய துகள்களால் படிய வைக்கப்பட்டு உருவாகிறது. இது மற்ற மண் வகைகளைக் காட்டிலும் வளம்மிக்கது. இது நெல், கரும்பு, கோதுமை, சணல் மற்றும் மற்ற உணவுப் பயிர்கள் பயிரிட ஏற்றது.

8th_Geography_TM_Unit 1.indd 105 03/04/2023 13:34:45

மண்ணின் அடுக்குகள்

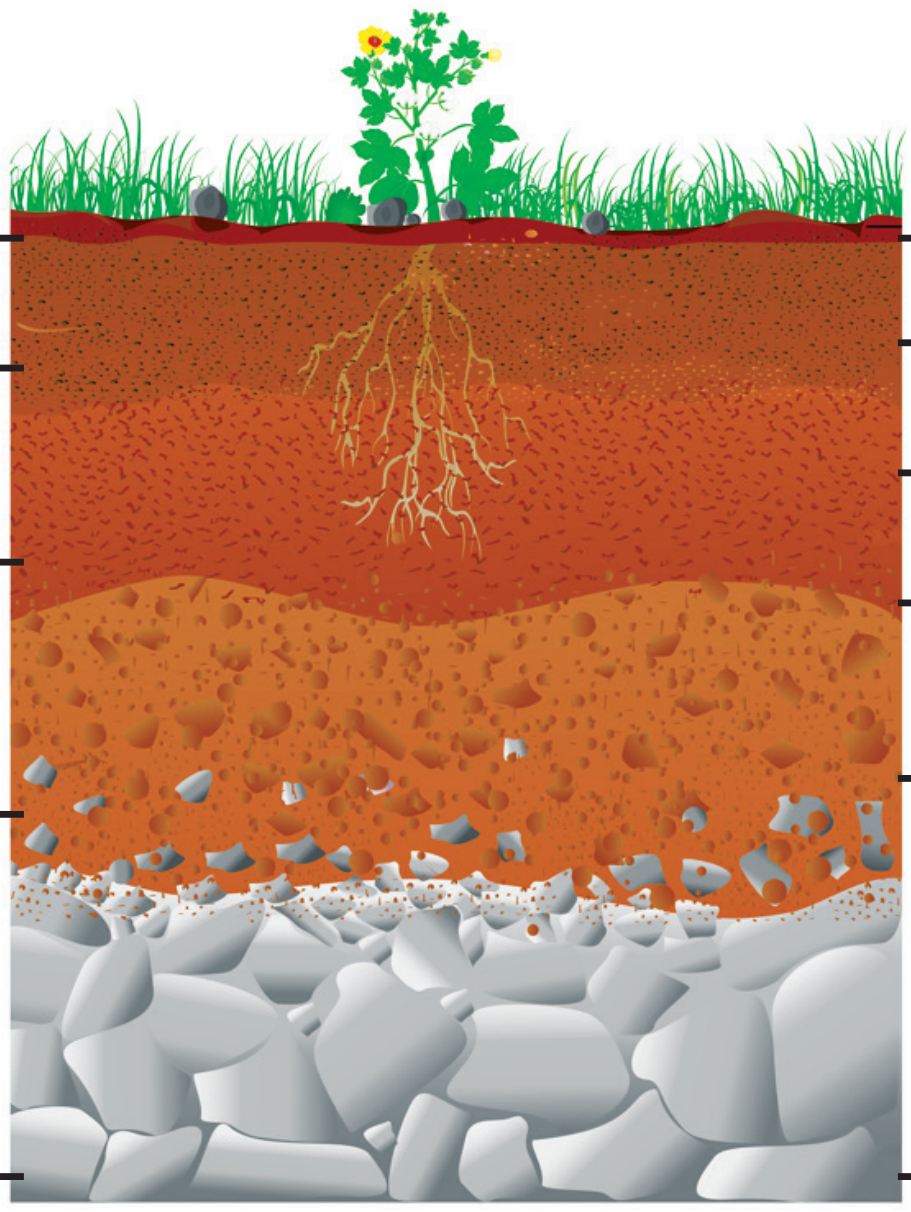

மண்ணின் அடுக்கு	
O – இலை மக்கு அடுக்கு	இந்த அடுக்கு கரிமப் பொருட்களால் உருவானவை (இலைகள், சருகுகள், கிளைகள், பாசிகள் போன்ற)
A – மேல்மட்ட அடுக்கு	கரிம மற்றும் கனிமப் பொருட்களால் ஆன அடுக்கு
E– உயர்மட்ட அடுக்கு	இவ்வடுக்கு உயர்மட்ட அடுக்காகும். அதிக அளவு சுவர்தலுக்கு (Leaching), உட்பட்ட அடுக்கு, களிமண், இரும்பு மற்றும் அலுமினிய ஆக்ஸைடு போன்ற தாதுக்கள் இவ்வடுக்கில் கனிசமாக காணப்படுகின்றன.
B– அடி மண்	இவ்வடுக்கு தாய்பாறையின் இரசாயன, (அ) பௌதீக மாற்றத்திற்கு உட்பட்டவை. இரும்பு, களிமண், அலுமினிய ஆக்ஸைடு மற்றும் கனிமப் பொருட்களால் தோன்றிய அடுக்கு அல்லது திரள் மண்டலம் (Zone of Accumulation) என அழைக்கப்படுகிறது
C– தாய்பாறை அடுக்கு	இவ்வடுக்கில் தாய்ப்பாறைகள் குறைந்த அளவே சிதைக்கப்படுகின்றன.
R– சிதைவடையாத தாய்ப்பாறை	இவ்வடுக்கு சிதைவடையாத அடிமட்ட பாறையாகும்.

2. கரிசல் மண்

கரிசல் மண், தீப்பாறைகள் சிதைவடைவதால் உருவாகின்றன. கரிசல் மண் இயற்கையிலேயே களிமண் தன்மையையும், ஈரப்பதத்தையும் தக்க வைத்துக் கொள்ளும் திறன் கொண்டது. கரிசல் மண்ணில் பருத்திப் பயிர் நன்கு வளரும்.

3. செம்மண்

செம்மண், உருமாறியப் பாறைகள் மற்றும் படிகப் பாறைகள் ஆகியவை சிதைவடைவதால் உருவாகிறது. இம்மண்ணில் உள்ள இரும்பு ஆக்சைடு அளவைப் பொருத்து மண்ணின் நிறமானது பழுப்பு முதல் சிகப்பு நிறம் வரை வேறுபடுகிறது இம்மண் பொதுவாக அரை வறண்ட பிரதேசங்களில் காணப்படுகிறது. இது வளம் குறைந்த மண்ணாக இருப்பதால் தினைப் பயிர்கள் பயிரிட ஏற்றது.

4. சரளை மண்

சரளை மண் அயனமண்டல பிரதேச காலநிலையில் உருவாகிறது. இம்மண் அதிக வெப்பநிலை மற்றும் அதிக மழைப்பொழிவு கொண்ட பகுதிகளில் சுவருதலின் (Leaching) செயலாக்கத்தினால் உருவாவதால் இம்மண் வளம் குறைந்து காணப்படுகிறது. இது தேயிலை, காப்பி போன்ற தோட்டப் பயிர்கள் பயிரிட ஏற்றது.

8th_Geography_TM_Unit 1.indd 106 03/04/2023 13:34:45

5. மலை மண்

மலைமண், மலைச்சரிவுகளில் காணப்படுகிறது. இப்பகுதிகளில் கார தன்மையுடன் குறைந்த பருமன் கொண்ட அடுக்காக உள்ளது. உயரத்திற்கு ஏற்றவாறு இம்மண்ணின் பண்புகள் இடத்திற்கு இடம் மாறுபடுகின்றன.

6. பாலை மண்

பாலை மண் அயன மண்டல பாலைவனப் பிரதேசங்களில் காணப்படுகிறது. இது உவர்தன்மை, மற்றும் நுண்துளைகளைக் கொண்டது. வளம் குறைந்த இம்மண்ணில் வேளாண்மையை மேற்கொள்ள இயலாது.

மண்ணரிப்பு

மண்ணரிப்பு என்பது இயற்கை காரணிகள் மற்றும் மனித செயல்பாடுகளினால் மண்ணின் மேலடுக்கு நீக்கப்படுதல் அல்லது அரிக்கப்படுதல் ஆகும். மண்ணரிப்பு மண்ணின் வளத்தை குறைத்து வேளாண்மை உற்பத்தியைக் குறைக்கிறது. ஓடும் நீர் மற்றும் காற்று மண்ணரிப்புக்கு முக்கிய காரணிகளாக உள்ளன. அடுக்கு அரிப்பு (Sheet Erosion), ஓடை அரிப்பு (Rill Erosion) மற்றும் நீர் பள்ள அரிப்பு (Gully Erosion) ஆகியவை மண்ணரிப்பின் முக்கிய வகைகள் ஆகும்.

மண் உருவாக எவ்வளவு காலம் ஆகும்?

காலநிலையைப் பொருத்து மண் உருவாகிறது. மித வெப்பமண்டல காலநிலைப் பிரதேசங்களில் 1 செ.மீ மண் உருவாக 200 முதல் 400 வருடங்கள் ஆகும். அயன மண்டல ஈரக் காலநிலைப் பகுதிகளில் மண் விரைவாக உருவாகிறது. இதற்கு சுமார் 200 வருடங்கள் ஆகும். நன்கு வளமான மண் உருவாக ஏறத்தாழ 3000 வருடங்கள் ஆகும்.

மண் வளப்பாதுகாப்பு

மண் வளப்பாதுகாப்பு என்பது மண் அரிப்பிலிருந்து பாதுகாத்து மண் வளத்தை மேம்படுத்தும் செயல்முறையாகும். காடுகள் வளர்த்தல், மேய்ச்சலை கட்டுப்படுத்துதல், அணைகளைக் கட்டுதல், பயிற்சுழற்சி முறை, பட்டை முறை வேளாண்மை (strip farm–ing) நிலத்தில் சம உயரத்திற்கு ஏற்ப உழுதல், படிக்கட்டு முறை வேளாண்மை, இடம்பெயர்வு வேளாண்மை தடுத்தல், மரங்கள் வளர்த்து காற்றின் வேகத்தை குறைத்தல் போன்ற முறைகளைக் கொண்டு மண் வளத்தை பாதுகாக்கலாம்.

மண்ணின் பயன்கள்

- மண் என்பது ஒரு முக்கியமான இயற்கை வளங்களில் ஒன்று.
- மண் புவியில் உயிரினங்கள் வாழ்வதற்கும் தாவரங்கள் வளர்வதற்கும் அடிப்படையாக உள்ளது.
- மண்ணில் உள்ள கனிமங்கள், பயிர்கள் மற்றும் தாவரங்களை ஊட்டமாக வளரச் செய்கின்றன.
- மண், பீங்கான்கள் மற்றும் மண் பொருள்கள் தயாரிக்க பயன்படுகிறது.
- கைவினைப் பொருள்கள் மற்றும் கட்டுமான வேலைப்பாடுகளுக்கு மண் ஆதாரமாக உள்ளது.
- இது இயற்கை முறையில் நீரை வடிகட்டவும் சுத்திகரிக்கவும் பயன்படுகிறது.
- மண் சுற்றுச்சூழலுக்கும், நில மேலாண்மைக்கும் துணைப்புரிகிறது.

பாறைகள் மற்றும் மண் வகைகள் புதுப்பிக்கத்தக்க இயற்கை வளங்கள் ஆகும். இவை இரண்டும் மனிதர்களின் அன்றாட வாழ்க்கைக்கும், பொருளாதார வளர்ச்சிக்கும் முக்கிய பங்காற்றுகின்றன. தற்போது பாறைகள் சார்ந்த தொழிலகங்கள் அதிகரித்துள்ளதால் குறிப்பிடத்தக்க அளவு மக்களுக்கு வேலை வாய்ப்புகளை அளிக்கின்றன. மக்களின் குடியிருப்புகள் மற்றும் பொருளாதார நடவடிக்கைகளுக்கும், மண் ஆதாரமாக உள்ளது. வேளாண்மை நாடான இந்தியாவில் முறையான மண்வள மேலாண்மை மூலம் நிலைநிறுத்தக் கூடிய உணவு உற்பத்தி வளர்ச்சி மற்றும் பல்வேறு பயன்பாட்டிற்கு வழிவகுக்கிறது. ஆகவே நாம் மண் வளத்தை கட்டாயம் பாதுகாக்க வேண்டும்.

8th_Geography_TM_Unit 1.indd 107 03/04/2023 13:34:45

மீள்பார்வை

- பாறை என்பது ஒன்று அல்லது அதற்கு மேற்பட்ட கனிமங்களின் கலவை ஆகும்.
- "செடிமெண்டரி" என்ற வார்த்தை "செடிமெண்டம்" என்ற இலத்தீன் வார்த்தையிலிருந்து பெறப்பட்டது. இதன் பொருள் படிய வைத்தல் என்பது ஆகும்.
- தீப்பாறைகள் புவியில் தோன்றிய முதன்மையான பாறைகள்.
- மண் என்பது கரிமப் பொருள்கள், கனிமங்கள், வாயுக்கள், திரவப் பொருள்கள் மற்றும் பல உயிரினங்கள் கலந்த கலவையாகும். இது உயிரினங்கள் வாழ துணைப்புரிகிறது.

கலைச்சொற்கள்

புவியின்மேலோடு	புவியின் மேற்புற அடுக்கு	Crust
லாவா	எரிமலையிலிருந்து வெடித்து வெளியேறும் பாறைக் குழம்பு	Lava
பாறைக் குழம்பு	புவியின் ஆழப்பகுதியில் உருகிய பாறைக் குழம்பு	Magma
பாறை சுழற்சி	புவி மேலோட்டுப் பகுதியில் பாறைகள் வெவ்வேறு இயற்கைச் சக்திகள், அக மற்றும் புற காரணிகளால் ஒரு நிலையிலிருந்து மற்றொரு நிலைக்கு மாறும் செயல்முறை.	Rock cycle

மதிப்பீடு

I சரியான விடையைத் தேர்ந்தெடுக்கவும்

OB8L9

1. கீழ்க்கண்டவற்றுள் எது பாறைக் கோளம் என அழைக்கப்படுகிறது?
   அ) வளிமண்டலம் ஆ) உயிர்க்கோளம்
   இ) நிலக்கோளம் ஈ) நீர்க்கோளம்
2. உலக மண் நாளாக கடைபிடிக்கப்படும் நாள்
   அ) ஆகஸ்ட் 15 ஆ) ஜனவரி 12
   இ) அக்டோபர் 15 ஈ) டிசம்பர் 5
3. உயிரினப் படிமங்கள் ________ பாறைகளில் காணப்படுன்றன.
   அ) படிவுப் பாறைகள்
   ஆ) தீப்பாறைகள்
   இ) உருமாறியப் பாறைகள்
   ஈ) அடியாழப் பாறைகள்
4. மண்ணின் மேல் நிலை அடுக்கு
   அ) கரிம மண் அடுக்கு
   ஆ) அடி மண் அடுக்கு
   இ) அடி மண்
   ஈ) அடித்தள பாறை
5. பருத்தி வளர ஏற்ற மண்
   அ) செம்மண் ஆ) கரிசல் மண்
   இ) வண்டல் மண் ஈ) மலை மண்
6. மண்ணின் முக்கிய கூறு
   அ) பாறைகள் ஆ) கனிமங்கள்
   இ) நீர் ஈ) இவை அனைத்தும்
7. கீழ்க்கண்டவற்றில் எவ்வகை மண் பரவலாகவும் அதிக வளமுள்ளதாகவும் உள்ளது?
   அ) வண்டல் மண் ஆ) கரிசல் மண்
   இ) செம்மண் ஈ) மலை மண்

II கோடிட்ட இடங்களை நிரப்புக

1. பாறைகளைப் பற்றிய அறிவியல் சார்ந்த படிப்பு ________
2. ________ மண் தினைப் பயிர்கள் விளைவிப்பதற்கு ஏற்றதாகும்.
3. 'புவியின் தோல்' என்று ________ அழைக்கப்படுகிறது
4. உருமாறிய பாறைகளின் ஒரு வகையான ________ பாறை தாஜ்மகால் கட்ட பயன்படுத்தப்பட்டது
5. ________ பாறை 'முதன்மை பாறை' என்று அழைக்கப்படுகிறது.

8th_Geography_TM_Unit 1.indd 108 03/04/2023 13:34:46

III சரியா / தவறா எனக் குறிப்பிடுக

1. தீப்பாறைகள் முதன்மை பாறைகள் என்று அழைக்கப்படுகிறது
2. களிப்பாறையிலிருந்து பலகைக்கல் (Slate) உருவாகிறது.
3. செம்மண் சுவருதல் (Leaching) செயல்முறைகளில் உருவாகிறது
4. இயற்கை மணலுக்கு மாற்றாக கட்டுமான பணிகளுக்கு "செயற்கை மணல்" (M–Sand) பயன்படுகிறது
5. படிவுப் பாறைகளைச் சுற்றி எரிமலைகள் காணப்படுகின்றன

IV பொருத்துக

1)

i	கிரானைட்	–	1. அடிப்பாறை
ii	மண் அடுக்கு	–	2. அடியாழப் பாறைகள்
iii	பாரன் தீவு	–	3. பட்டைப் பயிரிடல் வேளாண்மை
iv	மண் வளப்பாதுகாப்பு	–	4. செயல்படும் எரிமலை

	i	ii	iii	iv
அ)	2	1	4	3
ஆ)	2	1	3	4
இ)	4	3	2	1
ஈ)	3	4	2	1

2)

i	பசால்ட் (கருங்கல்)	–	1. ஆந்த்ரசைட்
ii	சுண்ணாம்புப் பாறை	–	2. வெளிப்புற தீப்பாறைகள்
iii	நிலக்கரி	–	3. உருமாறியப் பாறைகள்
iv	ஜெனிஸ் (நைஸ்)	–	4. படிவுப்பாறைகள்

	i	ii	iii	iv
அ)	2	4	1	3
ஆ)	2	4	1	3
இ)	3	1	2	4
ஈ)	3	1	4	2

V கொடுக்கப்பட்டுள்ள கூற்றுகளை ஆராய்ந்து தவறான விடையைத் தேர்வு செய்க

1. அ) தீப்பாறைகள் முதன்மைப் பாறைகள் என்று அழைக்கப்படுகிறது.
   ஆ) பாறைகள் சிதைவடைவதால் மண் உருவாகிறது.
   இ) படிவுப் பாறைகள் கடினமான தன்மை கொண்டவை.
   ஈ) தக்காண பீடபூமி பகுதிகள் தீப்பாறைகளால் உருவானவை.
2. அ) மண்ணரிப்பு மண் வளத்தை குறைக்கிறது.
   ஆ) இயக்க உருமாற்றம் அதிக வெப்பத்தினால் உருவாகிறது.
   இ) மண் ஒரு புதுப்பிக்கக் கூடிய வளம்.
   ஈ) இலைமக்குகள் மேல் மட்ட மண்ணின் ஒரு பகுதியாகும்.

VI கொடுக்கப்பட்ட கூற்றுகளை ஆராய்ந்து சரியான கூற்றைக் கண்டுபிடித்து சரியான விடையைத் தேர்ந்தெடுத்து எழுதுக

கூற்று 1 – படிவுப் பாறைகள் பல்வேறு அடுக்குகளைக் கொண்டவை

கூற்று 2 – படிவுப் பாறைகள் பல்வேறு காலங்களில் உருவானவை.

அ) கூற்று 1 மற்றும் 2 சரி ஆனால் கூற்று 2 ஆனது கூற்று 1 க்கு சரியான விளக்கம்.

ஆ) கூற்று 1 மற்றும் 2 சரி ஆனால் கூற்று 2 ஆனது கூற்று 1 க்கு சரியான விளக்கம் அல்ல.

இ) கூற்று 1 சரி ஆனால் கூற்று 2 தவறு.

ஈ) கூற்று 2 சரி ஆனால் கூற்று 1 தவறு.

VII காரணம் கூறுக

1. நீர்த்தேக்கப் படுகைகளில் இரசாயன படிவுப் பாறைகள் காணப்படுகின்றன.
2. தீப்பாறைகள் எரிமலை பகுதிகளில் காணப்படுகிறது.

VIII வேறுபடுத்துக

1. உருமாறிய பாறைகள் மற்றும் படிவுப்பாறைகள்
2. மண் வள பாதுகாப்பு மற்றும் மண்ணரிப்பு

IX சுருக்கமாக விடையளி

1. தீப்பாறைகள் எவ்வாறு உருவாகின்றன?
2. பாறைகளின் கூட்டமைப்பு பற்றி விவரி?
3. 'பாறைகள்' வரையறு.
4. மண்ணின் வகைகளைக் கூறுக.
5. மண்வளப் பாதுகாப்பு என்றால் என்ன?

X விரிவான விடையளி

1. மண் உருவாக்கச் செயல்முறைகள் பற்றி விவரி.
2. பாறைகளை வகைப்படுத்தி விவரிக்கவும்
3. மண்ணடுக்குகள் பற்றி விவரிக்கவும்.
4. மண்ணினை வகைப்படுத்தி விவரிக்கவும்

XI செயல்பாடுகள்

1. இணையதள உதவியுடன் கீழ்க்கண்ட அட்டவணையைப் பூர்த்தி செய்யவும்.

பாறைகள்	உருவாகும் விதம்	பண்புகள்	எ.கா.	பயன்கள்

2 வரைபடப் பயிற்சி
இந்திய புறவெளி நிலவரைபடத்தில் கரிசல் மண் காணப்படும் பகுதிகளைக் குறிக்கவும்.

3 கண்காட்சி
பல்வேறு வகையான மண் மாதிரிகளைச் சேகரித்து உன் வகுப்பறையில் காட்சிப்படுத்தவும்.

4 குழுக் கலந்துரையாடல்
இயற்கை மணலுக்கு மாற்றாக கட்டுமானப் பணிகளுக்கு "செயற்கை மணல்" (M–Sand) பயன்படுத்த காரணம்

1. தரம் – 2. நன்மைகள் – 3. தீமைகள் –

மேற்கோள் நூல்கள்

1. *Physical geography*-Dr.Shanti swaroop.
2. *Outlines of General Geography* - By E.O. Robinson, M.A.
3. Text book in Geography for class VIII-Social science Resource and development - NCERT-New Delhi.
4. Geography for UPSC Civil Service Preliminary Examination - By Surender Singh.
5. School Atlas Book - Tamilnadu Text Book Corporation.

இணையதள வளங்கள்

- *www.Fert.nic.in*
- *www.greathimalayannationalpark.org*
- *www.csmrs.gov.in*

இணையச் செயல்பாடு

பாறை மற்றும் மண்

இச்செயல்பாட்டின் மூலம் பாறைகளின் வகைகள், பாறைகள் எவ்வாறு மாற்றமடைகின்றன மற்றும் பாறைகளின் சுழற்சி பற்றி அறியச்செய்தல்.

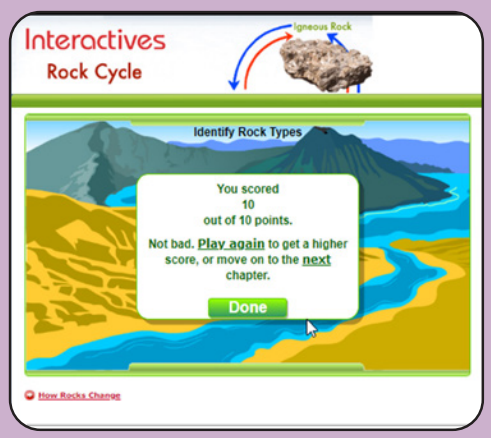

படிநிலைகள்

படி 1 : கீழ்காணும் உரலி/விரைவுக் குறியீட்டைப் பயன்படுத்தி இச்செயல்பாட்டிற்கான இணையப் பக்கத்திற்குச் செல்க.
படி 2 : 'Begin' என்ற பொத்தானைச் சொடுக்கி உங்களின் பாறை சேகரிப்பைத் தொடங்குக.
படி 3 : 'Add to rock collection' என்பதைச் சொடுக்கி ஒவ்வொரு பாறையாகச் சேகரிப்பு செய்க.
படி 4 : 'identify rock types' என்பதைச் சொடுக்கி பாறைகளின் பெயர்களைக் கண்டறிந்து விளையாட்டைத் தொடர்க. Go to 'identify rock types' and play the game

உரலி:
http://www.learner.org/interactives/rockcycle/index.html

8th_Geography_TM_Unit 1.indd 110 03/04/2023 13:34:46

அலகு – 2

வானிலை மற்றும் காலநிலை

கற்றலின் நோக்கங்கள்

- வானிலை மற்றும் காலநிலையின் முக்கியத்துவத்தைப் புரிந்துகொள்ளுதல்
- வானிலை மற்றும் காலநிலைக் கூறுகளின் தன்மையை அறிந்துகொள்ளுதல்
- வானிலை கூறுகளை அளவிடக்கூடிய கருவிகளைப் பற்றி தெரிந்துகொள்ளுதல்
- ஓர் இடத்தினுடைய வானிலை மற்றும் காலநிலையின் வகைகளை அடையாளம் காணல்

அறிமுகம்

காலநிலை இயற்கைச் சூழ்நிலையின் அடிப்படைக் கூறுகளில் ஒன்றாகும். இது நிலத்தோற்றம், மண்வகைகள், இயற்கைத் தாவரங்கள், விலங்குகள் மற்றும் மனிதர்களிடையேயும் பெரும் தாக்கத்தை ஏற்படுத்துகிறது.

தமிழ்நாட்டில் உள்ள தர்மபுரி மாவட்டத்தின் ஒரு சிறிய கிராமத்தில், மே மாதம், யுக்தா தன்னுடைய விடுமுறையை தம்பியுடனும், குடும்பத்துடனும் மகிழ்ச்சியாக கொண்டாடிக் கொண்டு இருக்கின்றாள். அவள் எப்பொழுதும் பருத்தியால் ஆன உடையை அணிகிறாள். அவளுடைய அம்மா கோடைக்காலத்திற்கு ஏற்ற உணவான கஞ்சி, நீர்மோர், எலுமிச்சைசாறு, தர்பூசணி போன்றவற்றைத் தன் குழந்தைக்கு வழங்குகின்றனர்.

அதே மே மாதத்தில் தியா என்பவர் நியூசிலாந்து நாட்டில் உள்ள ஆக்லாந்து என்னும் நகரத்தில் தன் குடும்பத்துடன் வசிக்கிறார். அவர்கள் மேல்சட்டை, வன்துணியாடை, கையுறை, காலுறை போன்ற ஆடைகளை அணிந்துள்ளார். அவருடைய அம்மா அவருக்கு, சாண்ட்விச், ஓட்ஸ் உணவு, வஞ்சிரமீன், வடிசாறு போன்ற சூடான உணவு வகைகளை அளிக்கிறார். யுக்தா கிருஸ்துமஸ் விழாவைக் குளிர்காலத்திலும், தியா கிருஸ்துமஸ் விழாவைக் கோடைக்காலத்திலும் கொண்டாடுகின்றனர். காரணம் என்ன என்று சிந்தனை செய்வீர்களா?

யுக்தா, தியா இருவரும் வெவ்வேறான அரைக் கோளத்தில் வெவ்வேறு வகையான வாழ்க்கை முறையை மேற்கொள்கின்றனர்.

உங்களுக்குத் தெரியுமா?

புவியின் வளி மண்டலமானது வாயுக்களால் ஆன பல அடுக்குகளைக் கொண்டதாகும். இது புவியைச் சூழ்ந்துள்ளது. புவியின் ஈர்ப்பு விசையினால் வாயுக்களைப் புவியில் தக்க வைத்துக் கொள்கிறது. இதில் 78% நைட்ரஜனும், 21% ஆக்ஸிஜனும், 0.97% ஆர்கானும், 0.03% கார்பன் டை ஆக்ஸைடும் 0.04% மற்ற வாயுக்களும் மற்றும் நீராவியும் உள்ளன.

கண்டறிக

சூரியக்குடும்பத்திலுள்ள எல்லா கோள்களுக்கும் வளிமண்டலம் உள்ளதா?

இதற்கு அவ்விடங்களின் வெவ்வேறான வானிலையே காரணமாகும்.

வானிலையும் காலநிலையும் மனிதனுடைய செயல்பாடுகள், உணவு வகைகள், ஆடைமுறைகள், வசிக்கும் வீடு, செய்யும் தொழில்கள், வேளாண்மை, கடல் பயணம், மீன் பிடித்தல், நவீன போக்குவரத்து மற்றும் நாம் விளையாடும் நேரத்தின் மீதும் தாக்கத்தை ஏற்படுத்துகின்றன.

எனவே ஒவ்வொருவரும் வானிலை மற்றும் காலநிலைப் பற்றிய அறிவை பெற்றிருக்கவேண்டும். இப்பாடப்பகுதியில் வானிலை, காலநிலையின் உட்கூறுகள் பற்றி படிப்போம். மேலும் அவை எவ்வாறு மனிதவாழ்க்கை முறையில் தாக்கத்தை ஏற்படுத்துகின்றன என்பதைப் பற்றி தெரிந்துகொள்வோம்.

உங்களுக்குத் தெரியுமா?

"Climate" என்ற சொல் கிளைமா என்ற பண்டைய கிரேக்க மொழியில் இருந்து பெறப்பட்டதாகும். கிளைமோ "Klimo" என்றால் தமிழில் சாய்வுகோணம் (Inclination) என்று பொருள்.

வானிலை (Weather)

வானிலை என்பது ஒரு குறிப்பிட்ட இடத்தின் வளிமண்டலத்தில் நிலவும் சூரிய வெளிச்சம், வெப்பம், மேகமூட்டம், காற்றின்திசை, காற்றழுத்தம், ஈரப்பதம், மழைப்பொழிவு மற்றும் பிறகூறுகளின் தன்மைகளை குறிப்பதாகும். வானிலை குறுகிய காலமான ஒரு நாளோ, ஒரு வாரமோ அல்லது ஒரு மாதமோ நடக்கக்கூடிய நிகழ்வைக் குறிப்பதாகும். மேலும் இது நேரத்திற்கு நேரம், காலத்திற்கு காலம் ஒரு வருடத்திற்குள்ளாகவே மாறக்கூடியது. காலையில் வானிலை தெளிவான வானத்துடன் வெப்பமாகவும் மாலை நேரத்தில், மேகமூட்டத்துடன் கூடிய மழையாகவும் இருக்கக்கூடும். இதேபோல் வானிலை குளிர்காலத்தில் குளிராகவும், கோடைக்காலத்தில் வெப்பமாகவும் இருக்கும்.

நம்மில் சிலர் அடிக்கடி "இன்றைய காலநிலை மிகவும் நன்றாக உள்ளது" அல்லது "மோசமாக உள்ளது" என்று கூறுவதைக் கேள்விப்பட்டிருக்கிறோம். ஆனால் அக்கூற்று தவறானது. அதற்கு பதிலாக "இன்றைய வானிலை நன்றாக உள்ளது அல்லது மோசமாக உள்ளது" என்றே கூற வேண்டும். தொலைக்காட்சிகளில் செய்தி வாசிப்பாளர்கள் இன்றைய "வானிலை அறிக்கை" என்று கூறுகின்றார்கள். ஆனால் கால நிலை அறிக்கை என்று கூறுவதில்லை. (எ.கா) இன்றைய மட்டைப்பந்து விளையாட்டு மோசமான வானிலையின் காரணமாக ஒத்தி வைக்கப்பட்டுள்ளது.

காலநிலை (Climate)

காலநிலை என்பது ஒரு பகுதியின் நீண்ட நாளைய வானிலை சராசரியைக் குறிப்பதாகும். இது வளி மண்டலத்தின் வானிலைக் கூறுகளின் சராசரி தன்மையினை நீண்ட காலத்திற்கு அதாவது 35 வருடங்களுக்கு கணக்கிட்டுக் கூறுவதாகும். காலநிலையின் கூறுகளும் மற்றும் வானிலையின் கூறுகளும் ஒன்றே ஆகும். வானிலையைப் போன்று காலநிலை அடிக்கடி மாறக்கூடியது அல்ல.

வானிலை மற்றும் காலநிலையை கட்டுப்படுத்தும் காரணிகள்

சூரியக்கதிர்களின் படுகோணம், சூரிய ஒளிப்படும் நேரம், உயரம், நிலம் மற்றும் நீர் பரவல், அமைவிடம், மலைத்தொடர்களின் திசை அமைவு, காற்றழுத்தம், காற்று மற்றும் கடல் நீரோட்டம் போன்றவை ஓரிடத்தின் / பகுதியின் / பிரதேசத்தின் காலநிலையையும், வானிலையையும் தீர்மானிக்கும் முக்கிய காரணிகளாகும்.

உங்களுக்குத் தெரியுமா?

வளியியல் என்பது வானிலையின் அறிவியல் பிரிவாகும். காலநிலையியல் என்பது காலநிலையின் அறிவியல் பிரிவாகும்

8th_Geography_TM_Unit 2.indd 112 03/04/2023 13:37:00

புவி கோள வடிவமானது. ஆதலால் புவியின் மேற்பரப்பில் சூரியக்கதிர்கள் ஒரே சீராக விழுவது இல்லை. புவியின் துருவப் பகுதிகள் சூரியக் கதிர்களை சாய்வாக பெறுகின்றன. அதனால் அங்கு சூரிய வெளிச்சம் குறைவாகவோ அல்லது இல்லாமலோ இருப்பதால் அங்கு மிகக் கடும் குளிர் நிலவுகிறது. பூமத்திய ரேகையைச் சுற்றியுள்ள பகுதிகளில் சூரியக்கதிர்கள் செங்குத்தாக விழுவதால் அங்கு காலநிலையானது மிகவும் வெப்பமுடையதாகவும், குளிர்காலமே இல்லாததாகவும் உள்ளது. வெப்பநிலையில் ஏற்படும் மாற்றங்களே நீரோட்டத்திற்கும், காற்றோட்டத்திற்கும் காரணமாக உள்ளன. வெப்பக்காற்று வளிமண்டலத்தில் மேல் நோக்கிச் செல்வதால் அவ்விடத்தில் காற்றின் அழுத்தம் குறைவாக உள்ளது. அதனால் குளிர்காற்று புவிக்கு அருகிலேயே தங்கிவிடுகின்றது.

செயல்பாடு

உயரம், நிலப்பரவல், நீர்நிலைகள், மலையமைவு, காற்றழுத்தம், காற்று மற்றும் கடல் நீரோட்டம் எவ்வாறு வானிலையையும், கால நிலையையும் பாதிக்கின்றன என்பதை உன் வகுப்பில் கலந்துரையாடுக.

வானிலை மற்றும் காலநிலையின் முக்கியக்கூறுகள்

வெப்பநிலை, மழை வீழ்ச்சி, காற்றழுத்தம், ஈரப்பதம் மற்றும் காற்று ஆகியவை வானிலை மற்றும் காலநிலையின் முக்கியக் கூறுகளாகும்.

4TFRM

வெப்ப நிலை (Temperature)

வெப்ப நிலை என்பது, வானிலை மற்றும் காலநிலையின் முக்கியமான கூறு ஆகும். புவியும் அதன் வளி மண்டலமும் சூரியனின் வெப்ப கதிர்வீசலால் வெப்பம் அடைகின்றன. வெப்ப நிலை என்பது காற்றில் உள்ள வெப்பத்தின் அளவை குறிப்பதாகும். காற்றிலுள்ள வெப்பமானது சூரிய கதிர்வீசலால் மட்டுமின்றி வளிமண்டல நிறையையும் சிறிதளவு சார்ந்துள்ளது. வெப்பமானது புவியை வந்தடையும் கதிர்வீச்சின் காலத்தைப் பொறுத்தும் புவி வெப்பகதிர்வீச்சலின் அளவை பொறுத்தும் வெப்பம் இடத்திற்கு இடம் மாறுபடுகிறது. இதற்கு காரணம் புவியின் இயக்கங்கள், தன்சுழற்சி, சூரியனை வலம் வருதல் மற்றும் புவி அச்சின் சாய்வுத் தன்மை ஆகியனவாகும்.



வெப்பநிலை மானி

வெப்ப நிலை, ஈரப்பதத்தின் அளவு, ஆவியாதல், திரவமாதல், மழைப்பொழிவு ஆகியவற்றின் அளவுகளில் தாக்கத்தை ஏற்படுத்துகிறது.

சூரிய கதிர்வீச்சுகளிலிருந்து பெறப்படும் வெப்ப ஆற்றல் மூன்று வழிமுறைகளில் புவியை வந்தடைகிறது. அவை வெப்ப கதிர் வீச்சு, வெப்பக் கடத்தல் மற்றும் வெப்பச் சலனம் ஆகும். புவியின் வளிமண்டலம், சூரிய கதிர்வீசலை விட புவி கதிர்வீசலால் தான் அதிக வெப்பம் அடைகிறது.

வெப்பநிலை செங்குத்தாகவும் கிடைமட்டமாகவும் வேறுபடுகிறது. வளிமண்டல கீழடுக்கில், வெப்பநிலையானது 1000 மீட்டர் உயரத்திற்கு 6.5°C என்ற அளவில் வெப்பநிலை குறைந்து கொண்டே செல்கிறது. இதனை வெப்ப குறைவு வீதம் என்று அழைப்பர்.

வெப்பப்பரவலை தீர்மானிக்கும் காரணிகள்

அட்சரேகை, உயரம், நிலத்தோற்றம், கடல் நீரோட்டம், வீசும் காற்று, கடலிலிருந்து தூரம், இயற்கைத் தாவரங்கள், மண் ஆகியவை வெப்பப்பரவலை பாதிக்கும் முக்கிய காரணிகளாகும்.

8th_Geography_TM_Unit 2.indd 113 03/04/2023 13:37:01

உங்களுக்குத் தெரியுமா?

நிலவரைபடங்களில் வானிலைக் கூறுகளின் பரவலைச் சம அளவுக் கோட்டு வரைபடம் மூலம் காண்பிக்கப்படுகிறது. சம அளவுக் கோடு என்பது சம அளவுள்ள இடங்களை இணைப்பதாகும். இக்கோடுகள் வானிலைக் கூறுகளின் அடிப்படையைக் கொண்டு அளவுக்கோடுகள் வெவ்வேறு பெயர்களில் அழைக்கப்படுகின்றன.

ஐசோதெர்ம் (Isotherm)	சமவெப்பக் கோடு
ஐசோக்ரைம் (Isocryme)	சராசரி சமவெப்பநிலைக்கோடு
ஐசோகெல் (Isohel)	சம சூரிய வெளிச்சக் கோடு
ஐசெல்லோபார் (Isollobar)	சம காற்றழுத்த மாறுபாட்டுக் கோடு
ஐசோபார் (Isobar)	சம காற்றழுத்தக் கோடு
ஐசோஹைட்ஸ் (Isohytes)	சம மழையளவுக் கோடு

வெப்பநிலையை அளவிடுதல்

வெப்பநிலை என்பது ஒரு குறிப்பிட்ட கனஅளவு காற்றில் குறிப்பிட்ட நேரத்தில் அளவிடப்படுகிறது. இது செல்சியஸ், பாரன்ஹீட் மற்றும் கெல்வின் அளவுகளால் அளவிடப்படுதாகும். வானிலை ஆய்வாளர்கள் வெப்பநிலையை அளக்க ஸ்டீவன்சன் வெப்பமானி, மற்றும் குறைந்தபட்ச – அதிகபட்ச வெப்பமானி மூலமும் கணக்கிடுகிறார்கள். சூரியக் கதிர்வீச்சிலிருந்து புவி பெறுகின்ற வெப்ப ஆற்றலானது வெளியேறுகின்ற புவி கதிர்வீசலால் இழக்கப்படுகிறது. வளிமண்டலம் புவிகதிர்வீசலால் வெளியேற்றும் வெப்பத்தால் பிற்பகல் 2.00 மணியிலிருந்து 4.00 மணிக்குள் அதிக வெப்பமடைகிறது. ஆகையால் நாள்தோறும் அதிக பட்ச வெப்பநிலை பிற்பகல் 2.00 மணியிலிருந்து 4.00 மணிக்குள் பதிவாகிறது. குறைந்த பட்ச வெப்பநிலை அதிகாலை 4.00 மணிமுதல் சூரிய உதயத்திற்கு முன் பதிவாகிறது.

வெப்பநிலை வீச்சு (Mean Temperature)

ஓர் இடத்தில் 24 மணி நேரத்திற்குள் நிலவும் அதிகப்பட்ச மற்றும் குறைந்தப்பட்ச வெப்பநிலைக்கும் இடையேயுள்ள சராசரியே வெப்பநிலை வீச்சு ஆகும். $[(87^\circ F + 73^\circ F) / 2 = 80^\circ F]$ ஒரு நாளில் அமையும் உச்ச வெப்பநிலைக்கும் மற்றும் நீசவெப்பநிலைக்கும் இடையேயுள்ள வேறுபாடு தின வெப்பவியாப்தி அல்லது தினசரி வெப்பநிலை வீச்சு எனப்படும். ஒரு ஆண்டின் அதிகவெப்பமான சராசரி மாதத்திற்கும் குறைந்த வெப்பமான சராசரி மாதத்திற்கும் இடையேயுள்ள வேறுபாட்டிற்கு ஆண்டு வெப்பவியாப்தி என்று பெயர்.

வெப்பநிலை பரவலைச் சமவெப்ப கோடுகள் மூலம் காணலாம். சம அளவு வெப்பநிலைக் கொண்ட இடங்களை இணைத்து வரையப்படும் கற்பனைக் கோடுகள் சமவெப்ப கோடுகள் ஆகும்.

புவியின் வெப்ப மண்டலங்கள்

புவியின் கோள வடிவமே வெவ்வேறு இடங்களில் வெவ்வேறு வெப்பநிலையைப் பெறுவதற்கு காரணமாக அமைகிறது. அதனை அடிப்படையாக கொண்டு புவி மூன்று வெப்ப மண்டலங்களாகப் பிரிக்கப்பட்டுள்ளன.

1. வெப்ப மண்டலம் (Torrid zone)

இப்பகுதி கடக ரேகைக்கும், மகரரேகைக்கும் இடைப்பட்ட பகுதியாகும். இது சூரியனிடமிருந்து செங்குத்தான கதிர்களைப் பெறுவதால் அதிகபட்சமான வெப்பத்தைப் பெறுகிறது. இம்மண்டலம் வெப்பமண்டலம் அல்லது அயனமண்டலம் என்றும் அழைக்கப்படுகிறது.

2. மித வெப்ப மண்டலம் (Temperate zone)

வடஅரை கோளத்தில் கடகரேகைக்கும், ஆர்டிக் வட்டத்திற்கும் இடைப்பட்ட பகுதியாகவும், தென்அரை கோளத்தில்

8th_Geography_TM_Unit 2.indd 114 03/04/2023 13:37:01

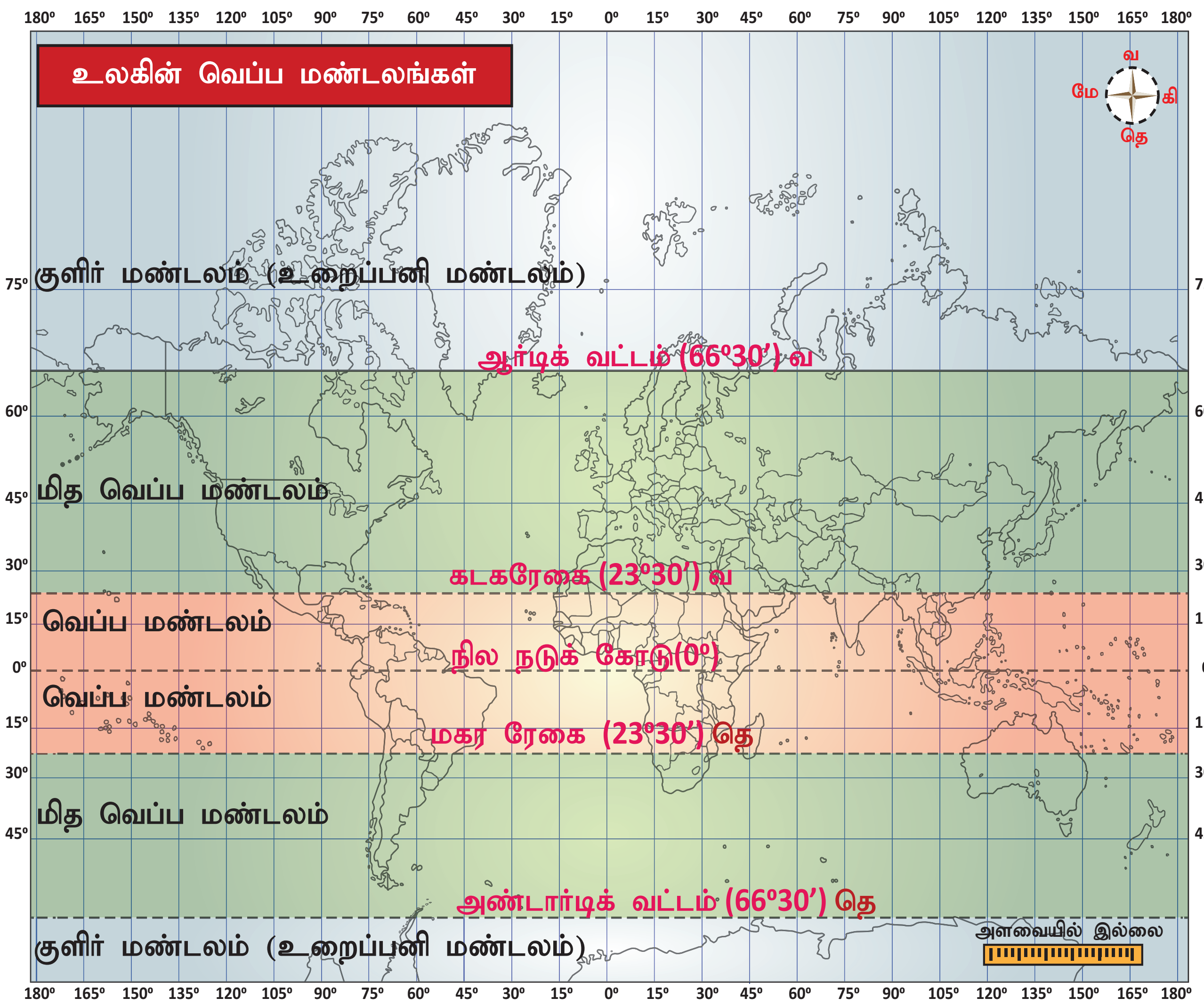

மகரரேகைக்கும் அண்டார்டிக்கா வட்டத்திற்கும் இடைப்பட்டப் பகுதியாக அமைந்துள்ளது. இது சூரியனின் சாய்வானக் கதிர்களைப் பெறுவதாலும் சூரிய கதிர்களின் படுகோணம் துருவத்தை நோக்கிச் செல்லச்செல்ல குறைகிறது. எனவே இம்மண்டலம் மித வெப்பமண்டலம் என்று அழைக்கப்படுகிறது.

3. குளிர் மண்டலம் (உறைப்பனி மண்டலம்) (Frigid zone)

உறைப்பனி மண்டலம் ஆர்ட்டிக் வட்டத்திற்கும், வடதுருவப்பகுதிக்கு இடையேயும், அண்டார்ட்டிக் வட்டத்திற்கும் தென்துருவப்பகுதிக்கு இடையேயும் அமைந்துள்ளது. இங்கு ஆண்டு முழுவதும் குறைந்த வெப்பத்தைப் பெறுவதால் இப்பிரதேசம் பனியால் சூழப்பட்டுள்ளது. இப்பகுதி துருவ மண்டலம் என்று அழைக்கப்படுகிறது.

அதிகபட்ச வெப்ப நிலை / குறைவான வெப்ப நிலை

புவியில் இதுவரை பதிவான மிக அதிகபட்ச வெப்ப நிலை 56.7°C (134°F). இது 1913 ஆம் ஆண்டு ஜுலை 10 ஆம் நாள் அமெரிக்க ஐக்கிய நாட்டின் கலிபோர்னியாவிலுள்ள கிரீன்லாந்து மலைத்தொடர் (மரணப் பள்ளத்தாக்கு) என்ற இடத்தில் பதிவாகியுள்ளது.

இதுவரை பதிவான குறைந்தபட்ச வெப்பநிலை (−89.2°C) (−128.6°F 184.0K) இது 1983 ஆம் ஆண்டு ஜுலை 21 ஆம் நாள் அண்டார்டிக்காவில் உள்ள சோவியத் வோஸ்டக் நிலையத்தில் பதிவாகியுள்ளது.

8th_Geography_TM_Unit 2.indd 115 03/04/2023 13:37:02

மழைப்பொழிவு (Rain fall)

மழை மானி

வளிமண்டல நீராவி நீர் சுருங்குதல்மூலம் பூரித நிலையை அடைந்து புவிஈர்ப்பு விசையின் காரணமாக கீழ்நோக்கி விழும் திரவ நீரே மழை பொழிவு என்படும். நீர்சுழற்சியின் முக்கிய கூறு மழையாகும். இது புவியில் நன்னீரை உருவாக்குகின்றது. மழைநீரே எல்லாவகையான நீருக்கும் முக்கியமான ஆதாரமாக விளங்குகிறது. வெப்ப நிலை மற்றும், மழைபரவலுக்கும் இடையே நெருங்கிய தொடர்பு உள்ளது. பொதுவாக மழைப்பொழிவு நிலநடுக்கோட்டுப் பகுதிகளில் அதிகமாகவும், துருவப்பகுதிகளை நோக்கிச் செல்லச்செல்ல மழையின் அளவு குறைகிறது. மழைப்பொழிவு மழை மானியால் அளவிடப்படுகிறது.

காற்றின் அழுத்தம் (Air Pressure)

அழுத்த மானி

புவியின் மேற்பரப்பில் குறிப்பிட்ட பகுதியிலுள்ள உள்ள காற்றின் எடையே வளிமண்டல அழுத்தம் அல்லது காற்றழுத்தம் எனப்படும். காற்றின் அழுத்தம் காற்றழுத்த மானியால் அளவிடப்படுகிறது. கடல் மட்டத்தில் உள்ள நிலையான காற்றழுத்தத்தின் அளவு 1013.25 மில்லி பார் ஆகும். பூமியில் உள்ள எல்லாப் பகுதிகளிலும் காற்றழுத்தத்தின் அளவு 1.03 கிலோ/ச.செ.மீ ஆகும். நிலையான வளிமண்டல அழுத்த வேறுபாட்டினால் காற்றழுத்தம் கிடையாகவும் செங்குத்தாகவும் காணப்படுகிறது. இதனை அடிப்படையாகக் கொண்டு காற்றின் அழுத்தத்தை குறைந்த காற்றழுத்த மண்டலம் என்றும், அதிக காற்றழுத்த மண்டலம் என்றும் வகைப்படுத்துகின்றனர்.

குறைந்த காற்றழுத்தப் பகுதி என்பது வளி மண்டலப் பகுதிகளில் சுற்றியுள்ள பகுதிகளை விட அழுத்தம் குறைவாக இருக்கும். இப்பகுதியை நோக்கி அழுத்தம் அதிகமுள்ள பகுதியில் இருந்து காற்று வீசும். அதிக காற்றழுத்தம் என்பது வளிமண்டலப்பகுதிகளில் சுற்றியுள்ள பகுதிகளைவிட அழுத்தம் அதிகமாக இருக்கும். காற்று இங்கிருந்து குறைந்த காற்றழுத்தப் பகுதியை நோக்கி வீசும்.

உங்களுக்குத் தெரியுமா?

உலகில் இதுவரை பதிவான மிக அதிக பட்ச அழுத்தம் 1083 mb, 1968 ஆம் ஆண்டு டிசம்பர் 31 ஆம் தேதி ரஷ்யாவில் உள்ள "அகாட்" என்ற இடத்தில் கடல் மட்டத்தில் பதிவானது. உலகில் இதுவரை பதிவான மிகக் குறைந்த அழுத்தம் 870 mb 1929 டிசம்பர் 12 ஆம் தேதி பசிபிக் பெருங்கடலில் உள்ள மரியானா தீவிற்கு அருகில் உள்ள "குவாம்" என்ற கடல் பகுதியில் உருவான டைபூனின் கண் பகுதியில் பதிவானதாகும்.

குறைவான காற்றழுத்த மண்டலம் "L" என்ற எழுத்தாலும் அதிக காற்றழுத்த மண்டலத்தை "H" என்ற எழுத்தாலும் வானிலை வரைப்படத்தில் குறிக்கப்படுகிறது. குறைந்த அழுத்த மண்டலம் காற்றழுத்த தாழ்வு மண்டலம் மற்றும், சூறாவளி என்றும் அழைக்கப்படுகிறது. அதிக அழுத்த மண்டலம் எதிர் சூறாவளி காற்றுகள் என்று அழைக்கப்படுகிறது. குறைந்த அழுத்த மண்டலம் மேக மூட்டத்தையும், காற்றையும், மழைப் பொழிவையும் உருவாக்குகிறது. அதிக அழுத்த மண்டலம் அமைதியான

8th_Geography_TM_Unit 2.indd 116 03/04/2023 13:37:03

வானிலையைத் தருகிறது. சமஅழுத்தக்கோடு (ஐசோபார்) சம அளவுள்ள காற்றழுத்தத்தின் பரவலை காணப் பயன்படுகிறது.

மனிதர்கள் சிறிய அளவு காற்றழுத்த வேறுபாட்டால் பொதுவாக பாதிக்கப்படுவதில்லை. ஆனால் சிறிய காற்றழுத்த வேறுபாடு மிகப்பெரிய அளவில் உள்ள போது புவியின் காற்றமைப்பையும், புயல் காற்றையும் தீர்மானிக்கிறது. வளிமண்டல அழுத்தத்தை கட்டுப்படுத்தும் காரணிகள் உயரம், வளிமண்டல வெப்பநிலை, காற்று சுழற்சி, பூமியின் தன்சுழற்சி, நீராவி மற்றும் வளிமண்டலப் புயல்கள் போன்றவையாகும்.

காற்றழுத்தத்தை அளவிடுதல்

வானிலை ஆய்வாளர்கள் காற்றழுத்தத்தை காற்றழுத்தமானி அல்லது அனிராய்டு காற்றழுத்தமானி மூலம் அளக்கின்றனர். வளிமண்டல அழுத்த வேறுபாட்டை தொடர்ச்சியாகப் பதிவு செய்ய காற்றழுத்தப் பதிவுத்தாள் (Barograms) பயன்படுகிறது.

> நமது காதுகள் ஏன் உயரே செல்லும்போது அடைத்துக் கொள்கின்றன? நாம் விமானத்தில் மேலே செல்லும்பொழுது வளிமண்டல அழுத்தமானது நம்முடைய காதுகளில் உள்ள காற்றின் அழுத்தத்தை விட குறைவாக உள்ளது. ஆதலால் காதுகள் இவ்விரண்டையும் சமப்படுத்தும் பொழுது அடைத்துக் கொள்கின்றன. இந்நிகழ்வு விமானத்தில் இருந்து கீழே இறங்கும்பொழுதும் நிகழ்கின்றன.

ஈரப்பதம் (Humidity)

ஈரநிலைமானி

ஒரு குறிப்பிட்ட இடத்தில் குறிப்பிட்ட நேரத்தில் காற்றில் உள்ள நீராவியின் அளவு ஈரப்பதம் என அழைக்கப்படுகிறது. இது வளிமண்டலத்தின் தொகுதியில் 0 – 5% வரை இருக்கும். ஈரப்பதம் வளிமண்டலத்தின் ஒரு முக்கிய அங்கமாகும். வளிமண்டலத்தில் ஈரப்பத்தின் அளவு வெப்பநிலையின் அளவை பொறுத்து அமைகிறது. அதனால் ஈரப்பதத்தின் அளவு நிலநடுக்கோட்டிலிருந்து துருவத்தை நோக்கிச் செல்லும்போது குறைகிறது. காற்றில் உள்ள ஈரப்பதத்தை அளவிட பலவேறு அளவீட்டு முறைகள் உள்ளன.

குறிப்பிட்ட ஈரப்பதம் (Specific Humidity): ஒரு குறிப்பிட்ட எடைக்கொண்ட காற்றிழுள்ள நீராவியின் எடை ஈரப்பதம் எனப்படும். பொதுவாக கிராம் நீராவி / கிலோகிராம் காற்று எனக் குறித்துக் காட்டப்படுகிறது.

முழுமையான ஈரப்பதம் (Absolute Humidity): ஒரு குறிப்பிட்ட கன அளவுள்ள காற்றில் உள்ள நீராவியின் எடைக்கு முழுமையான ஈரப்பதம் என்று பெயர். இது ஒரு கன மீட்டர் காற்றில் எவ்வளவு கிராம் நீராவி உள்ளது எனக் குறித்துக் காட்டப்படுகிறது.

ஒப்பு ஈரப்பதம் (Relative Humidity): ஒரு குறிப்பிட்ட வெப்பநிலையில் ஒரு குறிப்பிட்ட கன அளவுள்ள காற்றில்எவ்வளவுநீராவிஇருக்கமுடியுமோஅந்த அளவிற்கும், அதேசமயம் அக்காற்றில் தற்போது எவ்வளவு நீராவி உள்ளதோ அந்த அளவிற்கும் உள்ள விகிதம் ஒப்பு ஈரப்பதம் எனப்படும். இது சராசரி சதவிகித முறையில் காணப்படுகிறது. பொதுவாக வெப்பகாற்று குளிர்காற்றைவிட அதிக நீராவியைத் தக்கவைத்துக்கொள்ளும். காற்றில் ஒப்பு ஈரப்பதம் 100% அடையும்பொழுது காற்று பூரித நிலையை அடையும். இந்தப் பூரித நிலையையில் வெப்பநிலை பனிப்புள்ளி நிலைக்குச் சென்று விடும். இந்த நீராவி மேலும் குளிர்வடைந்து நீர் சுருங்கி மேகங்கள் மற்றும் மழைக்கு வித்திடுகிறது. ஒப்பு ஈரப்பதம் மனிதனின் உடல் நலத்தையும் ஆரோக்கியத்தையும் பாதிக்கிறது. அதிக மற்றும் குறைந்த ஈரப்பதம் உடல் நலத்திற்கு தீங்கு விளைவிக்கும். இது பல்வேறு பொருட்கள், கட்டடங்கள், மின்சாதன பொருட்களின் நிலைத்தன்மையைப் பாதிக்கும்.

8th_Geography_TM_Unit 2.indd 117 03/04/2023 13:37:03

ஈரப்பதத்தை அளத்தல் (Measurement of Humidity)

ஈரநிலைமானி (ஹைக்ரோ மீட்டர்) கொண்டு காற்றின் ஈரப்பதத்தை அளக்கலாம் (ஸ்வன்சன் திரையில் வறண்ட மற்றும் ஈரகுமிழ் கட்டுகள் ஒவ்வொன்றாக அடுக்கப்பட்டதாகும்).

கண்டறிக

குறைந்த மற்றும் அதிகபட்ச ஈரப்பதத்தினால் மனிதர்களுக்கு ஏற்படும் விளைவுகள்.

உங்களுக்குத் தெரியுமா?

காற்றின் அழுத்தம் குறைவதனால் காற்றில் சுவாசிப்பதற்கான ஆக்ஸிஜனின் அளவும் குறைகிறது. மிக உயரமான இடங்களில் காற்றில் ஆக்ஸிஜனின் அளவும் காற்றின் அழுத்தமும் மிகவும் குறைவாக உள்ளது (அதனால் மனிதர்கள் அங்கு இறக்கக் கூடும்). மலையேறுபவர்கள் உயர்ந்த சிகரங்களில் ஏறும்பொழுது ஆக்ஸிஜனை உருளையில் அடைத்து எடுத்துச் செல்கின்றனர். அவர்கள் சிறிது கால அவகாசம் எடுத்துக் கொண்டு அதிக உயரங்களுக்குத் தம்மை பழக்கப் படுத்திக் கொள்கின்றனர். ஏனெனில் அழுத்தம் அதிகமான இடங்களிலிருந்து அழுத்தம் குறைவான இடங்களுக்குச் செல்லும் பொழுது மூச்சுத்திணறல் ஏற்படும். விமானங்களில் செயற்கை அழுத்தத்தை உருவாக்கி பயணிகளை வசதியாக சுவாசிக்கும்படி அமைத்துள்ளனர்.

காற்று

கிடைமட்டமாக நகரும் வாயுவிற்கு காற்று என்று பெயர். செங்குத்தாக நகரும் வாயுவிற்கு காற்றோட்டம் என்று பெயர். காற்று எப்பொழுதும் உயர் அழுத்தப்பகுதிகளிலிருந்து குறைந்த அழுத்த பகுதியை நோக்கி வீசும். காற்றால் உருவாக்கப்படும் சுழல் காற்று மற்றும் கடும் காற்றை உணரத்தான் முடியும் பார்க்க முடியாது. காற்று எத்திசையிலிருந்து வீசுகிறதோ அதே பெயரில் அழைக்கப்படுகிறது. எ.கா. தென்மேற்குப் பகுதியிலிருந்து வீசும் காற்றிற்கு தென்மேற்குப் பருவக்காற்று என்று பெயர்.

காற்றின் அமைப்புகள் மூன்று பெரும் வகைகளாகப் பிரிக்கப்பட்டுள்ளன. அவை யாவன.

1. கோள் காற்றுகள் அல்லது நிரந்தர காற்றுகள் (Planetary Winds)
2. பருவக் காற்றுகள் (Seasonal Winds)
3. தலக் காற்றுகள் அல்லது பிரதேசக் காற்றுகள் (Local winds)

உங்களுக்குத் தெரியுமா?

உலகிலேயே முதன் முதலாக காலநிலை வரைபடங்களின் தொகுப்பைத் அல் – பலாஹி, என்ற அரேபிய நாட்டு புவியியல் வல்லுநர் அரேபியாநாட்டு பயணிகளிடமிருந்து காலநிலைப் பற்றிய விவரங்களைச் சேகரித்து வெளியிட்டார்.

கோள் காற்றுகள்

ஆண்டு முழுவதும் ஒரே திசையை நோக்கி வீசும் காற்றுகள் கோள் காற்றுகள் அல்லது நிலையான காற்று என்று அழைப்பர். எ.கா. வியாபாரக் காற்று, மேலைக்காற்று, துருவக்காற்று. பருவக்காலக் காற்று என்பது பருவத்திற்கு ஏற்றவாறு அதன் திசையை மாற்றி வீசும். இக்காற்றுகள் கோடைக்காலத்தில் கடலிலிருந்து நிலத்தை நோக்கியும், குளிர்காலத்தில் நிலத்திலிருந்து கடலை நோக்கியும் வீசும். தலக்காற்றுகள் அல்லது பிரதேசக் காற்றுகள் என்பது ஒரு நாள் அல்லது ஆண்டின் குறுகிய காலத்தில் குறிப்பிட்ட நேரத்தில் ஒரு சிறியபகுதியில் வீசும். எ.கா. நிலக்காற்று, கடல் காற்று.

உங்களுக்குத் தெரியுமா?

பிரேசிலின் பெரும்பகுதியில் காற்றின் வேகம் குறைவாக உள்ளது. ஆப்பிரிக்காவின் காபான், காங்கோ மற்றும் DR காங்கோ, சுமத்ரா, இந்தோனேசியா மலேசியா ஆகியவை பூமியில் குறைந்த காற்று வீசும் பகுதியாகும்.

பியோபோர்டு அளவை என்ற கருவி காற்றின் வேகத்தை அளவிட பயன்படுகிறது. இது இப்பொழுது உலகம் முழுவதும் பயன்பாட்டில் உள்ளது. இக்கருவி 1805 ஆம் ஆண்டு இராயல் கப்பற்படை அதிகாரியான பிரான்சிஸ் பியோபோர்டு அவர்களால் உருவாக்கப்பட்டது. இக்கருவியை முதன்

8th_Geography_TM_Unit 2.indd 118 03/04/2023 13:37:03

முதலில் எச்.எம்.எஸ் பீகால் அவர்களால் அதிகாரப்பூர்வமாக பயன்படுத்தப்பட்டது.

காற்றின் திசை மற்றும் வேகத்தை அளவிடல்

வானிலை வல்லுநர்கள் காற்றின் திசையை அளவிட காற்றுமானி அல்லது காற்று திசைக்காட்டி என்ற கருவிகளைப் பயன்படுத்துகின்றனர். காற்றின் வேகத்தை அளக்க அனிமாமீட்டர் என்ற கருவி பயன்படுத்தப்படுகிறது. விண்ட்ரோஸ் என்பது காற்றின் திசையையும், வீசும் காலத்தையும் நிலவரைபடத்தில் குறிக்கும் ஒரு வரைபடம். மீட்டிரோகிராப் அல்லது டிரிபில் ரிஜிஸ்டர் என்ற கருவி காற்றின் திசை, வேகம் சூரிய வெளிச்சம், மழை ஆகிய வானிலைக் கூறுகளைப் வரைகோட்டுப்படத்தின் மூலம் பதிவு செய்யும் கருவியாகும்.

காற்று திசைக்காட்டி

மீள்பார்வை
■ வானிலை என்பது ஓர் குறிப்பிட்ட இடத்தில் வளிமண்டலத்தில் நிலவும் நிலையாகும். காலநிலை என்பது ஓரிடம் அல்லது ஒரு பகுதியின் சராசரியைக் குறிப்பிடுவதாகும். (அதாவது 35 வருடங்களுக்கு ஒருமுறை)
■ வெப்பநிலை, மழைப்பொழிவு, காற்றழுத்தம், ஈரப்பதம் மற்றும் காற்று ஆகியவை வானிலை மற்றும் காலநிலையின் முக்கிய கூறுகள் ஆகும்.
■ வெப்ப நிலை என்பது காற்றில் உள்ள வெப்பத்தின் அளவைக் குறிப்பதாகும்.
■ பூமியின் மேற்பரப்பில் குறிப்பிட்ட பகுதியில் உள்ள காற்றினுடைய எடையே வளிமண்டலத்தின் அழுத்தம் அல்லது காற்றழுத்தம் என்றழைக்கப்படுகிறது.
■ கிடைமட்டமாக நகரும் வாயுவிற்கு காற்று என்று பெயர்.

கலைச்சொற்கள்		
வெப்பக்கடத்துதல்	இரு பொருட்களுக்கு இடையே நிகழும் வெப்பப் பரிமாற்றம்.	Conduction
ஆவிசுருங்குதல் / திரவமாதல்	நீராவி நீராக மாறும் செயல்முறைக்கு திரவமாதல் அல்லது நீர்ச்சுருக்கம் எனப்படும்.	Condensation
எதிர் சுழற்சி	காற்று சுழற்சியானது வளர்ச்சியடைந்து கரடு முரடான நிலப்பகுதி, கட்டடங்கள், மலைப்பகுதி மற்றும் தடுப்புகளின் மீதோ அல்லது அருகாமையிலோ வீசும்போது சுழற்காற்று உருவாகிறது.	Eddies
ஈரப்பதம்	காற்றில் உள்ள நீராவியின் அளவு	Humidity
சூரியக்கதிர் வீசல்	சூரியக்கதிர் வீசல் – உள்வரும் சூரியக் கதிர் வீச்சு	Insolation
கதிர்வீசல்	ஒரு பொருளிலிருந்து மற்றொரு பொருளுக்கு எந்த ஊடக (திட, திரவ, வாயு) உதவியுமின்றி நிகழும் வெப்பப்பரிமாற்றம்.	Radiation

மதிப்பீடு

I சரியான விடையைத் தேர்ந்தெடுக்கவும்

1. புவியின் வளிமண்டலம் __________ நைட்ரஜன் மற்றும் ______ ஆக்சிஜன் அளவைக் கொண்டுள்ளது.
   அ) 78% மற்றும் 21%
   ஆ) 22% மற்றும் 1%
   இ) 21% மற்றும் 0.97%
   ஈ) 10 மற்றும் 20%
2. __________ ஒரு பகுதியின் சராசரி வானிலையைக் குறிப்பதாகும்.
   அ) புவி ஆ) வளிமண்டலம்
   இ) காலநிலை ஈ) சூரியன்
3. புவி பெறும் ஆற்றல் __________
   அ) நீரோட்டம்
   ஆ) மின்காந்த அலைகள்
   இ) அலைகள்
   ஈ) வெப்பம்
4. கீழ்க்கண்டவற்றில் எவை சம அளவு மழை உள்ள இடங்களை இணைக்கும் கோடு ஆகும்.
   அ) சமவெப்பக்கோடு
   ஆ) சம சூரிய வெளிச்சக் கோடு
   இ) சம காற்றழுத்தக் கோடு
   ஈ) சம மழையளவுக் கோடு
5. __________ என்ற கருவி ஈரப்பதத்தை அளக்கப் பயன்படுகிறது.
   அ) காற்றுமானி ஆ) அழுத்த மானி
   இ) ஈரநிலை மானி ஈ) வெப்ப மானி

II கோடிட்ட இடங்களை நிரப்புக

1. __________ என்பது குறுகிய காலத்தில் வளிமண்டலத்தில் ஏற்படும் மாற்றங்களைக் கூறுவது ஆகும்.
2. வானிலையைப் பற்றிய அறிவியல் ஆய்வு __________
3. புவியில் அதிகபட்ச வெப்பம் பதிவான இடம் __________
4. காற்றில் உள்ள அதிக பட்ச நீராவிக் கொள்ளளவுக்கும் உண்மையான நீராவி அளவிற்கும் உள்ள விகிதாச்சாரம் __________
5. அனிமாமீட்டர் மற்றும் காற்றுமானி மூலம் __________ மற்றும் __________ ஆகியவை அளக்கப்படுகின்றன.
6. சம அளவுள்ள வெப்ப நிலையை இணைக்கும் கற்பனைக் கோடு __________

III பொருத்துக

1.	காலநிலை	– புயலின் அமைவிடத்தையும் அது நகரும் திசையையும் அறிந்து கொள்வது
2.	ஐசோநிப்	– சூறாவளி
3.	ஈரநிலைமானி	– சம அளவுள்ள பனிபொழிவு
4.	ரேடார்	– நீண்ட நாளைய மாற்றங்கள்
5.	குறைந்த அழுத்தம் (தாழ்வு அழுத்த மண்டலம்)	– ஈரப்பதம்

IV சரியா / தவறா எனக் குறிப்பிடுக

1. புவியைச் சுற்றியுள்ள வளிமண்டலம் பல்வேறு வாயுக்களால் ஆன கலவையாகும்.
2. வானிலை பற்றிய அறிவியல் பிரிவிற்கு காலநிலை என்று பெயர்.
3. சமமான சூரிய வெளிச்சம் உள்ள பகுதிகளை இணைக்கும் கோட்டிற்கு சம சூரிய வெளிச்சக் கோடு என்று பெயர்.
4. ஈரப்பதத்தை கணக்கிடும் கருவி அரனிராய்டு அழுத்த மானி.

V சுருக்கமாக விடையளி

1. காலநிலை – வரையறு
2. "வெயிற் காய்வு" என்றால் என்ன?
3. "வளிமண்டலக் காற்றழுத்தம்" என்றால் என்ன?
4. சிறு குறிப்பு வரைக: கோள் காற்று / நிரந்தரக்காற்று
5. சம அளவுக் கோடுகள் – "ஐசோலைன்ஸ்" என்றால் என்ன?

VI வேறுபடுத்துக

1. காலநிலை மற்றும் வானிலை
2. முழுமையான ஈரப்பதம் மற்றும் ஒப்பு ஈரப்பதம்
3. கோள் காற்று மற்றும் பருவகாலக் காற்றுகள்

8th_Geography_TM_Unit 2.indd 120 03/04/2023 13:37:04

VII காரணம் கூறுக

1. காலநிலையும் வானிலையும் வெவ்வேறு இடங்களில் மாறுபடுகின்றன.
2. உயரம் அதிகரிக்கும் பொழுது வெப்பம் குறைகிறது.
3. மலை ஏறுபவர்கள் உயர்ந்த சிகரங்களுக்குச் செல்லும்போது ஆக்ஸிஜன் சிலிண்டர்களை எடுத்துச் செல்கின்றனர்.

VIII விரிவான விடையளி

1. வெப்பநிலை எவ்வாறு அளவிடப்படுகிறது?
2. காற்றையும், அதன் வகைகளைப் பற்றியும் விவரி.
3. வானிலைக் கூறுகளையும் அதை அளக்க உதவும் கருவிகளையும் பட்டியலிடுக.

   உலக வெப்பமயமாதலைக் குறைக்கும் ஏதேனும் 3 ஆலோசனைகளை அளிக்கவும்.

   1. ______________________________
   2. ______________________________
   3. ______________________________

IX கீழ்க்கண்டவைகளை உலக வரைபடத்தில் குறிக்கவும்

1. வெப்ப மண்டலங்கள்
2. காற்றழுத்த மண்டலமும், கோள் காற்றுகளும்

X செயல்பாடுகள்

1. மழைமானி மற்றும் காற்று திசை காட்டி கருவிகளின் மாதிரிகளை உருவாக்குக.
2. சிறிய அளவிலான மாதிரி வானிலை மையத்தை உன் பள்ளியில் உருவாக்கு.
3. தினமும் வானிலை அறிக்கையை படித்து அல்லது தொலைக்காட்சியின் மூலம் அறிந்து கீழே உள்ள கட்டங்களில் நிரப்பு.

தேதி			
இடமும் நேரமும்			
வெப்பம்			
அழுத்தம்			
மழையளவு			
காற்றின் திசை			
காற்றின் வேகம்			

மேற்கோள் நூல்கள்

1. *Climatology an atmospheric science* John E. Oliver, John J. HIdore, 2003, person education (singapore)pte,Ltd. India branch, Delhi.
2. Goh Cheng Lelong, *Certificate Physical and Human Geography,* Goh Cheng Lelong, oxford publication (india).
3. *Climatology,* Savindra Singh, 2005, Prayag pustak bhawan, Allahabad, India.

இணையதள வளங்கள்

- https://www.nationalgeographic.com/
- https://climatekids.nasa.gov/menu/atmosphere/

இணையச் செயல்பாடு

வானிலை மற்றும் காலநிலை

படிநிலைகள்

படி – 1 கீழ்க்காணும் உரலி/விரைவுக் குறியீட்டைப் பயன்படுத்தி இச்செயல்பாட்டிற்கான இணையப் பக்கத்திற்குச் செல்க.

படி – 2 தேடுதல் பெட்டியினுள் உங்கள் ஊரின் பெயரைப் பதிவு செய்க

படி – 3 சுட்டியைப் பயன்படுத்தி உங்கள் ஊர்ப் பகுதியைப் பெரிதாக்கிப் பார்க்க.

படி – 4 வலது பக்கமுள்ள பட்டியலுக்குச் சென்று தேவையான தலைப்பைச் சொடுக்கி தங்கள் பகுதியின் வானிலையை அறிந்து கொள்க

ESF74

உரலி :

https://www.windy.com

Mobile: https://play.google.com/store/apps/details?id=com.windyty.android

8th_Geography_TM_Unit 2.indd 121 03/04/2023 13:37:05

அலகு – 3

நீரியல் சுழற்சி



கற்றலின் நோக்கங்கள்

- புவியில் காணப்படும் நீர் நிலைகளின் தன்மைகளைப் பற்றி புரிந்து கொள்ளுதல்
- நீரியல் சுழற்சியின் அடிப்படைக் கருத்துக்களை அறிந்துகொள்ளுதல்
- நீரியல் சுழற்சியின் பல்வேறுபட்ட கூறுகளைத் தெரிந்துகொள்ளுதல்

S2F60

அறிமுகம்

நீர் புவியில் காணப்படும் முக்கிய கூறுகளில் ஒன்றாகும். எல்லா தாவரங்களும் விலங்குகளும் உயிர் வாழ்வதற்கு நீர் அத்தியாவசியமானதாகும். நீரானது குடிநீராக மட்டுமின்றி வீட்டுத் தேவைகளுக்கும், வேளாண்மைக்கும், தொழிற்சாலைப் பயன்பாட்டிற்கும் மற்றும் பிற தேவைகளுக்கும் இன்றியமையாததாகும். அனைத்து வகை பொருளாதார செயல்பாடுகளுக்கும் நீர் மிகவும் அத்தியாவசியமாகிறது. ஆதலால் நீர் புவியின் தவிர்க்க முடியாத கூறாக அமைகிறது. புவியில் நீரின்றி எவ்வுயிரும் நிலைப்பதற்கு வாய்ப்பே இல்லை.

புவியில் நீரின் பங்கு

ஏறத்தாழ 71% புவியின் மேற்பரப்பு நீரால் சூழப்பட்டுள்ளது. புவியில் உள்ள நீரின் அளவு 326 மில்லியன் கன மைல்கள் (Cubic), இவ்வளவு பெரிய கன அளவு நீரை கண்ணால் காண்பது என்பது மிகவும் கடினம். புவியில் உள்ள பெரும்பகுதியிலான நீர் உவர்ப்பு நீர். இது கடலிலும், பேராழிகளிலும் காணப்படுகிறது. புவியில் உள்ள மொத்த நீரில்

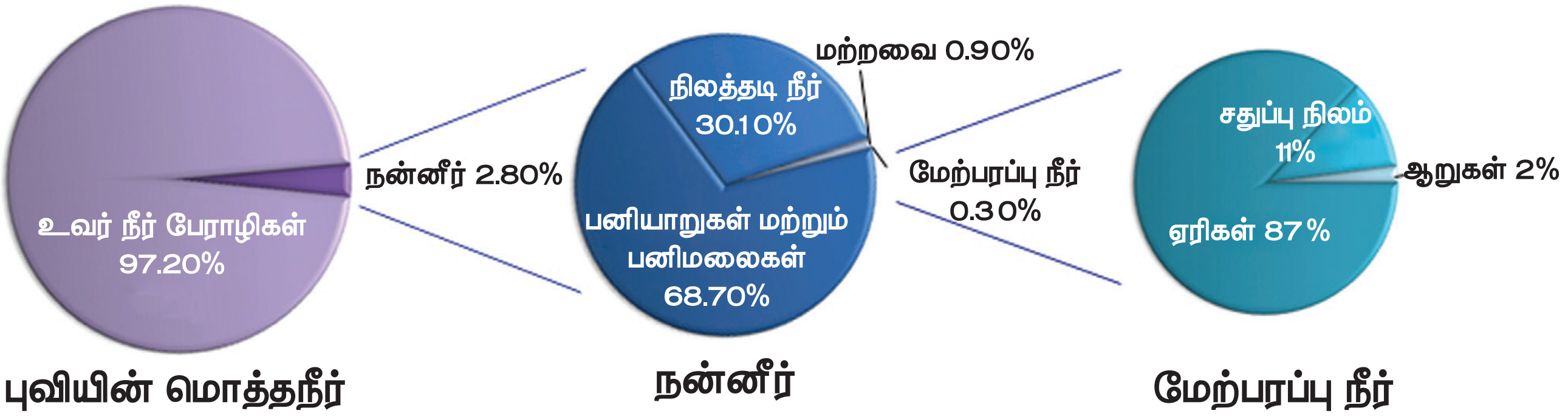

புவியில் உள்ள நீர்

8th_Geography_TM_Unit 3.indd 122 04-03-2023 13:02:22

அட்டவணை 1: புவியின் மேற்பரப்பில் காணப்படும் நீரின் கன அளவின் மதிப்பீடு

நீர் ஆதாரம்	நீரின் கன அளவு (Cubic miles)	மொத்த நீரில் சதவீதம்
பேராழிகள், கடல்கள், மற்றும் குடாக்கள்	321,000,000	96.54
பனிமலைகள், பனியாறுகள், நிலையான உறைபனி	5,773,000	1.74
நிலத்தடி நீர்	5,614,000	1.69
மண்ணின் ஈரப்பதம்	3959	0.001
நிலப்பகுதியில் காணப்படும் நிரந்தர பனிக்கட்டி	71970	0.022
ஏரிகள்	42320	0.013
வளிமண்டலம்	3095	0.001
சதுப்புநில நீர்	2752	0.0008
ஆறுகள்	509	0.0002
உயிரியல் நீர்	269	0.0001

ஆதாரம்: shiklomanov 1993

97.20% உவர்ப்பு நீராகவும் மற்றும் 2.80% நன்னீராகவும் உள்ளது . இந்நன்னீரில் 2.20% புவியின் மேற்பரப்பிலும், மீதமுள்ள 0.60% நிலத்தடி நீராகவும் கிடைக்கப்பெறுகிறது. புவியின் மேற்பரப்பில் காணப்படும் 2.20% நன்னீரில் 2.15% பனியாறுகளாகவும் மற்றும் பனிமலைகளாகவும், 0.01% ஏரிகளாகவும், ஆறுகளாகவும், மீதமுள்ள 0.04% மற்ற நீர் வடிவங்களாகவும் காணப்படுகிறது. மொத்த நிலத்தடி நீரில் இப்பொழுது 0.60% பொருளாதார ரீதியில் நவீன தொழில் நுட்பத்தின்மூலம் துளையிட்டு எடுக்கப்படுகிறது.

நீர் மனிதர்களுக்கு மிகவும் பயனுள்ள வளமாகும். இந்தியாவில் நீர்வளம் மூன்று ஆதாரங்களிலிருந்து கிடைக்கிறது.அவையாவன.

1. மழைப்பொழிவு
2. புவியின் மேற்பரப்பு நீர்
3. நிலத்தடி நீர்.

நீரியல் சுழற்சி அல்லது நீர் சுழற்சி

நீரியல் என்பது புவியின் மேற்பரப்பில் உள்ள நீரின் தன்மை, பரவல், இயக்கம் மற்றும் பண்புகள் போன்ற பல்வேறு அம்சங்களைக் கையாளும் அறிவியலாகும். புவியில் கிடைக்கப்பெறும் நீரானது ஒரே சீராக இருப்பது இல்லை. நீர் வளமானது சில இடங்களில் மிக அதிகமாகவும், சில இடங்களில் மிக குறைவாகவும் உள்ளது.

நீரியல் சுழற்சி சூரிய உந்துதல் செயலாக்கத்தால் நடைபெறும் உலகளாவிய நிகழ்வு. நீர் கடலிலிருந்து ஆவியாதல் மூலம் வளி மண்டலத்திற்குச் சென்று, பின் வளி மண்டலத்திலிருந்து மழைப்பொழிவாக நிலத்திற்கும், நிலத்திலிருந்து நீராக கடலுக்கும் சென்றடைகிறது. புவித்தொடர்புடைய இயக்கங்களுள் நீர்ச்சுழற்சி மிக முக்கியமானதகும். நீர்ச் சுழற்சியில் உள்ளாகும் நீரின் அளவு மாறாதது. இது நீர்பரவல், இடம் மற்றும் காலத்திற்கு ஏற்ப மாறுபடும். ஆவியாதல் புவியின் மேற்பரப்பில் காணப்படும் நீரின் மூலமாகவும்தாவரங்களிலிருந்து நீர் உட்கசிந்து வெளியிடுதல் மூலமும் நடைபெறுகிறது.

நீர், ஆவியாதல் மூலம் வளிமண்டலத்தின் உயரமான பகுதிகளுக்குச் செல்லும் பொழுது, திரவமாகச் சுருங்குதலின் மூலம் மேகங்களாக மாறுகிறது. மேகத்தில் உள்ள நீர்திவலைகள் உருகுதல் மற்றும் மேகம் உடைதல் காரணமாக மழைப்பொழிவின் பல்வேறு வடிவங்களில் புவியை வந்தடைகிறது. மழைப்பொழிவின் ஒருபகுதி நீர், புவியின் மீது வழிந்தோடுகிறது. இதை நீர் வழிந்தோடல் என அழைக்கிறோம். மற்றொரு பகுதி மண்ணில் ஊடுருவல் மூலம் சென்று நிலத்தடிநீராக அமைகிறது. நீரியல் சுழற்சி என்பது இயற்கையாக மற்றும் தொடர்ச்சியான நீர்ச்சுழற்சியாகும். நீரியல் சுழற்சி மூன்று முக்கிய நிலைகளில் நடைபெறுகிறது. அவை

1) ஆவியீர்ப்பு 2) மழைப்பொழிவு 3) நீர்

8th_Geography_TM_Unit 3.indd 123 04-03-2023 13:02:22

வழிந்தோடல்.

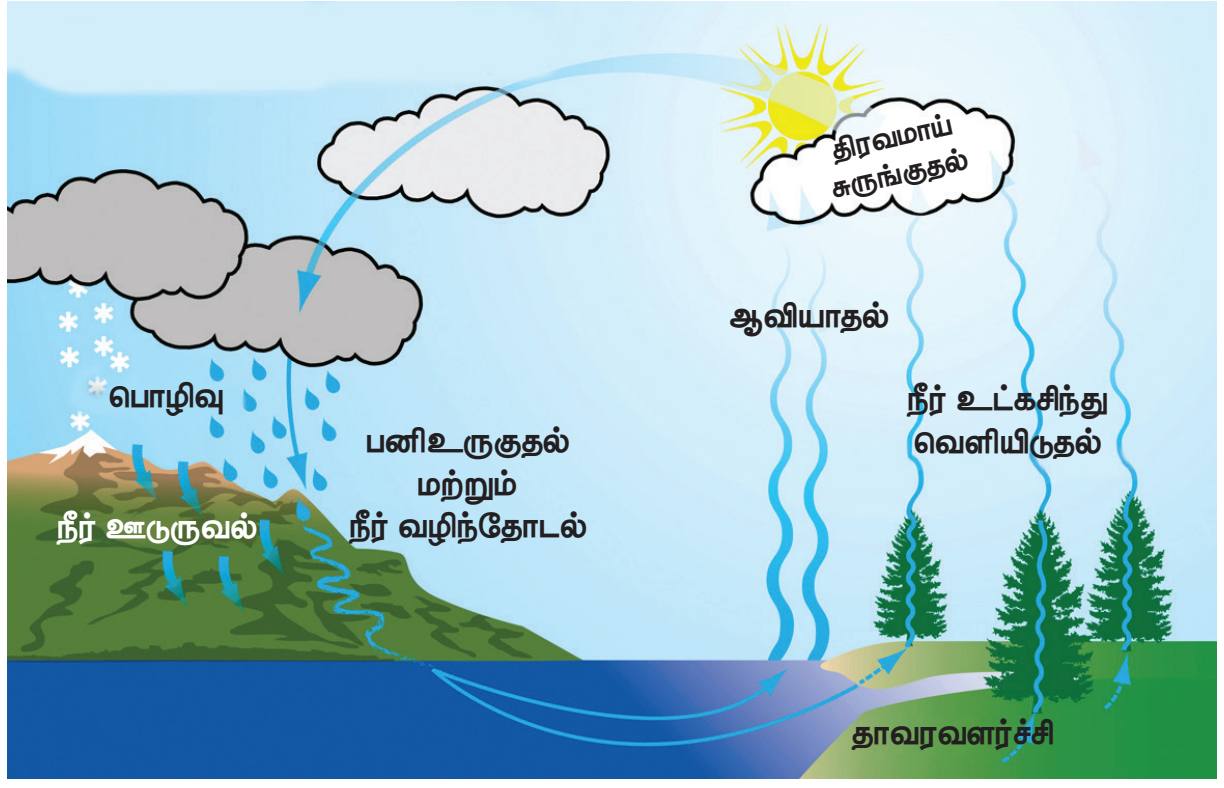

நீரியல் சுழற்சி

நீரியல் சுழற்சியின் கூறுகள்

நீரியல் சுழற்சியில் 6 முக்கிய கூறுகள் காணப்படுகின்றன. அவையாவன.

ஆவியீர்ப்பு – Evapotranspiration

நீர்திரவமாய் சுருங்குதல் – Condensation

மழைப்பொழிவு – Precipitation

நீர் ஊடுருவல் – Infiltration

உட் கசிதல் – Percolation

நீர் வழிந்தோடல் – Run Off

ஆவியீர்ப்பு (Evapotranspiration)

ஆவியீர்ப்பு என்பது புவியின் மேற்பரப்பு நீர் நிலைகளில் இருந்து ஆவியாதல் வழியாகவும் மற்றும் தாவரங்களிலிருந்து நீர் உட்கசிந்து வெளியிடுதல் மூலமாகவும் நிகழும் புவியின் மொத்த நீர் இழப்பாகும். விளை நிலப்பகுதிகளில் ஆவியாதல் மற்றும் நீர் உட்கசிந்து வெளியிடுதலைத் தனித்தனியாகக் கணிப்பது கடினம்.எனவே,இங்கு அனைத்து நிகழ்வுகளும் ஆவியீர்ப்பு என அழைக்கப்படுகிறது.

9YFAU

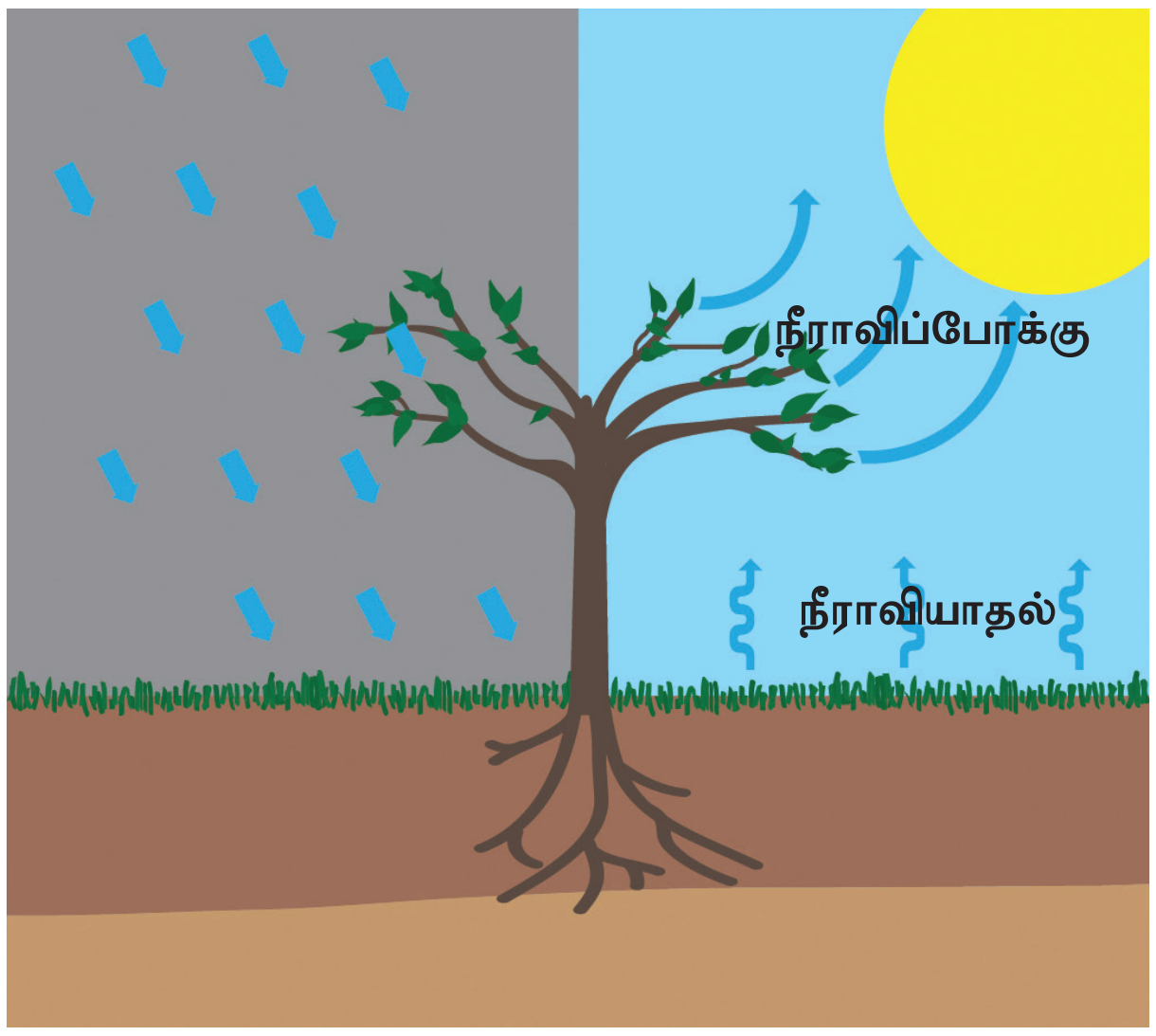

ஆவியீர்ப்பு

(அ) நீர் ஆவியாதல் (Evopration)

நீர், திரவநிலையிலிருந்து வாயுநிலைக்கு மாறுவதற்கு ஆவியாதல் என்று பெயர். 100°C (212°F) வெப்ப நிலையில் நீர் கொதிக்கிறது. உண்மையாக நீர் 0°C (32°F) வெப்பநிலையிலேயே ஆவியாகத் தொடங்குகிறது. ஆனால் இந்நிகழ்வு மிகவும் மெதுவாக நடைபெறுகிறது. ஆவியாதலின் விகிதத்தை பாதிக்கும் முக்கிய காரணியாக வெப்ப நிலை உள்ளது. வெப்பம் மற்றும் ஆவியாதலுக்கு இடையே நேர்மறை தொடர்பு உள்ளது. புவியில் மேற்பரப்பில் உள்ள பரந்த நீர்ப்பரப்பு, காற்று, வளிமண்டல ஈரப்பதம் போன்ற காரணிகள் ஆவியாதலின் விகிதத்தை பாதிக்கின்றன.

பேராழிகள், கடல்கள், ஏரிகள் மற்றும் ஆறுகள் போன்றவற்றிலிருந்து சுமார் 90% ஈரப்பதம் ஆவியாதல் மூலமாக வளிமண்டலத்திற்குச் செல்கிறது என்பதைப் பல்வேறு ஆய்வுகள் வெளிப்படுத்துகின்றன. மீதமுள்ள 10% ஈரப்பதம் தாவரங்களில், நீர் உட்கசிந்து வெளியிடுதல் மூலமாக செல்கிறது.

உலகளாவிய அளவில் நீர் எவ்வளவு ஆவியாகிறதோ, அதே அளவு பொழிவாக புவிக்கு மீண்டும் கிடைக்கிறது. ஆனால் புவியியல் ரீதியாக இந்த ஆவியாதல் செயல்முறைகள் மாறுபடுகிறது. பேராழிகளில் ஆவியாதல் அதிகமாகவும், மழைப்பொழிவு குறைவாகவும் உள்ளது. ஆனால் நிலப்பரப்பில் ஆவியாதல் குறைவாகவும், மழைப்பொழிவு அதிகமாகவும் உள்ளது. காற்று அதிகமாக உள்ள காலங்களைவிட காற்று குறைவாக உள்ள காலங்களில் ஆவியாதல் விகிதம் குறைவாக உள்ளது. காற்று குறைவாக உள்ள காலங்களில் நீராவி, நீர் நிலைகளுக்கு அருகிலேயே தங்கி விடுகிறது. காற்று அதிக உள்ள காலங்களில் வறண்ட காற்று நீராவியை வெளியேற்றி கூடுதல் ஆவியாதலுக்கு வழிவகுக்கிறது.

8th_Geography_TM_Unit 3.indd 124 04-03-2023 13:02:22

உங்களுக்குத் தெரியுமா?

ஆவியாதல் விகிதம் அதிகரித்தலானது

1. காற்றின் வேகம் அதிகரிக்கும் பொழுது
2. வெப்பநிலை அதிகரிக்கும் பொழுது
3. ஈரப்பதம் குறையும் பொழுது
4. பூமியில் நீர் நிலைகள் அதிகரிக்கும் பொழுது

(ஆ) நீர் உட்கசிந்து வெளியிடுதல் (Transpiration)

நீர் உட்கசிந்து வெளியிடுதல் என்பது தாவரங்களில் உள்ள நீர் ஆவியாகி வளிமண்டலத்திற்குச் செல்லும் செயலாக்கமே நீர் உட்கசிந்து வெளியிடுதல் ஆகும். தாவரங்களால் உறிஞ்சப்படும் நீரானது நீர் உட்கசிந்து வெளியிடுதலால் வெளியேறுகிறது. வெப்பநிலை, காற்று, ஈரப்பதம் ஆகியவை நீர் உட்கசிந்து வெளியாகும் விதத்தை நிர்ணயிக்கின்றன. மண்ணின் ஈரப்பதம், மண்வளத்தின் மூலம் தாவரங்களின் வேர்களுக்கு நீரை செலுத்துகின்றன. தாவரங்களின் இயற்கைத் தன்மை மற்றும் இலைகள் ஆகியவை நீர் உட்கசிந்து வெளியிடுதலைத் தீர்மானிக்கின்றன. விவசாயத்தில், பயிர்களின் தன்மை, பயிர்களின் பண்புகள், அதன் சூழல் மற்றும் பயிர் சாகுபடி முறைகள் நீர் உட்கசிந்து வெளியேறும் செயலைத் தீர்மானிக்கின்றன.

நீர் சுருங்குதல் (Condensation)

நீராவி, நீராக மாறும் செயல்முறைக்கு நீர் சுருங்குதல் என்று பெயர். வளிமண்டலத்தில் வெப்பக் காற்று மேலே எழுந்து, குளிர்வடைந்து நீராவியைத் தக்க வைத்து கொள்ளும் திறனை இழக்கும் பொழுது, நீர் சுருங்குதல் நிகழ்வு நடைபெறுகிறது. மிகுதியான நீராவி நீர் சுருங்குதலால் மேகத்துளிகளாக மாறுகிறது. இதுவே மேகங்கள் உருவாகக் காரணமாகிறது. இம்மேகங்கள் மழைப்பொழிவை உருவாக்குகிறது. நீர்ச் சுழற்சியின் மூலம் நீராக புவிப்பரப்பிற்கு மீண்டும் வந்தடைகிறது. நீர் சுருங்குதல் ஆவியாதலின் எதிர்வினைச் செயலாகும்.

நீர் சுருங்குதலின் வகைகள்

பனி , உறைபனி, அடர்மூடுபனி, மூடுபனி மற்றும் மேகங்கள் ஆகியவை நீர் சுருங்குதலின் உருவங்களாகும்.

அ) பனித்துளி (Dew)

நீர்த்துளிகள் புவியின் மேற்பரப்பில் குளிர்ந்த பொருள்களின் மீது படும்பொழுது பனி உருவாகிறது. பொருட்களின் வெப்ப நிலை பனிநிலையின் வெப்பநிலையை விடக் குறைவாக இருக்கும் பொழுது பனி உருவாகிறது.

ஆ) உறைபனி (Frost)

குளிர்ந்த பொருட்களின் மேற்பரப்புகளின் மீது நீராவி படிந்து பனிப்படிகங்களாக மாறுவதையே உறைபனி என்கிறோம். அப்பொருட்களின் வெப்ப நிலை உறைநிலைக்குக் கீழே செல்லும் பொழுது இது உருவாகிறது.

இ) அடர் மூடுபனி (Fog)

காற்றிலிருக்கும் நீர் சுருங்குதலால் செறிவூட்டப்பட்ட மிக நுண்ணிய நீர்த்துளிகளே அடர் மூடுபனி எனப்படும். இது புவியின் மேற்பரப்பிலிருந்து 1000 மீட்டர் அல்லது அதற்கும் குறைவான உயரமுள்ள காற்றடுக்காகும். அடர் மூடுபனியின் உயரம் 10 கி.மீட்டர் அல்லது அதற்கு குறைவான உயரம் விமான போக்குவரத்திற்கு உகந்தது.

ஈ) மூடுபனி (Mist)

காற்றில் தொங்கு நிலையில் மிதக்கும் நுண்ணிய நீர்த்துளிகளையே மூடுபனி என்கிறோம். காற்றில் உள்ள நீராவி விரைவாகக் குளிர்வதால் பார்வைக்குத் தெரியாத வாயு நிலையிலிருந்து பார்வைக்குப் புலனாகும் நீர்த்துளிகளாக மாற்றமடைகிறது. மூடுபனியானது அடர் மூடுபனியை விட அடர்த்தி குறைவானதாகும்.

உ) மேகங்கள் (Clouds)

மேகங்கள் என்பது வளிமண்டலத்தில் காணப்படும் குறைந்த எடைக்கொண்ட மிக நுண்ணிய நீர்த்துளிகள் மற்றும் பனிப்படிகங்களைக் கொண்டிருக்கும். இந்த நீர்த்துளிகளின் அளவானது இரண்டு மைக்ரான் முதல் 100 மைக்ரான் கொண்டதாகும். இந்த

8th_Geography_TM_Unit 3.indd 125 04-03-2023 13:02:23

உங்களுக்குத் தெரியுமா?

- நீர் சுருங்குதல் என்பது நீராவி காற்றில் செறிந்து பூரித நிலையை அடைவது.
- வெப்பக்காற்று குளிர்ந்த காற்றை விட அதிக நீராவியைத் தக்க வைத்துக் கொள்ளும்.
- வெப்ப நிலை குறையும் பொழுது காற்று பூரித நிலையை அடைகிறது.

மைக்ரான் அளவுக்கு மேல் செல்லும்பொழுது இவை நீர்த்துளிகளாக மாறுகின்றன.

மழைப் பொழிவு (Precipitation)

மழைப்பொழிவு என்பது மேகங்களிலிருந்து பல்வேறு வடிவங்களில் நீராக புவியின் மேற்பரப்பை வந்தடையும் நிகழ்வு ஆகும். பனிப்படிகங்கள் மற்றும் மேகத்துளிகள் ஒன்று கூடிப் பெரியதாகும் பொழுது அவை கனமாவதால் வளிமண்டலத்தின் வழியாக மழையாக வீழ்கிறது. அவை கீழ்நோக்கி விழும்பொழுது சிறிய துளிகள் ஒன்றுசேர்ந்து பெரிய அளவிலான மழைத்துளிகளாக விழுகின்றன.

மழைப்பொழிவின் வடிவங்கள்

மழைப்பொழிவு வடிவம் ஓரிடத்தில் நிலவும் வானிலை அல்லது காலநிலையைச் சார்ந்தே அமைகிறது. உலகில் உள்ள வெப்பமண்டலப் பகுதிகளில், மழைப்பொழிவு மழையாகவோ அல்லது தூறலாகவோ இருக்கும். குளிர் பிரதேசங்களில் மழைப்பொழிவு பனியாகவும் அல்லது பனிக்கட்டியாகவும் இருக்கும். பொழிவின் வடிவங்களான மழை, கல்மழை, உறைபனி மழை, ஆலங்கட்டி மழை மற்றும் பனி என வகைப்படுத்தலாம்.

மழை (Rain fall)

மழையின் பொதுவான வடிவம் மழைப்பொழிவு, இம்மழைப்பொழிவு நீர்த்துளிகளின் வடிவத்தில் உள்ளதால் மழை எனப்படுகிறது. நீர்த் துளிகள் 0.5 மி.மீ விட்டத்திற்கு அதிகமாக இருந்தால் மழைப்பொழிவு எனவும் 0.5 மி.மீட்டருக்கு குறைவாக இருப்பதால் அதைத் தூறல் எனவும் அழைக்கபடுகிறது. பொதுவாக மழைத் தூறல் படை மேகங்களிலிருந்து உருவாகிறது.

கல்மழை (Sleet)

நீர்த்துளிகளும், 5 மி.மீ விட்டத்திற்கு மேல் உள்ள பனித்துளிகளும் கலந்து காணப்படும் பொழிவிற்கு கல்மழை என்று பெயர். சிலநேரங்களில் வளிமண்டல வெப்பநிலை 0°Cக்கும் குறைவாக இருக்கும் அடுக்குகளில் மழைத்துளி விழும் பொழுது நீர் உறைநிலைக்குச் சென்றுவிடுகிறது. அது புவியை நோக்கி வரும் பொழுது பனிக்கட்டிகளாக மாறுகிறது. ஆதலால், பனிக்கட்டிகளும், நீர்த்துளிகளும் சேர்ந்து புவியின் மீது கல்மழையாக பொழிகிறது.

உறைபனி மழை (Freezing Rain)

மழைத்துளிகள், சில நேரங்களில் புவிப்பரப்பிற்கு அருகாமையில் குளிர்ந்த காற்றுவழியாக விழும்பொழுது உறைவதில்லை. மாறாக குளிர்ந்த புவிப்பரப்பைத் தொடும்பொழுது அம்மழைத்துளிகள் உறைந்து விடுகின்றன. இவையே உறைபனி எனப்படுகிறது. இம்மழையில் உள்ள துளியின் விட்டத்தின் அளவு 0.5 மி.மீ விட அதிகமாக இருக்கும்.

ஆலங்கட்டி மழை (Hail)

மழை பொழிவானது 5 மி.மீ விட்டத்தை விட பெரிய உருண்டையான பனிக்கட்டிகளைக் கொண்டிருந்தால் ஆலங்கட்டி மழை என்று பெயர். இது கார்திரள் மேகங்களிலிருந்து (Cumulonimbus Clouds) இடியுடன் கூடிய மழையாக உருவாகிறது. மேகத்தின் குளிர்ந்த பகுதியிலிருந்து ஒரு சிறிய பனிக்கட்டியாக ஆலங்கட்டி உருவாகிறது. மேகத்தில் ஏற்படும் கடும் செங்குத்து சலனமானது ஆலங்கட்டியைக் குளிர்ந்த பகுதியினூடே மேலும் கீழுமாக பலமுறை எடுத்துச் செல்கிறது.

பனிப்பொழிவு (Snow)

மேகத்திலுள்ள வெப்பம் குறைவதின் காரணமாக நீராவி நேரடியாக பனிக்கட்டிகளாக மாற்றப்படுகிறது. இது துகள் போன்று பனியின் நுண்துகள்களைத் திரளாகக்கொண்டு

8th_Geography_TM_Unit 3.indd 126 04-03-2023 13:02:23

காணப்படுகிறது. இந்தப் பனித்திரள்துகள்கள் பொழிவதைப் பனிப்பொழிவு என அழைக்கிறோம். இது துருவப்பகுதிகளிலும், உயரமான மலைப்பகுதிகளிலும் காணப்படுகிறது.



மழைப்பொழிவின் வடிவங்கள்

நீர் ஊடுருவல் (Infiltration)

புவியின் மேற்பரப்பிலுள்ள மண்ணின் அடுக்கிற்குள் நீர்ப் புகுவதற்கு நீர் ஊடுருவல் என்று பெயர். நீர் ஊடுருவல் மூலம் மண் தற்காலிகமாக தண்ணீரைச் சேமித்து மண்ணில் உள்ள உயிரினங்களுக்கும், தாவரங்களுக்கும் கிடைக்கச் செய்கிறது. மழைநீர் நிலத்திலிருந்து புவிக்கு அடியில் உள்ள பாறைகளின் அடுக்குகளைச் சென்றடைகிறது. இவ்வாறு செல்லும் நீரானது நீரூற்று மற்றும் மலைகளின் தாழ்வான பகுதிகளின் வழியாக புவியின் மேற்பரப்பை வந்தடைகிறது. குறிப்பிட்ட அளவு நீர் நிலத்தினடியில் தங்குவதால் அதனை நிலத்தடி நீர் என்கிறோம். ஊடுருவலின் விகிதத்தை மண்ணின் இயற்பியல் தன்மை, மேற்பரப்பில் காணப்படும் தாவரங்கள், மண்ணின் ஈரத்தன்மை, வெப்ப நிலை மற்றும் மழைப்பொழிவின் அளவு ஆகியவைத் தீர்மானிக்கின்றன. நீர் உட்கசிதல் மற்றும் நீர் ஊடுருவல் ஆகியன ஒன்றோடு ஒன்று தொடர்புடையன.

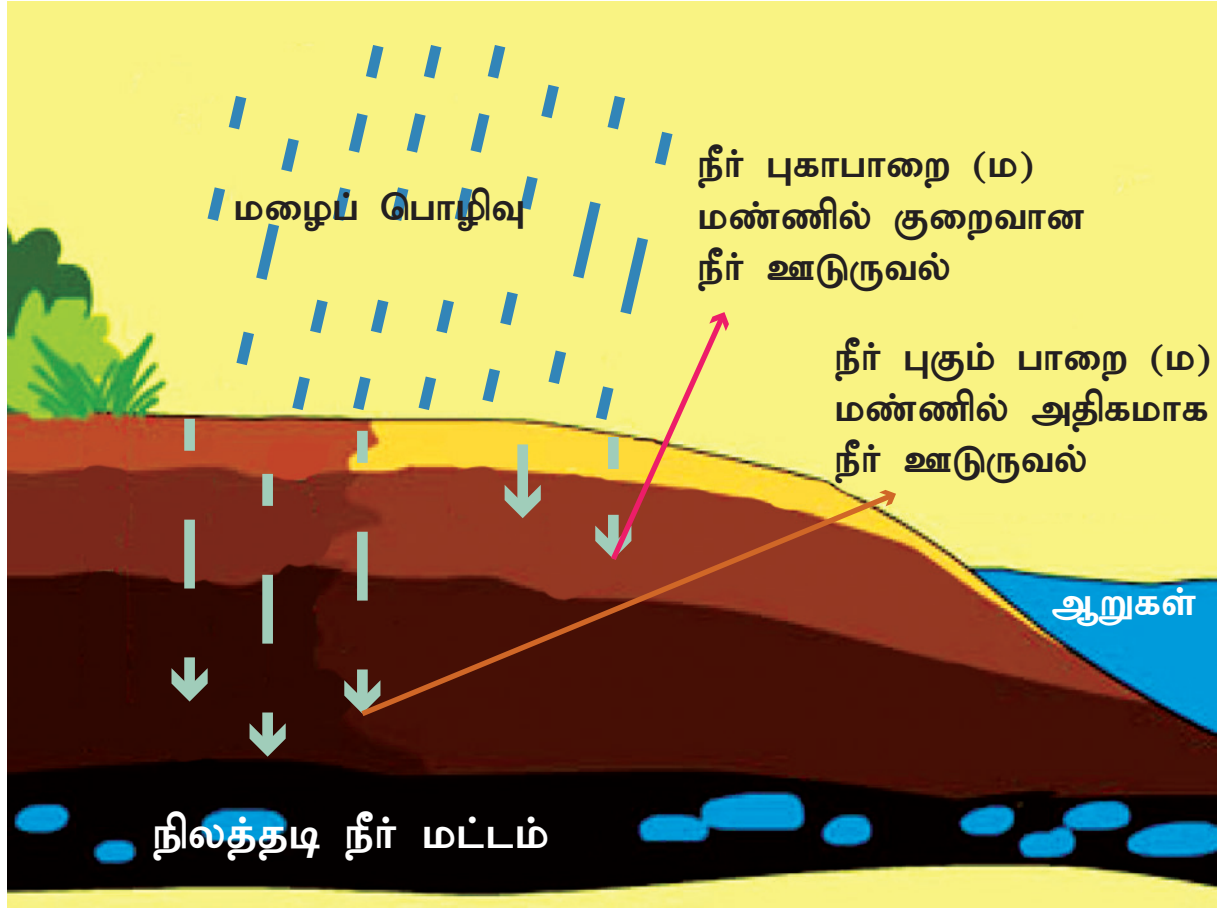

நீர் ஊடுருவல்

நீர் உட்கசிதல் (Percolation)

நீர் உட்கசிவு என்பது மண்ணடுக்கு மற்றும் பாறை அடுக்குகளின் வாயிலாக ஊடுருவிய நீர் கீழ்நோக்கி நிலத்திற்கு அடியில் செல்வதாகும். நீரின் ஊடுருவல் என்பது மண்ணின் மேற்பரப்பின் அருகில் நடைபெறுகிறது. இதன்மூலம் மண்ணின் மேற்பரப்பில் உள்ள நீர் தாவரங்களின் வேர்பகுதிக்கு ஊடுருவிச் செல்கிறது. நீர் உட்கசிவு செயலானது ஊடுருவிய நீர் மண்ணடுக்கு மற்றும் பாறை இடுக்குகள் வழியாகச் சென்று நிலத்தடி நீராக உயருகிறது. இவ்வாறாக நீர் உட்கசிதல் என்பது செறிவூட்டப்பட்ட பகுதியிலிருந்து செறிவூட்டப்படாத பகுதிக்குச் செல்லும் நீரோட்டம் ஆகும்.

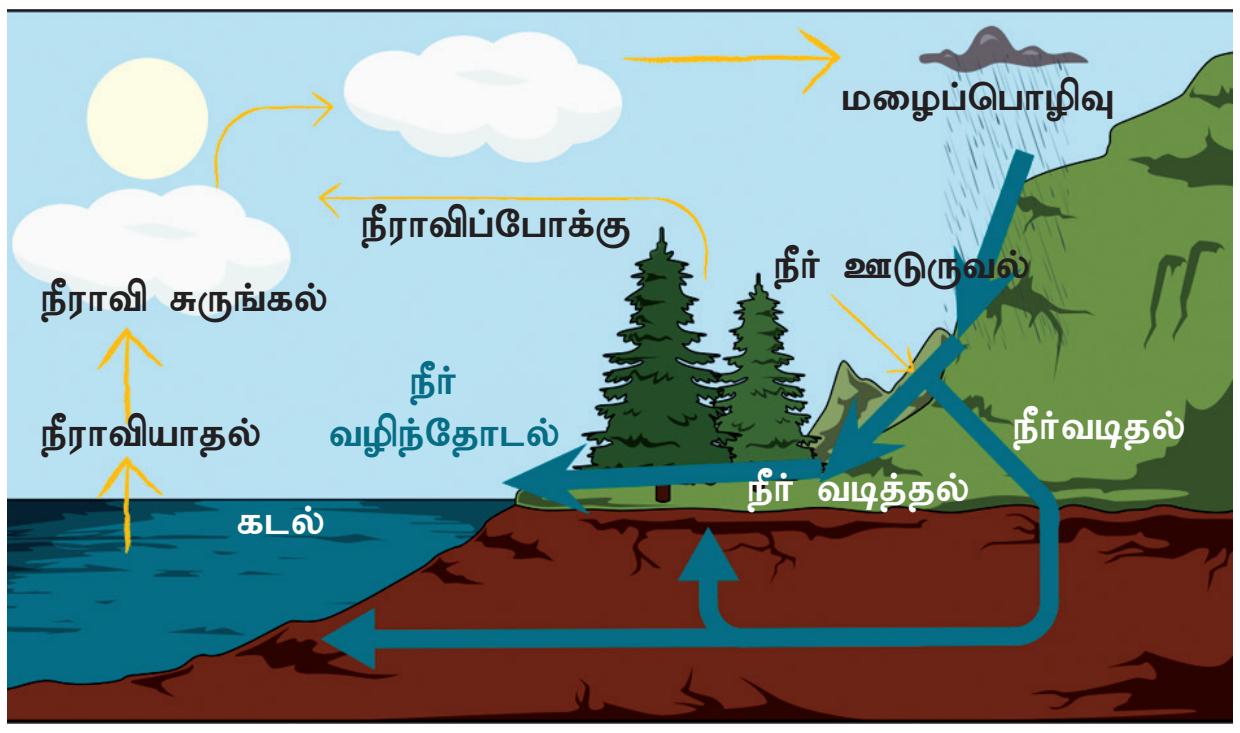

நீர் உட்கசிதல்

8th_Geography_TM_Unit 3.indd 127 04-03-2023 13:02:24

நீர் வழிந்தோடல் (Run Off)

நீர் வழிந்தோடல் என்பது ஓடும் நீர், ஈர்ப்பு விசையினால் இழுக்கப்பட்டு நிலப்பகுதியின் மேற்பரப்பு முழுவதும் செல்வதாகும். நீர் வழிந்தோடலால் மேற்பரப்பு நீரும், நிலத்தடி நீரும் புதுப்பிக்கப்படுகின்றன. நீர் ஊடுருவல் மூலம் நிலத்தடியில் ஊடுருவி நீர்கொள் பாறை அடுக்குகளில் சேமித்து நிலத்தடி நீரைப் புதுப்பித்துக் கொள்ள உதவுகிறது. புவி மேற்பரப்பு நீர், ஆறுகள், ஓடைகள், மற்றும் நீர் பிடிப்புகளுக்குச் செல்கிறது. மழைப்பொழிவு, பனி உருகுதல், நீர் பாசனம் மற்றும் பிற மூலங்களிலிருந்து உறிஞ்சப்படாத நீர், நீர்ச்சுழற்சிக்கு முக்கியக் கூறாகவும் நீர்ப்பிடிப்பு பகுதிகளுக்கு முக்கியஆதாரமாகவும் விளங்குகிறது.

நீர் வழிந்தோடல்மண்ணரிப்புமூலம்பெரிய பள்ளத்தாக்குகள், மலை இடுக்குகள் மற்றும் அதனோடு தொடர்புடைய நிலத்தோற்றங்களை உருவாக்குவதில் முக்கிய பங்குவகிக்கிறது. நீர் வழிந்தோடலின் அளவானது மழைவீழ்ச்சியின் அளவு, மண்ணின் நீர் புகும் தன்மை, தாவரமூட்டம் மற்றும் நிலசரிவைச் சார்ந்து உள்ளது. மழை நீரில் 35 சதவீதம் மட்டுமே கடல் மற்றும் பேராழிகளில் கலக்கிறது. மீதமுள்ள 65 சதவீதமானது மண்ணில் உறிஞ்சப்படுகிறது.

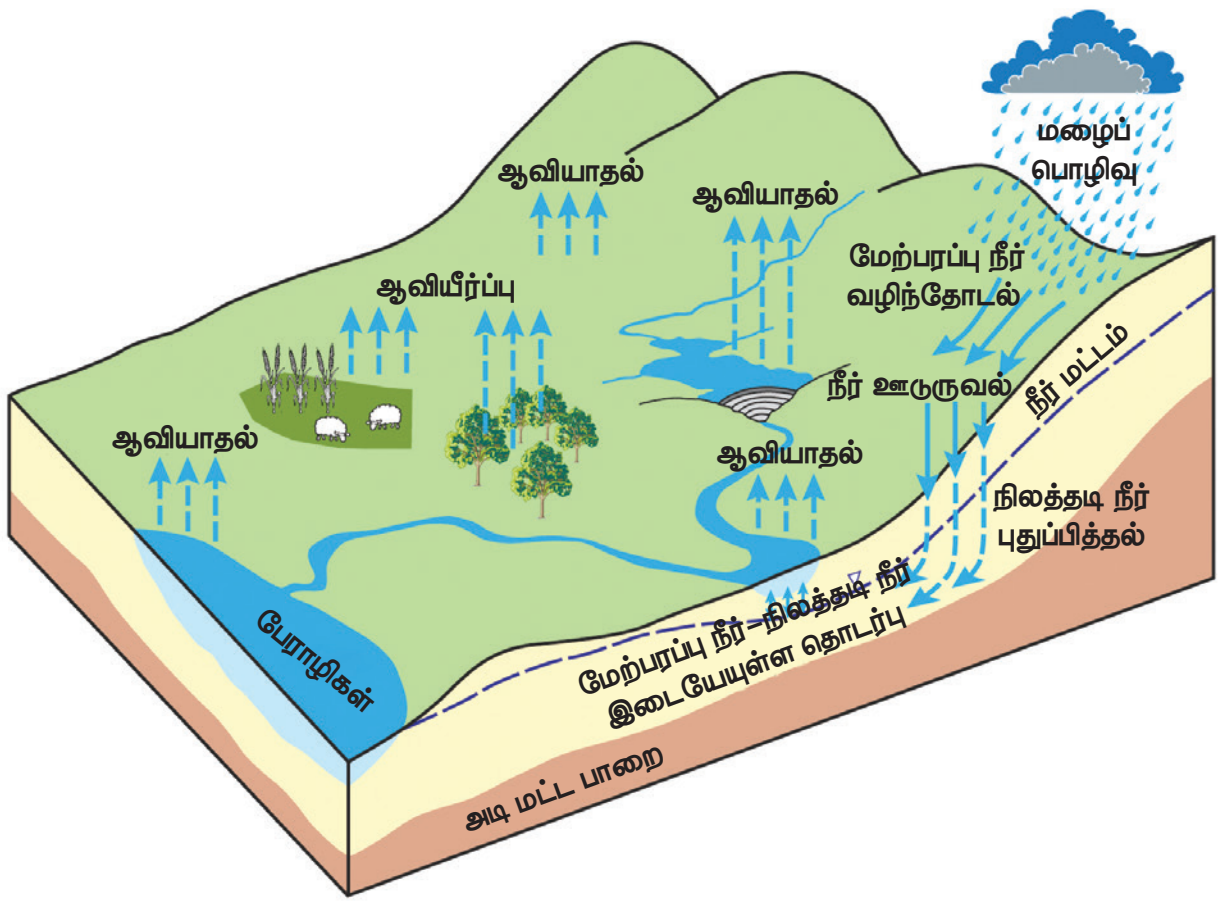

நீர் வழிந்தோடல்

நீர் வழிந்தோடலின் வகைகள்

மழைப் பொழிவின் கால இடைவெளி மற்றும் நீர் வழிந்தோடல் உருவாக்கத்தின் அடிப்படையில், நீர் வழிந்தோடல் கீழ்க்கண்டவாறு வகைப்படுத்தப்பட்டுள்ளது.

மேல்மட்ட மழை நீர் வழிந்தோடல் (Surface runoff)

மழைப் பொழிந்ததவுடன் மழை நீரின் ஒரு பகுதி நீரோடையோடு கலந்து விடுகிறது. இது மழைப்பொழிவு அதிகமாவும் நீண்ட காலத்திற்கும் ஊடுருவலை விட அதிகமாக இருக்கும்பொழுதும் ஏற்படுகிறது. இந்நிலையில் அதிக நீரானது நிலப்பரப்பில் செரிவடைவதால் அது நிலச்சரிவின் காரணமாக ஓரிடத்திலிருந்து மற்றொரு இடத்திற்கு நகர்வதால் நிலநீர் ஓட்டம் எனவும் அறியப்படுகிறது. இந்த நிலநீர் ஓட்டம் ஆறுகள், சிறு ஓடைகள் மற்றும் கடல்களில் இணைவதால் இது மேல்மட்ட நீர் வழிந்தோடல் என அழைக்கப்படுகிறது.

அடிப்பரப்பு நீர் வழிந்தோடல் (Sub Surface runoff)

நீரானது அடிமண் அடுக்கினுள் நுழைந்து நிலத்தடி நீரில் கலக்காமல் பக்கவாட்டு திசையில் நகர்ந்து ஓடைகள், ஆறுகள் மற்றும் கடலுடன் கலப்பதால் இதற்கு அடிப்பரப்பு நீர் வழிந்தோடல் என்று பெயர். அடிப்பரப்பு நீர் வழிந்தோடல் இடைநீர் ஓட்டம் எனவும் பொதுவாக் குறிப்பிடப்படுகிறது.

அடி மட்ட நீர் ஓட்டம் (Base flow)

செறிவடைந்த நிலத்தடி நீர் மண்டலத்திலிருந்து நீர் பாதை வழியாக் நிலத்தடி நீராக ஓடுவதே அடிமட்ட நீர் ஓட்டமாகும். நிலத்தடி நீர் மட்டத்தை விட நீர் பாதையின் உயரம் குறைவாக இருக்கும் பகுதிகளில் மட்டுமே இது காணப்படும். இவை வறண்ட மழையற்ற காலங்களில் நிலத்தடி நீரால் நீரூட்டப்படுகின்றன.

உங்களுக்குத் தெரியுமா?

நீரியலை அளக்க உதவும் அலகுகள்

- ஆவியாதல் – அங்குலம் அல்லது செமீ
- மழைநீர் ஊடுருவல் – அங்குலம் அல்லது செமீ / மணி
- மழை பொழிவு – அங்குலம்/ மி மி / செமீ /
- புவி மேற்பரப்பில் நீர் ஓடலின் கனஅளவு – கன அடி / விநாடி
- மழைவழிவின் கனஅளவு – கன அடி
- மழைநீரின் கொள்ளளவு – கன அடி / ஏக்கர் அடி

8th_Geography_TM_Unit 3.indd 128 04-03-2023 13:02:24

மீள்பார்வை

- புவியின் மிக முக்கிய கூறுகளில் நீர் ஒன்றாகும். எல்லா விலங்குகளுக்கும், தாவரங்களுக்கும் உயிர்வாழ நீர் அத்தியாவசியமாகிறது.
- ஏறத்தாழ 71% புவியின் மேற்பரப்பு நீரால் சூழப்பட்டுள்ளது. இதில் 2.8% தூய நீராகவும், 97.2% சதவிகிதம் உப்பு நீராக கடலிலும், பெருங்கடலிலும் காணப்படுகிறது.
- நீரியல் சுழற்சி என்பது உலக அளவிலான ஒரு நிகழ்வு ஆகும். இது கடலிலிருந்து நீரை வளிமண்டலத்திற்கும், வளிமண்டலத்திலிருந்து புவிக்கும், புவியிலிருந்து மீண்டும் கடலுக்கு எடுத்து செல்லும் ஒரு சுழற்சி ஆகும்.
- நீரியல் சுழற்சியில் ஆறு முக்கிய கூறுகள் உள்ளன. அவையானவன ஆவியீர்ப்பு, நீர் சுருங்குதல், மழைப்பொழிவு, நீர் ஊடுருவல், நீர்உட் கசிவு, மற்றும் நீர் வழிந்தோடல்
- உலகின் வெப்பமண்டல பிரதேசங்களில் பொழிவானது தூறல் அல்லது மழைப்பொழிவு வடிவத்தில் காணப்படும் மழை, கல் மழை, உறைபனி, ஆலங்கட்டி மழை ஆகியன பொழிவின் பொதுவான வடிவங்களாகும்.
- புவியின் மேற்பரப்பிலுள்ள மண்ணின் அடுக்கிற்குள் நீர் புகுதலுக்கு நீர் ஊடுருவல் என்று பெயர். நீர் ஊடுருவல் மூலம் மண் தற்காலிகமாக தண்ணீரைச் சேமித்து மண்ணில் உள்ள உயிரினங்களுக்கும், தாவரங்களுக்கும் கிடைக்கச் செய்கிறது.

கலைச்சொற்கள்

நீர்கொள் பாறை	இது நிலத்திற்கு அடியில் உள்ள நீர் புகக்கூடிய மேலும் நீரை தக்க வைத்துக் கொள்ள கூடிய ஒரு பாறையாகும் அல்லது பாறையின் பிளவுகளாக காணப்படுகிறது.	Aquifer
ஆவியீர்ப்பு	நீர் பரப்பிலிருந்து ஆவியாதல் மூலம் தாவரங்களிலிருந்து நீர் உட்கசிந்து வெளியிடுதல் மூலம் ஏற்படும் நீரிழப்பு.	Evapotranspiration
நீர் ஊடுருவல்	மண்ணிற்குள் அல்லது பாறைக்குள் ஊடுருவும் நீர்	Infiltration
நீர் உட்கசிதல்:	மண்ணணின் துகள்களுக்கு இடையே மெதுவாக கீழ் நோக்கி ஊடுருவும் நீர்	Percolation
பொழிவு	வளிமண்டலத்திலிருந்து நீராவி, நீர் சுருங்குதல் காரணமாக மழையாக பொழிவது	Precipitation
நீர் வழிந்தோடல்	மழைப் பொழிவின் காரணமாக புவியின் மேற்பரப்பில் ஓரிடத்திலிருந்து மற்றோரிடத்திற்கு நீர் செல்வது	Runoff

மதிப்பீடு

I சரியான விடையைத் தேர்ந்தெடுக்கவும்

1. நீர் கடலிலிருந்து, வளிமண்டலத்திற்கும், வளிமண்டலத்திலிருந்து நிலத்திற்கும், மீண்டும் நிலத்திருந்து கடலுக்குச் செல்லும் முறைக்கு ______ என்று பெயர்.

   அ) ஆற்றின் சுழற்சி ஆ) நீரின் சுழற்சி

   இ) பாறைச் சுழற்சி ஈ) வாழ்க்கைச் சுழற்சி

2. புவியின் உள்ள நன்னீரின் சதவிகிதம் ______.

   அ) 71% ஆ) 97.20% இ) 2.80% ஈ) 0.60%

3. நீர், நீராவியிலிருந்து நீராக மாறும் முறைக்கு ______ என்று பெயர்.

   அ) நீர்திரவமாய் சுருங்குதல் ஆ) ஆவியாதல்

   இ) பதங்கமாதல் ஈ) மழை

4. நீர், மண்ணின் இரண்டாவது அடுக்கிலிருந்து அல்லது புவியின் மேற்பரப்பு வழியாக ஆறுகளிலும், ஓடைகளிலும், ஏரிகளிலும், பெருங்கடலுக்குச் செல்லும் முறைக்கு ______.

   அ) நீர்திரவமாய் சுருங்குதல்

   ஆ) ஆவியாதல்

   இ) நீர் உட்கசிந்து வெளியிடுதல்

   ஈ) நீர் வழிந்தோடல்

8th_Geography_TM_Unit 3.indd 129 04-03-2023 13:02:24

5. நீர் தாவரங்களின் இலைகளிலிருந்து நீராவியாக மாறுவதற்கு ______ என்று அழைக்கின்றனர்.

அ) நீர் உட்கசிந்து வெளியிடுதல்

ஆ) நீர் சுருங்குதல்

இ) நீராவி சுருங்குதல்

ஈ) மழைப்பொழிவு

6. குடிப்பதற்கு உகந்த நீரை ______ என்று அழைப்பர்.

அ) நிலத்தடி நீர் ஆ) மேற்பரப்பு நீர்

இ) நன்னீர் ஈ) ஆர்ட்டீசியன் நீர்

II கோடிட்ட இடங்களை நிரப்புக

1. வளிமண்டலத்தில் உள்ள நீராவியின் அளவு ______ என்று அழைக்கப்படுகிறது.
2. நீர்ச்சுழற்சியில் ______ நிலைகள் உள்ளன.
3. வளிமண்டலத்திற்கு புவியை நோக்கி விழும் எல்லா வகையான நீருக்கும் ______ என்று பெயர்.
4. மழைத்துளியின் அளவு 0.5 மீ குறைவாக இருந்தால், அம்மழை பொழிவின் பெயர் ______.
5. மூடுபனி ______ ஐ விட அதிக அடர்த்தி கொண்டது.

III பொருத்துக

1.	தாவரங்கள்	–	மேகங்கள்
2.	நீர் சுருங்குதல்	–	கல்மழை
3.	பனித்துளி மற்றும் மழைத்துளி	–	புவியின் மேற்பரப்பு
4.	நீர் ஊடுருவுதல்	–	நீர் உட்கசிந்து வெளியிடுதல்

IV சரியான கூற்றைத் தேர்வு செய்யவும்

1. நீராவியாதல் என்பது

(i) நீராவி நீராக மாறும் செயலாக்கம்

(ii) நீர் நீராவியாக மாறும் செயலாக்கம்

(iii) நீர் 100°C. வெப்பநிலையில் கொதிக்கிறது. ஆனால் 0°C வெப்பநிலையில் ஆவியாக ஆரம்பிக்கிறது.

(iv) ஆவியாதல் மேகங்கள் உருவாக காரணமாக அமைகிறது.

அ) i, iv சரி ஆ) ii சரி

இ) ii, iii சரி ஈ) அனைத்தும் சரி

V சரியா / தவறா எனக் குறிப்பிடுக

1. 212 °F வெப்பநிலையில் நீர் கொதிக்கிறது. ஆனால் 32 °F வெப்பநிலையில் ஆவியாக ஆரம்பிக்கிறது.
2. மூடுபனி எனப்படுவது காற்றில் தொங்கு நிலையில் மிதக்கும் நுண்ணிய நீர் துளிகளைப் பெற்றிருப்பதில்லை.
3. அடிப்பரப்பு நீர் வழிந்தோடல் பொதுவாக இடைநீர் ஓட்டம் எனக் குறிப்பிடப்படுகிறது.

VI சுருக்கமாக விடையளி

1. நீர் கொள் பரப்பு பற்றி குறிப்பு வரைக.
2. நீர் சுழற்சி – வரையறு.
3. பனி உருவாக்கம் எவ்வாறு நடைபெறுகிறது?
4. "மேல் மட்ட நீர் வழிந்தோடல்" குறிப்பு வரைக.

VII காரணம் கூறுக

1. நீர் புகாத இடங்களில் நீரின் ஊடுருவல் குறைவாக உள்ளது.
2. புவியில் நன்னீர் குறைவாக உள்ளது.
3. துருவப்பகுதிகளிலும்,மலைப்பகுதிகளிலும் பனிப்பொழிவு பொதுவான நிகழ்வாக உள்ளது.

VIII விரிவான விடையளி

1. நீர்ச்சுழற்சியின் பல்வேறு படிநிலைகளைப் படத்துடன் விவரி.
2. தாவரங்களின் நீர் உட்கசிந்து வெளியேறுதலுக்கும் ஆவியாதலுக்கும் உள்ளவேறுபாட்டைக் கூறு.
3. மழைபொழிவின் பல வடிவங்களைப் பற்றி விவரி.
4. நீர் வழிந்தோடல் மற்றும் அதன் வகைகளை விவரி.

IX செயல்பாடு

படத்தில் உள்ள விடுபட்ட நீரின் சுழற்சிகளைக் கண்டுபிடித்து அதற்குரிய இடத்தில் எழுதவும்.

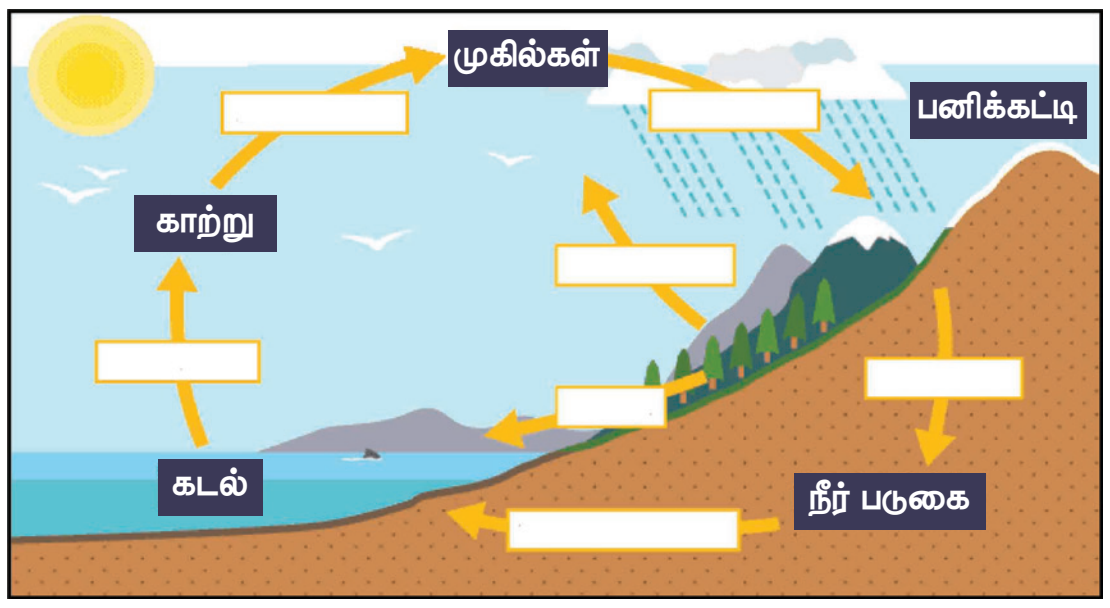

8th_Geography_TM_Unit 3.indd 130 04-03-2023 13:02:24

அலகு – 4

இடம் பெயர்தல் மற்றும் நகரமயமாதல்

கற்றலின் நோக்கங்கள்

- இடம் பெயர்தலின் பொருள், காரணங்கள் மற்றும் விளைவுகள் பற்றி கற்றறிதல்
- இடம் பெயர்தலின் வகைகளைத் தெரிந்து கொள்ளல்
- நகரமயமாக்கலின் கருத்தாக்கத்தை விவரித்தல்
- நகரமயமாக்கலின் தோற்றம் மற்றும் வளர்ச்சியைப் பற்றி கற்றல்
- நகரமயமாதலின் சவால்களைப் புரிந்து கொள்ளல்

YMQKG

அறிமுகம்

இராஜேஷ் மற்றும் சுரேஷ் ஆகியோர் பள்ளியில் புதிதாக சேர்ந்த மாணவர்கள். அவர்களுக்கு எட்டாம் வகுப்பு 'அ' பிரிவு ஒதுக்கப்பட்டது. வகுப்பாசிரியர் மற்றும் மற்ற மாணவர்கள் அவர்களை வகுப்பறைக்குள் வரவேற்றனர். "இன்று இரண்டு புதிய நண்பர்களைப் பெறப்போகிறீர்கள்" என ஆசிரியர் மற்ற மாணவர்களிடம் கூறினார். அடுத்து "நீங்கள் அனைவரும் உங்கள் பெயர், ஊர், எங்கிருந்து வருகிறீர்கள்? எனக் கூறி உங்களை அறிமுகப்படுத்திக் கொள்ளுங்கள்" என்று கூறினார். அவர்கள் முதல் வரிசை இருக்கையிலிருந்து அறிமுகம் செய்துகொள்ள ஆரம்பித்தனர். இராஜேஷ் மற்றும் சுரேஷ் இருவரும் இரண்டாவது வரிசை இருக்கையில் அமர்ந்திருந்தனர். இராஜேஷின் முறை வந்த பொழுது" என் பெயர் இராஜேஷ், என்னுடைய அம்மா இப்பள்ளிக்கு ஆசிரியராக மாறுதலாகியுள்ளதால் நாங்கள் சென்னையிலிருந்து கிருஷ்ணகிரிக்கு இடம் பெயர்ந்துள்ளோம்" எனக் கூறினான். அடுத்ததாக சுரேஷ் தன் அறிமுகத்தின் பொழுது என் பெயர் சுரேஷ், புதுப்பட்டி கிராமத்தில் இருந்து வருகிறேன். இவ்வூர் இப்பள்ளியில் இருந்து சுமார் ஐந்து கிலோமீட்டர் தொலைவில் உள்ளது. மேலும் ஆசிரியரை நோக்கி, "அம்மா இராஜேஷ் கூறிய 'இடம் பெயர்தல்' என்ற வார்த்தைக்கு பொருள் என்னவென்று கூறுங்கள்" எனக் கேட்டான். ஆசிரியர் நன்று. இப்பாடத்தில் 'இடம் பெயர்தல்' பற்றி விரிவாக விளக்குகிறேன் எனக் கூறினார்.

இடம் பெயர்தல்

இடம் பெயர்தல் பற்றி பல வல்லுநர்கள் பல்வேறு முறைகளில் வரையறுத்துள்ளனர். ஒரு நபரோ அல்லது ஒரு குழுவோ நிரந்தரமாகவோ, தற்காலிகமாகவோ தம் இருப்பிடத்தை விட்டு குறிப்பிடத்தக்க தொலைவிற்கு வசிக்கும் இடத்தை மாற்றுவதே இடம் பெயர்தல் எனப்படும். எனவே இடம் பெயர்தல் என்பது மக்கள் ஓர் இடத்திலிருந்து மற்றொரு இடத்திற்கு நகர்வதைக் குறிக்கிறது.

இடம் பெயர்தல்

8th_Geography_TM_Unit_4.indd 131 12/3/2022 11:05:00 AM

ஐக்கிய நாடுகள் அமைப்பின் வரையறை

இடம்பெயர்வு என்பது இரு புவியியல் பிரதேசங்களுக்கிடையே நடைபெறும் ஒரு வகையான மக்கள்தொகை நகர்வாகும். இது பொதுவாக இருப்பிடத்தில் ஒரு வகையான நிரந்தர மாற்றத்தை ஏற்படுத்துகிறது.

சமூக அறிவியலின் மிக முக்கியமான அம்சங்களில் ஒன்று 'மக்கள் இடம் பெயர்தல்' ஆகும். இது பழங்காலத்திலிருந்தே மனித குலத்துடன் நெருங்கிய தொடர்புடையது. இடம் பெயர்தல் என்பது மனித குலத்தின் ஆரம்ப காலத்திலிருந்தே தொடர்ந்து நடைபெறும் நிகழ்வாகும். பழங்காலத்தில் உணவைத்தேடி மக்கள் இடம் பெயர்ந்தனர். பெரும்பாலான மக்கள் காடுகளில் வாழ்வதை தவிர்த்து நாகரிக வாழ்க்கையைப் பின்பற்ற தொடங்கியபோது வளமான நிலம் மற்றும் வளர்ப்பு விலங்குகளுடன் உறவை மேம்படுத்திக் கொண்டனர்.

இதன் விளைவாக மனித குலம் இடம்பெயர்தலில் ஒரு குறிப்பிட்ட அளவு மாற்றமடைந்தது. அவர்கள் கிட்டத்தட்ட நாடோடி வாழ்க்கையைக் கைவிட்டு நிரந்தர குடியிருப்புகளில் வாழத்தொடங்கினர். இந்நிலையில் மக்கள் வளம் மிகுந்த வேளாண் நிலத்தைத் தேடி தொடர்ந்து குடி பெயர்ந்தனர். அதன் பின்னர் இடம்பெயர்வின் தன்மை, காலத்திற்கு ஏற்றவாறு பல மாற்றங்களைச் சந்தித்துள்ளது.

இடம் பெயர்வுக்கான காரணிகள்

மக்கள் இடம் பெயர்தலுக்கு பல்வேறு காரணிகள் உள்ளன. அவைகள் கீழ்க்காண் இரு தலைப்புகளில் வகைப்படுத்தப்படுகின்றன.

1. சாதகமான காரணிகள்

ஓர் இடத்தை நோக்கி மக்களை ஈர்க்கும் காரணிகள் சாதக காரணிகள் அல்லது இழு காரணிகள் (Pull Factors) என அழைக்கப்படுகின்றன.

2. பாதகமான காரணிகள்

மக்களை தங்கள் வசிப்பிடங்களிலிருந்து வெளியேறச் செய்யும் காரணிகள் உந்து காரணிகள் (Push Factors) அல்லது பாதகக் காரணிகள் என அழைக்கப்படுகின்றன.

8th_Geography_TM_Unit_4.indd 132 12/3/2022 11:05:01 AM

இழு காரணிகள் (Pull Factors)	உந்து காரணிகள் (Push Factors)
இயற்கை காரணிகள்	
இடர் குறைவாக உள்ள மண்டலங்கள்	இடர் பாதிக்கும் மண்டலங்கள்
உகந்த காலநிலை	காலநிலை மாறுபாடு (கடுமையான காலநிலை நிகழ்வுகள்)
இயற்கை வளங்கள் மற்றும் கனிமங்கள் மிகுந்த பகுதிகள் (எடுத்துக்காட்டு: நீர், எண்ணெய், யுரேனியம்)	விளைச்சல் பொய்த்தல் மற்றும் உணவு பற்றாக்குறை
பொருளாதாரக் காரணிகள்	
வேலைவாய்ப்பிற்கேற்ற சூழல்கள்	வேலைவாய்ப்பின்மை
சமூக மற்றும் பண்பாட்டுக் காரணிகள்	
சமூக ஒற்றுமை	சமூக முரண்பாடு (பூசல்கள்)
மக்கள் தொகை காரணிகள்	
குறைவான மக்கள் தொகை	மிகை மக்கள் தொகை பெருக்கம்
அரசியல் காரணிகள்	
அரசியல் பாதுகாப்பு	போர், சமூக உரிமைகள், அமைதியின்மை
தனித்துவம் மற்றும், சுதந்திரமாக செயல்படும் வாய்ப்பு	பாதுகாப்பு சார்ந்தவை – இனம், மதம் மற்றும் கலாச்சார துன்புறுத்தல்
குறைந்த செலவு, எளிதில் கிடைக்கும் நகர்ப்புற சேவைகள். எ.கா. சுகாதாரம், கல்வி, பொழுதுபோக்கு, போக்குவரத்து, நீர் போன்றவை	குறைவான அல்லது பற்றாக்குறையான நகர்ப்புற சேவைகள் மற்றும் உள்கட்டமைப்பு வசதி. எ.கா. சுகாதாரம், கல்வி, பொழுதுபோக்கு, போக்குவரத்து போன்றவை

இடம் பெயர்வுக்கான காரணிகள்

மனிதகுல இடம் பெயர்வுக்கான பல்வேறு காரணிகள் 5 பிரிவுகளாக வகைப்படுத்தப்பட்டுள்ளன. அவை பின்வருமாறு:

அ. சூழியல் அல்லது இயற்கை காரணங்கள்

சூழியல் இடம் பெயர்வு இயற்கையான ஒன்றாகும். எரிமலை வெடிப்பு, நிலஅதிர்வு, வெள்ளம், வறட்சி போன்றவை இவ்வகை இடம் பெயர்வுக்கான முக்கிய காரணிகளாகும். இக்காரணிகள் மக்களைத் தங்கள் சொந்த இடங்களை விட்டு வெளியேறி புதிய பகுதிகளில் குடியேற உந்துகின்றன. நீர் வளம், பிரச்சனைகளற்ற நிலப்பகுதிகள், மாசற்ற நிலைகள் போன்றவை இடம் பெயர்பவர்களை ஈர்க்கும் சக்திகளாக உள்ளன.

ஆ. பொருளாதார காரணங்கள்

ஒரு பகுதியிலிருந்து மற்றொரு பகுதிக்கு மக்கள் இடம் பெயர்வதற்கு பொருளாதாரம் மிக முக்கிய காரணிகளில் ஒன்றாகும். இடம் பெயர்வின் அளவு மற்றும் திசைகளைப் பல்வேறு பொருளாதார காரணிகள் தீர்மானிக்கின்றன. வளமான வேளாண் நிலம், வேலைவாய்ப்பு, தொழில் நுட்ப வளர்ச்சி போன்ற பொருளாதார காரணிகள் புலம் பெயர்வோரை ஈர்க்கின்றன. பெருந்திரளான மக்களின் ஏழ்மை நிலை மற்றும் வேலைவாய்ப்பின்மை போன்றவை மக்களை தங்கள் பூர்வீக இடத்திலிருந்து சிறந்த வேலைவாய்ப்புகள் உள்ள இடங்களுக்கு வெளியேற வைக்கின்றன.

8th_Geography_TM_Unit_4.indd 133 12/3/2022 11:05:01 AM

இ. சமூக மற்றும் பண்பாட்டுக் காரணங்கள்

சமூக மற்றும் பண்பாட்டுக் காரணங்களும் இடம் பெயர்வில் தமது பங்கை வகிக்கின்றன.

இடம் பெயர்வுக்கான சமூக மற்றும் பண்பாட்டுக் காரணங்கள்

1. பெண்களின் திருமணத்திற்குப் பின் இடம்பெயர்வு.
2. புனித யாத்திரைகளுடன் தொடர்புடைய இடம்பெயர்தல் ஆகியவை சமூக கலாச்சாரப் பழக்கத்தினை அடிப்படையாக கொண்டவையாகும்.

ஈ. மக்கள் தொகை சார்ந்த காரணங்கள்

மக்கள் தொகையின் உட்கூறு பண்புகளான வயது, பாலினம், அதிக மற்றும் குறைந்த மக்கள் தொகை போன்றவை இடம் பெயர்வுக்கான முக்கிய காரணங்கள் ஆகும். இளைஞர்களின் இடம்பெயர்வு மற்ற பிரிவினரை விட அதிகம் என்பது நன்கு அறியப்பட்ட ஒன்றாகும். பெண்கள் பெரும்பாலும் திருமணத்திற்கு பிறகு புலம் பெயர்கிறார்கள். பொதுவாக அதிக மக்கள் தொகை ஒரு உந்து காரணியாகவும் குறைவான மக்கள்தொகை இழு காரணியாகவும் கருதப்படுகிறது.

> **உங்களுக்குத் தெரியுமா?**
>
> ஐரோப்பா, வட அமெரிக்கா, ஆஸ்திரேலியா, லத்தீன் அமெரிக்கா, கரீபியன் போன்ற நாடுகளில் புலம் பெயர்ந்தோரில் ஆண்களை விட பெண்களே அதிகம். ஆனால் ஆப்பிரிக்கா மற்றும் ஆசியா குறிப்பாக மேற்கு ஆசியாவில் பெண்களைவிட ஆண்கள் அதிகமாக புலம் பெயர்கிறார்கள்.
>
> ஆதாரம்: (சர்வதேச இடம்பெயர்தல் அறிக்கை, 2017)

உ. அரசியல் காரணங்கள்

பல்வேறு அரசியல் காரணங்களான காலனி ஆதிக்கம், போர்கள், அரசாங்கக் கொள்கைகள் போன்றவை காலங்காலமாக இடம்பெயர்தலில் முக்கியப் பங்கை வகித்து வருகின்றன. பழங்காலத்திலிருந்தே போர்கள் இடம் பெயர்வுக்கான குறிப்பிடத்தக்க காரணங்களில் ஒன்றாக இருந்துள்ளது.

இடம் பெயர்வின் வகைகள்

இடம் பெயர்வைப் பல வழிகளில் வகைப்படுத்தலாம். இவை பொதுவாக பின்வருமாறு வகைப்படுத்தப்படுகின்றது.

> **உங்களுக்குத் தெரியுமா?**
>
> 2017ஆம் ஆண்டில் சர்வதேச புலம்பெயர்வில் இந்தியா மிகப் பெரிய நாடாகவும் (17 மில்லியன்) இதைத் தொடர்ந்து மெக்சிகோவும் (13 மில்லியன்) உள்ளன.
>
> (ஆதாரம்: சர்வதேச புலம்பெயர்ந்தோர் அறிக்கை, 2017)

I. நிர்வாக எல்லை அடிப்படையில் இடம் பெயர்வுகள்

அ. உள்நாட்டு இடம் பெயர்வு

ஒரு நாட்டின் எல்லைக்குள் நிகழும் மக்களின் இடப்பெயர்வானது உள்நாட்டு இடம் பெயர்வு என அழைக்கப்படுகிறது. மேலும் உள்நாட்டு இடம் பெயர்வு என்பது இடம் பெயர்வு தொடங்கும் இடம், இடம் பெயர்வோர் சேருமிடம் ஆகியவற்றின் அடிப்படையில் நான்கு வகைகளாக பிரிக்கப்படுகிறது.

1. ஊரகத்திலிருந்து நகர்ப்புறம் நோக்கி இடம் பெயர்தல்

இவ்வகையில் மக்கள் ஊரகப் பகுதியிலிருந்து வளர்ந்து வரும் நகரம் மற்றும் மாநகரங்களுக்கு முக்கியமாக வேலைவாய்ப்பு, கல்வி மற்றும் பொழுதுபோக்கு வசதிக்காக இடம் பெயர்கிறார்கள்.

2. நகரத்திலிருந்து நகர்புறத்திற்கு இடம் பெயர்தல்

இவ்வகை இடம்பெயர்வானது ஒரு நகர்ப் பகுதியிலிருந்து மற்றொரு நகர்ப்பகுதிக்கு அதிக வருவாய் பெறும் பொருட்டு இடம் பெயர்கிறார்கள்.

8th_Geography_TM_Unit_4.indd 134 12/3/2022 11:05:01 AM

3. ஊரகத்தில் இருந்து ஊரகத்திற்கு இடம் பெயர்தல்

சாகுபடிக்கு ஏற்ற வளமான நிலம் மற்றும் பிற சமூக காரணிகளான திருமணம் போன்றவை இவ்வகை இடம்பெயர்தலைத் தீர்மானிக்கின்றன.

4. நகர்ப்புறத்திலிருந்து ஊரக பகுதிக்கு இடம் பெயர்தல்

நகர்ப்புற பிரச்சனைகளில் இருந்து விடுபடுவதற்கும் பணியில் இருந்து ஓய்வு பெற்ற பிறகு பூர்வீக இடங்களுக்கு திரும்புவதற்கும் மக்கள் நகர்புறத்திலிருந்து ஊரகப் பகுதிகளுக்கு இடம் பெயர்கிறார்கள்.

மேற்கூறிய நான்கு வகைகளில் ஊரகப் பகுதியிலிருந்து நகர்புறத்தை நோக்கி இடம் பெயர்தல் அதிகம் நடைபெறக்கூடிய ஒன்றாகும்.

ஆ. சர்வதேச இடம் பெயர்வு

ஒரு நாட்டின் எல்லைகளைக் கடந்து நடக்கும் இடம் பெயர்தல் சர்வதேச இடம்பெயர்தல் என்று அழைக்கப்படுகிறது.

II. இடம் பெயர்பவரின் விருப்பத்தின் அடிப்படையில் இடம் பெயர்தல்

1. தன்னார்வ இடம் பெயர்வு

தனி நபர்களின் விருப்பத்தின் பேரிலும், முயற்சி மற்றும் முன்னெடுத்தலின் மூலம் தங்களுடைய பொருளாதார நிலையை உயர்த்துவதற்கும் வசதியான இடத்தில் வாழ வேண்டும் என்ற விருப்பத்தின் அடிப்படையிலும் நடைபெறும் இடம்பெயர்தல் தன்னார்வ இடம் பெயர்வு எனப்படுகிறது.

2. தன்னார்வமில்லா (அ) கட்டாய இடம் பெயர்வு

மக்களின் விருப்பத்திற்கு மாறாக இடம்பெயர்வு நடைபெறுமாயின் அது அனிச்சையான இடம்பெயர்வு என அழைக்கப்படுகிறது. போர் போன்ற உந்து காரணியால் மக்கள் ஓர் இடத்திலிருந்து மற்றோர் இடத்திற்குக் குடிபெயர்தல் இவ்வகையைச் சார்ந்ததாகும்.

III. இடம் பெயர்ந்த இடத்தில் தங்கும் கால அளவின் அடிப்படையில் இடம் பெயர்தல்.

1. குறுகிய கால இடம் பெயர்வு

இந்த வகையான இடம் பெயர்வுகளில் குடியேறுபவர்கள் பூர்வீக இடத்திற்கு திரும்புவதற்கு முன் குறுகிய காலம் மட்டுமே குடிபெயர்ந்த இடத்தில் தங்குவர். இந்த இடம் பெயர்வு சில நாட்கள் முதல் சில மாதங்கள் வரை மட்டுமே இருக்கும்.

2. நீண்டகால இடம் பெயர்வு

இவ்வகையான இடம்பெயர்வு குடியேறுபவர்கள் குறைந்த சில வருடங்களாவது குடியேறிய இடத்தில் தங்கி இருப்பார்கள்.

மண்டல வாரியான உலக மக்கட்தொகை பங்கு மற்றும் சர்வதேச இடம் பெயர்வு – 2017

மண்டலத்தின் பெயர்	மொத்த மக்கள் தொகை	உலக மக்கள் தொகையில் சதவீதம்	சர்வதேச அளவில் புலம் பெயர்ந்தோர்	சர்வதேச புலம் பெயர்ந்தோர் சதவீதம்
ஆப்பிரிக்கா	12,56,268	16.6%	36,266	14.1%
ஆசியா	45,04,428	59.7%	1,05,684	41%
ஐரோப்பா	7,42,074	9.8%	61,191	23.7%
லத்தீன் அமெரிக்கா மற்றும் கரீபியன்	6,45,593	8.6%	37,720	14.6%
வட அமெரிக்கா	3,61,208	4.8%	4,413	1.7%
ஓசியானியா	40,691	0.5%	1,880	0.7%
அறியப்படாதவை	--	--	10,560	4.1
உலகம்	75,50,262	100%	2,57,715	100%

(ஆதாரம்: ஐக்கிய நாடுகள் சபையின் சர்வதேச இடம்பெயர்வு அறிக்கை, 2017)

8th_Geography_TM_Unit_4.indd 135 12/3/2022 11:05:01 AM

3. பருவகால இடம் பெயர்வு

இவ்வகையான இடம்பெயர்வில் பொதுவாக மக்களில் ஒரு குழுவினர் ஒரு குறிப்பிட்ட பருவ காலத்தின் போது தன் பூர்வீக இடங்களிலிருந்து குடிப்பெயர்ந்து அப்பருவத்தின் முடிவில் மீண்டும் திரும்பி விடுவர். கோடைகாலத்தில் மலைவாழ் இடங்களுக்குக் குடியேறும் மக்கள் மற்றும் வேளாண் தொழிலாளர்கள் பயிர் விதைக்கும் பருவங்களில் இடம் பெயர்வது இவ் வகையைச் சார்ந்ததாகும். 'மந்தை இடமாற்றம்' (Transhumance) என்பது மக்கள் கால்நடையுடன் இடம் பெயர்தலாகும். இதுவும் இவ்வகையைச் சார்ந்ததாகும்.

உங்களுக்குத் தெரியுமா?

சமீப காலங்களில் சர்வதேச அளவில் புலம்பெயர்வோர் எண்ணிக்கை வேகமாக அதிகரித்து வருகிறது. 2000இல் 173 மில்லியன்களாக இருந்த புலம்பெயர்ந்தோரின் எண்ணிக்கை 2010இல் 220 மில்லியன்களாகவும் 2017இல் 258 மில்லியன்களாகவும் அதிகரித்துள்ளது.

(ஆதாரம்: சர்வதேச புலம் பெயர்ந்தோர் அறிக்கை, 2017)

இடம் பெயர்தலின் விளைவுகள்

இடம் பெயர்வானது குடியேற்றம் மற்றும் குடியிறக்கம் ஆகிய இரு பகுதிகளையும் பாதிப்படையச் செய்கிறது.

இடம் பெயர்தலின் முக்கிய விளைவுகள் பின்வருமாறு:

அ. மக்கள் தொகை விளைவுகள்

மக்கட் தொகை கூறுகளான வயது மற்றும் பாலினத்தில் இவ்வகை இடம்பெயர்வு மாற்றத்தை ஏற்படுத்துகிறது. திருமணத்திற்குப் பிறகு நடைபெறும் பெண்களின் இடம்பெயர்வு அவர்களின் பூர்வீக பகுதியில் பாலின விகிதம் குறையவும் திருமணமாகி செல்லுமிடங்களில் பாலின விகிதம் அதிகரிக்கவும் வழி வகுக்கிறது. வேலை தேடி செல்லும் ஆண் தொழிலாளர்களின் இடம்பெயர்வு அவர்களின் பூர்வீக பகுதிகளில் சார்ந்து இருப்போரின் எண்ணிக்கையை அதிகப்படுத்துகின்றது.

ஆ. சமூக விளைவுகள்

பல்வேறு பகுதிகளில் இருந்து மக்கள் நகர்ப்புறத்தை நோக்கி இடம் பெயர்வதால் பன்முக சமுதாயம் உருவாக இவை வழி வகுக்கின்றன. இது மக்கள் குறுகிய மனப்பான்மையில் இருந்து விடுபட்டு தாராள மனப்பான்மைக்கு மாற ஏதுவான சூழலை உருவாக்குகின்றது.

இ. பொருளாதார விளைவுகள்

அதிக மக்கள் தொகை நிறைந்த பகுதிகளிலிருந்து குறைந்த மக்கள் தொகை கொண்ட பகுதிகளுக்கு அதிக மக்கள் இடம் பெயர்வதால் மக்கள் வள (Resource population) விகிதம் சமநிலையற்றதாகிவிடுகிறது. சில சமயங்களில் இவ்விரு பகுதிகளும் உகந்த (Optimum population) மக்கட் தொகையைக் கொண்ட பகுதிகளாக மாறவும் செய்கின்றன.

இடம்பெயர்வு ஒரு பகுதியிலுள்ள மக்கள் தொகையின் தொழில் கட்டமைப்புகளின் மீது தாக்கத்தை ஏற்படுத்துகின்றது. இதனால் அப்பகுதியின் பொருளாதாரம் பாதிக்கிறது. அறிவார்ந்த மக்கள் வெளியேறுதல் (Brain Drain) என்பது பின்தங்கிய நாடுகளைச் சார்ந்த தொழிற்திறன் கொண்ட மக்கள் சிறந்த வேலை வாய்ப்புகளைத் தேடி வளர்ந்த நாடுகளுக்குச் செல்வதைக் குறிப்பதாகும். இது இடம்பெயர்வின் ஒரு முக்கிய விளைவாகும். இதன் விளைவாக பூர்வீக பகுதிகள் பின்தங்கிய நிலையை அடைகின்றன. இது 'அறிவுசார் வெளியேற்ற விளைவு' (Back Wash Effect) என அழைக்கப்படுகிறது.

ஈ. சுற்றுச்சூழல் விளைவுகள்

ஊரகப்பகுதியில் இருந்து நகர்ப்புற பகுதிகளுக்குப் பெருமளவிலான மக்கள் இடம் பெயர்வதால் நகரங்களில் மக்கள் நெரிசலையும், வளங்கள் பற்றாக்குறையையும் ஏற்படுத்துகிறது. இவ்விடப்பெயர்வு நகர விரிவாக்கத்தை ஏற்படுத்துகிறது. நகர்ப்புற பகுதிகளின் மக்கள் பெருக்கம் காற்று, நீர் மற்றும் நிலம் ஆகியவை மாசு அடைய வழி வகுக்கிறது. குடிநீர் பற்றாக்குறை, போதிய குடியிருப்பின்மை, போக்குவரத்து நெரிசல் மற்றும் மோசமான வடிகால் அமைப்பு போன்ற சுற்றுச்சூழல் சவால்கள் நகர்புறங்களில் நிலவுகின்றன. குடியிருப்பு இடம்பற்றாக்குறை

8th_Geography_TM_Unit_4.indd 136 12/3/2022 11:05:01 AM

மற்றும் நிலமதிப்பு உயர்வு போன்றவை குடிசைவாழ் பகுதிகள் உருவாக வழி வகுக்கின்றன.

நகரமயமாதல்

நகரங்கள் மற்றும் மாநகரங்களில் வாழும் மக்கள் தொகையின் விகிதாச்சாரம் அதிகரிப்பதை நகரமயமாதல் எனப்படுகிறது.

நகரமயமாதல்

நகரமயமாதலுக்கான காரணங்கள்

நகரமயமாக்கம் மூன்று காரணிகளால் நிர்ணயிக்கப்படுகின்றன. அவை:

1. இயற்கையான மக்கள் தொகை வளர்ச்சி
2. ஊரகத்திலிருந்து நகர்புறங்களுக்கு இடம் பெயர்தல்.
3. ஊரகப் பகுதிகளை நகர்புறங்களாக மறுசீரமைப்பு செய்தல்.

தற்போதைய நகரமயமாக்கல் மக்கள் தொகையில் மாற்றங்கள், நிலப்பரப்பு, பொருளாதாரச் செயல்முறைகள் மற்றும் புவியியல் பகுதிகளின் பண்புகள் ஆகியவைகளும் நகரமயமாக்கலுக்கு காரணமாக உள்ளன.

2007ஆம் ஆண்டு வரலாற்றில் முதல்முறையாக உலகளாவிய நகர்ப்புற மக்கள்தொகை ஊரக மக்கள் தொகையை விட அதிகமானது. அதன் பிறகு நகர்புற மக்களின் சதவீதம் தொடர்ந்து அதிகரித்த வண்ணம் உள்ளது. (உலக நகரமயமாக்கல் விளக்கக் குறிப்பு, 2014)

உலக நகரமயமாக்கலின் தோற்றம் மற்றும் வளர்ச்சி

உலக நகரமயமாக்கலின் வளர்ச்சி ஒரு நீண்ட வரலாற்றைக் கொண்டுள்ளது.

பண்டைய காலம்

வரலாற்றுக்கு முந்தைய காலத்திலேயே நகர மையங்கள் உருவாகத் தொடங்கின. (10,000 ஆண்டுகளுக்கு முன்பு) இக்கால கட்டத்தில் தொடக்ககால மனிதர்கள் தாவரங்களையும் விலங்குகளையும் வளர்க்கத் தொடங்கினார்கள். இக்காலகட்டத்தில் நிரந்தரக் குடியிருப்புகள் வளர்ச்சியடையத் தொடங்கின. எகிப்து, கிரேக்கம் மற்றும் இந்திய ஆற்றுப்பள்ளத்தாக்குப் பகுதிகளில் வேளாண் சார்ந்த சமூகங்கள் தோன்றி அவை நகர்ப்புறம் சார்ந்த சமூகம் மற்றும் நகர மையங்களாக உருவாகின. உணவு தானிய மிகை உற்பத்தியே நகரமயமாக்கலுக்கு முக்கிய காரணமாக இருந்தது. மெசபடோமியாவின் உர் மற்றும் பாபிலோன், எகிப்தில் உள்ள தீப்ஸ் மற்றும் அலெக்சாந்திரியா, கிரேக்கத்தின் ஏதென்ஸ், இந்தியாவின் ஹரப்பா மற்றும் மொகஞ்சதாரோ ஆகியவை உலகின் வரலாற்றுக்கு முந்தைய காலத்தில் அமைந்த குறிப்பிடத்தக்க நகரங்களாகும்.

ஹரப்பா நகரம்

பண்டைய காலத்தில் நகர்ப்புற மையங்களின் அளவு மற்றும் எண்ணிக்கை, கிரேக்கர்கள் மற்றும் ரோமானியர்கள் ஆகிய இரு பெரும் காலனியாதிக்க காலங்களில் அதிகரிக்கத் தொடங்கியது. ஏழாம் நூற்றாண்டின் தொடக்கத்திலேயே ஏஜியன் கடலுக்கு அருகில் பல நகரங்கள் காணப்பட்டன. கிரேக்க காலனியாதிக்க காலங்களில் வர்த்தக விரிவாக்கம் பல நகரங்கள் மற்றும் மாநகரங்களை தோற்றுவித்தது.

8th_Geography_TM_Unit_4.indd 137 12/3/2022 11:05:01 AM

உங்களுக்குத் தெரியுமா?

இந்தியா, சீனா மற்றும் நைஜீரியா நாடுகளில் 2018–2050ஆம் ஆண்டுகளுக்கிடையிலான காலத்தில் உலக நகர்ப்புற மக்கள் தொகை வளர்ச்சியில் 35 சதவீதத்தைப் பெற்றிருக்கும் என எதிர்பார்க்கப்படுகிறது. இக்காலத்தில் இந்தியா 416 மில்லியன் நகர்ப்புற மக்கள் தொகையையும், சீனா 255 மில்லியன் மக்கள்தொகையையும்,நைஜீரியா159மில்லியன் மக்கள் தொகையையும் நகர்ப்புறவாசிகளாக அதிகரிக்கும் என கணக்கிடப்படுகிறது.

(உலக நகரமயமாக்கல் விளக்க குறிப்பு, 2018)

இடைக்காலம்

இது 11ஆம் நூற்றாண்டுக்குப் பிந்திய காலத்தைக் குறிக்கிறது இந்தக் காலக் கட்டத்தில் ஐரோப்பிய நாடுகளின் கடல் கடந்த வணிகம் அதிகரித்தது. இவ்வணிக வளர்ச்சி, பொருளாதார பின்னடைவு ஏற்பட்ட காலத்திற்குப் பின் ஐரோப்பிய நகரங்கள் மற்றும் மாநகரங்களின் மறுமலர்ச்சிக்கு வித்திட்டது. 13–ஆம் நூற்றாண்டின் இறுதியில் பாரிஸ், இலண்டன், ஜெனிவா, மிலன் மற்றும் வெனிஸ் ஆகிய முக்கிய நகரங்கள் ஐரோப்பாவில் காணப்பட்டன.

இடைக்கால நகரங்கள்

நவீன காலம்

இக்கால கட்டம் பதினேழாம் நூற்றாண்டில் இருந்து தொடங்குகிறது. இது நகரமயமாக்கலின் மூன்றாம் கட்ட வளர்ச்சியைக் குறிக்கிறது. பத்தொன்பதாம் நூற்றாண்டில் உருவான தொழிற்புரட்சி, நகரங்கள் மற்றும் மாநகரங்களின் வளர்ச்சியைத் துரிதப்படுத்தியது. ஐரோப்பியர்களின் நகர்ப்புற நாகரிகத்தினால் அதிக எண்ணிக்கையிலான புதிய நகரங்கள் வட அமெரிக்கா மற்றும் சோவியத் யூனியனில் உருவாயின. நவீன தொலைத் தொடர்பு, போக்குவரத்து மற்றும் பத்தொன்பதாம் நூற்றாண்டில் ஏற்பட்ட புதிய வணிக கடல்வழித்தடங்களின் வளர்ச்சி, வணிகத்தளங்களையும் நகர்ப்புற பகுதிகளையும் வலுப்படுத்தின.

நவீன கால நகரம்

சமீபத்திய நகரமயமாக்கலின் வளர்ச்சி ஆப்பிரிக்க கண்டத்தில் நன்கு தென்படுகிறது. 1930ஆம் ஆண்டிற்கு முன்னர் ஆப்பிரிக்காவில் உள்ள நகரங்கள் கடற்கரையை ஒட்டியே இருந்தன. ஆனால் தற்பொழுது ஐம்பது நகரங்கள் பத்து லட்சத்திற்கும் அதிகமான மக்கள் தொகையைக் கொண்டுள்ளன. கெய்ரோ, நைரோபி, மும்பசா, புலவையோ, டூலா, அபிடியான், லாகோஸ், அக்ரா, அடிஸ் அபாபா, லிப்போல்டுவில், லவுண்டா, கேப்டவுன், நட்டால், பிரிட்டோரியா போன்றவை ஆப்பிரிக்காவின் முக்கிய நகரங்களாகும். நவீன கால துரித நகரமயமாக்கம் உலகம் முழுவதிலும் மக்கள் தொகையை மறு பரவலுக்கு உட்படுத்துகிறது.

உங்களுக்குத் தெரியுமா?

1950இல் உலகின் மக்கள் தொகையில் 30 சதவீதம் நகர மக்கள் தொகையாகும். 2050இல் இவை 68 சதவீதமாக உயரும் எனக் கணக்கிடப்பட்டுள்ளது

(ஆதாரம் : 2018 உலக நகரமயமாக்கல் விளக்க குறிப்பு)

உலக நகரமயமாக்கல்

வ. எண்	கண்டங்கள்	நகர மக்கள் தொகை (%)
1	வட அமெரிக்கா	82
2	இலத்தீன் அமெரிக்கா மற்றும் கரீபியன் தீவுகள்	81
3	ஐரோப்பா	74
4	ஓசியானியா	68
5	ஆசியா	50
6	ஆப்பிரிக்கா	43
உலக சராசரி		**55**

(ஆதாரம் : உலக நகரமயமாக்கல் விளக்க குறிப்பு, 2018)

8th_Geography_TM_Unit_4.indd 138 12/3/2022 11:05:02 AM

அதிக மக்கள் தொகை கொண்ட உலகின் முதல் ஐந்து மாநகரங்கள்	
மாநகரத்தின் பெயர்	மக்கள் தொகை (மில்லியனில்)
1. டோக்கியோ (ஜப்பான்)	37
2. புது தில்லி (இந்தியா)	29
3. சாங்காய் (சீனா)	26
4. மெக்சிகோ நகரம் (மெக்சிகோ)	22
5. சா பாலோ (பிரேசில்)	22

(ஆதாரம் : உலக நகரமயமாக்கல் விளக்க குறிப்பு, 2018)

நகரமயமாதலின் விளைவுகள்

அ. குடியிருப்பு மற்றும் குடிசைப் பகுதிகள்

நகர்ப்புற பகுதிகளில் மக்கள் தொகை அதிகரிப்பதால் குடியிருப்புகளுக்கான இடம் பற்றாக்குறை மற்றும் குறிப்பிடத்தக்க அளவு தரமற்ற குடியிருப்புகள் உருவாக காரணமாகின்றன. இப்பிரச்சனைகள் வரும் ஆண்டுகளில் மேலும் அதிகரிப்பதற்கான வாய்ப்புகள் உள்ளன. விரைவான நகரமயமாக்கலால் குடிசைப் பகுதிகள் அதிக அளவில் உருவாகின்றன.

குடிசைப் பகுதிகள்

ஆ. மக்கள் நெரிசல்

நகர்ப்புற பகுதிகளில் அதிக மக்கள் நெரிசல் சுகாதாரமற்ற சுற்றுப்புற சூழலுக்கு வழி வகுக்கிறது. இது பல நோய்கள் மற்றும் கலவரங்களுக்குக் காரணமாகிறது.

இ. தண்ணீர் விநியோகம், வடிகால் மற்றும் சுகாதாரம்

உலகின் எந்த ஒரு நகரத்திலும் நாள் முழுவதுக்கும் தேவையான அளவிற்கு முறையாக நீர் விநியோகம் செய்யப்படுவதில்லை. கழிவுநீர் வடிகால் அமைப்பு மோசமான நிலையில் உள்ளது. நகர்ப்புற மற்றும் உள்ளாட்சி அமைப்புகளுக்குக் குப்பைகளை அகற்றுதல் பெரும் சவாலான பணியாக உள்ளது.

ஈ. போக்குவரத்து மற்றும் நெரிசல்

பல நகரங்களில் கூட்ட நெரிசலைக் கட்டுப்படுத்த போதுமான திட்டங்கள் இல்லாமை மற்றும் போதுமான போக்குவரத்து கட்டமைப்புகள் இல்லாமை, நகர்ப்புற பகுதிகளில் காணப்படும் பெரும் பிரச்சனையாகும். இரு சக்கர வாகனங்கள் மற்றும் மகிழுந்துகளின் எண்ணிக்கை அதிகரிப்பினால் போக்குவரத்து நெரிசல் மிகுந்து காணப்படுகிறது. வாகனப் பெருக்கம், காற்று மாசு அடைய காரணமாகின்றன.

உ. மாசடைதல்

சுற்றுச்சூழல் மாசடைவதற்கு நகரங்கள் மற்றும் மாநகரங்கள் முக்கியமான காரணிகளாகும். நகரங்களில் இருந்து வெளியேறும் கழிவுநீர் மற்றும் தொழிலகங்களிலிருந்து வெளியேற்றப்படும் சுத்திகரிக்கப்படாத கழிவுநீர் ஆகியன அருகில் உள்ள நீர் நிலைகளில் கலக்கின்றன. நகர்ப்புற மையங்களைச் சுற்றியுள்ள தொழிலகங்கள் புகை மற்றும் நச்சு வாயுக்களை வெளியிட்டு வளிமண்டலத்தை மாசுபடுத்துகின்றன.

மீள்பார்வை

- கிராமப்புறத்திலிருந்து நகர்ப்புறத்திற்கு இடம் பெயர்தல் அதிக அளவில் காணப்படும் இடம் பெயர்வாகும்.
- இயற்கைக் காரணிகள், பொருளாதாரக் காரணிகள், சமூக–கலாச்சாரம், மக்கள் தொகை மற்றும் அரசியல் காரணங்களினால் இடம்பெயர்வு நடைபெறுகிறது.
- கிராமங்களிலிருந்து நகர்ப்புறங்களுக்கு இடம்பெயர்தல் மக்கள் தொகையின் இயற்கையான வளர்ச்சி, கிராமப்புறங்களை நகர்ப்புறமாக மறுசீரமைத்தல் போன்றவற்றால் நகரமயமாதல் நடைபெறுகிறது.
- அதிக மக்கள் நெருக்கம், உள் கட்டமைப்பு வசதி பற்றாக்குறை, தொழில் வளர்ச்சி மற்றும் வாகனங்களின் எண்ணிக்கை அதிகரிப்பு போன்றவை நகரமயமாதலின் முக்கிய பிரச்சனைகளாகும்.

8th_Geography_TM_Unit_4.indd 139 12/3/2022 11:05:02 AM

கலைச்சொற்கள்		
இடம் பெயர்பவர்	ஓரிடத்திலிருந்து மற்றோரிடத்திற்கு இடம் பெயர்பவர்	Migrant
குடியேற்றம்	தன்னுடைய நாட்டிலிருந்து தனிநபர் அல்லது குழுவாக வேறொரு நாட்டினுள் குடியேறுதல்.	Immigration
குடியேறுபவர்	தன்னுடைய நாட்டிலிருந்து வேறொரு நாட்டிற்குக் குடியேறுபவர்.	Immigrant
குடிபெயர்தல்	தனிநபர் அல்லது குழுவாக வேறொரு புதிய நாட்டில் குடிபுகுதல்.	Emigration
குடி பெயர்பவர்	சர்வதேச எல்லைக்கு வெளியிலிருந்து ஒரு புதிய நாட்டில் குடி புகுபவர்கள்.	Emigrant
உந்து காரணிகள்	மக்கள் அவர்கள் வாழும் பகுதிகளிலிருந்து வேறு இடங்களுக்குச் செல்ல காரணமாக அமையும் காரணிகள்.	Push factors
இழு காரணிகள்	பிறப்பகுதிகளில் இருந்து ஓர் இடத்தை நோக்கி மக்களை ஈர்க்கும் காரணிகள்.	Pull factors
கால்நடையுடன் இடம்பெயர்வு	பருவகால இடம்பெயர்வு எனவும் அழைக்கப்படுகிறது. மக்கள் அவர்களின் கால்நடைகளுடன் காலநிலைக்கு ஏற்ப அல்லது குறிப்பிட்ட இடைவெளியில் சமவெளி மற்றும் மலைகளுக்கு இடையே இடம் பெயர்வது.	Transhumance

மதிப்பீடு

I சரியான விடையைத் தேர்ந்தெடுக்கவும்

1. மக்கள் ________ லிருந்து ________ க்கு நல்ல வேலை வாய்ப்பினைத் தேடி குடிபெயர்கின்றனர்.

   அ) கிராமப்புறத்திலிருந்து நகர்புறத்திற்கு

   ஆ) நகர் புறத்திலிருந்து கிராமப்புறத்திற்கு

   இ) மலையிலிருந்து சமவெளிக்கு

   ஈ) சமவெளியிலிருந்து மலைப்பகுதிக்கு

2. ஒரு நபர் சொந்த நாட்டில் இருந்து மற்றொரு நாட்டிற்கு இடம் பெயர்தல் ________ எனப்படுகிறது.

   அ) குடிபுகுபவர் ஆ) அகதி

   இ) குடியேறுபவர் ஈ) புகலிடம் தேடுபவர்

3. வளம் மிகுந்த வேளாண்மை நிலம் தேடி இடம் பெயர்தல் நடைபெறுவது ________

   அ) கிராமத்தில் இருந்து கிராமத்திற்கு

   ஆ) கிராமத்தில் இருந்து நகரத்திற்கு

   இ) நகரத்தில் இருந்து கிராமத்திற்கு

   ஈ) நகரத்தில் இருந்து நகரத்திற்கு

4. போரின் காரணமாக நடைபெறும் குடிபெயர்வு ________ ஐ சார்ந்தது.

   அ) மக்களியல் ஆ) சமூக மற்றும் கலாச்சாரம்

   இ) அரசியல் ஈ) பொருளாதாரம்

5. வரலாற்றுக்கு முந்தைய காலத்தில் நகரமயமாக்கலுக்கு முக்கிய காரணம் ________

   அ) மிகையான உணவு தானிய உற்பத்தி

   ஆ) கால்நடை வளர்ப்பு

   இ) மீன் பிடித்தல்

   ஈ) வேட்டையாடுதல்

8th_Geography_TM_Unit_4.indd 140 12/3/2022 11:05:02 AM

II கோடிட்ட இடங்களை நிரப்புக

1. நகரமயமாதல்________எண்ணிக்கையிலான காரணிகளால் தீர்மானிக்கப்படுகின்றன.
2. ________ என்பது கிராமப்புற பகுதிகளில் செயல்படும் முக்கிய உந்துக் காரணியாகும்.
3. இந்தியாவின் ________ மாநகரம் உலகிலேயே இரண்டாவது அதிக நகர மக்கள் தொகையைக் கொண்டது.
4. ஒரு நபர் தன்னார்வத்துடனும் விருப்பத்துடனும் நல்ல வசிப்பிடம் தேடி இடம் பெயர்தல் ________ இடம்பெயர்வு எனப்படும்.
5. நவீன காலத்தில் நகர்ப்புற வளர்ச்சி ________ வளர்ச்சியால் அதிகரிக்கிறது.

III பொருத்துக

1.	குடிபெயர்தல்	–	குடிபுகுபவர்
2.	குடியேற்றம்	–	வெளியேறுதல்
3.	இழுக்காரணி	–	வேலை வாய்ப்பின்மை
4.	உந்து காரணி	–	சமூக மற்றும் பண்பாட்டு இடம் பெயர்வு
5.	திருமணம்	–	வேலைவாய்ப்புகள்

IV சரியா / தவறா எனக் குறிப்பிடுக

1. குடிசைப்பகுதிகள் பொதுவாக பெருநகரங்களில் காணப்படுகிறது.
2. நவீன காலத்தில், ஒரே சமயத்தில் அதிக மக்களின் இடம்பெயர்வு நடைபெறுவதில்லை.
3. நகரமயமாக்கம் குறுகியக் கால வரலாறுடையது.
4. பெருநகரங்கள் மற்றும் நகரங்கள் சுற்றுச்சூழல் சீர்கேட்டிற்கு அதிக அளவு காரணமாக உள்ளன.
5. மேய்ச்சலுக்காக கால்நடைகளை இடமாற்றம் செய்வது, பருவகால இடம் பெயர்வு எனவும் அழைக்கப்படுகிறது

V கீழே கொடுக்கப்பட்டுள்ள கூற்றையும் காரணத்தையும் ஆராய்க

கூற்று: நகரமயமாதல் முக்கியமாக கிராமப்புற மக்கள் நகர்புறத்திற்கு இடம் பெயர்வதால் ஏற்படுவதாகும்.

காரணம்: கிராமத்தில் இருந்து நகரத்திற்கு இடம் பெயர்தல் முதன்மையான ஒன்றல்ல

அ. கூற்று சரி ஆனால் காரணம் தவறு

ஆ. கூற்று மற்றும் காரணம் இரண்டும் தவறு

இ. கூற்று மற்றும் காரணம் இரண்டும் சரி

ஈ. கூற்று தவறு மற்றும் காரணம் சரி

VI சுருக்கமாக விடையளி

1. 'இடம் பெயர்தல்' – வரையறு.
2. கிராமப்புறத்திலிருந்து நகர்ப்புறத்திற்கு இடம் பெயர்வதற்கான முக்கிய காரணங்கள் யாவை?
3. சுற்றுச்சூழல் அல்லது இயற்கையால் இடம் பெயர்வதற்கான காரணங்களைக் கூறுக.
4. இடம்பெயர்வுக்கான இழுகாரணிகளில் ஏதேனும் இரண்டினைக் குறிப்பிடுக.
5. நகரமயமாக்கம் என்றால் என்ன?
6. உலகில் அதிக மக்கள் தொகைக் கொண்ட நான்கு பெருநகரங்களைப் பட்டியலிடுக.

VII விரிவான விடையளி

1. இடம் பெயர்தலின் பல்வேறு வகைகள் யாவை? அவைகளை விளக்குக.
2. இடம் பெயர்தலுக்கான பல்வேறு காரணங்களை விரிவாக விளக்குக.
3. நகரமயமாக்கலினால் ஏற்படும் சவால்களை ஆராய்க.

VIII நில வரைபடப் பயிற்சி

உலக வரைபடத்தில் கீழ்க்கண்ட இடங்களைக் குறிக்கவும்.

1. டோக்கியோ	6. ஓசியானியா
2. புது தில்லி	7. இலத்தீன் அமெரிக்கா
3. மெக்சிகோ நகரம்	8. பாரிஸ்
4. ஷாங்காய்	9. இலண்டன்
5. சா–பாலோ	10. கெய்ரோ

IX செயல்பாடுகள்

1. உனது பகுதியில் உள்ள மக்கள் இடம் பெயர்தலுக்கான காரணங்களை ஆராய்ந்து பட்டியலிடுக.
2. நகரமயமாக்கலின் விளைவுகள் சார்பான தகவல்கள் மற்றும் படங்களைச் சேகரித்து தொகுப்புப் படம் (Album) ஒன்றைத் தயார் செய்க.

8th_Geography_TM_Unit_4.indd 141 12/3/2022 11:05:02 AM

மேற்கோள் நூல்கள்

1. Maurya, S.D. – 2012, *Human Geography*, Allahabad, Prayag Pustak Bhawan.
2. Husain, M. – 2012, *Human Geography*, Jaipur, Rawat Publications.
3. United Nations – 2014, *World Urbanisation Prospects 2014 Revision*, Highlights, Department of Economic & Social Affairs, Population Division.
4. United Nations – 2017, *International Migration Report 2017*, Highlights, Department of Economic & Social Affairs.
5. United Nations – 2018, *World Urbanisation Prospects 2018 Revision*, Key facts, Department of Economic & Social Affairs, Population Division.

இணையச் செயல்பாடு

இடம் பெயர்தல் மற்றும் நகரமயமாதல்

இந்த செயல்பாட்டின் மூலம் உலக நாடுகளின் இடம்பெயர்தல் தொடர்பான புள்ளி விவரங்களை அறியலாம்

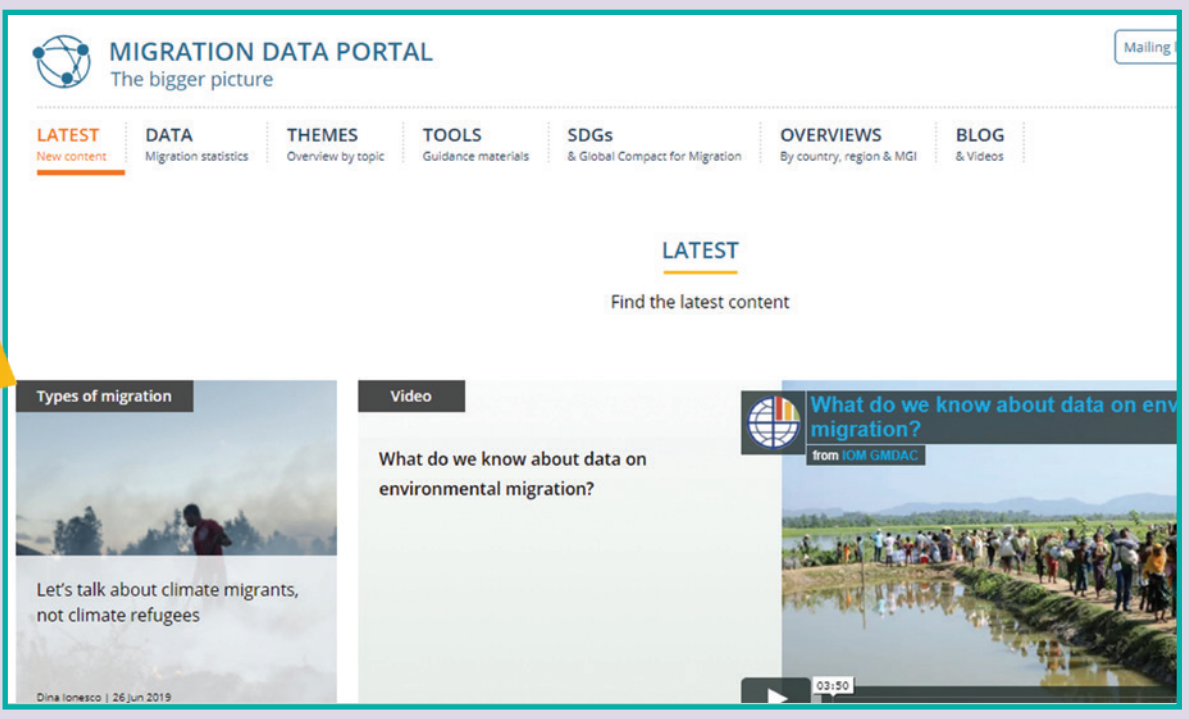

படி – 1 URL அல்லது QR குறியீட்டினைப் பயன்படுத்தி இச்செயல்பாட்டிற்கான இணையப்பக்கத்திற்கு செல்க.

படி – 2 இடது பக்க மெனுவில் சென்று எதாவது ஒரு நாட்டினை தேர்ந்தெடுக்கவும் (உதா. இந்தியா).

படி –3 இந்தியாவின் இடம் பெயர்தலை அறிந்து கொள்ள இடது பக்க மெனுவில் உள்ள" Timeline" ஐ நகர்த்தவும்.

உரலி: https://migrationdataportal.org/data?i=stock_abs_&t=2017

* படங்கள் அடையாளத்திற்கு மட்டும்

*தேவையெனில் Adobe Flash ஐ அனுமதிக்க

8th_Geography_TM_Unit_4.indd 142 12/3/2022 11:05:03 AM

அலகு – 5

இடர்கள்

கற்றலின் நோக்கங்கள்

- இடர், பேரிடர் மற்றும் பேரழிவு ஆகியவைகளின் பொருளினை தெரிந்து கொள்ளல்
- இடரின் முக்கிய வகைகள், அதன் காரணங்கள் மற்றும் விளைவுகளைப் பற்றி விவரித்தல்
- இடர்கள் மற்றும் அவை சார்ந்த தடுப்பு நடவடிக்கைகள் குறித்த விழிப்புணர்வை ஏற்படுத்துதல்

YW5PD

அறிமுகம்

ஆசிரியர் : காலை வணக்கம் மாணவர்களே.

மாணவர்கள் : காலை வணக்கம் ஐயா.

ஆசிரியர் : இன்று அனைவரும் பள்ளிக்கு வருகைப் புரிந்துள்ளீர்களா?

கிருத்திகா : சுருதி, இன்று பள்ளிக்கு வரவில்லை ஐயா.

ஆசிரியர் : அவள் ஏன் இன்று பள்ளிக்கு வரவில்லை?

பவித்ரா : ஐயா அவளுக்கு என்ன நேர்ந்தது என உங்களுக்கு தெரியாதா?

ஆசிரியர் : தெரியாது, அவளுக்கு என்ன நேர்ந்தது?

தேஷ்மிதா : ஐயா நேற்று அவள் வீட்டிற்கு திரும்பிக் கொண்டிருக்கையில் கனமழையின் காரணமாக ஒரு பெரிய மரக்கிளை அவள் மேல் விழுந்ததால் காயமடைந்துள்ளாள்.

ஆசிரியர் : ஐயோ கடவுளே! என்ன பரிதாபம் இது. மாணவர்களே! நீங்கள் அனைவரும் வெளியே செல்லும் போது ஹசார்டு (Hazard) – ஐத் தவிர்க்க மிகவும் கவனமாக இருக்க வேண்டும்.

கமலேஷ் : ஐயா ஹசார்டு என்றால் என்ன? ஹசார்டு என்றால் பெல்ஜியம் நாட்டு கால்பந்தாட்ட வீரர் Hazard – ஐக் குறிப்பிடுகிறீர்களா?

ஆசிரியர் : இல்லை இல்லை. ஹசார்டு என்பது புவியிலுள்ள உயிர் மற்றும் உயிரற்ற பொருட்களைப் பாதிக்கக்கூடிய நிகழ்வை இடர் (Hazard) என்கிறோம். இந்த இடரைப் பற்றி தெரிந்து கொள்வதற்கு இன்று சரியான நாள், இப்பாடத்தைப் பற்றி விளக்கமாக அறிவோம்.

இடர்கள்

இருபத்தியோராம் நூற்றாண்டின் தொடக்கத்தில் புவியானது முன் எப்போதும் இல்லாத அளவிற்கு அதிக எண்ணிக்கையிலான மக்கள் தொகை பெருக்கத்திற்கும் மக்கள் நலமாகவும் வளமாகவும் வாழ உறுதுணையாக இருந்தது. அதே சமயம் மக்கள் எதிர்கொள்ளும் ஆபத்துக்கள் குறித்த விழிப்புணர்வு குறைவாக இருந்தது. இவற்றை மனதில் கொண்டு இப்பாடமானது இடர்பாடுகள் குறித்து மாணவர்களிடையே விழிப்புணர்வு ஏற்படுத்தும் வகையில் தயாரிக்கப்பட்டுள்ளது.

8th_Geography_TM_Unit_5.indd 143 12/3/2022 11:05:21 AM

ஒரு பொருளோ, நபரோ, நிகழ்வோ அல்லது காரணியோ மக்கள் அல்லது கட்டமைப்புகள் மற்றும் பொருளாதார வளங்களுக்கு அச்சுறுத்தலாகவும், இழப்பு ஏற்படுத்தும் வகையிலும் அமைந்தால் அது இடர் (Hazard) எனப்படும். இவை சுற்றுச்சூழலில் மனிதனால் உருவாக்கப்பட்டவையாகவோ அல்லது இயற்கையான நிகழ்வாகவோ இருக்கலாம். "ஹசார்டு" (Hazard) என்ற சொல் ஹாசர்ட் (Hasart) என்ற பழமையான பிரெஞ்சு சொல்லிலிருந்து தோன்றியது. இதன் பொருள் ஒரு பகடை விளையாட்டு ஆகும். (அரபு மொழியில் அஸ்–சஹர் என்றும் ஸ்பானிய மொழியில் அசார் என்றும் அழைக்கப்படுகிறது).

ஒரு சமுதாயம் பல்வகையான இடர்களைச் சந்தித்து வந்தாலும் மிகவும் கடுமையாக பாதிக்கும் இடர்களின் அச்சுறுத்தல்களைப் பற்றி அப்பகுதி மக்கள் அறிந்திருப்பது மிகவும் அவசியமாகும்.

உங்களுக்குத் தெரியுமா?

மனித உயிர்கள் மற்றும் உடைமைகளுக்கு அச்சுறுத்தலை உருவாக்கும் இயற்கையான நிகழ்வுகள் இயற்கை இடர்கள் எனப்படும். பேரிடர்களின் எண்ணிக்கை மற்றும் தீவிரம் மனித செயல்களால் அதிகரிக்கிறது. இயற்கையான செயல்பாடுகள் அல்லது நிகழ்வுகள் மட்டுமே இயற்கை இடருக்கான காரணங்கள் அல்ல. மனிதர்கள் இயற்கையைக் கையாளும் தன்மையைப் பொருத்தும் அமைகிறது.

பேரிடர் என்பது வரையறுக்கப்பட்ட பகுதியில் ஒரு குறிப்பிட்ட காலத்தில் நிகழும் ஒரு அபாயகரமான நிகழ்வாகும். இவை உயிர், மற்றும் உடைமைகளுக்கு பெரும் அழிவை விளைவிப்பதுடன் மற்றவர்களின் உதவியை நாட வேண்டிய தேவை ஏற்படுகிறது.

பேரழிவு என்பது மிகப்பெரிய இழப்பினையும் அதிக செலவினத்தையும் உண்டாக்குவதோடு அவற்றிலிருந்து மீள்வதற்கு நீண்ட காலமும் தேவைப்படுகிறது.

இடர்களின் வகைகள்

சில இடர்கள் அடிக்கடி நிகழ்ந்து மக்களுக்கு அச்சுறுத்தலை அளிக்கின்றன. இடர்கள் பல வழிகளில் வகைப்படுத்தப்படுகின்றன. அவை:

I. நிகழ்விற்கான காரணிகளின் அடிப்படையிலான இடர்கள்

II. உருவாகும் அடிப்படையிலான இடர்கள்

I. நிகழ்விற்கான காரணிகளின் அடிப்படையிலான இடர்கள்

இடர்களை மூன்று பெரும் பிரிவுகளாக வகைப்படுத்தலாம்.

1. இயற்கையினால் ஏற்படும் இடர்கள்
2. மனித செயல்களால் உருவாக்கப்படும் இடர்கள்
3. சமூக–இயற்கை காரணிகளால் ஏற்படும் இடர்கள்

1. இயற்கையால் ஏற்படும் இடர்கள்

சில இடர்கள் இயற்கைக் காரணிகளால் உருவாகின்றன. இவ்வகையான இடர்களில் மனிதனின் பங்கு இருப்பதில்லை. நில அதிர்வு, வெள்ளப்பெருக்கு, சூறாவளி, புயல்கள், வறட்சி, நிலச்சரிவு, சுனாமி மற்றும் எரிமலை வெடிப்பு ஆகியவை இயற்கை இடர்பாடுகளுக்கு முக்கிய உதாரணங்களாகும்.

இயற்கையில் ஏற்படும் இடர்கள்

2. மனிதனால் உருவாக்கப்படும் இடர்கள்

இவ்வகையான இடர்கள் மனிதர்கள் விரும்பத்தகாத நடவடிக்கைகளின் மூலம் ஏற்படுகின்றன. தொழிற்சாலைகளின் இரசாயனக் கழிவு அல்லது எண்ணெய் கசிவு அல்லது திட்டமிடப்பட்ட செயல்பாடுகளின் விளைவாக ஏற்படும் விபத்துகள் மூலம் இவ்விடர்கள் ஏற்படுகின்றன. இத்தகைய இடர்கள் பாதுகாப்பு, உடல் நலம், மக்களின்

8th_Geography_TM_Unit_5.indd 144 12/3/2022 11:05:22 AM

நலன் மற்றும் உடைமைகளுக்கு பாதிப்புகளை ஏற்படுத்துகின்றன. குண்டுவெடிப்புகள், அபாயகரமான கழிவுகள், காற்று, நீர், நிலம் மாசடைதல், அணைக்கட்டு உடைதல், போர், உள்நாட்டுக் கலவரங்கள், தீவிரவாத செயல்கள் போன்றவை மனிதனால் உருவாக்கப்படும் இடர்களுக்கு சில உதாரணங்களாகும்.

மனிதனால் உருவாக்கப்பட்ட இடர்கள்

3. சமூக – இயற்கை இடர்கள் (பகுதி இயற்கை இடர்கள்)

இவ்வகை இடர்கள் இயற்கைச் சக்திகள் மற்றும் மனிதனின் தவறான செயல்பாடுகள் இணைவதன் மூலம் ஏற்படுகின்றன. சில உதாரணங்கள்:

- ஆறுகளின் நீர்ப் பிடிப்பு பகுதிகளில் உள்ள மரங்களைக் கண்மூடித்தனமாக அழிப்பதால் அடிக்கடி வெள்ளப்பெருக்கு மற்றும் வறட்சி ஏற்படுகின்றன.
- நிலச்சரிவுகள் இயற்கை காரணிகளால் ஏற்பட்டாலும் மலைப்பிரதேசங்களில் சாலைகள் அமைப்பது, வீடுகள் கட்டுவது, சுரங்கங்கள் தோண்டுவது, கனிமங்கள் மற்றும் கல்வெட்டியெடுத்தல் போன்றவை நிலச்சரிவின் பாதிப்பை அதிகப்படுத்துகின்றன.
- சதுப்பு நிலக்காடுகள் அழிக்கப்படுவதால் சூறாவளி அலைகள் கடற்கரைப் பகுதிகளில் இடரை உருவாக்குகின்றன.
- பெரும்பாலான பெரு நகரங்களில் பனிப்புகை ஒரு பெரும் பிரச்சனையாக உள்ளது.வாகனங்கள் மற்றும் தொழிற்சாலைகள் வெளியிடும் புகைகள், மரங்கள் மற்றும் நிலக்கரிகள் எரிப்பதனால் உண்டாகும் புகையானது மூடு பனியை உருவாக்குகிறது. இவை அடர் மூடுபனியுடன் சேர்வதால் பனிப்புகை உண்டாகி உடல் நலத்தை பாதிக்கின்றன.

II. உருவாகும் அடிப்படையில் ஏற்படும் இடர்கள்

இவ்வகையான இடர்களை எட்டு வகையாகப் பிரிக்கலாம். அவை :

1. வளி மண்டலத்தால் ஏற்படும் இடர்கள்

வெப்ப மண்டல சூறாவளி இடியுடன் கூடிய புயல், மின்னல், சுழல் காற்று, பனிச்சரிவு, வெப்ப அலைகள், மூடுபனி மற்றும் காட்டுத்தீ ஆகியவற்றால் ஏற்படும் இடர்கள்.

2. நிலவியல் சார்ந்த இடர்கள்

நில அதிர்வு, சுனாமி, நிலச்சரிவு, நிலம் அமிழ்தல் ஆகியவற்றால் ஏற்படும் இடர்கள்.

3. நீரியல் தொடர்பான இடர்கள்

வெள்ளப்பெருக்கு, வறட்சி, கடற்கரை அரிப்பு, சூறாவளி அலைகள் ஆகியவற்றால் ஏற்படும் இடர்கள்.

4. எரிமலை சார்ந்த இடர்கள்

எரிமலை வெடிப்பு மற்றும் லாவா வழிதல் ஆகியவற்றால் ஏற்படும் இடர்கள்.

5. சுற்றுச்சூழல் சார்ந்த இடர்கள்

மண், காற்று, நீர் மாசடைதல், பாலைவனமாதல், புவி வெப்பமடைதல் மற்றும் காடழிப்பு ஆகியவற்றால் ஏற்படும் இடர்கள்.

6. உயிரியல் சார்ந்த இடர்கள்

சின்னம்மை, பெரியம்மை, தட்டம்மை, பால்வினைத் தொற்று நோய்கள், எய்ட்ஸ், விஷ தேனீக்கள் ஆகியவற்றால் ஏற்படும் இடர்கள்.

7. தொழில்நுட்பம் சார்ந்த இடர்கள்

அபாயகரமான கழிவுப் பொருட்களால் ஏற்படும் இடர்கள், தீவிபத்து மற்றும் கட்டமைப்பு குறைபாடுகளால் ஏற்படும் இடர்கள் (பாலங்கள், சுரங்கங்கள், அணைகள், அணுக்கதிர்கள் மற்றும் கதிரியக்க விபத்துகள்)

8. மனித தூண்டுதலால் ஏற்படும் இடர்கள்

தீவிரவாதம், குண்டு வெடிப்பு, போக்குவரத்து விபத்துக்கள், போர் மற்றும் உள்நாட்டுக் கலவரம் ஆகியவற்றால் ஏற்படும் இடர்கள்.

8th_Geography_TM_Unit_5.indd 145 12/3/2022 11:05:23 AM

இந்தியாவின் முக்கிய இடர்கள்

1) நில அதிர்வு

நில அதிர்வு

நில அதிர்வு என்பது புவியின் மேலோட்டில் திடீரென ஏற்படும் கடும் அதிர்வாகும். இவ்வதிர்வு தோன்றும் மையத்திலிருந்து அனைத்து திசைகளிலும் தொடர்ச்சியான அதிர்வலைகளை ஏற்படுத்துகிறது.

ஒரு பகுதியினுடைய நிலவியல் அமைப்பு, கடந்த காலங்களில் ஏற்பட்ட நில அதிர்வு, அதிர்வலைகளின் தன்மைகள் ஆகியவற்றை அறிவியல் தொழில் நுட்பத்தைப் பயன்படுத்தி, நில அதிர்வு மண்டலங்கள் கண்டறியப்படுகின்றன. இதனடிப்படையில் இந்திய தரநிர்ணய நிறுவனம் இந்தியாவை 5 நில அதிர்வு மண்டலங்களாக வகைப்படுத்தியுள்ளது. மண்டலம் 2, மண்டலம் 3, மண்டலம் 4, மண்டலம் 5 (இந்தியாவின் எப்பகுதியும் மண்டலம் 1–இன் கீழ் வகைப்படுத்தப்படவில்லை).

இந்தியாவின் நில அதிர்வு மண்டலங்கள்

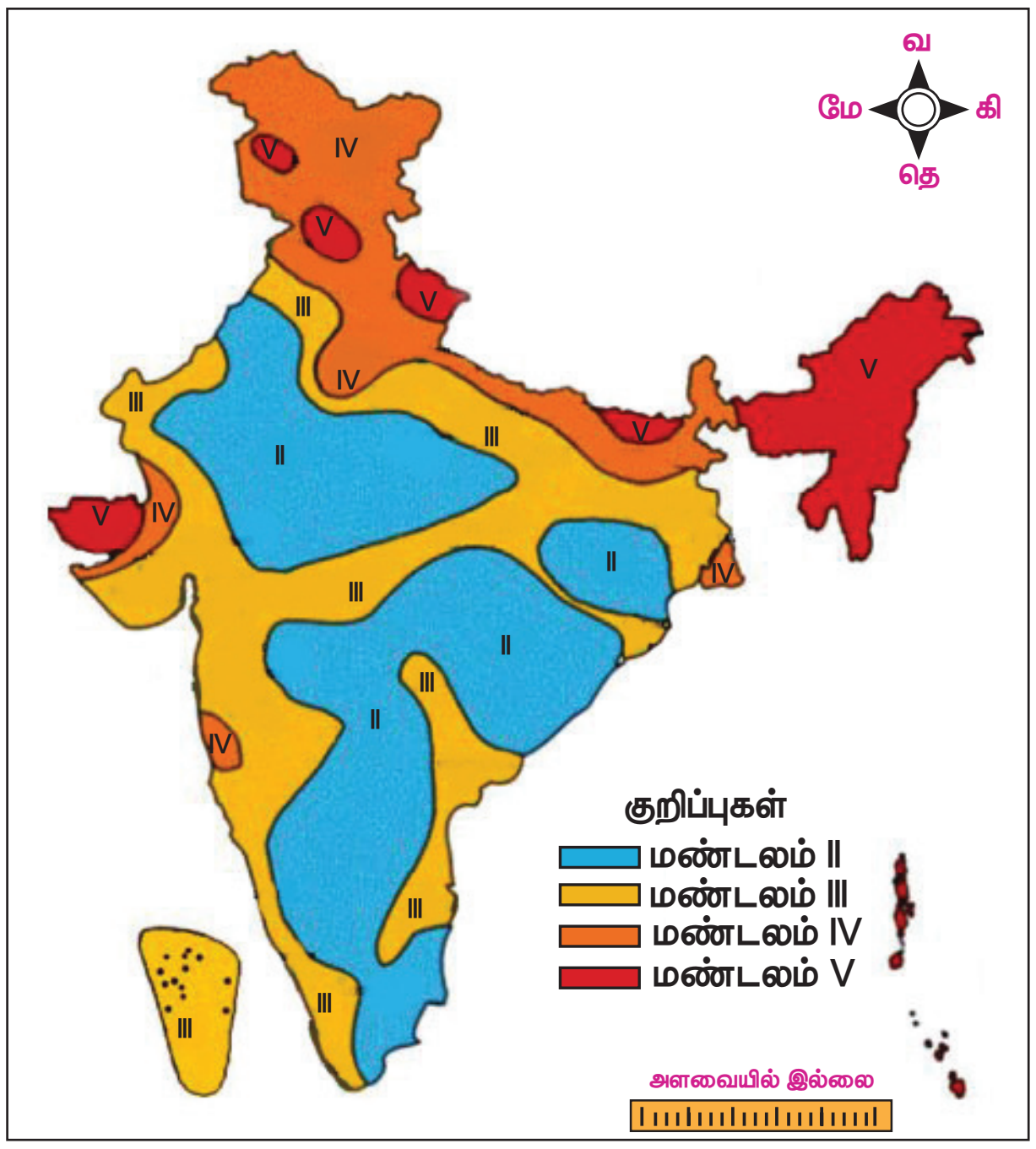

(ஆதாரம் : தேசிய பேரிடர் மேலாண்மை நிறுவனம், புதுடெல்லி)

இந்தியாவின் நில அதிர்வு மண்டலங்கள்

நில அதிர்வு மண்டலங்கள்	அபாயத்தன்மை	பகுதிகள்
மண்டலம் 5	மிக அதிகம்	வடகிழக்கு இந்தியா முழுமையும், ஜம்மு காஷ்மிரின் சில பகுதிகள், இமாச்சல பிரதேசம், உத்தரகாண்ட், குஜராத்தின் ரான் ஆப் கட்ச், வட பீகார் மற்றும் அந்தமான் நிக்கோபார் தீவுக் கூட்டங்கள்
மண்டலம் 4	அதிகம்	ஜம்மு–காஷ்மீரின் பிற பகுதிகள், இமாச்சலப்பிரதேசம் தேசிய தலைநகரமான புது டெல்லி, வட உத்திரப் பிரதேசம், பீகார், சிக்கிம், மேற்கு வங்கம், குஜராத்தின் சில பகுதிகள், மேற்கு கடற்கரையை ஒட்டி உள்ள மகாராஷ்டிராவின் சில பகுதிகள் மற்றும் இராஜஸ்தான்
மண்டலம் 3	மிதமானது	கேரளா, கோவா, இலட்சத்தீவுகள், உத்தரப் பிரதேசத்தின் சில பகுதிகள், குஜராத் மற்றும் மேற்கு வங்காளம், பஞ்சாபின் சில பகுதிகள், இராஜஸ்தான், மத்தியப்பிரதேசம், பீகார், ஜார்க்கண்ட், சட்டீஸ்கர், மகாராஷ்டிரா, ஒடிசா, ஆந்திரப்பிரதேசம், தமிழ்நாடு மற்றும் கர்நாடகா
மண்டலம் 2	குறைவு	நாட்டின் பிற பகுதிகள்

8th_Geography_TM_Unit_5.indd 146 12/3/2022 11:05:24 AM

2) வெள்ளப் பெருக்குகள்

கன மழை மற்றும் கடல்களில் உருவாகும் பேரலைகளால் புவியின் மேற்பரப்பின் ஒரு பகுதி மட்டும் நீரினால் மூழ்கடிக்கப்படுதல் வெள்ளப்பெருக்கு எனப்படுகிறது.

வெள்ளம்

வெள்ளப் பெருக்கு ஏற்படுவதற்கான முக்கிய காரணங்கள்

1. வானிலையியல் காரணிகள்

i) கனமழை
ii) அயன மண்டல சூறாவளிகள்
iii) மேகவெடிப்பு

2. இயற்கைக் காரணிகள்

i) பரந்த நீர் பிடிப்பு பகுதிகள்
ii) போதிய வடிகால் அமைப்பு இல்லாமை

3. மனிதக் காரணிகள்

i) காடழிப்பு
ii) வண்டல் படிவுகள்
iii) முறையற்ற வேளாண் முறைகள்
iv) முறையற்ற நீர் பாசன முறைகள்
v) அணைகள் உடைதல்
vi) நகரமயமாக்கல்

பின்வரும் நில வரைபடம் இந்தியாவில் வெள்ளப்பெருக்குப் பாதிப்பிற்கு உள்ளாகும் பகுதிகளைக் காட்டுகிறது. வடக்கு மற்றும் வடகிழக்கு இந்தியாவில் பஞ்சாப், ஹரியானா, உத்திரப்பிரதேசம், வட பீகார், மேற்கு வங்காளத்தை உள்ளடக்கிய கங்கைச் சமவெளி மற்றும் பிரம்மபுத்திரா பள்ளத்தாக்குப் பகுதிகள் வெள்ளப் பாதிப்பிற்கு உள்ளாகும் பகுதிகளாகும். கடலோர ஆந்திரம், ஒடிசா, குஜராத்தின் தென்பகுதி போன்றவை அடிக்கடி வெள்ளப் பாதிப்புக்கு உள்ளாகும் இதர பகுதிகளாகும்.

> **செயல்பாடு**
>
> வெள்ளப் பெருக்கிற்கு முன்பு, வெள்ளப் பெருக்கின் போது மற்றும் வெள்ளப் பெருக்கிற்கு பின்பு மேற்கொள்ளப்பட வேண்டிய நடவடிக்கைகள் குறித்து வகுப்பறையில் விவாதிக்கவும்.

இந்தியாவின் முக்கிய வெள்ளப்பெருக்குப் பகுதிகள்

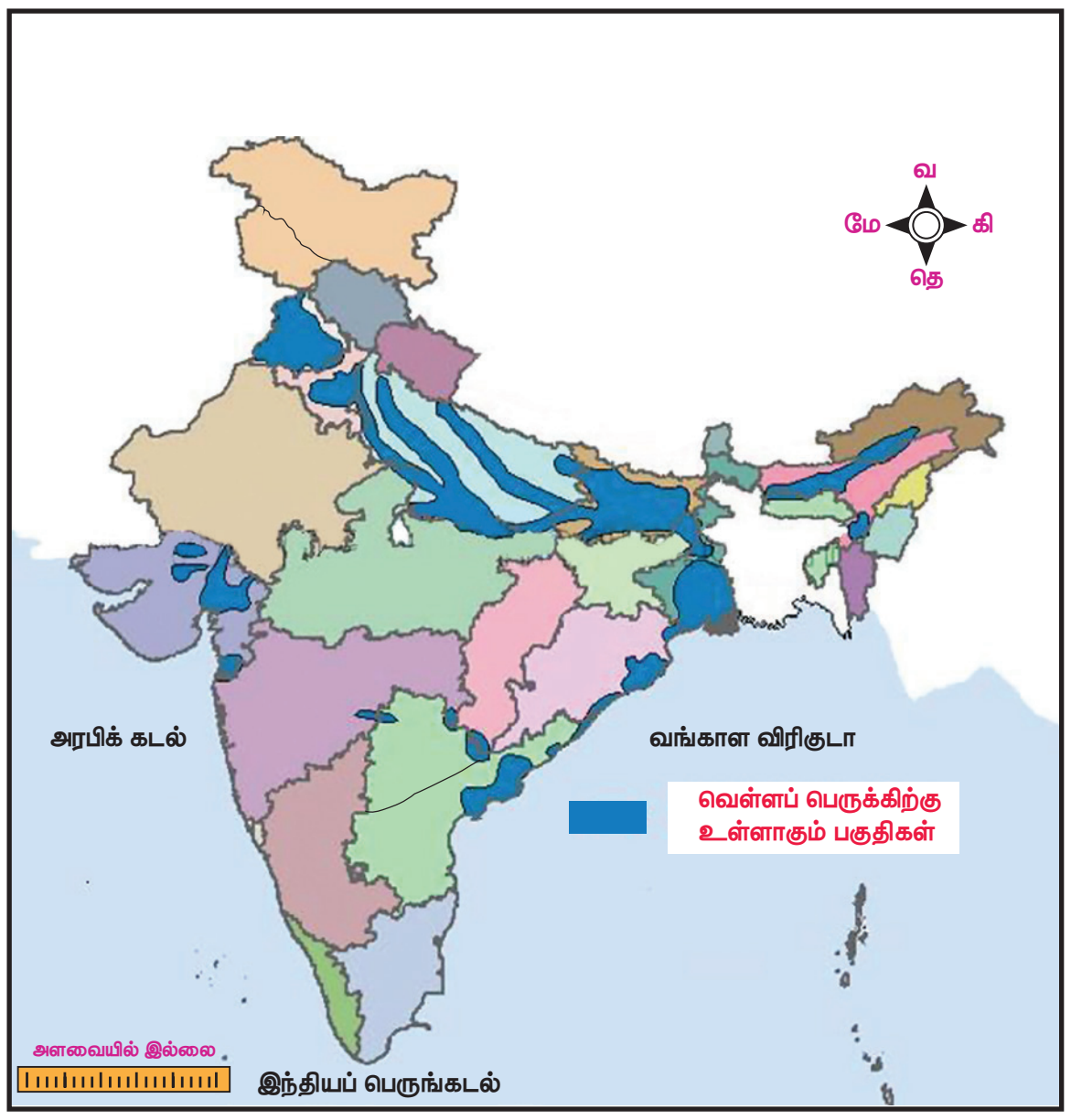

(**ஆதாரம்** : தேசிய நீரியியல் நிறுவனம், புதுடெல்லி)

3) சூறாவளிப் புயல்கள்

வளிமண்டலத்தில் குறைந்த காற்றழுத்த பகுதிகளில் சுழலும் வலிமையான காற்றே சூறாவளி புயல் காற்று எனப்படும். இப்புயல் காற்று வட அரைக்கோளத்தில் கடிகாரம் சுற்றும் திசைக்கு எதிர் திசையிலும் தென் அரைக் கோளத்தில் கடிகார திசையிலும் சுழல்கிறது.

அயன மண்டல சூறாவளிகள், கடும் காற்று, பேரலைகள் மற்றும் கனத்த மழையால் வெள்ளப் பெருக்கை ஏற்படுத்துகின்றன. காற்றின் வேகம் மணிக்கு 200 கிலோ மீட்டர் வரை வீசக்கூடும். மழைப்பொழிவு நாளொன்றுக்குச் சுமார் 50 சென்டிமீட்டர் வீதம் பல நாட்கள் தொடர்ச்சியாகப் பெய்யக்கூடும்.

வெப்ப மண்டல சூறாவளிகள் காரணமாக திடீரென்று ஏற்படும் கடல் நீர் எழுச்சியை 'புயல் அலை' என்கிறோம். இது ஆழமற்ற கடலோரப் பகுதிகளில் அதிகம் காணப்படுகிறது.

8th_Geography_TM_Unit_5.indd 147 12/3/2022 11:05:25 AM

புயல் அலைகளால் பாதிப்பிற்கு உள்ளாகும் கிழக்கு கடற்கரைப் பகுதிகள்:

i) ஒடிசாவின் வட பகுதி மற்றும் மேற்கு வங்காள கடற்கரை.

ii) ஓங்கோல் மற்றும் மசூலிப்பட்டினம் இடையே அமைந்துள்ள ஆந்திரக் கடற்கரை.

iii) தமிழகக் கடற்கரை (14 கடலோர மாவட்டங்கள், நாகப்பட்டினம் மற்றும் கடலூர் மாவட்டங்களில் புயல் அலைகளின் நிகழ்வுகள் மற்றும் பாதிப்புகள் அதிகம்.)

புயல் அலைகளால் பாதிப்பிற்கு உள்ளாகும் மேற்கு கடற்கரைப் பகுதிகள்:

இந்தியாவின் கிழக்குக் கடற்கரையை விட மேற்கு கடற்கரைப் பகுதியில் புயல் அலைகளின் பாதிப்பு குறைவாகும்.

i) மகாராஷ்டிரா கடற்கரை, வட ஹர்னை, தென் குஜராத்தை ஒட்டிய கடற்கரைப் பகுதி மற்றும் காம்பே வளைகுடாவைச் சுற்றியுள்ள கடற்கரைப் பகுதிகள்.

ii) கட்ச் வளைகுடாவை சுற்றியுள்ள கடலோர பகுதி

இந்தியாவில் சூறாவளிப் புயல்களால் பாதிக்கப்படும் பகுதிகள்

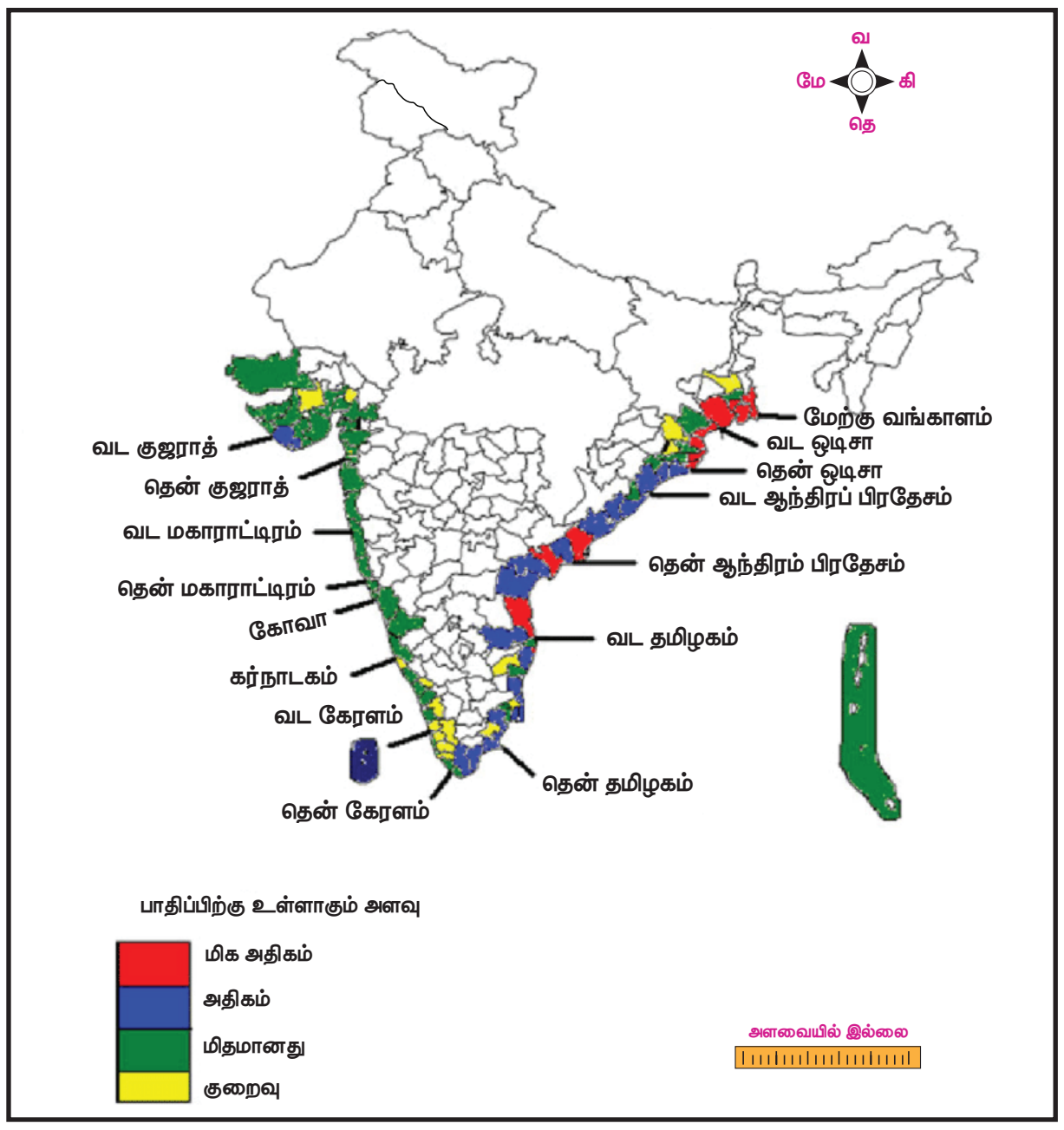

(**ஆதாரம்:** மொஹபத்ரா. பதிப்பு 2015)

4) வறட்சிகள்

வேளாண்மை, கால்நடை வளர்ப்பு, தொழில் துறை மற்றும் மக்களின் அத்தியாவசியத் தேவைகளை பூர்த்தி செய்ய இயலாத நீர் பற்றாக்குறையே வறட்சி என்று வரையறுக்கப்படுகிறது. மேலும் வறட்சியை மூன்று முக்கிய வகைகளாகப் பிரிக்கலாம்.

i) வானிலையியல் வறட்சி

ஒரு குறிப்பிட்ட காலத்தில் மழையின் அளவு ஒரு குறிப்பிடப்பட்ட அளவை விட குறைவாக பெய்திருக்கும் சூழலையே வானிலையியல் வறட்சி எனப்படும்.

ii) நீரியியல் வறட்சி

நீரோடைகள், ஆறுகள் மற்றும் நீர்த்தேக்கங்களில் நீரின் அளவு குறைந்து காணப்படும் சூழல் நீரியியல் வறட்சி எனப்படுகிறது. இவை இரண்டு வகைப்படும்: அவை அ) புவி மேற்பரப்பு நீர் வறட்சி ஆ) நிலத்தடி நீர் வறட்சி.

iii) வேளாண் வறட்சி

மழை பற்றாக்குறை காரணமாக வேளாண் பயிர்கள் பாதிப்புக்குள்ளாகும் நிலையைக் குறிப்பது வேளாண் வறட்சியாகும்.

வறட்சி

இந்தியாவில் பருவமழை பொய்ப்பதால் வறட்சி ஏற்படுகிறது. பொதுவாக இந்தியாவில் பருவமழை சமச்சீரற்ற நிலையில் பொழிகிறது. சில பகுதிகள் அதிக மழைப்பொழிவையும் மற்ற பகுதிகள் மிதமானது முதல் குறைவான மழைப்பொழிவையும் பெறுகின்றன. குறைவான மழை மற்றும் மிகக்குறைவான மழை பெறும் பகுதிகள் வறட்சியினால் பாதிக்கப்படுகின்றன.

தகவல் பேழை

நாட்டின் மூன்றில் ஒரு பங்கு பகுதிகள் வறட்சியினால் பாதிக்கப்படுகின்றன. இது சுமார் 16% நிலப்பரப்பையும், 12% மக்கள் தொகையையும் கடுமையாக பாதிக்கிறது. ஆண்டு மழைப்பொழிவு 60 சென்டி மீட்டருக்கும் குறைவான மழை பெறும்பகுதிகள் இந்தியாவில் வறட்சிக்கு உள்ளாகும் பகுதிகளாகும்.

8th_Geography_TM_Unit_5.indd 148 12/3/2022 11:05:26 AM

இந்தியா – வறட்சி பாதிப்பிற்குள்ளாகும் பகுதிகள்

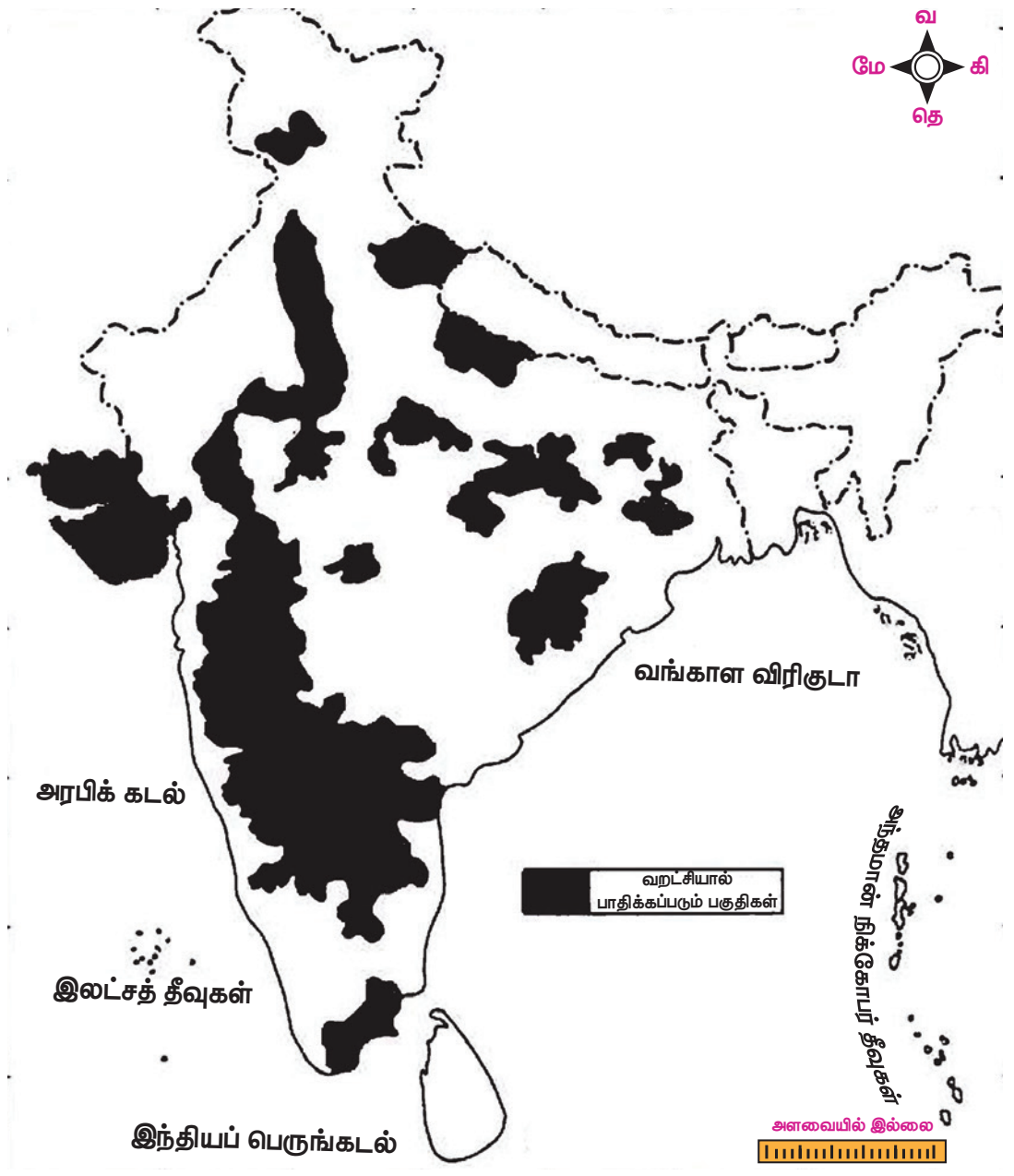

(ஆதாரம் : குல்லர், 2014)

அதிக வறட்சிக்கு உள்ளாகும் முக்கிய பகுதிகள்

1. அகமதாபாத் முதல் கான்பூர் வரை உள்ள வறண்ட மற்றும் அரை – வறண்ட பகுதிகள், கான்பூர் முதல் ஜலந்தர் வரை உள்ள பகுதிகள்
2. மேற்கு தொடர்ச்சி மலையின் காற்று மோதாப் பகுதிகள் வறண்ட பகுதிகளாக அமைந்துள்ளன.

5) நிலச்சரிவுகள்

நிலச்சரிவு என்பது புவியீர்ப்பு விசையினால் பாறைகள், மண் மற்றும் தாவரங்கள் மலைச்சரிவுகளில் கீழ் நோக்கி வேகமாகச் செல்லும் நகர்வைக் குறிப்பதாகும். பொதுவாக நிலச்சரிவுகள் திடீரென்று ஏற்படும் அரிதான நிகழ்வாகும். செங்குத்துச் சரிவு மற்றும் கனமழை நிலச்சரிவுகள் ஏற்பட முக்கியக் காரணங்களாகும். பலவீனமான தளர்ந்த நில அமைப்பு, காடழிப்பு, நில அதிர்வு, எரிமலை வெடிப்பு, சுரங்கம் தோண்டுதல், மலைப்பிரதேசங்களில் சாலைகள் மற்றும் இருப்புப் பாதைகளின் கட்டுமானம் ஆகியவை நிலச்சரிவுகள் ஏற்படுவதற்கான மற்ற காரணங்களாகும்.

இந்தியாவில் சுமார் 15 சதவீத நிலப்பரப்பு நிலச்சரிவு அபாயத்திற்கு உள்ளாகும் பகுதிகளாகும். இமயமலைச் சரிவுகள், மேற்கு தொடர்ச்சி மலைச்சரிவுகள் மற்றும் ஆற்றுப் பள்ளத்தாக்குப் பகுதிகளில் நிலச்சரிவுகள் அதிகம் காணப்படுகின்றன. தமிழ்நாட்டில் கொடைக்கானல் (திண்டுக்கல் மாவட்டம்) மற்றும் உதகமண்டலம் (நீலகிரி மாவட்டம்) பகுதிகள் நிலச்சரிவால் அதிகம் பாதிக்கப்படுகின்றன.

6) சுனாமி அலைகள்

கடலடி நில அதிர்வு, கடலடி நிலச்சரிவு மற்றும் எரிமலை வெடிப்பு ஆகியவற்றின் காரணமாக கடலில் ஏற்படும் பேரலைக்கு சுனாமி என்று பெயர். இப்பேரலைகள் பொதுவாக கடற்கரைப் பகுதிகளில் மணிக்கு சுமார் 640 கிலோ மீட்டரிலிருந்து 960 கிலோ மீட்டர் வேகம் வரை பயணிக்கிறது. கடலோர வாசிகளுக்கு சுனாமி பேராபத்தை ஏற்படுத்துகிறது.

உங்களுக்குத் தெரியுமா?

சுனாமி என்ற வார்த்தை ஜப்பானிய சொல்லான (சு – துறைமுகம்) (நாமி – அலை) என்பதிலிருந்து பெறப்பட்டது. அதாவது (துறைமுக அலை)

இந்திய பெருங்கடல் சுனாமி (2004)

2004இல் இந்தியப் பெருங்கடலில் ஏற்பட்ட சுனாமி டிசம்பர் 26, 2004ஆம் ஆண்டு உள்ளூர் நேரம் காலை 7.59 மணிக்கு ரிக்டர் அளவுகோலில் 9.1 ஆற்றல் கொண்ட நிலநடுக்கம் இந்தோனேஷியாவின் சுமத்ரா கடற்கரையைத் தாக்கியது. இதனால் ஏற்பட்ட சுனாமி 12 நாடுகளைத் தாக்கி 2,25,000 உயிர்களைப் பலிவாங்கியதுடன் இந்தோனேஷியா, இலங்கை, இந்தியா, தாய்லாந்து, சோமாலியா, மாலத்தீவுகள் போன்ற நாடுகளில் பெருத்த பொருட்சேதத்தையும் விளைவித்தது.

7) அபாயகர கழிவுகள்

சுற்றுச்சூழல் மற்றும் மனிதர்களுக்கு பெருத்த சுகாதார தீங்குகளை ஏற்படுத்தக்கூடிய நச்சுக் கழிவுகள் அபாயகர கழிவுகள் எனப்படுகிறது. கீழ்கண்டவை முக்கிய அபாயகரமான கழிவுகள் ஆகும்.

i) கதிரியக்க பொருள்கள்

அணுமின் நிலையங்களில் பயன்படுத்தப்படும் கருவிகள் மற்றும் பயன்படுத்தாத எரிபொருள் குழாய்கள்.

ii) இரசாயனங்கள்

செயற்கை கனிமப் பொருட்கள், கரிம உலோகங்கள், உப்புகள், அமிலங்கள், வெடி உப்பு, காரங்கள் எளிதில் தீப்பற்றக்கூடிய பொருட்கள் மற்றும் வெடி மருந்துகள்.

8th_Geography_TM_Unit_5.indd 149 12/3/2022 11:05:26 AM

உங்களுக்குத் தெரியுமா?

செர்னோபில் அணு பேரழிவு இடம் (பிரிப்யாட் அருகில்) அதிகாரபூர்வமான ஒரு சுற்றுலாத் தலமாகும்.

முன்னர்:

- செர்னோபில் (அப்போதைய சோவியத் யூனியன்) அணு உலை விபத்து ஏப்ரல் 26, 1986 அன்று நிகழ்ந்தது.
- 1945இல் ஹிரோஷிமா (ஜப்பான்) மீது வீசப்பட்ட அணுகுண்டை விட 400 மடங்கு அதிகமான கதிர்வீச்சு இதிலிருந்து வெளிப்பட்டது. இந்த விபத்து உலக வரலாற்றில் மிகப் பெரிய அணு விபத்தாக பதிவாகியுள்ளது.
- இப்பகுதியிலிருந்து 3 லட்சத்து 50 ஆயிரத்திற்கும் அதிகமான மக்கள் அப்புறப்படுத்தப்பட்டுள்ளனர். நிரந்தர மனித குடியேற்றத்திற்கு கடுமையான கட்டுப்பாடுகள் இன்றும் அந்த இடத்தில் பின்பற்றப்படுகிறது.

தற்பொழுது:

- தற்போது உக்ரைன் மற்றும் பெலாரசை உள்ளடக்கிய இப்பகுதியில் விபத்து நடந்து 33 ஆண்டுகளுக்கு பிறகு ஏராளமான விலங்குகள் மற்றும் இருநூற்றுக்கும் அதிகமான பறவை இனங்கள் வசிக்கின்றன.
- 2016ஆம் ஆண்டு உக்ரைன் நாடு 'கதிர் இயக்கவியல் சார் மற்றும் சுற்றுச்சூழல் உயிர்கோளப்பெட்டகம்' என அந்நாட்டு அரசாங்கத்தால் அறிவிக்கப்பட்டுள்ளது.

iii) மருத்துவ கழிவுகள்

பயன்படுத்தப்பட்ட ஊசிகள், கட்டுத் துணிகள், காலாவதியான மருந்து பொருட்கள்.

iv) எளிதில் தீப்பற்றக் கூடிய கழிவுகள்

கரிம கரைப்பான்கள், எண்ணெய்கள், குழைமையூட்டிகளாகிய உருக்குலைக்கும் பொருட்கள் (Plasticisers) மற்றும் கரிம சகதிகள்.

v) வெடிப்பொருட்கள்

படைக்கலன் உற்பத்தி கழிவு மற்றும் சில தொழிலக வாயுக் கழிவுகள்.

vi) குடிசார் அபாயகர கழிவுகள்

பூச்சிக்கொல்லிகள், எண்ணெய்க் கழிவுகள், வாகன மின்கலன்கள் மற்றும் குடிசார் மின்கலன்கள்.



அபாயகரமான கழிவுகள்

8) காற்று மாசு

காற்று பல வாயுக்களின் கலவையாகும். முக்கிய வாயுக்களான நைட்ரஜன் (78.09%) தாவரங்களுக்கு உரங்கள் தயாரிப்பதற்கும் காற்றை மந்தமாக்குவதற்கும் பயன்படுகிறது. ஆக்சிஜன் (20.95%) சுவாசிக்கவும், கார்பன் டை ஆக்சைடு (0.03%) ஒளிச்சேர்க்கைக்கும் பயன்படுகின்றன. வேறு சில வாயுக்களான ஆர்கான், நியான், ஹீலியம், கிரிப்டான், ஹைட்ரஜன், ஓசோன், ஜினான் மற்றும் மீத்தேன் போன்ற வாயுக்களும் வளிமண்டலத்தில் காணப்படுகின்றன. இவற்றைத் தவிர நீராவி மற்றும் துகள்கள் வளிமண்டலத்தில் உள்ளது.

உட்புற அல்லது வெளிப்புறக் காற்றானது சில வாயுக்கள் மற்றும் திடப் பொருட்களின் சேர்க்கையால் அதன் இயற்கை பண்புகள் மற்றும் காற்றின் சதவீதங்கள் மாறுபடுவதை காற்று மாசுபடுதல் என்கிறோம். காற்று மாசுப்படுத்திகளை முதன்மை மற்றும் இரண்டாம் நிலை மாசுபடுத்திகள் என வகைப்படுத்தலாம்.

முதன்மை மாசுபடுத்திகள் என்பது ஒரு மூலத்தில் இருந்து நேரடியாக வெளியேற்றப்படும் மாசுவாகும். இரண்டாம் நிலை மாசுபடுத்திகள் நேரடியாக வெளியேறப்படுவதில்லை ஆனால் மற்ற முதன்மை மாசுக்கள் வளிமண்டலத்தில் வினைபுரிவதால் உருவாகுபவை ஆகும்.

முதன்மை மாசுபடுத்திகள்

i) சல்பர் டைஆக்சைடு

ii) நைட்ரஜன் ஆக்சைடு

iii) கார்பன் டைஆக்சைடு

iv) துகள்ம பொருட்கள்

v) மற்ற முதன்மை மாசுபடுத்திகள்

8th_Geography_TM_Unit_5.indd 150 12/3/2022 11:05:27 AM

இரண்டாம் நிலை மாசுபடுத்திகள்

i) தரைமட்ட ஓசோன் ii) பனிப்புகை

9) நீர் மாசு

நீர் மாசடைதல்

நீர் மாசு என்பது நீரின் இயற்பியல், வேதியியல் மற்றும் உயிரியல் பண்புகளில் ஏற்படும் மாற்றம் ஆகும். இது மனித மற்றும் நீர்வாழ் உயிரினங்களுக்கு தீங்கு விளைவிக்கின்றது. இந்தியாவில் நீர் மாசடைதல் நீண்ட காலமாகவே அதிகமாக நடைபெற்று வருகிறது. மேற்பரப்பு நீர் மற்றும் நிலத்தடி நீர் நிலைகள் இரண்டுமே அதிக அளவில் மாசுபடுத்தப்பட்டு வருகின்றன.

இந்தியாவில் நீர் மாசடைதலுக்கான முக்கிய காரணங்கள்:

i) நகரமயமாக்கல்
ii) தொழிற்சாலை கழிவுகள்
iii) கழிவு நீர்
iv) வேளாண்மை நிலங்களில் நீர் வழிந்தோடல் மற்றும் முறையற்ற வேளாண் நடைமுறைகள்
v) கடல் நீர் உட்புகுதல்
vi) திண்மக் கழிவுகள்

தடுப்பு நடவடிக்கைகளின் அவசியம்

மனிதர்கள் மற்றும் பொருளாதார கட்டமைப்புகளுக்கு இயற்கை மற்றும் செயற்கை இடர்களால் ஏற்படும் தீய விளைவுகளிலிருந்து பாதுக்காக்க மேற்கொள்ளப்படும் நடவடிக்கைகள் தடுப்பு நடவடிக்கைகள் ஆகும்.

- தடுப்பு திட்டமிடல்: i) இடரைக் கண்டறிதல் ii) பாதிப்பை மதிப்பீடு செய்தல்.
- தாமதமான தடுப்பு நடவடிக்கைகள் பொருளாதார இழப்பை அதிகரிக்கக்கூடும் என்பதால் முன் திட்டமிடல் அவசியமானது.
- இந்தியா போன்ற வளரும் நாடுகளுக்கு இடர் தடுப்பு நடவடிக்கைகள் மிகவும் சவாலானதாக உள்ளது.

பேரழிவை உருவாக்கக் கூடிய புதிய ஆயுதமாக இயற்கை வளர்ந்து வருகிறது. நீங்கள் ஒப்புக்கொள்கிறீர்களா?

பெரும் சுற்றுச்சூழல் பேரழிவு காரணமாக இந்தியாவில் 2017 ஆம் ஆண்டு வரையிலான 10 ஆண்டுகளில் சுமார் 22,000 பேர் இறந்துள்ளனர்.

கடந்த 20 ஆண்டுகளில் (1998 – 2017) உலகில் சுமார் 5 இலட்சத்திற்கும் மேற்பட்ட மக்கள் மோசமான வானிலை நிகழ்வுகளால் இறந்துள்ளனர். இது ஜெர்மன் – வாட்ச் என்ற தனியார் அமைப்பு வெளியிட்டுள்ள உலகளாவிய காலநிலை இடர் குறியீட்டு அறிக்கையில் இவை கூறப்பட்டுள்ளது.

மீள்பார்வை

- மக்கள், பொருளாதார வளங்கள் அல்லது கட்டமைப்புகளை அச்சுறுத்தக்கூடிய நிகழ்வுகள் இடர்கள் எனப்படுகிறது.
- இடர்கள் மூன்று வகையாகும் அவை : இயற்கை இடர்கள், மனிதனால் உருவாக்கும் இடர்கள், சமூக – இயற்கை இடர்கள்.
- நில அதிர்வு, வெள்ளப்பெருக்கு, சூறாவளி, புயல்கள், வறட்சி, நிலச்சரிவு, சுனாமி, எரிமலை வெடிப்பு போன்றவை இயற்கை இடர்களாகும்.
- அபாயகரமான கழிவுகள், காற்று, நீர், நிலம் மாசடைதல், அணைகள் உடைதல், போர்கள் அல்லது உள்நாட்டுக் கலவரங்கள், தீவிரவாதம் போன்றவை மனிதர்களால் உருவாக்கப்பட்ட இடர்களாகும்.
- இயற்கை சக்திகள் மற்றும் மனிதனின் முறையற்ற செயல்கள் இணைந்து ஏற்படுத்தும் இடர்கள் சமூக – இயற்கை இடர்களாகும்.

8th_Geography_TM_Unit_5.indd 151 12/3/2022 11:05:27 AM

கலைச்சொற்கள்		
நில அதிர்வு	புவியின் மேலோட்டில் திடீரென ஏற்படும் கடுமையான அதிர்வு.	Earthquake
வெள்ளப்பெருக்கு	ஆறு, கால்வாய் அல்லது கடற்கரைப் பகுதிகளில் நீர்மட்டம் உயர்வதால் நிலப்பகுதி வெள்ளத்தில் மூழ்குதல்.	Flood
வறட்சி	வேளாண்மை, கால்நடை வளர்ப்பு, தொழில் துறை மற்றும் மக்களின் அத்தியாவசியத் தேவைகளைப் பூர்த்தி செய்ய இயலாத நீர்ப் பற்றாக்குறையே 'வறட்சி' என வரையறுக்கப்படுகிறது.	Drought
சுனாமி	கடலடி நிலஅதிர்வு, கடலடி நிலச்சரிவு, எரிமலை வெடிப்பு ஆகியவற்றின் காரணமாக கடலில் ஏற்படும் பேரலைக்குச் 'சுனாமி' என்று பெயர்.	Tsunami

மதிப்பீடு

I சரியான விடையைத் தேர்ந்தெடுக்கவும்

1. காற்றில் உள்ள நைட்ரஜன் சதவீதம் ________

   அ) 78.09% ஆ) 74.08%

   இ) 80.07% ஈ) 76.63%

2. இந்தியப் பெருங்கடலில் சுனாமி ________ ஆம் ஆண்டில் ஏற்பட்டது.

   அ) 1990 ஆ) 2004

   இ) 2005 ஈ) 2008

3. சுனாமி என்ற சொல் ________ மொழியிலிருந்து பெறப்பட்டது.

   அ) ஹிந்தி ஆ) பிரெஞ்சு

   இ) ஜப்பானிய ஈ) ஜெர்மன்

4. புவி மேற்பரப்பு நீருக்கு ________ எடுத்துக்காட்டாகும்.

   அ) ஆர்டீசியன் கிணறு ஆ) நிலத்தடி நீர்

   இ) அடிப்பரப்பு நீர் ஈ) ஏரிகள்

5. பருவமழை பொய்ப்பின் காரணமாக ________ ஏற்படுகிறது.

   அ) ஆவி சுருங்குதல் ஆ) வறட்சி

   இ) ஆவியாதல் ஈ.) மழைப்பொழிவு

II கோடிட்ட இடங்களை நிரப்புக

1. இடர்கள் ________க்கு வழிவகுக்கிறது.
2. நிலச்சரிவு ________ இடருக்கு ஓர் எடுத்துக்காட்டாகும்.
3. இடர்கள் தோன்றுவதன் அடிப்படையில் இடர்களை ________ வகைகளாகப் பிரிக்கலாம்.
4. தீவிரவாதம் ________ இடருக்கு ஓர் எடுத்துக்காட்டாகும்.
5. நைட்ரஜன் ஆக்சைடுகள் மனிதர்களைப் பாதிக்கும் ________ மாசுபடுத்திகளாகும்.
6. செர்னோபில் அணு விபத்து ________ ஆண்டில் நடைபெற்றது.

III பொருத்துக

	பட்டியல் – 1		பட்டியல் – 2
1	முதல்நிலை மாசுபடுத்திகள்	-	தீவிரவாதம்
2	அபாயகர கழிவுகள்	-	சுனாமி
3	நில அதிர்வு	-	காலாவதியான மருந்துகள்
4	வானிலையியல் வறட்சி	-	சல்பர் ஆக்சைடுகள்
5	மனிதனால் உருவாக்கப்படும் இடர்	-	மழைப் பொழிவு குறைதல்

8th_Geography_TM_Unit_5.indd 152 12/3/2022 11:05:27 AM

IV சுருக்கமாக விடையளி

1. 'இடர்' – வரையறு.
2. இடரின் முக்கிய வகைகள் யாவை?
3. அபாயகரக் கழிவுகள் பற்றி குறிப்பு எழுதுக.
4. நமது நாட்டில் வெள்ள பாதிப்புக்குள்ளாகும் முக்கியப் பகுதிகளைப் பட்டியலிடுக.
5. வறட்சியின் வகைகளைக் குறிப்பிடுக.
6. மலை அடிவாரப் பகுதிகளில் நாம் ஏன் குடியிருப்புகளை அமைக்க கூடாது?

V வேறுபடுத்துக

1. இடர் மற்றும் பேரிடர்
2. இயற்கை இடர்கள் மற்றும் மனிதனால் உருவாக்கப்படும் இடர்கள்
3. வெள்ளப்பெருக்கு மற்றும் வறட்சி
4. நில அதிர்வு மற்றும் சுனாமி

VI விரிவான விடையளி

1. காற்று மாசுபடுதலைப் பற்றி ஒரு கட்டுரை வரைக.
2. நில அதிர்வை வரையறுத்து அதன் விளைவுகளைப் பட்டியலிடுக.
3. நிலச்சரிவிற்கான காரணங்கள் குறித்து விரிவான விளக்கம் தருக.
4. நீர் மாசுபாட்டால் ஏற்படும் விளைவுகள் குறித்து விரிவாக விவாதிக்க.

VII செயல்பாடுகள்

1. நீங்கள் அடையாளம் கண்டுள்ள இடர்களின் பெயர்களை எழுதுக.
2. உங்கள் பகுதியில் அடிக்கடி மற்றும் எப்போதாவது ஏற்படும் இடர்களைப் பட்டியலிடுக.

அடிக்கடி நிகழும் இடர்		எப்போதாவது ஏற்படும் இடர்	
1		1	
2		2	
3		3	
4		4	
5		5	

3. தமிழ்நாடு வரைபடத்தில் 14 கடற்கரை மாவட்டங்களை வெவ்வேறு வண்ணங்களில் தீட்டவும்.

வ. எண்	பொருள்	உங்கள் பள்ளியைச் சுற்றியுள்ள இடர்கள்	உங்கள் குடியிருப்புப் பகுதிகளைச் சுற்றியுள்ள இடர்கள்	வீட்டிலிருந்து பள்ளிக்கு வரும் வழியில் நீங்கள் பார்க்கும் இடர்கள்
1	இடரை ஏற்படுத்தும் தொழிற்சாலை			
2	அதிக போக்குவரத்து நெரிசல் கொண்ட சாலைகள்			
3	உயரமான கட்டிடங்கள்			
4	எளிதில் தீப்பற்றக்கூடிய பொருட்கள்			
5	திறந்த வடிகால் / கழிவுநீர் தொட்டி			
6	மற்றவை			

மேற்கோள் நூல்கள்

1. Central Board of Secondary Education – *A Supplementary Text Book in Geography for Class XI* (2006). Natural Hazards and Disasters (Unit 11). Natural Hazards and Disaster Management, The Secretary, Central Board of Secondary Education, Delhi.
2. Keller, E.A. and DeVecchio, D.E. (2012). *Natural Hazards: Earth's Processes as Hazards, Disasters and Catastrophes* (3rd Edition), Pearson Prentice Hall, New Jersey.
3. Khullar, D.R. (2014). *India: A Comprehensive Geography*, Kalyani Publishers, New Delhi.

4. *Manual on Natural Disasters Management in India* (2001). National Centre for Disaster Management, Ministry of Home Affairs, Government of India, New Delhi.
5. Mohapatra, M., Mandal, G.S., Bandyopadhyay, B.K., Tyagi, A. and Mohanty, U.C. (2012). *Classification of Cyclone Hazard Prone Districts of India.* Natural Hazards, 63(3): 1601-1620.
6. Paul, B.K. (2011). *Environmental Hazards and Disasters: Contexts, Perspectives and Management,* John Wiley & Sons, Oxford.
7. Reed, S.B. (1997). *Introduction to Hazards (3rd Edition). Disaster Management Training Programme,* National Institute of Disaster Management, New Delhi.
8. Smith, K. and Petley, D.N. (2008). *Environmental Hazards: Assessing Risk and Reducing Disaster* (5th Edition), Taylor & Francis Group, London.
9. *The Report of High Powered Committee on Disaster Management* (2002). National Centre for Disaster Management, Indian Institute of Public Administration, New Delhi.

இணையதள வளங்கள்

1. http://www.amssdelhi.gov.in/tropicle_cyclones.htm
2. http://www.searo.who.int/topics/air_pollution/what-is-air-pollution.pdf?ua=1
3. https://germanwatch.org/en/cri
4. https://ndma.gov.in/en/landslides-zone-map.html
5. https://nidm.gov.in/safety_earthquake.asp
6. https://nptel.ac.in/courses/120108005/module9/lecture9.pdf
7. https://theconversation.com
8. https://www.downtoearth.org.in
9. https://www.thehindubusinessline.com/news/national/over-12-of-landmass-in-india-prone-to-landslides/article9728811.ece

8th_Geography_TM_Unit_5.indd 154 12/3/2022 11:05:27 AM

அலகு - 6

தொழிலகங்கள்

கற்றலின் நோக்கங்கள்

- தொழிலகங்களின் தன்மைகள் மற்றும் அவற்றின் முக்கியத்துவத்தைப் பற்றி புரிந்து கொள்ளல்
- பொருளாதார நடவடிக்கைகளின் பொதுவான வகைப்பாடுகளை புரிந்து கொள்ளல்
- தொழிலகங்களின் அமைவிடத்தின் காரணிகளை அடையாளம் காணல்
- தொழிலகங்களின் வகைகளைப் பற்றி அறிந்து கொள்ளல்

D1RLP

அறிமுகம்

அன்பு மற்றும் கபிலன் இருவரும் உங்களைப் போன்றே எட்டாம் வகுப்பில் படித்துக் கொண்டிருந்தனர். ஒருநாள் பள்ளியில் மாணவர்கள் விளையாடிக் கொண்டிருந்த போது மழை பெய்யத் துவங்கியது. அவர்கள் தங்கள் வகுப்பறையை நோக்கி ஓட ஆரம்பித்தனர். மழையினால் அன்பு அருகில் உள்ள ஒரு மரத்தின் கீழ் தங்க திட்டமிட்டு கபிலனை அழைத்தான். ஆனால் கபிலன் மரத்தை மின்னல் தாக்கக்கூடும் என வரமறுத்தான். கடைசியில் இருவரும் அவர்கள் வகுப்பறையை அடைந்தனர். வகுப்பறையில் ஒரு புதிய பருத்தியினாலான துவாளையைக் கண்டனர். அவர்கள் இருவரும் தங்களுடைய தலையைப் பருத்தியினாலான துவாளையைக் கொண்டு துடைத்து கொண்டனர். வகுப்பறையில் இருந்த மற்ற மாணவர்கள் ஆசிரியர் கொண்டு வந்த துவாளையை நீங்கள் இருவரும் ஈரமாக்கி விட்டீர்கள் என்றனர். எனவே ஆசிரியர் தங்களைத் கண்டிக்க கூடும் என நினைத்து ஆசிரியரைத் திருப்திபடுத்தும் பொருட்டு கபிலன் ஆசிரியரிடம் சில கேள்விகளைக் கேட்டான். "மேடம்", இந்த துவாளை மிகவும் அழகாகவும் வண்ணமயமாகவும் இருக்கிறது. இதை எங்கிருந்து வாங்கினீர்கள்?. இது எவ்வாறு உற்பத்தி செய்யப்படுகிறது?" என ஆசிரியரிடம் கேட்க, ஆசிரியர் மிகவும் மகிழ்ச்சியாக இவை எவ்வாறு மூலப்பொருட்களைக் கொண்டு தயாரித்து விற்பனை செய்யப்படுகிறது என்பதை விளக்கத் தொடங்கினார்.

தொழிற்சாலை

மூலப்பொருட்களை இயந்திரங்களின் மூலம் பயன்படுத்த கூடிய பொருட்களாக மாற்றப்படும் இடமே தொழிற்சாலை எனப்படும். பல்வேறு மூலப் பொருட்களை நேரடியாக மனிதர்களால் நுகர்வு செய்ய இயலாது. எனவே மூலப் பொருட்களை நுகர்வு பொருட்களாக மாற்ற வேண்டியது அவசியமாகிறது. மூலப்பொருட்களை ஒரு வடிவத்திலிருந்து நுகரும் வகையில் மற்றொரு வடிவத்திற்கு மாற்றுவதே உற்பத்தி தொழிற்சாலையின் சாராம்சம் ஆகும்.

தொழிற்சாலைகள், பொருளாதார நடவடிக்கையின் இரண்டாம் நிலை துறையாகும். அறிவியல் மற்றும்

VIII_Std_Geography_Unit 6.indd 155 04-03-2023 13:04:55

தொழில்நுட்பத்தின் மேம்பாடு மனிதனுக்கு மூலப்பொருட்களைப் பயன்படும் பொருட்களாக உருவாக்க உதவுகிறது. ஒரு நாட்டின் பொருளாதார வலிமை எப்பொழுதும் உற்பத்தி தொழிற்சாலைகளின் வளர்ச்சியால் அளவிடப்படுகிறது. எனவே உலகில் உள்ள எந்த ஒரு நாட்டின் பொருளாதார வளர்ச்சியும் தொழிலகங்களின் வளர்ச்சியை அடிப்படையாக கொண்டு மேம்பாடு அடைகிறது.

பொருளாதார செயல்பாடு

உற்பத்தி, விநியோகம், நுகர்வு அல்லது பணிகளில் ஈடுபடும் எந்த ஒரு செயலுமே பொருளாதார நடவடிக்கையாகும்.

பொருளாதார நடவடிக்கைகளின் அடிப்படை

பின்வருவன அனைத்தும் முக்கியமான அடிப்படைமற்றும்பொருளாதாரநடவடிக்கைகள் ஆகும்.

1. முதன்மை நிலை பொருளாதார நடவடிக்கைகள் (எடுத்துக்காட்டு – கச்சா பருத்தி உற்பத்தி)
2. இரண்டாம் நிலை பொருளாதார நடவடிக்கைகள் (எடுத்துக்காட்டு – நூற்பாலைகள்)
3. மூன்றாம் நிலை பொருளாதார நடவடிக்கைகள் (எடுத்துக்காட்டு – வர்த்தகம், போக்குவரத்து)
4. நான்காம் நிலை பொருளாதார நடவடிக்கைக்கள் (எடுத்துக்காட்டு – வங்கித்துறை)
5. ஐந்தாம் நிலை பொருளாதார நடவடிக்கைகள் (எடுத்துக்காட்டு – நீதித்துறை)

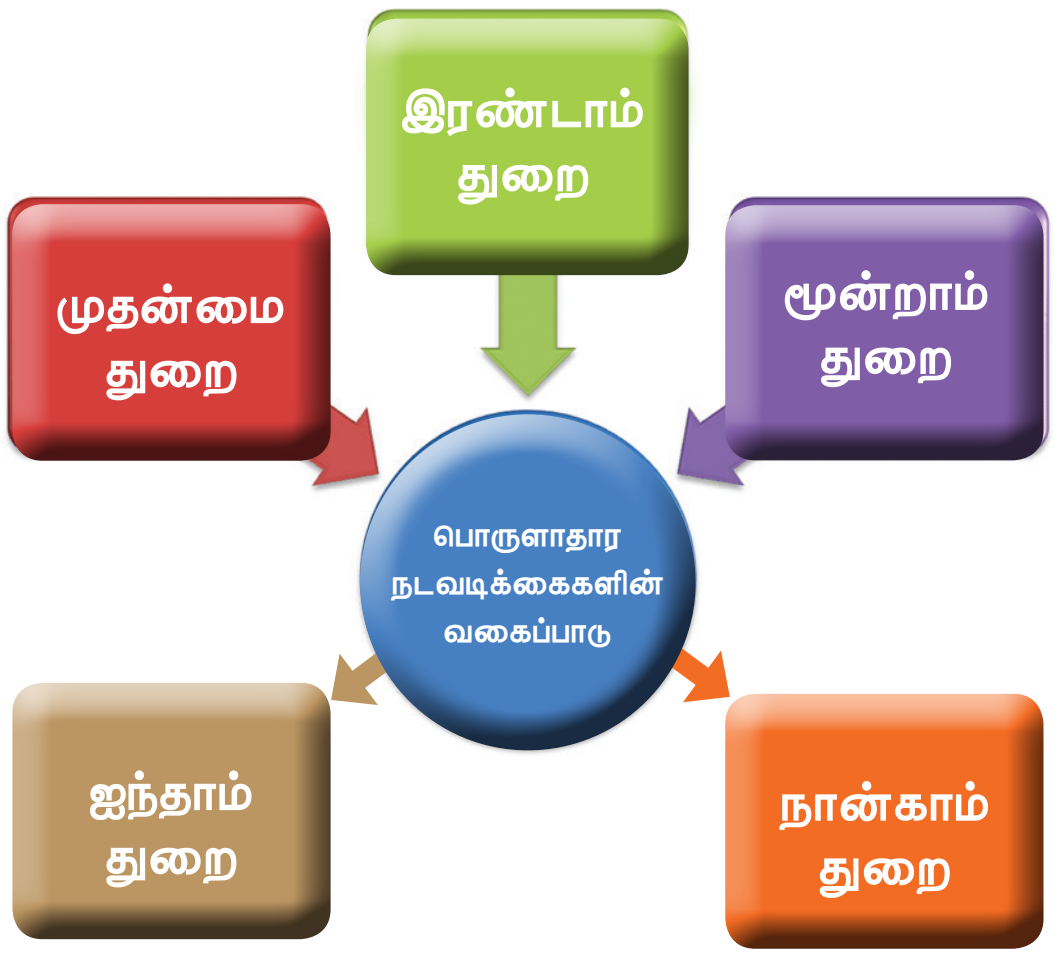

முதன்மை அல்லது முதல் நிலை பொருளாதார நடவடிக்கை (Primary Economic Activity): இவை பழங்காலம் முதலே தோன்றிய பொருளாதார நடவடிக்கைகளாகும். கால்நடை மேய்த்தல், வேட்டையாடுதல், உணவு சேகரித்தல், மீன் பிடித்தல், விவசாயம், சுரங்கத் தொழில், ஆகிய பொருளாதார நடவடிக்கைகளை உள்ளடக்கியது.

முதல் நிலை பொருளாதார நடவடிக்கை

இரண்டாம் நிலை பொருளாதார நடவடிக்கை (Secondary Economic Activity): இரண்டாம் நிலை பொருளாதார நடவடிக்கைகள் என்பது மூலப்பொருட்களை முறைப்படுத்துதல் மற்றும் உற்பத்தி மூலம் பயன்படும் பொருட்களாக மாற்றம் செய்வது ஆகும். எடுத்துக்காட்டாக அடுமனைகளில் மாவுகளை ரொட்டியாக மாற்றுவது. உலோகங்கள் மற்றும் நெகிழிகளை முறைப்படுத்தி வாகனங்களாக மாற்றும் தொழிற்சாலைகள் ஆகும்.

மூன்றாம் நிலை பொருளாதார நடவடிக்கை (Tertiary Economic Activity): மூன்றாம் நிலை பொருளாதார நடவடிக்கைகள் அத்தியாவசிய சேவைகளை அளிக்கிறது. மற்றும் தொழிலகங்கள் இயங்குவதற்கு உதவி புரிகின்றது. இவை சேவைகள் துறை

VIII_Std_Geography_Unit 6.indd 156 04-03-2023 13:04:57

என்றும் அழைக்கப்படுகிறது. போக்குவரத்து, நிதி பயன்பாடுகள், கல்வி, சில்லறை வர்த்தகம், வீட்டுவசதி, மருத்துவம் மற்றும் பிற சேவைகளை உள்ளடக்கியதாகும். நாம் பள்ளியின் மூலமாக கல்வி பயில்கிறோம். எனவே பள்ளி சேவைகளை அளிப்பதால் இது மூன்றாம் நிலை பொருளாதார நடவடிக்கைகளின் கீழ் வருகிறது.

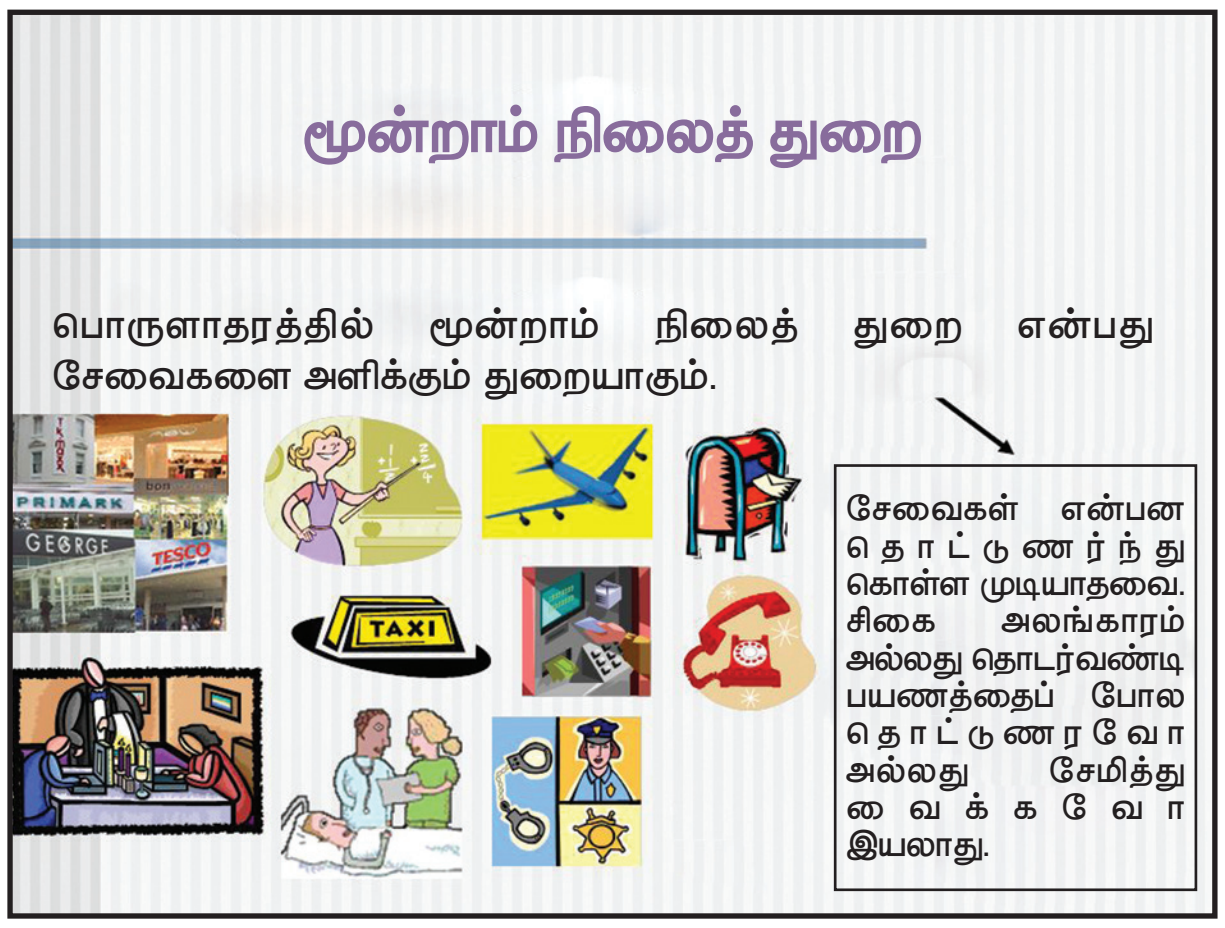

நான்காம் நிலை பொருளாதார செயல்பாடுகள்: இச்செயல்பாடு ஆராய்ச்சி மற்றும் பயிற்சி உள்ளிட்ட தகவல் உருவாக்கம் மற்றும் பரிமாற்றங்களுடன் தொடர்புடையதாகும். ஆகையால் இத்துறையைத் தகவல் நுட்பத் தொழிலகங்கள் என்று அழைக்கிறோம். தகவல் பரிமாற்றம் மற்றும் மின்னணு காட்சியானது தகவல் தொழில்நுட்ப முன்னேற்றத்தின் விளைவாக இந்த வியக்கத்தகு நிலையை அடைந்துள்ளது. தொலைக்காட்சி நிலையத்தில் இருந்து ஒளிபரப்பாகும் நிகழ்ச்சிகளை காண்பது நான்காம் நிலை பொருளாதார செயல்பாட்டிற்கு சிறந்த உதாரணம் ஆகும்.

உங்களுக்குத் தெரியுமா?

சேவைத்துறை இந்தியாவின் மிகப்பெரிய துறைகளில் ஒன்றாகும். தற்போது இந்தத் துறையானது இந்திய பொருளாதாரத்தின் முதுகெலும்பாக உள்ளது. இந்தியாவின் மொத்த உள்நாட்டு உற்பத்தியில் சுமார் 53 சதவீதம் பங்களிப்பினை அளிக்கிறது.

ஐந்தாம் நிலை பொருளாதார செயல்பாடுகள்: தொழிற்சாலைகள், வணிகம், கல்வி மற்றும் அரசாங்கங்களின் உயர்மட்ட அளவில் முடிவெடுக்கும் நிர்வாகிகளை குறிப்பிடுகின்றன. சுகாதாரம், பல்கலைக்கழகங்கள், அறிவியல் மற்றும் தொழில்நுட்பம் போன்ற துறைகளில் உள்ள உயர்மட்ட அதிகாரிகள் அல்லது நிர்வாகிகள் இவற்றில் அடங்குவர். உதாரணமாக நம்முடைய பெற்றோர்கள் வீட்டு குடிசார் பண்டம் அல்லது பொருட்கள் வாங்குவதற்கான முடிவினை அவர்களே எடுக்கின்றனர். அதே போல அமைச்சரவை குழுவினர் ஒரு மாநிலத்தின் பல்வேறு மக்கள் நலத்திட்டங்களைப் பற்றிய முடிவுகளை எடுக்கின்றனர்.

செயல்பாடு

ஏதேனும் ஒரு தொழிற்சாலையைப் பார்வையிட்டு அதன் அமைவிடத்திற்கு காரணமான சாதகமான காரணிகளைக் கண்டறியவும்.

தொழிலக அமைவிட காரணிகள்

தொழிற்சாலையின் அமைவிடங்கள் இயற்கையில் சிக்கலானவை. அவை அங்கு கிடைக்கக்கூடிய பல காரணிகளால் தீர்மானிக்கப்படுகின்றன. மூலப்பொருட்கள், நிலம், நீர், தொழிலாளர்கள், மூலதனம், ஆற்றல் வளம், போக்குவரத்து மற்றும் சந்தை இவைகள் தொழிலகங்களின் அமைவிடத்தை தீர்மானிக்கும் முக்கிய காரணிகளாகும்.

தொழிலக அமைவிட காரணிகள் இரு பிரிவுகளாக பிரிக்கப்பட்டுள்ளன.

1. புவியியல் காரணிகள் (Geographical Factors)
2. புவியியல் அல்லாத காரணிகள் (Non–Geographical Factors)

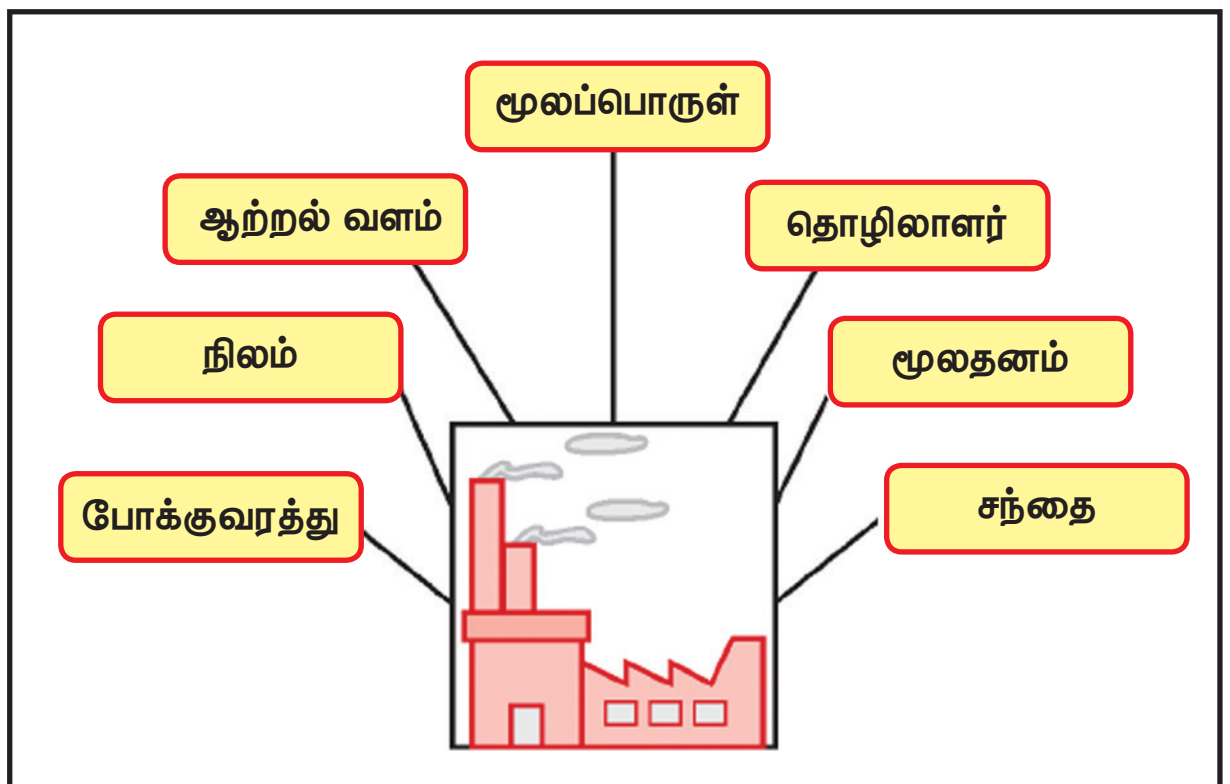

தொழிலக அமைவிட காரணிகள்

I. புவியியல் காரணிகள்

1. **மூலப்பொருட்கள்** (Raw Materials): அதிக அளவு மூலப்பொருட்கள் மற்றும் எடை இழக்கும் பொருட்களை நீண்ட தூரத்திற்குக் கொண்டு செல்ல முடியாது. எனவே இரும்பு மற்றும் எஃகு மற்றும் சர்க்கரை தொழிலகங்கள் முறையே இரும்புத்தாது மற்றும் கரும்பு கிடைக்கும் இடத்திற்கு அருகிலேயே அமைந்துள்ளன. சேலம் இரும்பு எஃகு ஆலையானது இரும்பு தாது கிடைக்கும் கஞ்சமலைக்கு அருகிலேயே அமைந்துள்ளது. சர்க்கரைத் தொழிற் சாலைகள் கரும்பு விளையும் இடங்களுக்கு அருகிலேயே அமைந்துள்ளன.

2. **ஆற்றல் வளம்** (Power): எரிசக்தி பெரும்பாலான தொழிலகங்களை இயக்குவதற்கு அடிப்படை மற்றும் அவசியமானதாகும். நிலக்கரி, தாது எண்ணெய் மற்றும் நீர் போன்ற மரபுசார் மூலங்களிலிருந்து எரிசக்தி பெரும்பாலும் உற்பத்தி செய்யப்படுகிறது. எனவே தொழிற்சாலைகளின் மின் தேவையைப் பூர்த்தி செய்யும் பொருட்டு மேற்கண்ட ஏதேனும் ஒரு வளம் அமைந்துள்ள இடங்களுக்கு அருகாமையில் தொழிற்சாலைகள் அமைக்கப்படுகின்றன.

3. **மனித சக்தி** (Labour): தொழிலாளர் சார்ந்த தொழில்களுக்கு மலிவான மற்றும் திறமையான தொழிலாளர்கள் அவசியமாகும். எடுத்துக்காட்டு தேயிலை தொழிற்சாலை.

4. **போக்குவரத்து** (Transport): மூலப்பொருட்களைத் தொழிலகங்களுக்குக் கொண்டு செல்வதற்கும் முடிக்கப்பட்ட பொருட்களை மீண்டும் சந்தைக்கு அனுப்பவும் போக்குவரத்துத் தேவைப்படுகிறது. எப்பொழுதும் எளிதான போக்குவரத்துத் தொழிலகங்களின் அமைவிடத்தைத் தீர்மானிப்பதில் முக்கிய பங்கு வகிக்கிறது. எனவே நீர்வழிகள், சாலை வழிகள் மற்றும் இருப்புப் பாதைகளின் வலைப்பின்னல் கொண்ட பகுதிகள் சிறந்த தொழில் மையங்களாகத் திகழ்கின்றன.

5. **சேமிப்பு மற்றும் கிடங்கு** (Storage and Warehousing): உற்பத்தியின் முடிவில் முடிவுற்ற பொருள்கள் சந்தையைச் சென்றடைய வேண்டும். எனவே முடிக்கப்பட்ட பொருட்கள் சந்தைக்கு எடுத்துச் செல்லும் வரை பொருத்தமான கிடங்குகளில் சேமித்து வைக்க வேண்டும்.

6. **நிலத்தோற்றம்** (Topography): ஒரு தொழிற்சாலையை நிறுவுவதற்கு தேர்ந்தெடுக்கப்பட்ட இடம் சமமானதாக இருக்க வேண்டும். இது பல்வேறு போக்குவரத்து சாதனங்களைப் பயன்படுத்தி கொள்ள ஏதுவாக இருக்கும்.

7. **காலநிலை** (Climate): ஒரு பகுதியில் நிலவும் காலநிலை, தொழிலகங்களின் அமைவிடத்தை தீர்மானிக்கும் முக்கிய காரணிகளில் ஒன்றாகும். தொழிற்சாலை வளர்ச்சிக்கு தீவிர காலநிலை பொருத்தமானது அல்ல. மேலும் ஒவ்வொரு தொழிலகங்களுக்கும் ஒரு குறிப்பிட்ட காலநிலை தேவைப்படுகிறது.

   எடுத்துக்காட்டாக பருத்தி நெசவாலை தொழிலுக்குக் குளிர் – ஈரப்பத காலநிலை சிறந்ததாகும். எனவே கோயம்புத்தூர் மற்றும் திருப்பூர் போன்ற பகுதிகளில் இவ்வகையான காலநிலை நிலவுவதால் பருத்தி நெசவு தொழிலகங்கள் இம்மண்டலத்தில் அமைந்துள்ளன.

8. **நீர்வளம்** (Water Resources): நீர்வளம் தொழிற்சாலைகளின் அமைவிடத்தை நிர்ணயிக்கும் மற்றொரு முக்கியமான காரணியாகும்.இக்காரணத்தினால்ஆறுகள், கால்வாய்கள் மற்றும் ஏரிகளுக்கு அருகே பல தொழிலகங்கள் நிறுவப்பட்டுள்ளன. இரும்பு மற்றும் எஃகு தொழிற்சாலை, ஜவுளி தொழிற்சாலை மற்றும் இரசாயன தொழிற்சாலைகளின் செயல்பாட்டிற்கு ஏராளமான நீர் தேவைப்படுகிறது.

கண்டறிக

இந்தியாவில் உள்ள தொழிற்சாலைகள் சீரற்ற பரவலை கொண்டுள்ளன. காரணங்களைக் கண்டறியவும்.

VIII_Std_Geography_Unit 6.indd 158 04-03-2023 13:05:00

II. புவியியல் அல்லா காரணிகள்

1. **மூலதனம்** (Capital): தொழிலகங்கள் நிறுவுவதற்கு மூலதனம் அல்லது அதிக முதலீடு தேவைப்படுகிறது. மூலதனம் இல்லாமல் எந்த ஒரு தொழிற்சாலையையும் நிறுவ முடியாது.

2. **கடன் வசதி** (Availablity of Loans): பெரும்பாலும் தொழில் முதலீட்டாளர்களுக்கு தொழில் தொடங்க போதுமான நிதி இருக்க வாய்ப்பில்லை. எனவே தொழிற்சாலை தொடங்கும் பொருட்டு முதலீட்டாளர்கள் கடன் வசதியை நாடுவர். எனவே கடன் மற்றும் காப்பீடு வழங்கும் நிறுவனங்களின் சேவை தேவைப்படுகிறது.

3. **அரசாங்கக் கொள்கைகள் / விதிமுறைகள்** (Government Policies / Regulations): தொழிலகங்களின் அமைவிடத்தை நிர்ணயிக்கும் மற்றொரு முக்கிய காரணி அரசாங்கக் கொள்கைகள் ஆகும். பிராந்திய ஏற்றத்தாழ்வுகளைப் குறைப்பதற்கும் அதிகமான மாசுபாட்டை கட்டுப்படுத்துவதற்கும் பெருநகரங்களில் மிகுதியான தொழிலகங்களைத் தவிர்ப்பதற்கும், தொழிற்சாலையை நிறுவுவதற்கும், நிலம் ஒதுக்கீடு செய்வதில் சில கட்டுப்பாடுகளை அரசாங்கம் விதிக்கிறது. எனவே அரசாங்கக் கொள்கைகள் மற்றும் விதிமுறைகள் தொழிலகங்களின் அமைவிடத்தைத் தீர்மானிக்கின்றன.

செயல்பாடுகள்

கரும்பலகை சுண்ணக்கட்டிகளை நினைவில் கொள்.

1. இதன் உற்பத்திக்கு பயன்படும் மூலப் பொருட்களின் பெயர்களைக் குறிப்பிடுக
2. இவை உற்பத்தி செய்யப்படும் இடங்களைக் கண்டறிக.
3. சுண்ணக்கட்டிகளின் உற்பத்தி எந்த வகை தொழிலகங்களின் வகைப்பாட்டில் உள்ளது என்பதைக் குறிப்பிடுக.

தொழிலகங்களின் வகைபாடு (Classification of Insustries)

தொழிலகங்கள் பல்வேறு அடிப்படையில் வகைப்படுத்தப்படுகின்றன. அவை

மூலப்பொருட்களின் அடிப்படையில் தொழிலகங்கள்

வேளாண் சார்ந்த தொழிலகங்கள்

(i) **வேளாண் சார்ந்த தொழிலகங்கள்:** இவ்வகை தொழிலகங்களுக்கு வேளாண் மற்றும் விலங்கு சார்ந்த பொருட்கள் மூலப்பொருட்களாகப் பயன்படுகின்றன. எடுத்துக்காட்டாக உணவுப் பதப்படுத்துதல், தாவர எண்ணெய் உற்பத்தி, பருத்தி நெசவாலைகள், பால் உற்பத்திப் பொருட்கள் போன்றவை.

(ii) **கனிமவளம் சார்ந்த தொழிற்சாலைகள்:** இவ்வகை தொழிலகங்கள் கனிமத் தாதுக்களை மூலப்பொருட்களாக பயன்படுத்துகின்றன. இரும்பு தாதுவில் இருந்து உற்பத்தி செய்யப்படும் இரும்பு கனிம வளம் சார்ந்த தொழிலகத்திற்கு எடுத்துக்காட்டாகும். சிமெண்ட் தொழிற்சாலை, இயந்திரக் கருவி உற்பத்தி போன்றவை கனிமங்கள் சார்ந்த தொழிற்சாலைகளுக்கு மற்ற எடுத்துக்காட்டுகளாகும்.

கனிமவளம் சார்ந்த தொழிலகங்கள்

(iii) **கடல்வளம் சார்ந்த தொழிலகங்கள்:** இவ்வகை தொழிலகங்களுக்கு கடல் மற்றும்

VIII_Std_Geography_Unit 6.indd 159 04-03-2023 13:05:01

பெருங்கடலில் இருந்து கிடைக்கப்பெறும் பொருட்கள் மூலப்பொருட்களாகப் பயன்படுகின்றன. எடுத்துக்காட்டு பதப்படுத்தப்பட்ட கடல்சார் உணவு, மீன் எண்ணெய் உற்பத்தி அலகுகள் ஆகும்.

கடல்வளம் சார்ந்த தொழிலகங்கள்

(iv) **வனவளம் சார்ந்த தொழிலகங்கள்:** இவ்வகை தொழிலகங்களுக்கு வனப்பொருட்கள் மூலப்பொருட்களாகப் பயன்படுகின்றன. எடுத்துக்காட்டாக மரக்கூழ் மற்றும் காகித உற்பத்தி, மரத்தளவாடங்கள் மற்றும் சில மருந்து உற்பத்தி தொழிலகங்களாகும்.

வனவளம் சார்ந்த தொழிலகங்கள்

அளவு மற்றும் மூலதனத்தின் அடிப்படையில் தொழிலகங்கள்

(i) **பெரிய அளவிலான தொழிலகங்கள்:** ரூபாய் ஒரு கோடிக்கும் மேல் மூலதனம் கொண்டு நிறுவப்படும் தொழிற்சாலைகள் பெரிய அளவிலான தொழிற்சாலைகள் என்று அழைக்கப்படுகிறது. இரும்பு மற்றும் எஃகு ஆலை, எண்ணெய் சுத்திகரிப்பு ஆலை, சிமெண்ட் தொழிற்சாலை மற்றும் நெசவாலை தொழிலகங்கள் போன்றவை பெரிய அளவிலான தொழிலகங்களுக்குச் சிறந்த உதாரணமாகும்.

(ii) **சிறிய அளவிலான தொழிலகங்கள்:** ரூபாய் ஒரு கோடிக்கும் குறைவான மூலதனத்தைக் கொண்டு நிறுவப்படும் தொழிற்சாலைகளை சிறிய அளவிலான தொழிலகங்கள் என்று அழைக்கப்படுகிறது. எடுத்துக்காட்டு பட்டு நெசவு மற்றும் வீட்டு உபயோகப் பொருட்கள் சார்ந்த தொழிலகங்கள் இவ்வகையைச் சார்ந்தவை ஆகும்.

சிறு தொழிலகங்கள்

உங்களுக்குத் தெரியுமா?

இந்தியாவின் டெட்ராய்ட்

அமெரிக்க ஐக்கிய நாட்டில் மிச்சிகன் மாநிலத்தில் உள்ள டெட்ராய்ட் நகரம் உலக பாரம்பரிய வாகன தொழில் மையமாக அறியப்படுகிறது. அதேபோல் இந்தியாவில் உள்ள சென்னை மாநகரம் இந்தியாவின் டெட்ராய்ட் என்று அழைக்கப்படுகிறது. ஏனெனில் உலகப் புகழ் பெற்ற வாகன தொழிலகங்களான ஜி.எம், போர்டு, மஹேந்திரா, ஹூண்டாய் போன்ற தொழிலகங்கள் இங்கு அமைந்துள்ளன. இவற்றைத் தவிர இந்நகரம் நாட்டின் வாகன தொழில் ஏற்றுமதியில் 60% பங்கினைக் கொண்டுள்ளது.

மேற்கூறிய தொழிலகங்களைத் தவிர குடிசைத் தொழில்கள் அல்லது வீட்டு உபயோகப் பொருள் உற்பத்தித் தொழில்கள் ஆகியவற்றைச் சிறிய அளவிலான தொழிலகங்கள் என்பர். இங்கு உற்பத்தி செய்யப்படும் பொருட்கள் கைவினை கலைஞர்களின், குடும்ப உறுப்பினர்களின் உதவியுடன் தயாரிக்கப்படுகின்றன. இவ்வகை தொழிலகங்கள் சிறு தொழில்கள் அல்லது இதர வகை தொழிற்சாலைகள் என வகைப்படுத்தப்பட்டுள்ளன. எடுத்துக்காட்டாக

VIII_Std_Geography_Unit 6.indd 160 04-03-2023 13:05:01

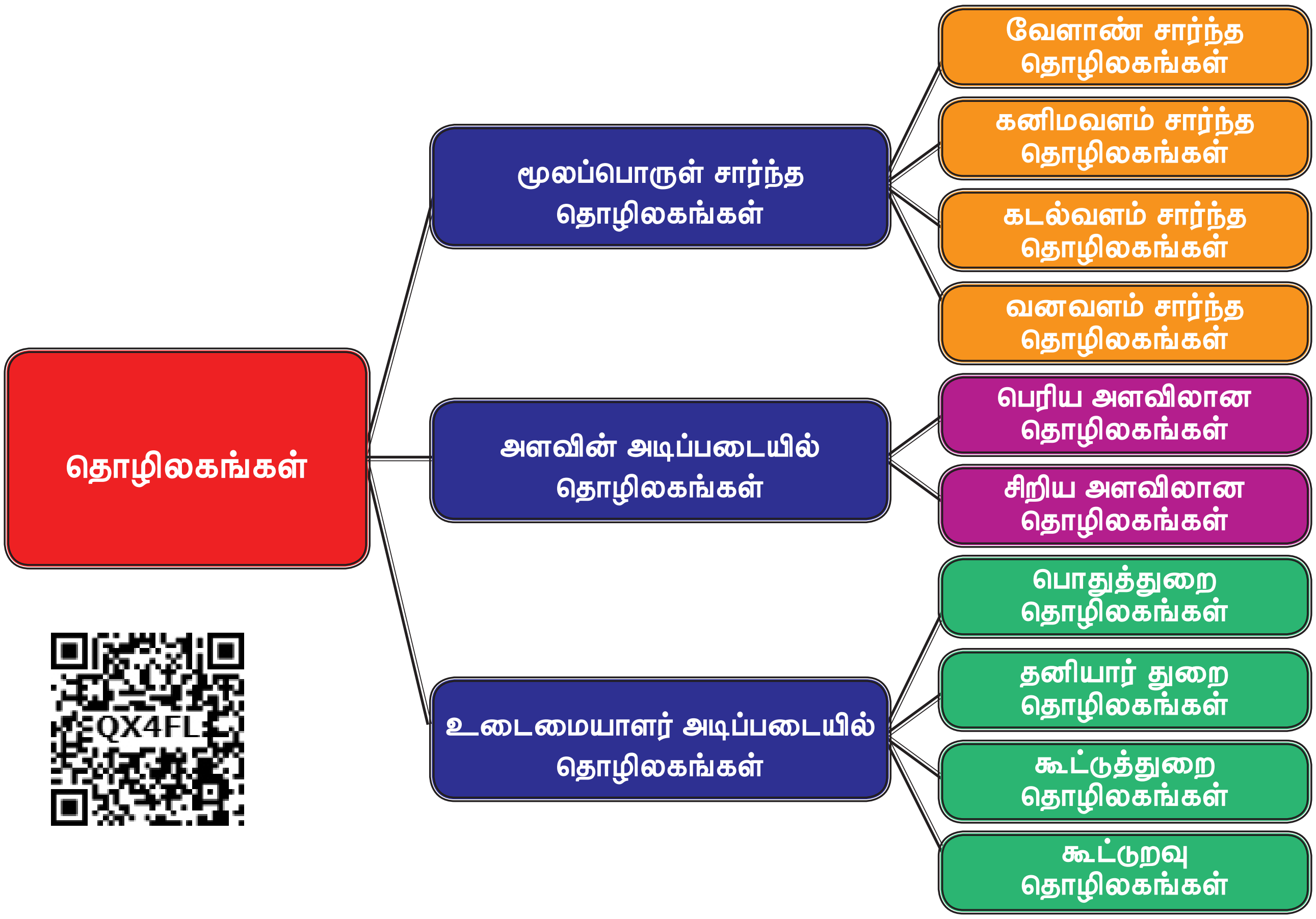

கூடை முடைதல், பானை தயாரித்தல், கைவினைப் பொருட்கள் தயாரிப்பு போன்றவை ஆகும்.

உடைமையாளர்கள் அடிப்படையில் தொழிலகங்கள்

(i) **தனியார் துறை தொழிலகங்கள்** (Private Sector Industries): இவ்வகை தொழிலகங்கள் தனிநபர்கள் மற்றும் தனித்த குழுக்களால் நிறுவப்பட்டு செயல்படுத்தப்படுகின்றது. எடுத்துக்காட்டாக பஜாஜ் ஆட்டோ, ரிலையன்ஸ் போன்றவையாகும்.

(ii) **பொதுத்துறை தொழிலகங்கள்** (Public Sector Industries): இவ்வகை தொழிலகங்கள் அரசுக்கு சொந்தமானவை மற்றும் அரசால் இயக்கப்படுபவை. எடுத்துக்காட்டாக ஹிந்துஸ்தான் ஏரோநாட்டிகல் நிறுவனம் (HAL), பாரத மிகு மின் நிறுவனம் (BHEL) இந்திய இரும்பு எஃகு ஆணையம் (SAIL) ஆகியவை பொதுத்துறை நிறுவனத்திற்குச் சிறந்த எடுத்துக்காட்டாகும்.

> **செயல்பாடுகள்**
>
> உங்கள் பகுதியில் அமைந்துள்ள உடமையாளர்கள் சார்ந்த தொழிற்சாலைகளைப் பட்டியலிடவும்.

(iii) **கூட்டுத்துறை தொழிலகங்கள்** (Joint Sector Industries): இவ்வகை தொழிலகங்கள் அரசுத்துறையும் மற்றும் தனிநபர்கள் அல்லது தனி குழுவாகவோ கூட்டாக இணைந்து இயக்கப்படுகின்றன. எடுத்துக்காட்டு இந்தியன் ஆயில் ஸ்கை டேங்கிங் நிறுவனம், இந்தியன் சிந்தட்டிக் இரப்பர் நிறுவனம், மகாநகர் வாயு நிறுவனம், மாருதி உத்யோக் போன்றவை.

(iv) **கூட்டுறவுத்துறை தொழிலகங்கள்** (Co–Opetarive Sector): இவ்வகையிலான தொழிலகங்கள் மூலப் பொருட்களின் உற்பத்தியாளர்கள் / விநியோகிப்பவர்கள் அல்லது தொழிலாளர்கள் அல்லது இவை இரண்டையும் அளிப்பவர்களால் நிறுவப்பட்டு இயக்கப்படுகிறது. ஆனந்த் பால் ஒன்றிய நிறுவனம் (அமுல்) கூட்டுறவுத்துறை தொழிலகங்களுக்கான சிறந்த எடுத்துக்காட்டாகும்.

VIII_Std_Geography_Unit 6.indd 161 04-03-2023 13:05:01

மீள்பார்வை

- தொழிலகம்: மூலப் பொருட்களை முடிக்கப்பட்ட பொருட்களாக மாற்றக்கூடிய இடமாகும்.
- பொருளாதார நடவடிக்கை: உற்பத்தி, விநியோகம், நுகர்வு அல்லது சேவைகளில் ஈடுபடும் எந்த ஒரு செயலும் பொருளாதார நடவடிக்கையாகும்
- பொருளாதார நடவடிக்கைகளின் வகைகள்:

  1) முதன்மை பொருளாதார செயல்பாடுகள்

  2) இரண்டாம் நிலை பொருளாதார செயல்பாடுகள்

  3) சார்புத் துறை அல்லது மூன்றாம் நிலை பொருளாதார செயல்பாடுகள் ஆகியவை அடிப்படை மற்றும் முக்கியமான பொருளாதார செயல்பாடுகளின் வகைகளாகும்.
- தொழிலக அமைவிடத்தை நிர்ணயிக்கும் காரணிகள்: மூலப்பொருட்கள், மூலதனம், நிலம், நீர்வளம், மனித வளம், ஆற்றல் வளம், போக்குவரத்து மற்றும் சந்தை.

கலைச்சொற்கள்

நான்காம் நிலை செயல்பாடுகள்	தகவல்களை உருவாக்குதல் மற்றும் பரிமாற்றம் செய்தல்.	Quaternary activities
ஐந்தாம் நிலை செயல்பாடுகள்	தொழிலகங்கள் மற்றும் அரசாங்கத்தோடு தொடர்புடைய முடிவுகளை எடுக்கும் தலைமை நிர்வாகிகளின் செயல்பாடுகள்.	Quinary activities
தனியார் துறை	தனிநபர் அல்லது தனிநபர் குழுக்களால் நிறுவப்பட்டு நிர்வகிக்கும் நிறுவனம்	Private Sector
கூட்டுறவுத்துறை	மூலப்பொருளை உற்பத்தி செய்பவர் அல்லது விநியோகிப்பவர் அல்லது தொழிலாளர்களை அளிப்பவர்கள் நிர்வகிக்கப்படும் தொழிலகங்கள்.	Co-operative Sector

மதிப்பீடு

I சரியான விடையைத் தேர்ந்தெடுக்கவும்

1. பட்டு நெசவு மற்றும் வீட்டு உபயோகப் பொருட்கள் சார்ந்த தொழிலகங்கள் ________ பிரிவுகளின் கீழ் வருகின்றன.
   அ) சிறிய அளவிலான தொழிலகம்
   ஆ) பெரிய அளவிலான தொழிலகம்
   இ) கடல்வளம் சார்ந்த தொழிலகம்
   ஈ) மூலதனம் சார்ந்த தொழிலகம்

2. உடைமையாளர்கள் அடிப்படையிலான தொழிலகங்கள் ________ வகைகளாகப் பிரிக்கப்பட்டுள்ளன.
   அ) 2 ஆ) 3 இ) 4 ஈ) 5

3. அமுல் பால் பண்ணைத் தொழிலகம் ________ துறைக்கு சிறந்த எடுத்துக்காட்டாகும்.
   அ) தனியார் துறை
   ஆ) பொதுத்துறை
   இ) கூட்டுறவுத்துறை
   ஈ) கூட்டுத்துறை

4. இரும்பு எஃகு மற்றும் சிமெண்ட் தொழிலகங்கள் ________ தொழிலகங்களுக்குச் சிறந்த எடுத்துக்காட்டாகும்.
   அ) வேளாண் சார்ந்த
   ஆ) கனிம வளம் சார்ந்த
   இ) வனப் பொருட்கள் சார்ந்த
   ஈ) கடல் வளம் சார்ந்த

VIII_Std_Geography_Unit 6.indd 162 04-03-2023 13:05:01

5. சார்புத் துறை ________ வகைகளாக பிரிக்கப்பட்டுள்ளது.

அ) 4 ஆ) 3 இ) 2 ஈ) 5

II கோடிட்ட இடங்களை நிரப்புக

1. வங்கித் துறை என்பது ________ பொருளாதார நடவடிக்கையாகும்
2. மூன்றாம் நிலை தொழில்கள் ________ மற்றும் ________ ஆக வகைப்படுத்தப்படுகிறது.
3. அரசாங்க முடிவு எடுக்கும் செயல்முறைகள் ________ துறையின் கீழ்வரும் மூன்றாம் நிலை செயல்பாடாகும்.
4. மூலப்பொருட்கள் அடிப்படையில் பருத்தி நெசவாலை ஒரு ________ தொழிலாகும்.
5. பெரிய அளவிலான தொழிற்சாலையை நிறுவுவதற்கு தேவையான மூலதனம் ________ ஆகும்.

III பொருத்துக

1. நீதித்துறை	–	தனியார்துறை
2. தொலைக்காட்சி ஒளிபரப்பு	–	புவியியல் அல்லாத காரணிகள்
3. புவியியல் காரணிகள்	–	நான்காம் நிலை செயல்பாடு
4. மூலதனம்	–	மூலப்பொருட்கள்
5. பஜாஜ் ஆட்டோ	–	ஐந்தாம் நிலை செயல்பாடுகள்

IV வேறுபடுத்துக

1. இரண்டாம் நிலை பொருளாதார செயல்பாடு மற்றும் மூன்றாம் நிலை பொருளாதார செயல்பாடு.
2. வேளாண் சார்ந்த தொழிலகங்கள் மற்றும் கடல் வளம் சார்ந்த தொழிலகங்கள்.
3. பெரிய அளவிலான தொழிலகங்கள் மற்றும் சிறிய அளவிலான தொழிலகங்கள்.

V சுருக்கமாக விடையளி

1. தொழிற்சாலை – வரையறு.
2. பொருளாதார நடவடிக்கை என்றால் என்ன?
3. முக்கிய பொருளாதார நடவடிக்கைகளின் பெயர்களை எழுதுக.
4. ஐந்தாம் நிலை பொருளாதார நடவடிக்கைகள் என்றால் என்ன? எடுத்துக்காட்டுடன் தெளிவாக்குக.
5. தொழிலக அமைவிடத்திற்கு காரணமான காரணிகளைக் குறிப்பிடுக.
6. பின்வருவனவற்றிக்குச் சிறு குறிப்புத் தருக.

அ. பெரிய அளவிலான தொழிலகங்கள்

ஆ. சிறிய அளவிலான தொழிலகங்கள்

VI விரிவான விடையளி

1. மூலப்பொருட்களின் அடிப்படையில் தொழிலகங்களை வகைப்படுத்தி விளக்குக.
2. தொழில் அமைவிடத்தை நிர்ணயிக்கும் புவியியல் காரணிகளை விளக்குக.
3. தொழிலகங்களின் வகைப்பாட்டை விளக்கப் படம் மூலம் விளக்குக.

மேற்கோள் நூல்கள்

1. *Economic Geography* by "Wood and Roberts, (2010)
2. *Economic Geography* by Jessie P.H. Poon (2016)
3. *Economic Geography* by K.K. Khanna and V.K.Gupta (1998)

இணையதள வளங்கள்

1. http://ncert.nic.in
2. https://www.edu.gov.mb.ca
3. http://www.yourarticlelibrary.com/industries/industries-classification-of-industries
4. https://www.clearias.com/factors-responsible-for-the-location-of-primary-secondary-and-tertiary-sector-industries-in-various-parts-of-the-world-including-india/

அலகு - 7

கண்டங்களை ஆராய்தல்

ஆப்பிரிக்கா, ஆஸ்திரேலியா மற்றும் அண்டார்டிகா

கற்றலின் நோக்கங்கள்

- ஆப்பிரிக்கா, ஆஸ்திரேலியா, மற்றும் அண்டார்டிகா கண்டங்களின் புவியியல் அமைவிடங்களைக் கண்டறிதல்
- இக்கண்டங்களின் இயற்கையமைப்பு, காலநிலை மற்றும் வடிகாலமைப்பு பற்றி அறிந்து கொள்ளல்
- இக்கண்டங்களின் தாவர மற்றும் விலங்கினங்களின் தன்மைகளைப் புரிந்து கொள்ளல்
- முக்கிய வளங்கள் மற்றும் பொருளாதார நடவடிக்கைகளை அடையாளம் காணல்
- வரைபட திறனை வளர்த்தல்

EPLMX

அறிமுகம்

எட்டாம் வகுப்பு ஆசிரியர் வகுப்பறைக்குள் நுழைந்த பின் மாணவர்களிடம் எதைப் பற்றிப் பேசிக் கொண்டிருக்கிறீர்கள் என வினவினார். அதற்கு அவ்வகுப்புத் தலைவன் ஆசிரியரிடம் ஆஸ்திரேலியா மற்றும் தென் ஆப்பிரிக்கா இடையேயான ஒருநாள் மட்டைப்பந்து போட்டி குறித்து மாணவர்கள் பேசிக் கொண்டிருந்தார்கள் எனக் கூறினான். அதற்கு ஆசிரியர், 'மாணவர்களிடம், சரி இன்று இவ்விரு கண்டங்களைப் பற்றிப் பல விவரங்களை இப்பாடத்தில் கற்போம்' என்று கூறினார்.

ஆப்பிரிக்கா

அமைவிடம் மற்றும் பரப்பளவு

ஆப்பிரிக்கா, ஆசியாவிற்கு அடுத்தபடியாக இரண்டாவது பெரிய மற்றும் இரண்டாவது அதிக மக்கட் தொகையைக் கொண்ட கண்டமாகும். இது 37°21' வட அட்சம் முதல் 34°51' தென் அட்சம் வரையிலும், 17° 33' மேற்கு தீர்க்கம் முதல் 51° 27' கிழக்கு தீர்க்கம் வரையிலும் பரவியுள்ளது. இதன் பரப்பளவு சுமார் 30.36 மில்லியன் சதுர கிலோமீட்டர் ஆகும். (உலகின் மொத்த நிலப்பரப்பில் 20.2 சதவீதம்). புவிநடுக்கோடு ஆப்பிரிக்காவை இரு சம பாகங்களாகப் பிரிக்கிறது. கடகரேகை, புவி நடுக்கோடு மற்றும் மகரரேகை போன்ற முக்கிய அட்சங்கள் கடந்து செல்லும் ஒரே கண்டம் இதுவாகும். இது வடக்கு தெற்காக 7623 கிலோ மீட்டர் நீளமும், கிழக்கு மேற்காக 7260 கிலோமீட்டர் நீளமும் உடையது. முதன்மை தீர்க்கரேகையான (0°) (Prime Meridian) இக்கண்டத்தின் மேற்குப்பகுதியில் அமைந்துள்ள கானா நாட்டின் தலைநகரான அக்ராவின் அருகில் செல்கிறது. ஆப்பிரிக்க கண்டம் புவியின் நான்கு கோளங்களிலும் பரவியுள்ளது.

சிறந்த கடற்பயண ஆய்வாளர்களான டேவிட் லிவிங்ஸ்டோன் மற்றும் எச்.எம். ஸ்டான்லி ஆகியோர் இக்கண்டத்தின் உட்பகுதிகளை முதன்முதலில் ஆராய்ந்தவர்களாவர். ஆப்பிரிக்காவில் மனிதனின் மூதாதையர்கள் 5 மில்லியன் ஆண்டுகளுக்கும் மேலாக வாழ்ந்ததாக ஆதாரங்கள் மூலம் தெரியவருகிறது. புவியில் மனித இனங்கள் வாழ்ந்த பழமையான கண்டம் என்பதால் ஆப்பிரிக்காவானது '**தாய் கண்டம்**' எனப் புனைப் பெயரிட்டு அழைக்கப்படுகிறது.

VIII_Std_Geography_Unit 7.indd 164 04-03-2023 15:13:11

இக்கண்டத்தில் நிலவும் பல்வகை புவியியல் சூழல்கள் பல்வேறு மனித இனக் குழுக்களுக்கும் பன்முக கலாச்சாரத்திற்கும் முதன்மையான காரணமாக உள்ளன.

உங்களுக்குத் தெரியுமா?

ஆப்பிரிக்க கண்டத்தின் உட்பகுதிகள் குறித்து பெரும்பாலானோர் குறித்து பெரும்பாலானோர் அறிந்திருக்கவில்லை. எனவே ஆப்பிரிக்கா ஒரு 'இருண்ட கண்டம்' என்று அழைக்கப்படுகிறது. ஐரோப்பியக் கடற்பயண ஆய்வாளர் ஹென்றி எம். ஸ்டான்லி என்பவர் **இருண்ட கண்டம்** (1878) என்ற வார்த்தையை முதன் முதலில் பயன்படுத்தினார்.

ஆப்பிரிக்க கண்டம் 54 நாடுகளை உள்ளடக்கியது. புவியியல் அமைவிட அடிப்படையில் ஆப்பிரிக்க நாடுகள் (அ) மேற்கு ஆப்பிரிக்கா (ஆ) வட ஆப்பிரிக்கா (இ) மத்திய ஆப்பிரிக்கா (ஈ) கிழக்கு ஆப்பிரிக்கா (உ) தென் ஆப்பிரிக்கா எனப் பிரிக்கப்பட்டுள்ளது.

உங்களுக்குத் தெரியுமா?

வட மேற்கு ஆப்பிரிக்க நாடுகளான மொராக்கோ, அல்ஜீரியா, லிபியா, மோரிடானியா மற்றும் துனிசியா ஆகிய நாடுகளின் குழு **'மேக்ரெப்'** (Maghreb) என்று அழைக்கப்படுகிறது. அரபு மொழியில் இதன் பொருள் 'மேற்கு' என்பதாகும்.

அரசியல் பிரிவுகள்

VIII_Std_Geography_Unit 7.indd 165 04-03-2023 15:13:12

இயற்கை அமைப்பு பிரிவுகள்

ஆப்பிரிக்கவானது மலைகள், பீடபூமிகள் மற்றும்சமவெளிகள்ஆகியநிலத்தோற்றங்களை உள்ளடக்கியது. ஆப்பிரிக்காவின் இயற்கை அமைப்பை 8 பெரும் பிரிவுகளாகப் பிரிக்கலாம். ஆப்பிரிக்காவின் முக்கிய தீவு மடகாஸ்கர் ஆகும்.

1. சகாரா (Sahara)

ஆப்பிரிக்காவின் வட பகுதியில் உலகப் புகழ்ப்பெற்ற சகாரா பாலைவனம் அமைந்துள்ளது. இது உலகின் மிகப்பெரிய வெப்ப மண்டல பாலைவனமாகும். இது 9.2 மில்லியன் சதுர கிலோமீட்டர் பரப்பளவைக் கொண்டது. சகாராவின் மேற்கில் அட்லாண்டிக் பெருங்கடலும், கிழக்கில் செங்கடலும், வடக்கில் மத்திய தரைக்கடலும் தெற்கில் சாஹேல் ஆகியன இதன் எல்லைகளாக அமைந்துள்ளன. இப்பாலைவனம் அல்ஜீரியா, சாட், எகிப்து, லிபியா, மாலி, மோரிடானியா, மொராக்கோ, நைஜர், மேற்கு சஹாரா, சூடான் மற்றும் துனிசியா ஆகிய 11 நாடுகளில் பரவியுள்ளது.

சகாரா பாலைவனம் மலைகள், பீடபூமிகள், எர்க்ஸ், பாலைவனச்சோலை, மணல் மற்றும் சரளை மூடிய சமவெளிகள், உப்பு ஏரி, ஆற்றுக் கொப்பரைகள் மற்றும் ஊதுபள்ளங்கள் போன்ற பல்வேறு நிலத்தோற்றங்களை உள்ளடக்கியுள்ளது. சாட் நாட்டில் அமைந்துள்ள செயலிழந்த எரிமலையான மௌண்ட் கௌசி சிகரம் (3445 மீட்டர்) சகாரா பாலைவன பகுதியின் மிக உயரமானதாகும். எகிப்தில் அமைந்துள்ள கட்டாரா ஊதுபள்ளம் சகாராவின் ஆழமான பகுதியாகும். (கடல் மட்டத்திற்குக் கீழ் 133 மீட்டர்) நைல் மற்றும் நைஜர் ஆறுகள் சஹாரா பாலைவனத்தின் வழியாகப் பாய்கின்றன.

ஆப்பிரிக்காவின் இயற்கை அமைப்பு

VIII_Std_Geography_Unit 7.indd 166 04-03-2023 15:13:12

அட்லஸ் மலை ஆப்பிரிக்காவின் வடமேற்குப் பகுதியில் அமைந்துள்ளது. இது ஒரு 'இளம் மடிப்பு' மலையாகும். இது மத்திய தரைக்கடல் மற்றும் அட்லாண்டிக் பெருங்கடலைச் சகாரா பாலைவனத்தில் இருந்து பிரிக்கிறது. இதன் உயர்ந்த சிகரம் டோப்கல் (4167 மீட்டர்) ஆகும்.

2. சாஹேல் (Sahel)

சாஹேல் என்றால் 'எல்லை அல்லது விளிம்பு' என்று பொருள்படும். சாஹேல் என்பது ஒரு அரை வறண்ட, வெப்ப மண்டல சவானா பகுதியாகும். இது வடக்கில் அமைந்துள்ள சஹாரா பாலைவனத்திற்கும் தெற்கில் உள்ள சவானா புல்வெளிக்கும் இடையில் அமைந்துள்ளது. இது கிழக்கு மேற்காக 4,000 கிலோ மீட்டர் தொலைவிற்கு நீண்டு 3 மில்லியன் சதுர கிலோமீட்டர் பரப்பளவைக் கொண்டுள்ளது. இப்பகுதி தரிசு மற்றும் மணற்பாங்கான பாறைகளுடன் கூடிய அரை வறண்ட பிரதேசமாகும். இப்பகுதி தெற்கேயுள்ள வளம் மிகுந்த வெப்ப மண்டலப் பகுதி மற்றும் வடக்கேயுள்ள பாலைவனம் ஆகிய இரண்டு பகுதிகளுக்கும் இடையில் இயற்கை மற்றும் கலாச்சார மாறுபாடுகள் கொண்ட பகுதியாக உள்ளது.

3. சவானா (Savanna)

பரவலான மரங்களைக் கொண்ட வெப்பமண்டல வறண்ட புல்வெளிகள் **சவானா** என்று அழைக்கப்படுகிறது. இப்புல்வெளிகள் ஆப்பிரிக்காவின் பாதிக்கும் மேற்பட்ட நிலப்பரப்பில் காணப்படுகிறது. இப்புல்வெளி நிலநடுக்கோட்டிற்கு அருகில் அமைந்துள்ள மலைக்காடுகளுக்கு வடக்கு மற்றும் தெற்கு என இரு பகுதிகளிலும் காணப்படுகின்றன. சவானாவின் ஒரு சில பகுதிகளில் மரங்களும் மற்ற பகுதிகளில் உயரமான புற்களும் காணப்படுகின்றன. இப்பகுதி பல்வேறு வன விலங்குகளின் மேய்ச்சல் நிலங்களாக உள்ளன. செரன்கேட்டி சமவெளியானது சவானா பகுதியில் அமைந்துள்ள மிகப்பெரிய சமவெளிகளில் ஒன்றாகும். இச்சமவெளிகள் '**திறந்தவெளி மிருகக்காட்சி**' சாலை என அழைக்கப்படுகின்றது.

4. பெரிய பிளவு பள்ளத்தாக்கு மற்றும் ஆப்பிரிக்காவின் பெரிய ஏரிகள் (Great Rift Valley and Great Lakes of Africa)

பிளவு பள்ளத்தாக்கு என்பது புவியின் உட்பகுதியில், மேற்பரப்பிற்கு அருகில் நிலவியல் தட்டுகளின் நகர்வுகளால் உருவாகும் ஒரு பெரிய பிளவு ஆகும். இப்பிளவுப் பள்ளத்தாக்கு ஆப்பிரிக்காவின் ஒரு முக்கிய புவியியல் மற்றும் நிலவியல் அம்சங்களில் ஒன்றாகும். இது ஆசியாவின் வடக்கு சிரியாவிலிருந்து ஆப்பிரிக்காவின் மத்திய மொசாம்பிக் வரை 6,400 கிலோ மீட்டர் நீளத்தைக் கொண்டது. இது கிழக்கு ஆப்பிரிக்கா வழியாக நீண்டு பல ஏரிகளைக் கொண்டுள்ளது.

செயல்பாடு

புவிப்பட புத்தகத்தின் (அட்லஸ்) உதவியுடன் பெரிய பிளவு பள்ளத்தாக்குகள் மற்றும் அதில் அமைந்துள்ள ஏரிகளைக் கண்டறிந்து ஆப்பிரிக்க வரைபடத்தில் குறிக்கவும்.

ஆப்பிரிக்காவின் பெரிய ஏரிகள் பிளவு பள்ளத்தாக்குப் பகுதியில் தொடர்ச்சியாக காணப்படுகின்றன. புவியில் காணப்படும் உறையாத மேற்பரப்பு நன்னீரில் 25% ஆப்பிரிக்காவின் பெரிய ஏரிகளில் காணப்படுகிறது. இப்பிரதேசத்தில் 7 பெரிய ஏரிகள் காணப்படுகின்றன.

இப்பகுதியில் அமைந்துள்ள விக்டோரியா ஏரி ஆப்பிரிக்காவின் மிகப்பெரிய நன்னீர் ஏரியாகவும், அமெரிக்க ஐக்கிய நாட்டின் சுப்பீரியர் ஏரிக்கு அடுத்து உலகின் இரண்டாவது பெரிய ஏரியாகவும் உள்ளது. இது நைல் நதியின் பிறப்பிடமாக உள்ளது. இப்பள்ளத்தாக்கில் அமைந்துள்ள டாங்கான்யிகா ஏரியானது உலகின் ஆழமான மற்றும் அதிக நீளம் கொண்ட நன்னீர் ஏரி ஆகும். ஆல்பர்ட், எட்வர்ட், கிவ், மாலாவி மற்றும் துர்கானா ஏரிகள் ஆப்பிரிக்காவில் காணப்படும் பிற முக்கிய ஏரிகளாகும்.

உங்களுக்குத் தெரியுமா?

கிளிமஞ்சாரோவின் மலை முகடுகளில் உள்ள பனிப்படிவுகள் இருபதாம் நூற்றாண்டிலிருந்து மறைந்து வருகின்றன.

5. கிழக்கு ஆப்பிரிக்க உயர் நிலங்கள் (East African Highlands)

ஆப்பிரிக்காவில் அமைந்துள்ள பெரும்பாலான மலைகள் இவ்வுயர்

VIII_Std_Geography_Unit 7.indd 167 04-03-2023 15:13:12

நிலங்களில் காணப்படுகின்றன. இந்த உயர் நிலங்கள் எத்தியோப்பியாவிலிருந்து நன்னம்பிக்கை முனை வரை நீண்டுள்ளது. கிளிமஞ்சாரோவானது (5895 மீட்டர்) இந்த உயர்நிலப்பகுதியில் அமைந்துள்ள மிக உயர்ந்த சிகரமாகும். கென்ய மற்றும் ருவான்சோரி மலைத்தொடர்கள் இங்கு அமைந்துள்ள பிற முக்கிய மலைத்தொடர்களாகும். இப்பகுதி குறைவான மக்கட்தொகையுடன், வளமான புல்வெளிகள், காடுகள், நீரோடைகள் மற்றும் நீர் வீழ்ச்சிகள் போன்ற இயற்கை காட்சிகளைக் கொண்டுள்ளது. இம்மலைப் பகுதிகளில் காணப்படும் பனி சூழ்ந்த காலைப்பொழுதும், மலைத் தென்றலும் உலகின் பிற பகுதிகளிலிருந்து சுற்றுலா பயணிகளை ஈர்க்கிறது.

6. **சுவாலி கடற்கரை** (Swahili Coast)

கிழக்கு ஆப்பிரிக்க கடற்கரை நெடுகிலும் சுவாலி கடற்கரை அமைந்துள்ளது. இக்கடற்கரை சோமாலியா முதல் மொசாம்பிக் வரை இந்திய பெருங்கடலை ஒட்டி சுமார் 1610 கிலோ மீட்டர் நீளத்தைக் கொண்டுள்ளது. இப்பகுதி ஆப்பிரிக்க மற்றும் அரேபிய மக்களின் இணைவால் உருவான தனித்துவமான சுவாலி கலாச்சாரத்தைக் கொண்டுள்ளது. மேலும் இப்பகுதியில் வாழும் மக்கள் **சுவாலிகள்** என அழைக்கப்படுகிறார்கள்.

7. **காங்கோ வடிநிலம் / ஜையர் வடிநிலம்** (Gango Basin/ Zaire Basin)

காங்கோ வடிநிலம் மேற்கு மத்திய ஆப்பிரிக்காவில் புவிநடுக்கோட்டின் இருபுறங்களிலும் அமைந்துள்ளது. இது 3.4 மில்லியன் சதுர கிலோமீட்டருக்கும் அதிகமான பரப்பளவைக் கொண்டு அடர்ந்த பசுமை மாறா மழைக்காடுகளால் சூழப்பட்டுள்ளது. இது 7.5 மில்லியன் மக்களுக்கு உணவு, மருந்துப் பொருட்கள், நீர், வனப் பொருட்கள் மற்றும் உறைவிடத்தை அளிக்கிறது. இது அமேசான் ஆற்று வடிநிலத்தை அடுத்து உலகின் இரண்டாவது பெரிய ஆற்று வடிநிலமாகும்.

8. **தென் ஆப்பிரிக்கா** (Southern Africa)

தென் ஆப்பிரிக்காவின் பெரும்பகுதி பீடபூமிகளால் ஆனது. ட்ராகன்ஸ் பெர்க் மலைத்தொடரானது வன்சரிவுடைய கிழக்குப் பகுதியில் அமைந்துள்ளது. இது வட கிழக்கிலிருந்து தென்மேற்காக 1125 கிலோ மீட்டர் நீண்டுள்ளது. இதன் உயர்ந்த சிகரம் தபனாநிட் லியானா (3482 மீட்டர்) ஆகும். இந்தப் பகுதி '**வெல்டு**' எனப்படும் புல்வெளிகளால் சூழப்பட்டுள்ளது. கலகாரி பாலைவனம் தென் ஆப்பிரிக்காவின் தென் பகுதியிலும் நமீப் பாலைவனம் ஆப்பிரிக்காவின் தென்மேற்கு கடற்கரைப் பகுதியிலும் அமைந்துள்ளன. இப்பிரதேசத்தில் காணப்படும் கலகாரி பாலைவனம் உண்மையில் ஒரு பாலைவனம் அல்ல மாறாக ஆரஞ்சு மற்றும் ஜாம்பசி நதிகளுக்கு இடையே அமைந்துள்ள ஒரு வறண்ட முட்புதர் நிலமாகும்.

உங்களுக்குத் தெரியுமா?

தென் ஆப்பிரிக்காவின் அரை வறண்ட பிரதேசங்களில் மேற்கொள்ளப்படும் செம்மறி ஆடு வளர்ப்பு '**காரூஸ்**' என்று அழைக்கப்படுகிறது.

ஆப்பிரிக்காவின் வடிகாலமைப்பு

1. **நைல் நதி** (River Nile)

நைல் நதி 6650 கிலோ மீட்டர் நீளம் கொண்ட உலகின் மிக நீளமான நதி ஆகும். இது இரண்டு முக்கிய துணை ஆறுகளைக் கொண்டுள்ளது. அவைகள் புருண்டியில் உற்பத்தியாகும் வெள்ளை நைல் மற்றும் எத்தியோப்பியாவில் உற்பத்தியாகும் நீல நைல் ஆகியனவாகும். இவ்விரு துணை ஆறுகளும் சூடானில் உள்ள கார்ட்டும் என்ற இடத்தில் இணைந்து நைல் நதியைத் தோற்றுவிக்கின்றன. இது வடக்கு நோக்கி பாய்ந்து மத்தியத்தரைக் கடலில் கலக்கிறது. நைல் நதி '**ஆப்பிரிக்க ஆறுகளின் தந்தை**' என அழைக்கப்படுகிறது.

உங்களுக்குத் தெரியுமா?

நைல் நதி எகிப்தின் வாழ்வாதாரமாக விளங்குவதால் இந்நதி "**எகிப்தின் நன்கொடை**" என அழைக்கப்படுகிறது. நைல் நதி எகிப்தில் இல்லையெனில் இந்நாடு பாலைவனமாக இருந்திருக்கும்.

செயல்பாடு

ஆப்பிரிக்க வரைபடத்தில் முக்கிய நதிகளை வரைந்து அதன் பெயர்களை எழுதவும்.

VIII_Std_Geography_Unit 7.indd 168 04-03-2023 15:13:12

2. காங்கோ ஆறு (River Gango) அல்லது ஜையர் ஆறு

காங்கோ ஆறு நைல் நதியை அடுத்து ஆப்பிரிக்காவின் இரண்டாவது பெரிய ஆறு ஆகும். இதன் நீளம் சுமார் 4,700 கிலோ மீட்டர் ஆகும். இந்த ஆறு ஜாம்பியாவின் வட கிழக்கு உயர் நிலங்களில் அமைந்துள்ள டாங்கானிகா மற்றும் நையாசா ஏரிகளுக்கு இடையே உற்பத்தியாகிறது. இது மேற்கு மத்திய ஆப்பிரிக்காவின் வழியாக அட்லாண்டிக் பெருங்கடலில் கலக்கிறது.

3. நைஜர் ஆறு (River Niger)

மேற்கு ஆப்பிரிக்காவின் முக்கிய நதிகளில் ஒன்றான நைஜர், கினியாவின் உயர் நிலங்களில் உற்பத்தியாகிறது. இது சுமார் 4184 கிலோமீட்டர் நீளம் பாய்ந்து இறுதியாக அட்லாண்டிக் பெருங்கடலில் உள்ள கினியா வளைகுடாவில் கலக்கிறது.

4. சாம்பசி ஆறு (River Zambezi)

ஜாம்பசி ஆறு ஆப்பிரிக்காவின் நான்காவது நீளமான ஆறு ஆகும். இது வடமேற்கு ஜாம்பியாவில் உற்பத்தியாகிறது. இது சுமார் 2574 கிலோ மீட்டர் பாய்ந்து பின் இந்தியப் பெருங்கடலில் கலக்கிறது. உலகப் புகழ்ப்பெற்ற (108 மீட்டர்) உயரமுள்ள விக்டோரியா நீர்வீழ்ச்சி இந்நதியினால் உருவாக்கப்பட்டதாகும். இது தென் ஆப்பிரிக்காவின் '**வாழ்வாதார நதி**' என அழைக்கப்படுகிறது. லிம்போபோ மற்றும் ஆரஞ்சு ஆறுகள் ஆப்பிரிக்காவின் மற்ற முக்கிய ஆறுகளாகும்.

காலநிலை

ஆப்பிரிக்க கண்டமானது ஆறு முக்கிய காலநிலை மண்டலங்களாக பிரிக்கப்பட்டுள்ளது.

1. **வறண்ட மற்றும் அரை வறண்ட காலநிலை:** வட மற்றும் தென் ஆப்பிரிக்க பகுதிகளில் இக்கால நிலை நிலவுகிறது. இப்பகுதிகளில் மழைப் பொழிவு குறைந்து காணப்படுகிறது.
2. **வெப்ப மண்டல சவானா காலநிலை:** இக்காலநிலை புவி நடுக்கோட்டின் இருபுறமும் 10° முதல் 20° அட்சத்திற்கு இடைப்பட்ட பகுதிகளில் நிலவுகிறது. இது ஒரு வெப்பமண்டல ஈர மற்றும் வறண்ட காலநிலை கொண்டது.
3. **புவி நடுக்கோட்டு காலநிலை:** காங்கோ வடிநிலம் மற்றும் கிழக்கு ஆப்பிரிக்க உயர்நிலங்களில் உள்ள புவி நடுக்கோட்டு மண்டலத்தில் ஆண்டு முழுவதும் வெப்பம் மற்றும் மழைப் பொழிவு இரண்டும் மிகுந்து காணப்படுகிறது.
4. **மித வெப்ப மண்டல காலநிலை:** இக்காலநிலை தென் ஆப்பிரிக்காவின் தென் பகுதிகளில் நிலவுகிறது. இது கடலோரப் பகுதியில் அமைந்துள்ளதால் சமச்சீர்கால நிலையைக் கொண்டுள்ளது.
5. **மத்திய தரைக்கடல் காலநிலை:** இக்காலநிலை ஆப்பிரிக்காவின் வட மற்றும் தென்மேற்கு முனைப்பகுதிகளில் நிலவுகிறது. இப்பகுதி குளிர்காலத்தில் மழைப்பொழிவை பெற்று கோடைக்காலத்தில் வெப்பம் மிகுந்து வறண்டும் காணப்படுகிறது.
6. **வெப்பமண்டல பருவக்காற்று காலநிலை:** இவ்வகை காலநிலை ஆப்பிரிக்காவின் கிழக்கு கடற்கரைப் பகுதிகளில் நிலவுகிறது. இங்கு கோடைக்காலம் வெப்பமாகவும் பருவக்காற்றின் மூலம் அதிக மழைப்பொழிவையும், குளிர்காலம் வெப்பம் குறைந்தும் காணப்படுகிறது.

தகவல் பேழை

வெப்பப் பாலைவனங்கள் கண்டங்களின் மேற்கு விளிம்புகளில் புவிநடுக்கோட்டின் வடக்கு மற்றும் தென் பகுதிகளில் (20° முதல் 30°) அட்சங்கள் வரை அமைந்துள்ளன. இப்பாலைவனங்கள் வியாபாரக் காற்று வீசும் மண்டலத்தில் அமைந்துள்ளன. இவ்வியாபாரக் காற்றுகள் வட கோளத்தில் வடகிழக்கில் இருந்தும் தென் கோளத்தில் தென்கிழக்கிலிருந்தும் வீசுகின்றன. இக்காற்றானது பொதுவாக கிழக்கிலிருந்து மேற்கு நோக்கி வீசுகிறது. இக்காற்று கண்டங்களின் கிழக்கு விளிம்புங்களில் அதிக மழைப் பொழிவை ஏற்படுத்தி மேற்கு பகுதியை அடையும்பொழுது ஈரப்பதத்தை இழந்து வறண்ட காற்றாகவும் வீசுகின்றது. எனவே கண்டங்களின் மேற்கு பகுதிகள் பாலைவனங்களாக உள்ளன.

VIII_Std_Geography_Unit 7.indd 169 04-03-2023 15:13:12

தாவரங்கள் மற்றும் விலங்கினங்கள் (Flora and Fauna)

ஆப்பிரிக்காவின் தாவர வகைகள் ஓரிடத்திலுள்ள மழைப்பொழிவின் அளவு, வெப்பநிலை, நிலத்தோற்றம், மண்ணின் தன்மை போன்றவற்றிற்கேற்ப உருவாகியுள்ளன. இக்கண்டத்தின் மொத்த நிலப்பரப்பில் சுமார் 20% காடுகளால் சூழப்பட்டுள்ளது. தற்போது ஆப்பிரிக்காவில் காணப்படும் தாவர மற்றும் விலங்கினங்கள் கோண்டுவானா காலத்தில் கண்டங்கள் பிரிந்த போது இருந்த தாவர மற்றும் விலங்கினங்களிலிருந்து தோன்றியவையாகும். பாபோ, பீவர் மரம் மற்றும் சவ்சேச் ஆகியன ஆப்பிரிக்காவின் முக்கிய மர வகைகளாகும்.

உங்களுக்குத் தெரியுமா?

- சகாரா பாலைவனத்தில் இருந்து கினியா கடற்கரையை நோக்கி வீசும் வறண்டவெப்ப புழுதி தலக்காற்று **'ஹார்மாட்டான்'** என்று அழைக்கப்படுகிறது.
- சகாரா பாலைவனத்திலிருந்து மத்திய தரைக்கடல் நோக்கி வீசும் வெப்ப தலக் காற்று **'சிராக்கோ'** என்று அழைக்கப்படுகிறது.
- வெப்ப மண்டல மழைக் காடுகள் **புவியின் அணிகலன்** என்றும் உலகின் பெரும் மருந்தகம் என்றும் அழைக்கப்படுகிறது.

லெமூர்

ட்ஸி – ட்ஸி ஈ

ஒகாபி

போனோபோ

நெருப்புக் கோழி

சகாரா நரி

காட்டெருமை

பாபோ மரம்

மழைக் காடுகள்

VIII_Std_Geography_Unit 7.indd 170 04-03-2023 15:13:14

ஆப்பிரிக்க சவான்னாவின் விலங்குகள்



ஆப்பிரிக்காவில் ஒரு மில்லியனுக்கும் அதிகமான விலங்கின வகைகள் காணப்படுகின்றன. இவற்றில் புவியின் மிகப் பெரிய (யானைகள்) மற்றும் உயரமான (ஒட்டகச்சிவிங்கி) நிலவாழ் விலங்கினங்களும் அடங்கும். வெள்ளை காண்டாமிருகம், வெஸ்டர்ன் கிரீன் மாம்பா, வரிக்குதிரை, ஆப்பிரிக்க யானை, மனித குரங்கு, காட்டெருமை, நீர் யானை மற்றும் ஒட்டகச்சிவிங்கி போன்றவை இங்கு முக்கிய விலங்கினங்களாகும். போன போ (குரங்கு வகை), காட்டு நாய்கள், கழுதை புலி மற்றும் லெமூர் (நரி போன்ற முகம் கொண்டவை) ஆகிய விலங்குகள் ஆப்பிரிக்க கண்டத்திற்கு உரித்தான சில விலங்கினங்களாகும்.

வேளாண்மை

வேளாண்மை ஆப்பிரிக்க கண்டத்தின் முக்கிய பொருளாதார நடவடிக்கையாகும். கோதுமையானது மிதவெப்ப மண்டல புல்வெளிகள், மத்தியதரைக்கடல் பகுதிகள் மற்றும் நைல் பள்ளத்தாக்குப் பகுதிகளில் பயிரிடப்படுகிறது. கினியா கடற்கரை, மொசாம்பிக், மடகாஸ்கர் மற்றும் நைல் பள்ளத்தாக்கு பகுதிகளில் நெல் பயிரிடப்படுகிறது. மக்காச்சோளம் மற்றும் தினை வகை பயிர்கள் அனைத்து பீடபூமி பகுதிகளிலும் பயிரிடப்படுகிறது. பருத்தி ஆப்பிரிக்காவின் முக்கிய பணப் பயிராகும். எகிப்து மற்றும் சூடானில் உலகத்தரம் வாய்ந்த நீண்ட இழைப் பருத்தி பயிரிடப்படுகின்றது. காபி எத்தியோப்பியாவில் பயிரிடப்படுகிறது. கானா நாடு கோக்கோவின் முதன்மை உற்பத்தியாளராக திகழ்கிறது. எண்ணெய் பனை மேற்கு ஆப்பிரிக்க நாடுகளில் பயிரிடப்படுகிறது. கரும்பு, இரப்பர், சணல், புகையிலை ஆகியவை ஆப்பிரிக்காவின் மற்ற முக்கிய பயிர்களாகும். இவை பெரும்பாலும் கிழக்கு ஆப்பிரிக்க நாடுகளில் பயிரிடப்படுகின்றன.

கனிமங்கள்

ஆப்பிரிக்கா, சில கனிம வளங்களை அதிகம் கொண்டுள்ளது. சகாராவின் தென்பகுதி மற்றும் பீடபூமி பகுதிகள் ஆகியன முக்கிய கனிமவளங்கள் நிறைந்த பிரதேசங்களாகும். தென் ஆப்பிரிக்கா, காங்கோ, போஸ்ட்வானா, சியராலியோன் மற்றும் அங்கோலா ஆகிய நாடுகளில் வைர சுரங்கங்கள்

VIII_Std_Geography_Unit 7.indd 171 04-03-2023 15:13:14

காணப்படுகின்றன. தென் ஆப்பிரிக்காவில் உள்ள கிம்பர்லி ஆப்பிரிக்காவின் முக்கியமான வைர உற்பத்தி மையமாகும். அங்கோலா, நைஜீரியா, காபன் மற்றும் காங்கோ நாடுகள் அதிக எண்ணெய் வளத்தைக் கொண்டுள்ளன. தென் ஆப்பிரிக்கா, நமிபியா, மேற்கு ஆப்பிரிக்கா மற்றும் கானா நாடுகளில் தங்கம் காணப்படுகிறது. குரோமியம், கோபால்ட், தாமிரம், இரும்பு தாது, மக்னீசியம், துத்தநாகம் மற்றும் நிக்கல் ஆகியவை ஆப்பிரிக்க கண்டத்தில் பரவலாக காணப்படுகின்றன.

போக்குவரத்து

போக்குவரத்து ஒரு பிரதேசத்தின் பொருளாதார வளர்ச்சியில் முக்கிய பங்கினை வகிக்கிறது. பாதகமான இயற்கை நிலத்தோற்ற அமைப்பும் மந்த பொருளாதார வளர்ச்சியும் ஆப்பிரிக்க நாடுகளின் போக்குவரத்து வளர்ச்சியைப் பாதிப்படையச் செய்கின்றன.

1. நிலவழிப் போக்குவரத்து

ஆப்பிரிக்காவின் சாலை மற்றும் இரயில் போக்குவரத்து அமைப்பானது பல்வேறு தடைகள் காரணமாக குறைவான வளர்ச்சியைப் பெற்றுள்ளது. பாலைவனம் மற்றும் அடர்ந்த காட்டுப் பகுதிகளில் சாலைகள் மற்றும் இருப்பு பாதைகள் அமைப்பது மிகவும் கடினமானதாகும். தென் ஆப்பிரிக்கா, கென்யா, எகிப்து, லிபியா, மொராக்கோ, மற்றும் நைஜீரியா போன்ற ஆப்பிரிக்க நாடுகளில் ஓரளவிற்குச் சாலை மற்றும் இருப்புப் பாதை போக்குவரத்து வளர்ச்சி அடைந்துள்ளன.

2. நீர்வழிப் போக்குவரத்து

ஆப்பிரிக்காவின் கடல் வர்த்தக பாதைகள் ஆசியா மற்றும் ஆஸ்திரேலியாவிற்கு கிழக்குப் பகுதியிலும் ஐரோப்பாவிற்கு வடக்கு பகுதியிலும், அமெரிக்காவிற்கு மேற்கு பகுதியிலும் அமைந்துள்ளன. இந்தியப் பெருங்கடலில் டர்பன், தர்–இ–சலாம், மொஹாபு, மத்தியத்தரைகடலில் போர்ட்சைடு மற்றும் அலெக்சாந்திரியா, அட்லாண்டிக் பெருங்கடலில் கேப்டவுன், அல்ஜியஸ் மற்றும் அபிட்ஜன் ஆகியவை முக்கிய துறைமுகங்களாகும்.

3. வான்வழிப் போக்குவரத்து

வான்வழி போக்குவரத்து ஆப்பிரிக்காவின் முக்கிய தலைநகரங்களையும் உலகின் பிற பகுதிகளையும் இணைக்கிறது. கெய்ரோ, ஜோகன்னஸ் பர்க், நைரோபி, டாக்கா, அடிஸ்–அபாபா, காஸாபிளாங்கா, டர்பன், டௌலா மற்றும் லோகோஸ் இக்கண்டத்தில் அமைந்துள்ள முக்கிய பன்னாட்டு விமான நிலையங்களாகும்.

மக்கள்தொகை

ஆப்பிரிக்கா உலகில் இரண்டாவது அதிக மக்கள் தொகையைக் கொண்ட கண்டமாகும். ஐக்கிய நாட்டு சபை மதிப்பீட்டின்படி (2019) ஆப்பிரிக்காவின் மக்கள்தொகை 131 கோடிகளாகும். இயற்கை நிலத்தோற்ற தடைகள் காரணமாக மக்கள் தொகை பரவல் சமச்சீரற்று காணப்படுகிறது. ஆப்பிரிக்காவின் சராசரி மக்களடர்த்தி ஒரு சதுர கிலோ மீட்டருக்கு 45 நபர்களாகும். கண்டத்தின் மொத்த மக்கள் தொகையில் 41% நகர்ப்புறத்திலும், 59% சதவீத மக்கள் கிராமப்புறத்திலும் வசிக்கின்றனர். நைல் டெல்டா பகுதி மற்றும் தென் ஆப்பிரிக்கா ஆப்பிரிக்காவின் மக்களடர்த்தி மிகுந்த பகுதிகளாகும். ஆப்பிரிக்காவின் அதிக மக்கள் தொகை கொண்ட நாடாக நைஜீரியாவும் அதனைத் தொடர்ந்து எத்தியோப்பியாவும் உள்ளன.

உங்களுக்குத் தெரியுமா?

உலகில் காணப்படும் முக்கிய பழங்குடி இன மக்கள் அப்பிரதேசத்தின் பூர்வீக குடிமக்கள் ஆவார்கள். பூர்வீக குடிமக்கள் தங்களின் பூர்வீக நிலம், மொழிகள் மற்றும் கலாச்சாரங்களுடன் தனித்துவமான அடையாளத்தைக் கொண்டுள்ளனர். அபர், பாட்வா, புஷ்மன், டிங்கா, மசாய், பிக்மீஸ், ஜுலு, சுவான் மற்றும் எஃபி ஆகியோர் ஆப்பிரிக்காவின் முக்கிய பழங்குடி இனங்களாகும்.

ஆஸ்திரேலியா

ஆஸ்திரேலிய கண்டம், உலகின் மற்ற பகுதிகளிலிருந்து தொலைதூரத்தில் தனித்து அமைந்துள்ளதால் இது கடைசியாக கண்டறியப்பட்ட கண்டமாகும்.

இது உலகின் மிகப்பெரிய தீவாகவும் மிகச்சிறிய கண்டமாகவும் உள்ளது. கண்டப்பகுதி முழுவதும் ஒரே நாடாக கருதப்படும் ஒரே கண்டம் ஆஸ்திரேலியாவாகும் . இங்கு தனித்துவமான பல்வேறு தாவரங்கள் மற்றும்

VIII_Std_Geography_Unit 7.indd 172 04-03-2023 15:13:14

விலங்கினங்கள் காணப்படுகின்றன. எனவே இக்கண்டத்தைப் பற்றி மேலும் ஆராய்வோம்.

> **உங்களுக்குத் தெரியுமா?**
>
> ஆஸ்திரேலியா கண்டத்தை 1770இல் கேப்டன் ஜேம்ஸ் குக் என்ற ஆங்கில மாலுமி கண்டுபிடித்தார்.

அமைவிடம் மற்றும் பரப்பளவு

ஆஸ்திரேலியா 10° 4′ தென் அட்சம் முதல் 39°08′ தென் அட்சம் வரையிலும் மற்றும் 113° 09′ கிழக்கு தீர்க்கம் முதல் 153°39′ கிழக்குத் தீர்க்கம்ரேகை வரையிலும் பரவியுள்ளது. மகரரேகை இக்கண்டத்தை ஏறத்தாழ இரண்டு சம பகுதிகளாகப் பிரிக்கிறது. இந்நாட்டின் பரப்பளவு சுமார் 7.68 மில்லியன் சதுர கிலோமீட்டர்களாகும்.

அரசியல் பிரிவுகள்

ஆஸ்திரேலியா 6 மாநிலங்கள் மற்றும் இரண்டு யூனியன் பிரதேசங்களைக் கொண்டது. 1) நியூ சவுத்வேல்ஸ் 2) குயின்ஸ்லாந்து 3) தெற்கு ஆஸ்திரேலியா 4) டாஸ்மேனியா 5) விக்டோரியா 6) மேற்கு ஆஸ்திரேலியா ஆகியவை மாநிலங்களாகவும், 7) வடக்கு யூனியன் பிரதேசம் மற்றும் 8) கான்பெரா (ஆஸ்திரேலிய தலைநகர் பகுதி) ஆகியவை யூனியன் பிரதேசங்களாகவும் உள்ளன. ஒவ்வொரு மாநிலமும் தனித்தனியான அரசியல் அமைப்புச் சட்டங்களைக் கொண்டுள்ளன. ஆஸ்திரேலியாவின் தலைநகரம் கான்பெரா. சிட்னி, பிரிஸ்பேன், அடிலைட், ஹோபார்ட், மெல்பெர்ன், பெர்த் மற்றும் டார்வின் ஆகியன ஆஸ்திரேலியாவின் பிற முக்கிய நகரங்களாகும்.

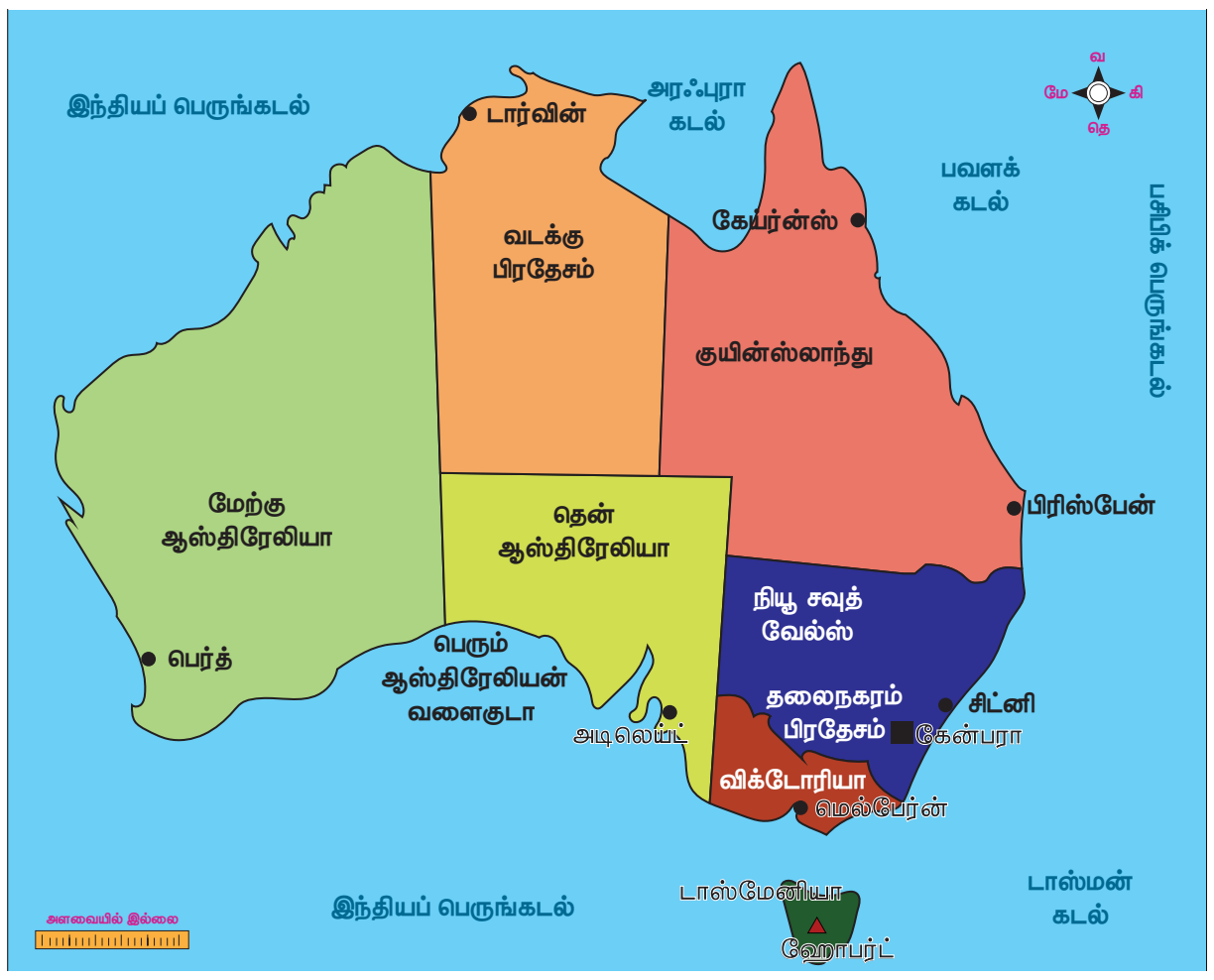

இக்கண்டம் 8222 தீவுகளைக் கொண்டுள்ளது. ரோட்னெஸ்ட் தீவு, மேக்னடிக் தீவு, பிட்ஸ்ராய் தீவு, ப்ரேசர் தீவு, பிலிப் தீவு, லார்ட்ஹோவ் தீவு, கங்காரு தீவு மற்றும் ஒய்ட்சன்டே தீவு ஆகியவை முக்கிய தீவுகளாகும்.

இயற்கையமைப்புப் பிரிவுகள்

ஆஸ்திரேலியா அதிக வேறுபாடற்ற நில அமைப்புகளைக் கொண்ட ஒரு பகுதியாகும். நிலத்தோற்ற அமைப்பின் அடிப்படையில் மூன்று இயற்கை பிரிவுகளாகப் பிரிக்கப்படுகிறது.

1. மேற்கு ஆஸ்திரேலிய பெரிய பீடபூமி
2. மத்திய தாழ் நிலங்கள்
3. கிழக்கு உயர் நிலங்கள்

மேற்கு ஆஸ்திரேலிய பெரிய பீடபூமி : (The Great Australian Plateau)

ஆஸ்திரேலியாவின் மேற்கில் அமைந்துள்ள பீடபூமி ஒரு மிகப்பெரிய இயற்கையமைப்பு பிரிவாகும். இது இக்கண்டத்தின் மூன்றில் ஒரு பகுதியை உள்ளடக்கியுள்ளது. இதன் பரப்பளவு 2.7 மில்லியன் சதுர கிலோமீட்டர்களாகும். இப்பீடபூமி மேற்கு ஆஸ்திரேலியா, தெற்கு ஆஸ்திரேலியா மற்றும் வடக்கு பிராந்தியத்தின் பெரும் பகுதியை உள்ளடக்கிய ஒரு வறண்ட நிலமாக உள்ளது. இது மணல் மற்றும் பாறைகளாலான சமமான மேற்பரப்பை உடையது.

உலகின் மிகப்பெரிய ஒற்றை சிற்ப பாறையான அயர்ஸ் பாறை (Ayers Rock) அல்லது உலுரு பாறையானது (Uluru Rock) இந்த வறண்ட பிராந்தியத்தின் மையப் பகுதியில் அமைந்துள்ளது. இது கடல் மட்டத்திலிருந்து 863 மீட்டர் உயரம் கொண்டது. இது ஆஸ்திரேலியாவின் இயற்கை அதிசயங்களில் ஒன்றாகும். 'பின்னாக்கல்' (Pinnacle) என்று அழைக்கப்படும்

அயர்ஸ் பாறை

VIII_Std_Geography_Unit 7.indd 173 04-03-2023 15:13:15

சுண்ணாம்புப் பாறைத் தூண்கள் இப்பிரதேசத்தில் அதிகம் காணப்படுகிறது.

சுண்ணாம்புப் பாறைத் தூண்கள்

மெக்டோனல் மற்றும் மஸ்கிரேவ் மலைத்தொடர்கள் இப்பீடபூமி பகுதியில் அமைந்துள்ளன. மரங்களற்ற நல்லார்பார் சமவெளி (Nullarbor Plain) இப்பீடபூமியின் தெற்குப் பகுதியில் அமைந்துள்ளது. ஆஸ்திரேலியாவின் மிகப்பெரிய பாலைவனமான பெரிய விக்டோரியா பாலைவனம் மேற்கு மற்றும் தெற்கு ஆஸ்திரேலியா பகுதிகளில் அமைந்துள்ளது.

மத்திய தாழ் நிலங்கள் (Central Lowlands)

மத்திய தாழ் நிலங்கள் வடக்கில் கார்பெண்டாரியா வளைகுடாவிலிருந்து தெற்கே இந்தியப் பெருங்கடல் வரை நீண்டுள்ளது. இத்தாழ் நிலங்களின் மத்தியில் ஆஸ்திரேலியாவின் பெரிய உள்நாட்டு வடிகால் படுகை அமைந்துள்ளது. ஐர் ஏரி (Lake Eyre) இப்பகுதியில் அமைந்துள்ள மிகப்பெரிய உவர் நீர் ஏரியாகும். முர்ரே–டார்லிங் ஆற்று தொகுப்பு மத்திய தாழ்நிலங்களின் தென்கிழக்குப் பகுதியில் அமைந்துள்ளது. பெரிய ஆர்ட்டீசியன் படுகைகள் மத்திய தாழ்நிலங்களின் தென்பகுதியில் காணப்படுகின்றன.

கிழக்கு உயர் நிலங்கள் (Eastern Highlands)

கிழக்கு உயர் நிலங்கள் சுமார் 3860 கிலோ மீட்டர் நீளத்திற்கு ஆஸ்திரேலியாவின் கிழக்கு எல்லை பகுதியில் காணப்படுகிறது. இது வடக்கிலுள்ள யார்க் முனையிலிருந்து (Cape York) தெற்கில் டாஸ்மேனியா வரை நீண்டுள்ளது. இவ்வுயர் நிலங்கள், மேற்கு மற்றும் கிழக்கு நோக்கி பாயும் ஆறுகளைப் பிரிப்பதால்

ஆஸ்திரேலியாவின் இயற்கை பிரிவுகள்

VIII_Std_Geography_Unit 7.indd 174 04-03-2023 15:13:15

இவை **பெரும் பிரிப்பு மலைத்தொடர்** (The Great Dividing Range) என்றும் அழைக்கப்படுகிறது.

ஆஸ்திரேலிய ஆல்ப்ஸ் மலைத் தொடர் ஆஸ்திரேலியாவின் மிக உயரமான மலைத் தொடராகும். இம்மலைத்தொடர் பனியால் சூழப்பட்டுள்ளது. இம்மலைத் தொடரின் மிக உயரமான சிகரம் கோசியஸ்கோ (Mt.Kosciuszko) 2230 மீட்டர் ஆகும். இது நியூ சவுத் வேல்ஸ் மாநிலத்தில் அமைந்துள்ளது.

ஆஸ்திரேலியாவை அதன் முக்கிய இயற்கை நிலத்தோற்றங்கள் சிறப்பு செய்கின்றன. அவை

1. பெரிய ஆர்ட்டீசியன் வடிநிலப்பகுதி
2. பெரிய பவளத்திட்டு தொடர்

பெரிய ஆர்ட்டீசியன் வடிநிலப்பகுதி (Great Artesian Basin)

புவியினுள் இருந்து வேகமாக வெளியேறும் நீரூற்றுகள் ஆர்டீசியன் நீரூற்றுகள் எனப்படுகின்றன. இவ்வகை நீரூற்றுகளைக் கொண்ட புவிப்பகுதி ஆர்டீசியன் வடிநிலம் ஆகும். ஆஸ்திரேலியாவில் உள்ள பெரிய ஆர்ட்டிசியன் படுகை உலகின் மிகப்பெரிய மற்றும் ஆழமான படுகையாகும். பெரிய ஆர்ட்டீசியன் வடிநிலப்பகுதி, பெரும்பிரிப்பு மலைத்தொடருக்கு மேற்கே அமைந்துள்ளது. இது குயின்ஸ்லாந்தின் சில பகுதிகள் மற்றும் நியூ சவுத்வேல்ஸ், தெற்கு ஆஸ்திரேலியா மற்றும் வடக்கு யூனியன் பிரதேசத்தின் வறண்ட மற்றும் அரை வறண்ட பகுதிகளில் காணப்படுகிறது. இது 1.7 மில்லியன் சதுர கிலோமீட்டர் பரப்பில் அமைந்துள்ளது. இது இப்பிரதேசத்தின் முக்கிய நீர் ஆதாரமாக உள்ளது.

ஆர்ட்டீசியன் ஊற்று (குயின்ஸ்லாந்து)

பெரிய பவளத்திட்டு தொடர் (The Great Barrier Reef)



ஆஸ்திரேலியாவின் பெரிய பவளத்திட்டு தொடர் பசிபிக் பெருங்கடல் பகுதியில் குயின்ஸ்லாந்தின் கிழக்கு கடற்கரையை ஒட்டிய வடகிழக்கு பகுதியில் காணப்படுகிறது. இது சிறிய பவள நுண்ணுயிர்களால் உருவானது. இது சுமார் 2300 கிலோமீட்டர் நீளம் கொண்டது. இது உலகின் இயற்கை அதிசயங்களில் ஒன்றாகும்.

பெரும் பவளப்பாறைத் திட்டு

பவள பாலிப்புகள்

வடிகாலமைப்பு

ஆஸ்திரேலியா குறைந்தபட்ச சராசரி மழைப்பொழிவைப் பெறுகிறது. இந்நாடு வெப்பம் மிகுந்து வறண்டு காணப்படுவதால் நீர் ஆவியாதல் அதிகமாக உள்ளது. இதனால் குறைந்த நீரே ஆறுகளின் மூலம் கடலில் கலக்கின்றது. முர்ரே மற்றும் அதனுடைய துணை ஆறுகள் ஆஸ்திரேலியாவின் முக்கிய ஆறுகளாகவும், முக்கிய வடிகாலமைப்பாகவும் உள்ளன. இவ்வடிகாலமைப்பு ஆஸ்திரேலியாவின் மத்திய தாழ் நிலங்களின் உட்பகுதியில் அமைந்துள்ளது. இவ்வடிநிலப்பகுதி சுமார் ஒரு மில்லியன் ச.கி.மீ அதிகமான பரப்பளவையும், ஆஸ்திரேலியாவின் 14% பரப்பளவையும் உள்ளடக்கியுள்ளது.

VIII_Std_Geography_Unit 7.indd 175 04-03-2023 15:13:15

> **உங்களுக்குத் தெரியுமா?**
>
> ஆஸ்திரேலியாவின் மத்திய தாழ் நிலங்களில் அமைந்துள்ள பௌர்க்கி (Bourke) என்னும் இடத்தில் இக்கண்டத்தின் அதிகபட்சமாக 53° செல்சியஸ் வெப்பநிலை பதிவாகியுள்ளது. ஆஸ்திரேலியாவின் தலைநகரான கான்பெராவில் குறைந்தபட்ச வெப்பநிலையாக –22° செல்சியஸ் பதிவாகியுள்ளது.

முர்ரே நதி ஆஸ்திரேலியாவின் மிக நீளமான நதியாகும். இது ஆஸ்திரேலியாவில் ஆல்ப்ஸ் மலைத் தொடரிலிருந்து இந்தியப் பெருங்கடல் வரை 2508 கிலோ மீட்டர் தொலைவிற்கு பாய்கிறது. டார்லிங், அலெக்சாண்டிரியா, முர்ரம் பிட்ஜ் (Murrum Bidgee), லாச்லன் மற்றும் ஸ்வான் ஆகியன இக்கண்டத்தின் பிற முக்கிய ஆறுகளாகும்.

காலநிலை

ஆஸ்திரேலியா உலகின் இரண்டாவது பெரிய மிக வறண்ட நிலப்பரப்பைக் கொண்டுள்ளது.மகரரேகை ஆஸ்திரேலியாவை இரு சமபாகங்களாகப் பிரிக்கிறது. மகரரேகையின் வட பகுதி வெப்பமான அயன மண்டலத்தில் அமைந்துள்ளது. இதன் தென் பகுதி குளிர்ந்த மித வெப்ப மண்டலத்தில் அமைந்துள்ளது. வடக்கு கடலோர பகுதி பருவக்காற்று காலநிலையைக் கொண்டுள்ளதால் இப்பகுதி கோடையில் அதிக மழைப்பொழிவை பெறுகிறது. ஆஸ்திரேலியாவின் கிழக்குக் கடற்கரைப் பகுதிகள் தென்கிழக்கு வியாபார காற்றின் மூலம் அதிக மழையைப் பெறுகின்றன. வறண்ட வெப்ப பாலைவன காலநிலை மத்திய தாழ்நிலங்களிலிருந்து மேற்குக் கடற்கரை பகுதி வரை நிலவுகிறது. இப்பகுதிகளில் ஆண்டு சராசரி மழையளவு 25 செ.மீ.க்கும் குறைவாக உள்ளது. ஆஸ்திரேலியாவின் தெற்கு முனையில் அமைந்துள்ள பெர்த் மற்றும் அடிலைட் பகுதிகளை ஒட்டியுள்ள பிரதேசங்களில் மத்திய தரைக்கடல் காலநிலை நிலவுகிறது. மேலைக் காற்றுகளினால் ஆண்டு முழுவதும் டாஸ்மேனிய தீவு மழையைப் பெறுகிறது.

தாவரங்கள் மற்றும் விலங்கினங்கள் (Flora and Fauna)

ஆஸ்திரேலியா ஒரு அரைவறண்ட காலநிலை பிரதேசமாக இருப்பதால், தாவர வகைகள் மரங்களற்ற, பரவலான புதர் மற்றும் சிறு செடிகளுடன் காணப்படுகிறது. ஒரு பறவைநிலைக் கண்ணோட்டத்துடன் பார்க்கும்பொழுது, ஆஸ்திரேலியா மிகவும் சாதாரண தாவர அமைப்பு பெற்றுள்ளதை புரிந்துகொள்ளலாம். ஆஸ்திரேலியாவில் உள்ள தாவரங்களும், மரங்களும் வறண்ட நிலைக்கு ஏற்றவாறு நீர் இன்றி நீண்ட காலம் வாழக்கூடியவை. இவை வறண்ட நிலத் தாவரங்கள் என்று அழைக்கப்படுகின்றன. இவை நீண்ட கால வறட்சியைத் தாங்கி வளரக் கூடியவை ஆகும். ஆஸ்திரேலியாவின் மேற்கு பகுதியில் அதிகம் காணப்படக்கூடிய

கங்காரு

கோலா

குக்குபாரா

பிளாட்டிபஸ்

பாட்டில் மரம்

வானவில் வண்ணக்கிளிகள்

ஈமு

மெரினோ செம்மறியாடு

VIII_Std_Geography_Unit 7.indd 176 04-03-2023 15:13:16

மரவகை வறட்சியைத் தாங்கி வளரக்கூடிய யூக்கலிப்டஸ் ஆகும். காடுகள் நிறைந்த பகுதிகள் இக்கண்டத்தின் பரப்பளவில் 16 சதவீதத்தைக் காடுகளைக் கொண்டுள்ளன. யூக்கலிப்டஸ், அகேசியா மற்றும் மெல்லுக்கா (சதுப்பு நிலக்காடுகள்) ஆகியவைகள் ஆஸ்திரேலியாவின் முக்கிய மர வகைகளாகும்.

இக்கண்டத்தில் காணப்படும் 80 சதவீத விலங்கினங்கள் உலகின் பிற பகுதிகளில் காணப்படுவதில்லை. ஆஸ்திரேலியாவில் சுமார் 400 வகை பாலூட்டி இனங்களும் சுமார் 140 வகையான வயிற்றில் பையுடைய பாலூட்டி இனங்களும் உள்ளன. இவ்வகையான விலங்கினங்கள் தங்களுடைய குட்டிகளைத் தங்கள் வயிற்றில் உள்ள பைகளில் சுமந்து செல்கின்றன. கங்காரு ஆஸ்திரேலியாவின் தேசிய விலங்காகும். கோலா, பிலேட்டிபஸ் வாலபி மற்றும் டிங்கோ ஆஸ்திரேலியாவின் பிற முக்கிய விலங்கினங்களாகும். சிரிக்கும் கூக்காபரா, ஈமு, ரெயின்போ லோரிகிட் ஆகியவை ஆஸ்திரேலியாவின் முக்கிய பறவை இனங்களாகும்.

உங்களுக்குத் தெரியுமா?

ஆஸ்திரேலியாவில் உள்ள செம்மறி ஆட்டு பண்ணைகளில் பணி புரியும் மக்களை **'ஜாகருஸ்'** என்று அழைக்கப்படுகிறார்கள். ஆஸ்திரேலியாவின் பூர்வ குடிமக்கள் **அபாரிஜின்கள்** ஆவர்.

பொருளாதார நடவடிக்கைகள்

வேளாண்மை, வளம் சார்ந்த தொழில்கள், மீன்பிடித்தல், உற்பத்தி தொழிலகங்கள், வணிகம் மற்றும் சேவைப்பிரிவு ஆஸ்திரேலியாவின் முக்கிய பொருளாதார நடவடிக்கைகளாகும். கோதுமை ஆஸ்திரேலியாவின் முதன்மையான தானியப் பயிராகும். நெல், கரும்பு, மத்திய தரைக்கடல் வகைப் பழங்களான திராட்சை, ஆரஞ்சு மற்றும் வாதாம் பழம், பெர்த், அடிலைட் மற்றும் மெல்பெர்னைச் சுற்றியுள்ள பகுதிகளில் உற்பத்தி செய்யப்படுகிறது. டாஸ்மேனியா **'ஆப்பிள் தீவு'** என்று அழைக்கப்படுகிறது. நெல், புகையிலை, பருத்தி போன்றவை டாஸ்மேனியாவின் வடக்கு பகுதியில் பயிரிடப்படுகிறது. வெப்பம் மிகுந்த பகுதிகளில் வேளாண்மையுடன் செம்மறியாடு வளர்ப்பும் மேற்கொள்ளப்படுகிறது. ஓட்ஸ், மக்காச்சோளம் மற்றும் பார்லி ஆகியவையும் பயிரிடப்படுகின்றன. ஆஸ்திரேலியா திராட்சை மற்றும் பழத்தோட்டங்களுக்கு பெயர் பெற்றதாகும். வெப்ப மண்டல சவானா புல்வெளிகளில் கால்நடை வளர்ப்பும், மிதவெப்ப மண்டல புல்வெளிகளில் ஆடுகள் வளர்ப்பும் மிகுதியாகக் காணப்படுகின்றன.மெரினோ வகை செம்மறி ஆடுகள் தெற்கு ஆஸ்திரேலியா, டாஸ்மேனியா, விக்டோரியா மற்றும் நியூ சவுத்வேல்ஸ் ஆகிய பகுதிகளில் வளர்க்கப்படுகின்றன. பால் உற்பத்திக்கான கால்நடை பண்ணைகள் கிழக்கு மற்றும் தெற்கு கடற்கரைக்கு அருகிலுள்ள நகரங்களுக்கு அருகில் வளர்க்கப்படுகின்றன. ஜெர்சி, இல்லவர்ரா மற்றும் அயர்ஷையர் மாட்டுவகைகள் ஆஸ்திரேலியாவில் மிகவும் புகழ்ப் பெற்றவையாகும்.

மீன்பிடித்தல் ஆஸ்திரேலியாவின் ஒரு முக்கிய பொருளாதார நடவடிக்கையாகும். நாட்டின் அனைத்து பகுதிகளிலும் கடல் மீன் பிடிப்பு நன்கு நடைபெறுகிறது. இங்கு உள்நாட்டு மீன்பிடிப்பும் காடுகள் சார்ந்த பொருளாதார நடவடிக்கைகளும் மிக குறைவு.

உங்களுக்குத் தெரியுமா?

ஆடு வளர்ப்புத் தொழில் ஆஸ்திரேலியாவில் நன்கு வளர்ச்சியடைந்துள்ளது. ஆட்டுஉரோமம் (கம்பளி/ Wool) **"ஆஸ்திரேலியாவின் பணப்பயிர்"** என அழைக்கப்படுகிறது.

கனிம வளங்கள்

கனிமங்கள் ஆஸ்திரேலியாவின் மிக முக்கிய ஏற்றுமதிப் பொருட்களாகும். இவை நாட்டின் மொத்த உள்நாட்டு உற்பத்தியில் சுமார் 10 சதவீத பங்களிப்பை அளிக்கின்றன. பாக்சைட், லிமோனைட், ரூட்டில் மற்றும் சிர்கான் உற்பத்தியில் ஆஸ்திரேலியா உலகின் முன்னணி உற்பத்தியாளராகவும், தங்கம், ஈயம், லித்தியம், மாங்கனீசு, தாது மற்றும் துத்தநாகம் உற்பத்தியில் இரண்டாவது முன்னணி உற்பத்தியாளராகவும், இரும்புத்தாது மற்றும் யுரேனியம் உற்பத்தியில் மூன்றாவது பெரிய

VIII_Std_Geography_Unit 7.indd 177 04-03-2023 15:13:16

உற்பத்தியாளராகவும், நிலக்கரி உற்பத்தியில் நான்காவது பெரிய உற்பத்தியாளராகவும் இந்நாடு திகழ்கிறது. மேற்கு மற்றும் தெற்கு ஆஸ்திரேலியா பகுதிகளில் நிலக்கரி வயல்கள் தென்கிழக்கு கடற்கரை பிரதேசங்களில் நியூகேஸ்டல் முதல் சிட்னி வரை நீண்டு காணப்படுகிறது. இரும்புத்தாது மேற்கு ஆஸ்திரேலியா மற்றும் தெற்கு ஆஸ்திரேலியாவில் காணப்படுகிறது.

பாக்சைட் தாதுவானது கார்ப்பென்டீரியா வளைகுடா, பெர்த் மற்றும் டாஸ்மேனியாவை சுற்றியுள்ள பகுதிகளிலிருந்து எடுக்கப்படுகிறது. பெட்ரோலியம் மற்றும் இயற்கை எரிவாயு பாஸ் நீர்சந்தி மற்றும் மேற்கு பிரிஸ்பேன் பகுதிகளில் கிடைக்கிறது. யுரேனியம் தாது வட யூனியன் பிரதேசத்தில் உள்ள ராம் காடுகள் மற்றும் குயின்ஸ்லாந்து பகுதிகளில் இருந்து பெறப்படுகிறது. மேற்கு பாலைவனப் பகுதியில் கால் கூர்லி மற்றும் கூல் கார்லி பகுதிகளில் தங்கம் வெட்டியெடுக்கப்படுகின்றன. காரியம், துத்தநாகம், வெள்ளி, டங்ஸ்டன், நிக்கல் மற்றும் செம்பு போன்றவை ஆஸ்திரேலியாவின் சில பகுதிகளிலிலிருந்து பெறப்படுகின்றன.

தொழிலகங்கள்

உணவு மற்றும் பானவகை உற்பத்தித் தொழிலகங்கள் ஆஸ்திரேலியாவின் முதன்மையான தொழிற்சாலைகளாகும். கப்பல் கட்டுதல், தகவல் மற்றும் தொழில் நுட்பம், சுரங்கம், விமானம் மற்றும் தொலைத்தொடர்புச் சாதன தொழிலகங்கள் முக்கிய தொழிலகங்களாகும்.

> **செயல்பாடு**
>
> ஆஸ்திரேலியாவின் 8 பாலைவனங்களை புவி வரைபட உதவியுடன் பட்டியலிடவும்.

> **உங்களுக்குத் தெரியுமா?**
>
> ஆஸ்திரேலியாவின் மித வெப்ப மண்டல புல்வெளிகள் **'டவுன்ஸ்'** (Downs) என்று அழைக்கப்படுகிறது.

போக்குவரத்து

ஆஸ்திரேலியாவில் பலவகையான போக்குவரத்து அமைப்புகள் காணப்படுகின்றன. இந்நாடு சாலைப் போக்குவரத்தைப் பெரிதும் நம்பியுள்ளது. ஆஸ்திரேலியா 30க்கும் மேற்பட்ட நல்ல ஓடுதளங்களுடன் கூடிய விமான நிலையங்களைக் கொண்டுள்ளது. இந்நாட்டின் பயணிகள் இரயில் போக்குவரத்து நகரங்களில் நன்கு வளர்ச்சியடைந்திருந்தாலும், நகரங்களுக்கு இடையிலும், மாநிலங்களுக்கிடையிலுமான இரயில் போக்குவரத்துச் சற்றே வளர்ச்சி குறைந்து காணப்படுகிறது.

மக்கள் தொகை

ஆஸ்திரேலியாவின் மக்கள் தொகை 2019ஆம் ஆண்டு கணக்கெடுப்பின்படி 25.2 மில்லியன்களாகும். இது உலக மக்கள் தொகையில் 0.33% மட்டுமேயாகும். ஆஸ்திரேலியாவின் மக்களடர்த்தி ஒரு சதுர கிலோ மீட்டருக்கு மூன்று நபர்களாகும். நாட்டின் நகர்ப்புற மக்கட்தொகை 85.7 சதவீதமாகும். தென் கிழக்குப் பகுதிகள் மக்களடர்த்தி மிகுந்த பகுதியாகும்.

அண்டார்டிகா

அமைவிடம் மற்றும் பரப்பளவு

அண்டார்டிகா ஒரு தனித்துவம் வாய்ந்த கண்டமாகும். ஆனால் இக்கண்டம் பூர்வீக மக்களைக் கொண்டிருக்கவில்லை. அண்டார்டிகாவில் எந்த ஒரு நாடும் இல்லை. இது தென்கோடியில் அமைந்துள்ள உலகின் ஐந்தாவது பெரிய கண்டமாகவும், இது துருவப் பகுதியில் அமைந்துள்ளதால், இப்பகுதி நிரந்தர பனியுடன் மிக குளிர்ந்த பிரதேசமாக உள்ளது. இக்கண்டமானது இந்திய, அட்லாண்டிக் மற்றும் பசிபிக் பெருங்கடல்களின் தென்பகுதிகளால் புவியின் மற்ற பகுதிகளிலிருந்து பிரிக்கப்படுகிறது. இது 14 மில்லியன் சதுர கிலோமீட்டர் பரப்புடன், புவியின் மொத்த நிலப்பரப்பில் 9.3 சதவீதத்தைக் கொண்டுள்ளது. இக்கண்டத்தின் நிலத்தோற்றம் சில மலைத்தொடர்கள், சிகரங்கள், பள்ளத்தாக்குகள், பனியாறுகள், பீடபூமிகள் மற்றும் எரிமலைகளை உள்ளடக்கியதாகும். 3200 கிலோ மீட்டர் நீளம் கொண்ட டிரான்ஸ் அண்டார்டிக் மலைத்தொடர் இக்கண்டத்தை இரு பகுதிகளாக பிரிக்கின்றது.

1. மேற்கு அண்டார்டிகா
2. கிழக்கு அண்டார்டிகா

மேற்கு அண்டார்டிகா பகுதி பசிபிக் பெருங்கடலை நோக்கி அமைந்துள்ளது. தென் அமெரிக்காவை நோக்கியுள்ள அண்டார்டிக் தீபகற்பம் ஆண்டிஸ் மலைத்தொடரின்

VIII_Std_Geography_Unit 7.indd 178 04-03-2023 15:13:16

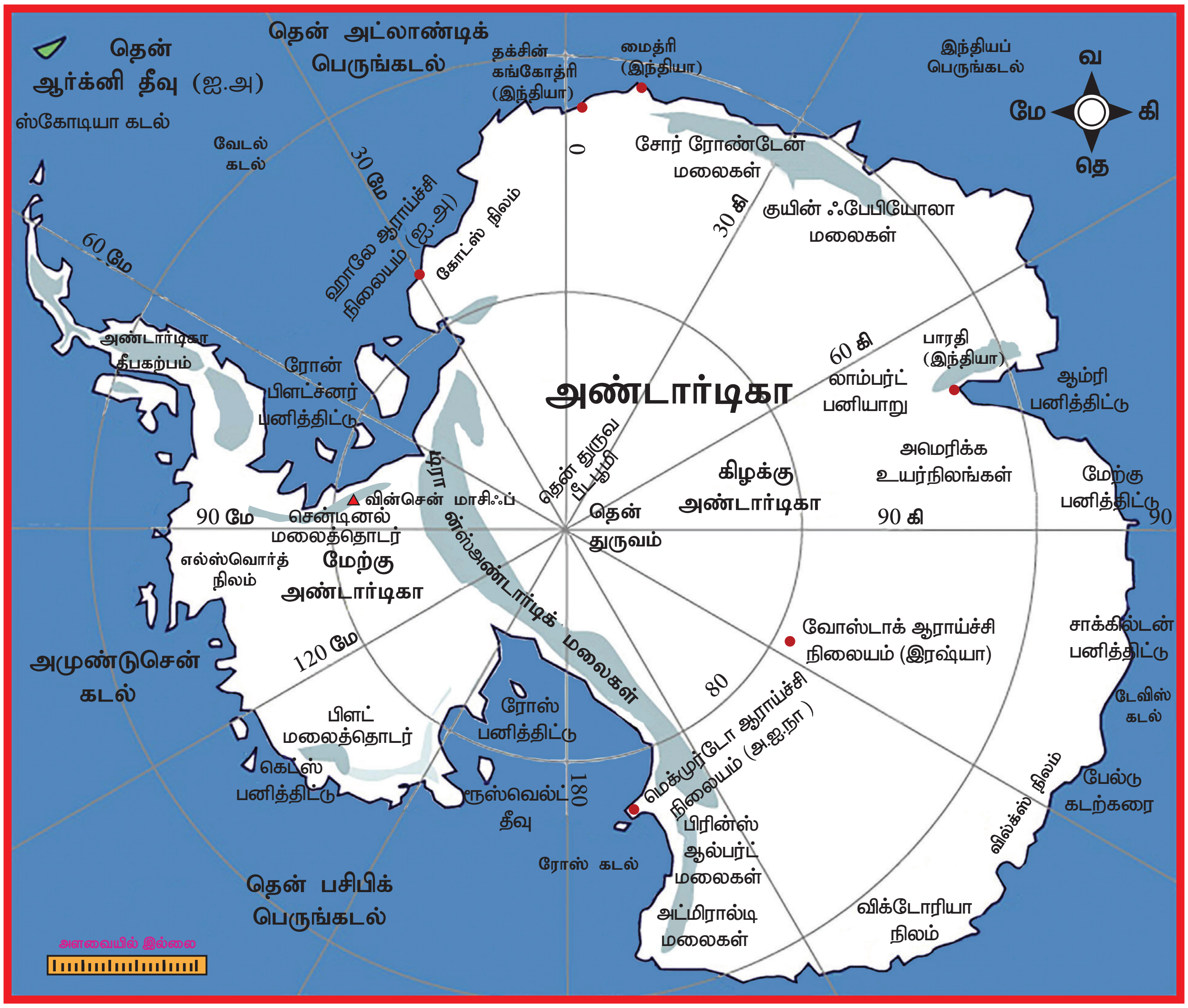

> **உங்களுக்குத் தெரியுமா?**
>
> உலகின் எந்த ஒரு நாட்டின் அறிவியல் ஆராய்ச்சியாளர்களும் அண்டார்டிகாவில் ஆய்வுகள் மேற்கொள்ளவும், தரவுகள் சேகரிக்கவும் அனுமதிக்கப்படுகிறார்கள். எனவே இக்கண்டம் **'அறிவியல் கண்டம்'** என அழைக்கப்படுகிறது.

நீட்சி என்பதை உணர்த்துகிறது. கிழக்கு அண்டார்டிகா பகுதி, அட்லாண்டிக் மற்றும் இந்தியப் பெருங்கடல்களை நோக்கி அமைந்துள்ளது. இப்பகுதியின் ரோஸ் தீவில் அமைந்துள்ள மவுண்ட் எரிபஸ் ஒரு செயல்படும் எரிமலை ஆகும். "வெள்ளைக் கண்டம்' என அழைக்கப்படும் ஒரே கண்டம் இதுவாகும். இக்கண்டத்தின் சில இடங்களில் பனிக்கட்டிகள் 4000 மீட்டர் ஆழம் வரை காணப்படுகிறது.

கால நிலை

புவிநடுக்கோட்டிற்கு வெகு தொலைவில் அமைந்துள்ளதால் அண்டார்டிகாவின் காலநிலையானது உறைநிலைக் காலநிலையாக காணப்படுகிறது. மே, ஜூன் மற்றும் ஜூலை மாதங்களில் (அண்டார்டிகாவின் குளிர்காலம்) சூரியன் ஒரு போதும் இங்கு உதிப்பதில்லை. ஆகையால் தென்துருவத்தில் வெப்பநிலை சுமார் –90° செல்சியஸ் ஆக இருக்கும். கோடை மாதங்களான டிசம்பர், ஜனவரி மற்றும் பிப்ரவரியில் சூரியன் ஒருபோதும் மறைவதில்லை. என்பதால் தொடர்ந்து பகலாகவே இருக்கும். இங்கு கோடைகால வெப்ப நிலையானது 0° செல்சியஸ் ஆக உள்ளது இதனால் ஆண்டு முழுவதும் கடும் குளிரும் பனி புயல் காற்றும் வீசுகிறது.

> **உங்களுக்குத் தெரியுமா?**
>
> அண்டார்டிகா, புவியின் மேற்பரப்பில் காணப்படும் மிகப்பெரிய பனித் தொகுப்பு ஆகும். புவியில் காணப்படும் நன்னீரில் 70% இக்கண்டத்தில் பனிக் குமிழ்களாக உள்ளது.

பென்குவின்

நீர்நாய்

பனிகடற்சிங்கம்

அல்பட்ரோஸ்

துருவப்பருந்து

நீலத் திமிங்கலம்

தாவரங்கள் மற்றும் விலங்கினங்கள்

இக்கண்டத்தில் வெப்பநிலையானது ஆண்டு முழுவதும் உறை நிலைக்கு கீழே இருப்பதால் பெரிய தாவரங்கள் எதுவும் காணப்படவில்லை. சிறிய வகை தாவரங்களான பாசிகள், படர் பாசிச்செடிகள், நுரைப் பாசிகள், மரப் பாசிகள், நுண்ணிய பூஞ்சைகள் போன்றவைகள் பனியை தாங்கி வளர்கின்றன. சில பாசி வகைகள் பனிகளற்ற கடலோர பாறை நிலங்களில் காணப்படுகின்றன. பிளாங்டன், பாசிகள் மற்றும் மரப்பாசிகள் அண்டார்டிகாவில் உள்ள நன்னீர் மற்றும் உவர் நீர் ஏரிகளில் காணப்படுகின்றன.

சிறியவகை செம்மீன்களான கிரில்கள் பெரிய திரள்களாகக் காணப்படுகின்றன. இவை கடல்வாழ் உயிரினங்களுக்கு உணவாகப் பயன்படுகின்றன. திமிங்கலம், பனிகடற்சிங்கம், நீர்நாய் போன்ற கடல் விலங்கினங்கள், கடல் பறவைகளான பென்குவின், அல்பட்ராஸ், போலார் ஸ்குவா மற்றும் ஸ்டவுட் ஆகியன இங்கு காணப்படுகின்றது. மிகப்பெரிய கடல் வாழ் உயிரினமான நீலத்திமிங்கலம் பிளாங்டன்களை உணவாக உட்கொள்கிறது. இங்குள்ள அனைத்து விலங்குகள் மற்றும் பறவைகளும் குளிர்கால நிலையை எதிர்கொள்ள தங்கள் உடலில் புளுபர் (Blubber) எனப்படும் அடர்த்தியான கொழுப்பு அடுக்கினை கொண்டுள்ளன. பென்குயின் பறவைகளால் பறக்க இயலாது. இவைகளுக்கு இறக்கைகளுக்குப் பதிலாக நீந்துவதற்குப் பயன்படும் பிலிப்பர் (Flipper) மற்றும் தோலிலைப் பொதியுடைய அகலமான பாதங்களைக் கொண்டுள்ளன. சிறிய முதுகெலும்பற்ற உயிரினங்கள் இக்கண்டத்தின் நிலவாழ் விலங்கினங்களாகும்.

உங்களுக்குத் தெரியுமா?

அண்டார்டிகாவிலுள்ள உயரமான சிகரம் வின்சன் மாஸிப் (5140மீ) இது இக்கண்டத்தின் சென்டினல் மலைத்தொடரின் தென்பகுதியில் அமைந்துள்ளது. இக்கண்டத்திலுள்ள லாம்பர்ட் பனியாறு உலகின் மிகப்பெரிய பனியாறாகும்.

கனிமங்கள்

அண்டார்டிகா கண்டத்தில், தங்கம், பிளாட்டினம், நிக்கல், தாமிரம் மற்றும் பெட்ரோலியம் நிறைந்து இருக்கலாம் என்று அறிவியல் ஆய்வுகள் தெரிவிக்கின்றன. குரோமியம், ஈயம், மாலிப்டினம், தகரம்,

VIII_Std_Geography_Unit 7.indd 180 04-03-2023 15:13:17

யுரேனியம் மற்றும் துத்தநாகம் ஆகியவை இருப்பதற்கான தடயங்கள் காணப்படுகின்றன. மேலும் வெள்ளி, பிளாட்டினம், இரும்புத்தாது, கோபால்ட், மாங்கனீசு, டைட்டானியம் ஆகியவை இருப்பதற்கான சாத்தியக் கூறுகளும் உள்ளன. நிலக்கரி மற்றும் ஹைட்ரோகார்பன்கள் வாணிபத்திற்குப் பயன்படாத அளவு மிகக் குறைவாக உள்ளது.

சர்வதேச ஒப்பந்தத்தின்படி இக்கண்டத்தில் காணப்படும் கனிமங்கள் வெட்டி எடுக்க அனுமதி இல்லை என்பதால் இங்கு கனிம வளங்களை வெட்டி எடுக்கும் பணி நடைபெறுவதில்லை.

அண்டார்டிகாவிற்கான பயணம்

மைத்ரி ஆராய்ச்சி நிலையம் (அண்டார்டிகா)

1912 ஆம் ஆண்டு ஆங்கில மற்றும் நார்வே நாட்டுக் குழுவினர் தென்துருவத்தை அடைந்தனர். இந்தியாவின் 21 உறுப்பினர்களைக் கொண்ட பயணக் குழு டாக்டர் எஸ்.இஸட். காசிம் அவர்களின் தலைமையில் அண்டார்டிகாவிற்குப் பயணம் மேற்கொண்டனர். இக்குழு 1981 டிசம்பர் 6ஆம் நாள் கோவாவில் இருந்து புறப்பட்டு 1982 ஜனவரி 9ஆம் நாள் அண்டார்டிகாவைச் சென்றடைந்தது. அங்கு இக்கண்டத்தின் முதல் இந்திய அறிவியல் ஆராய்ச்சி நிலையம் தட்சின் கங்கோத்ரி நிறுவப்பட்டது. மைத்ரேயி மற்றும் பாரதி அண்டார்டிகாவில் உள்ள பிற இந்திய ஆராய்ச்சி நிலையங்களாகும்.

> உங்களுக்குத் தெரியுமா?
>
> 1. அண்டார்டிகாவில் உள்ள மிகப் பெரிய ஆராய்ச்சி நிலையமான **மெக்முர்டோ** ஆகும். இது அமெரிக்க ஐக்கிய நாடுகளால் அமைக்கப்பட்டுள்ளது.
>
> 2. அண்டார்டிகாவில் அமைக்கப்பெற்ற முதல் இந்திய அறிவியல் ஆராய்ச்சி நிலையம் **தட்சின் கங்கோத்ரி** ஆகும்.

அரோரா (விண்ணொளி)

அலாஸ்கா (அரோரா பொரியாலிஸ்)

வட மற்றும் தென் காந்த துருவங்களுக்கு அருகில் இயற்கையில் தோன்றும் பிரகாசமான இளஞ்சிவப்பு, சிவப்பு நிற மற்றும் பச்சை நிற ஒளியின் கலவை அரோரா என்று அழைக்கப்படுகிறது. இவ்விளைவானது சூரியனிலிருந்து வரும் மின்னூட்ட துகள்கள் வளிமண்டல மேலடுக்கிலுள்ள அணுக்களுடன் வினைப்புரிவதால் உண்டாகிறது. இது தென்துருவத்தில் அரோரா ஆஸ்ட்ராலிஸ் அல்லது தென்துருவ ஜோதி எனவும் வட துருவத்தில் அரோரா பொரியாலிஸ் அல்லது வடதுருவ ஜோதி எனவும் அழைக்கப்படுகிறது. இவ்வாறான வண்ண ஒளிக்கீற்றுகள் குறிப்பாக உயர் அட்சங்களில் அமைந்துள்ள நாடுகளான வடக்கிலுள்ள அலாஸ்கா மற்றும் தென் துருவத்தில் அமைந்துள்ள நியூசிலாந்தின் பாக்லாந்து தீவுப்பகுதிகளில் காணலாம்.

நியூசிலாந்து (அரோரா அஸ்ட்ராலிஸ்)

VIII_Std_Geography_Unit 7.indd 181 04-03-2023 15:13:17

மீள்பார்வை

- ❖ ஆப்பிரிக்க கண்டம், மலைகள், பீடபூமிகள், சமவெளிகள் எனப் பல்வேறு நிலஅமைப்புகளைக் கொண்டுள்ளது.
- ❖ ஆஸ்திரேலியா உலகின் மிகப்பெரிய தீவு மற்றும் மிகச் சிறிய கண்டமாகும்.
- ❖ புவியின் தென் பகுதியில் அமைந்துள்ள அண்டார்டிகா உலகின் ஐந்தாவது பெரிய கண்டமாகும்.
- ❖ சூரியனிலிருந்து வரும் மின்னூட்ட துகள்கள் வளிமண்டல மேலடுக்கிலுள்ள அணுக்களுடன் வினைபுரிவதால் அரோரா உண்டாகிறது.

கலைச்சொற்கள்

கண்டம்	மிகப்பரந்த ஒரு நிலப்பரப்பு	Continent
நீர்ச்சந்தி	இரண்டு பெரிய நீர்ப்பரப்புகளை இணைக்கும் ஒரு குறுகிய நீர் பகுதி மற்றும் இரு நிலப்பரப்புகளை பிரிப்பது.	Strait
நிலச்சந்தி	இரு பெரிய நிலப்பரப்புகளை இணைக்கும் ஒரு குறுகிய பகுதி மற்றும் இருநீர் பகுதியைப் பிரிப்பது	Isthmus
வளைகுடா	வளைகுடா என்பது நிலப்பரப்பை ஊடுருவி நீண்டு காணப்படும் கடல் நீர்ப்பரப்பு	Gulf
பிளவு பள்ளத்தாக்கு	இரண்டு மலைகளுக்கு இடையே அமைந்த நீள் வடிவ தாழ்நிலம்	Rift Valley
பவளப்பாறை	கால்சியம் கார்பனேட்டைக் கொண்ட ஒரு மெல்லிய அடுக்கு	Reef
சிறு அருவி	சிறு ஓங்கல்களில் இருந்து வேகமாக பாயும் நீர்	Cataracts
சுண்ணாம்புப் பாறை தூண்	ஆஸ்திரேலிய பாலைவனங்களில் காணப்படும் சுண்ணாம்பு பாறை தூண்கள்	Pinnacles
மணற்பாங்கான சமவெளி	வறண்ட நிலப்பகுதிகளில் மணல் மற்றும் கூழாங்கற்கள் நிறைந்த சமவெளி	Regs
ஹமாடா	பாறை மற்றும் கற்களால் உயர்த்தப்பட்ட பீடபூமி	Hamada
பாலைவனச் சோலை	பாலைவனப் பிரதேசங்களில் காணப்படும் நீர்நிலைகள்	Oases

மதிப்பீடு

I சரியான விடையைத் தேர்ந்தெடுக்கவும்

7N28FF

1. ஆப்பிரிக்காவின் தென்கோடி முனை ________
   அ) கேப் பிளாங்கா
   ஆ) அகுல்காஸ் முனை
   இ) நன்னம்பிக்கை முனை
   ஈ) கேப் டவுன்

2. எகிப்திற்கும் சினாய் தீபகற்பத்திற்கும் இடையில் ஒரு நிலச்சந்தி வழியாக உருவாக்கப்பட்ட செயற்கை கால்வாய் ________
   அ) பனாமா கால்வாய்
   ஆ) அஸ்வான் கால்வாய்
   இ) சூயஸ் கால்வாய்
   ஈ) ஆல்பர்ட் கால்வாய்

3. மத்திய தரைக்கடல் காலநிலையோடு தொடர்புடைய பின்வரும் கூற்றுகளைக் கருத்தில் கொண்டு சரியான விடையைத் தேர்வு செய்க.
   (i) சராசரி மழையளவு 15 செண்டிமீட்டர்.

VIII_Std_Geography_Unit 7.indd 182 04-03-2023 15:13:18

(ii) கோடைகாலம் வெப்பமாகவும் வறண்டதாகவும் குளிர்காலம் மழையுடனும் இருக்கும்.

(iii) குளிர்காலம் குளிர்ச்சியாகவும், வறண்டும், கோடை வெப்பமாகவும், ஈரப்பத்துடனும் இருக்கும்.

(iv) சிட்ரஸ் வகை பழங்கள் வளர்க்கப்படுகின்றன.

அ) i சரியானது

ஆ) ii மற்றும் iv சரியானவை

இ) iii மற்றும் iv சரியானவை

ஈ) அனைத்தும் சரியானவை

4. ஆஸ்திரேலியாவின் மேற்கு மற்றும் கிழக்கு நோக்கி பாயும் ஆறுகளை பிரிக்கும் மலைத்தொடர் ________

அ) பெரிய பிரிப்பு மலைத்தொடர்

ஆ) இமய மலைத்தொடர்

இ) பிளிண்டர்கள் மலைத்தொடர்

ஈ) மெக்டோனெல் மலைத்தொடர்

5. கல்கூர்லி சுரங்கம் ________ கனிமத்திற்குப் புகழ்பெற்றது.

அ) வைரம் ஆ) பிளாட்டினம்

இ) வெள்ளி ஈ) தங்கம்

II கோடிட்ட இடங்களை நிரப்புக

1. அட்லஸ் மலை ________ கண்டத்தில் அமைந்துள்ளது.
2. ஆப்பிரிக்காவின் மிக உயரமான சிகரம் ________ ஆகும்.
3. ஆஸ்திரேலியாவில் அதிகம் காணப்படும் மரம் ________.
4. ஆஸ்திரேலியாவில் உள்ள மிதவெப்ப மண்டல புல்வெளிகள் ________ என அழைக்கப்படுகின்றன.
5. அண்டார்டிகாவில் நிறுவப்பட்ட முதல் இந்திய ஆய்வு நிலையம்________.

III பொருத்துக

1. பின்னாக்கல் – புவியிடைக் கோட்டுக்காடுகள்
2. கிரில் – உப்பு ஏரி
3. நெருப்புக்கோழி – சிறிய செம்மீன்
4. ஐரி ஏரி – பறக்க இயலாத பறவை
5. புவியின் அணிகலன் – சுண்ணாம்பு பாறை தூண்கள்

IV சரியான கூற்றைத் தேர்வு செய்யவும்

1. **கூற்று:** அரோரா என்பது வானத்தில் தோன்றும் வண்ண ஒளிகள் ஆகும்.

காரணம்: அவை வளிமண்டலத்தின் மேலடுக்குக்காந்தபுயலால்ஏற்படுகின்றன.

அ) கூற்று மற்றும் காரணம் உண்மை, கூற்று காரணத்திற்கான சரியான விளக்கம்.

ஆ) கூற்று மற்றும் காரணம் உண்மை கூற்று காரணத்திற்கான சரியான விளக்கம் அல்ல.

இ) கூற்று உண்மை ஆனால் காரணம் தவறு.

ஈ) காரணம் உண்மை ஆனால் கூற்று தவறு.

2. **கூற்று:** ஆப்பிரிக்காவின் நிலவியல் தோற்றங்களில் ஒரு முக்கிய அம்சம் பெரிய பிளவுப் பள்ளத்தாக்கு ஆகும்.

காரணம்: புவியின் உள்விசை காரணமாக புவியின் மேற்பரப்பில் உண்டான பிளவு.

அ) கூற்று மற்றும் காரணம் சரி கூற்றுகான காரணம் சரியான விளக்கம்.

ஆ) கூற்று காரணம் இரண்டும் சரி ஆனால் கூற்றுகான காரணம் சரியான விளக்கம் அல்ல.

இ) கூற்று சரி ஆனால் காரணம் தவறு.

ஈ) காரணம் சரி ஆனால் கூற்று தவறு.

V சுருக்கமாக விடையளி

1. ஆப்பிரிக்கா 'தாய் கண்டம்' என அழைக்கப்படுவது ஏன்?
2. ஆப்பிரிக்காவின் முக்கியமான ஆறுகள் யாவை?
3. ஆஸ்திரேலியாவின் நிலத்தோற்ற பிரிவுகள் யாவை?
4. அண்டார்டிகா கண்டத்தின் தன்மை குறித்து எழுதவும்.
5. ஆஸ்திரேலியாவின் பொருளாதார நடவடிக்கைகள் ஏதெனும் நான்கினைக் குறிப்பிடுக.

VI வேறுபடுத்துக

1. சாஹேல் மற்றும் சகாரா
2. மேற்கு அண்டார்டிகா மற்றும் கிழக்கு அண்டார்டிகா
3. பெரிய பவளத் திட்டு மற்றும் ஆர்டீசியன் வடிநிலம்.

VII காரணம் கூறு

1. எகிப்து நைல் நதியின் நன்கொடை என அழைக்கப்படுகிறது ஏன்?

2. வெப்ப பாலைவனங்கள் கண்டங்களின் மேற்கு விளிம்புகளில் அமைந்துள்ளன.
3. அண்டார்டிகா ஆராய்ச்சியாளர்களின் கண்டம் என அழைக்கப்படுகிறது.

VIII விரிவான விடையளி

1. ஆஸ்திரேலியாவின் கனிம வளங்கள் குறித்து விரிவாக எழுதவும்.
2. அண்டார்டிகா கண்டத்தின் தாவரங்கள் மற்றும் விலங்கினங்கள் பற்றி விவரி?
3. ஆப்பிரிக்காவின் இயற்கைப் பிரிவுகளை எழுதி அவற்றில் ஏதேனும் ஒன்றினை விளக்கவும்.

IX வரைபடப் பயிற்சி

ஆப்பிரிக்கா மற்றும் ஆஸ்திரேலியாவின் புறஎல்லை வரைபடத்தில் பின்வருவனவற்றைக் குறிக்கவும்

ஆப்பிரிக்கா: புவிநடுக்கோடு, அட்லஸ் மலை, சஹாரா, கிழக்கு உயர் நிலங்கள், மத்திய தரைக்கடல், அட்லாண்டிக் பெருங்கடல், இந்தியப் பெருங்கடல், சூயஸ் கால்வாய், கிளிமஞ்சாரோ சிகரம்,

ஆஸ்திரேலியா: பெரிய பிரிவு மலைத்தொடர், பெரிய பவளத் திட்டு, பிளவுப் பள்ளத்தாக்கு, டாஸ்மேனியா, மகரரேகை, பசிபிக் பெருங்கடல், பெரிய ஆஸ்திரேலிய மணல் பாலைவனம், இந்தியப் பெருங்கடல், சிட்னி, கான்பெரா.

X செயல்பாடுகள்

1. கீழ்க்கண்ட நாடுகளில் டிசம்பர் மாத பருவநிலை மற்றும் அது எந்த கோளத்தில் அமைந்துள்ளது என்பதனை கண்டறியவும்.

நாடுகள்	கோளம்	பருவ நிலை
தென் ஆப்பிரிக்கா		
மொராக்கோ		
ஆஸ்திரேலியா		
நைஜர்		
எகிப்து		
டாஸ்மேனியா		
இந்தியா		

2. ஆஸ்திரேலிய அரசியல் புவிவரைபடத்தில் உள்ள மாநிலங்களின் பெயர்களைக் எழுதவும்.

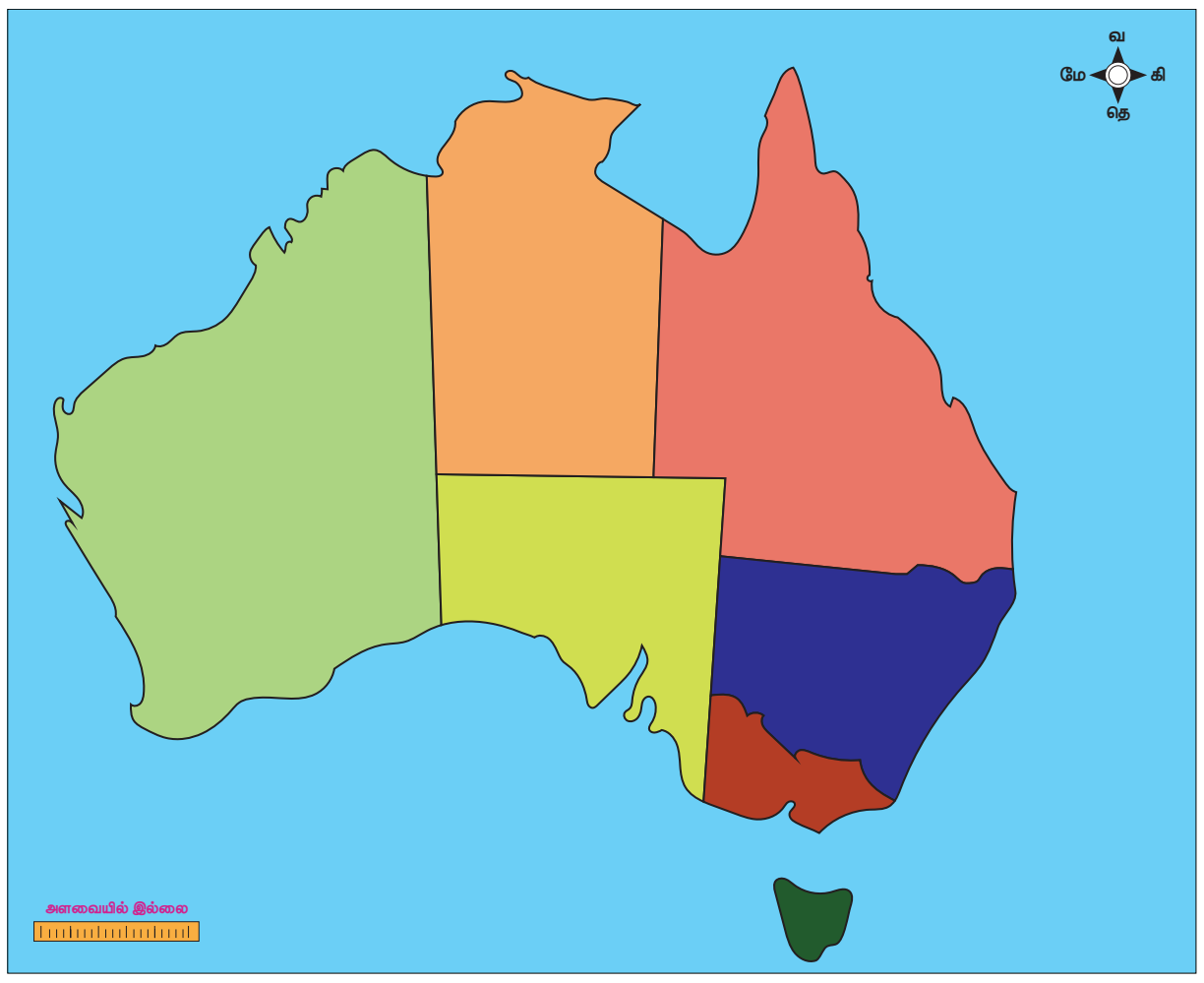

மேற்கோள் நூல்கள்

1. Richard G. Boehm (2002), *World Geography*, Texas Edition McGraw Hill/Glencoe, USA.
2. Jojo Mathew (2017), *India and World Geography*, Wizard India private limited, New Delhi.
3. Majid Husain (2017) *India and World Geography*, McGraw Hill education series private India limited, New Delhi.

இணையதள வளங்கள்

1. https//www.gph.gov.an.pups
2. https//www.worldatlas.com
3. https//www.blogs.nasa.gov
4. https//www.worldwildlife.org
5. https//books.google.com.in.
6. www.waterencyclopedia.com
7. www.worldometers.info
8. www.agriculture.gov.aub.national
9. https://www.queensland.com
10. www.dk.com concise atlas of the world
11. https://www.earthobservatory .nasa.gov.

VIII_Std_Geography_Unit 7.indd 184 04-03-2023 15:13:18

அலகு - 8

புவிப்படங்களைக் கற்றறிதல்

கற்றலின் நோக்கங்கள்

- புவிப்படங்களையும், புவி மாதிரியையும் ஒப்பிடுதல்
- புவிப்படங்களின் கூறுகளை அடையாளம் காணுதல்
- புவிப்பட அளவைகளைக் குறிக்கும் முறைகளைத் தெரிந்து கொள்ளல்
- புவிப்படங்களில், குறியிடுகள் எவ்வாறு பயன்படுத்தப்படுகின்றனர் என்பதை விவரித்தல்
- பல்வேறு வகையான புவிப்படங்களைப் புரிந்து கொள்ளல்

அறிமுகம்

புவி மாதிரிகளைப் போல், புவி வரைபடங்களும் புவியியலாளர்களுக்கு ஒரு முக்கிய கருவியாகும். பல்வேறு இடங்களை ஒப்பீடு செய்யவும், மக்களின் நடவடிக்கைகளை அவர்களின் வாழ்விடங்களுடன் ஒப்பீடு செய்யவும் புவிப்படங்கள் பயன்படுகின்றன. புவிப்படவியளாளர்கள் புவிப்படங்களை மிகச்சுருக்கமாக சித்தரிக்கும் பொருட்டு பல்வேறு முறைகளை கையாளுகின்றனர். உலகம் முழுவதும் உள்ள மக்கள் படித்து புரிந்துகொள்ளும் வகையில் புவிப்படங்களை வடிவமைக்கின்றனர்.

புவிப்படம் என்றால் என்ன?

புவிப்படம் என்பது முழுப்புவியையோ அல்லது புவியின் ஒரு பகுதியையோ ஒரு சமதளப்பரப்பில் அளவையுடன் பதிலீட்டுக் காட்டும் ஒரு முறையாகும். ஒரு குறிப்பிட்ட இடத்தில் உள்ள விவரங்களைக் குறிப்பாக புவியியல் சார்ந்த விவரங்களைத் தெளிவாக காண்பிப்பதே புவிப்படத்தின் பணியாகும்.

புவிப்படத்தை கற்றறிதல் (Map reading)

புவிப்படத்தைக் கற்றறிதல் என்பது புவிப்படத்தில் உள்ள விவரங்களைப் புரிந்துகொள்ளுதல் அல்லது புவியியல் சார்ந்த விவரங்களை விவரணம் செய்தல் ஆகும். புவிப்படத்தைக் கற்றலின் மூலம் புவிப்படக் குறியீடுகளைப் பயன்படுத்தி ஒருவர் புவியின் மன வரைபடத்தை உருவாக்கும் திறனைப் பெறுகிறார்.

புவிப்படத்திற்கும் புவிக்கோள மாதிரிக்கும் இடையேயான வேறுபாடு

புவிப்படமும் புவிக்கோள மாதிரியும் பெரிய அளவில் வேறுபடுகின்றன. புவிப்படங்கள் புவியின் இருபரிமாண சித்தரிப்பாகும். புவிக்கோள மாதிரியானது புவியை

புவி மாதிரி

VIII_Std_Geography_Unit 8.indd 185 12/3/2022 11:06:43 AM

உலகம்
வ
தெ
கி
மே
ஆர்க்டிக் பெருங்கடல்
வட பசிபிக் பெருங்கடல்
வட அட்லாண்டிக் பெருங்கடல்
தென் அட்லாண்டிக் பெருங்கடல்
தென் பசிபிக் பெருங்கடல்
இந்தியப் பெருங்கடல்
தென் பெருங்கடல்
கடகரேகை
பூமத்தியரேகை
மகரரேகை
அலாஸ்கா (அ.ஐ.நா)
கனடா
அமெரிக்க ஐக்கிய குடியரசு
மெக்ஸிகோ
கிரீன்லாந்து (டென்மார்க்)
ஐஸ்லாந்து
பிரேசில்
பொலிவியா
பெரு
ஈக்குவடார்
சிலி
பராகுவே
அர்ஜென்டினா
செனிகல்
மாலி
நைஜர்
அல்ஜீரியா
லிபியா
எகிப்து
சாட்
சூடான்
எத்தியோப்பியா
கென்யா
உகாண்டா
தான்சானியா
அங்கோலா
நமிபியா
தென் ஆப்பிரிக்கா
மடகாஸ்கர்
இரஷ்யா
கசகிஸ்தான்
மங்கோலியா
சீனா
ஜப்பான்
இந்தியா
ஈரான்
ஈராக்
சவுதி அரேபியா
ஏமன்
ஓமன்
அரபிக் கடல்
வங்காள விரிகுடா
வியட்நாம்
பிலிப்பைன்ஸ்
மலேசியா
இந்தோனேஷியா
ஆஸ்திரேலியா
நியூ ஸிலாந்து
அளவையில் இல்லை

முப்பரிமாணத்தில் சித்தரிக்கின்றது. இது புவியின் வடிவிலான ஒரு சிறிய தோற்றமாகும் (புவி மாதிரி).

உங்களுக்குத் தெரியுமா?

புவிப்படங்களைக் கற்றறிதல் மற்றும் புவிப்பட உருவாக்க நுணுக்கங்கள் பற்றி விளக்கும் பாடப் பிரிவு புவிப்படவியல் எனப்படும். இது புவிப்பட உருவாக்குதலின் அறிவியல் சார்ந்த ஒரு கலைநுட்பமாகும்.

புவிப்படத்தின் கூறுகள் (Components of Map)

கீழ்க்கண்டவை ஒரு புவிப்படத்தின் அடிப்படைக் கூறுகளாகும். 1. தலைப்பு (Title), 2. புவிப்பட அளவை (Scale), 3. புவிப்பட விளக்கம் அல்லது திறவு விசை (Legend or key), 4. திசைகள் (Directions), 5. புவிப்படமூலம் (Source), 6. புவிப்பட கோட்டுச் சட்டம் மற்றும் அமைவிட குறிப்பு (Map projection and Locational information), 7. மரபுக் குறியீடுகள் மற்றும் சின்னங்கள் (conventional signs and symbols).

1. தலைப்பு (Title)

புவிப்படத்தில் கொடுக்கப்பட்டுள்ள உள்ளடக்கம் குறித்துக் கூறுவது தலைப்பாகும். பொதுவாக தலைப்பானது புவிப்படத்தில் மேல் அல்லது கீழே உள்ள ஒரு விளிம்புப் பகுதியில் கொடுக்கப்பட்டிருக்கும்.

2. புவிப்பட அளவை (Scale)

புவிப்பட அளவை என்பது புவிப்பரப்பில் உள்ள தொலைவிற்கும் புவிப்படப்பரப்பில் உள்ள தொலைவிற்கும் இடையிலான விகிதத்தைக் குறிப்பதாகும். புவியை அதே அளவில் புவிப்படத்தில் வரைய இயலாது, இதனால் புவியின் அளவானது ஒரு விகிதாச்சார அடிப்படையில் குறைக்கப்பட்டு புவிப்படமாக்கப்படுகிறது. இதனால் புவிப்படங்கள் அளவைகளைக் கொண்டு உருவாக்கப்படுகின்றன. பொதுவாக அளவையானது ஒரு கோட்டுப் பட்டை மற்றும் எண் அளவையில் குறிக்கப்பட்டு அவை புவிப்பட தலைப்பின் கீழோ அல்லது புவி படத்தின் கீழ் பகுதியிலோ கொடுக்கப்பட்டிருக்கும். புவிப்படங்கள், பரப்பின் அடிப்படையில் சிறிய அளவை புவிப்படங்கள் மற்றும் பெரிய அளவை புவிப்படங்கள் எனப் பிரிக்கலாம்.

சிறிய அளவை புவிப்படங்கள் (Small scale maps)

கண்டங்கள் அல்லது நாடுகள் போன்ற பெரிய நிலப்பகுதிகளைக் காண்பிக்கச் சிறிய அளவை புவிப்படங்கள் பயன்படுத்தப்படுகின்றன. இடப்பற்றாக்குறையின் காரணமாக இவ்வகை புவிப்படத்தில் சிறு விவரங்கள் தவிர்க்கப்பட்டு பெரும் அளவிலான தோற்றங்களை மட்டும் காண்பிக்கப்படுகின்றன. உதாரணமாக உலக இயற்கை அமைப்பு, புவிப்படத்தில் மிகப்பெரிய நிலத்தோற்றங்கள் மட்டுமே காண்பிக்கப்படுகின்றன. இவ்வகைப் புவிப்படங்கள் அதிக பரப்பை உள்ளடக்கியதாக இருந்தாலும் குறைந்த தகவல்களையே அளிக்கின்றன.

பெரிய அளவை புவிப்படங்கள் (Large scale maps)

சிறிய பகுதிகளான வட்டம் அல்லது மாவட்டம் போன்றவற்றைக் காண்பிக்க பெரிய அளவை புவிப்படங்கள் பயன்படுத்தப்படுகின்றன. இப்புவிப்படங்கள் சிறிய அளவை புவிப்படங்களை விட அதிக விவரங்கள் தருகின்றன. உதாரணமாக இந்திய இயற்கை அமைப்பு வரைபடம் உலகின் ஒரு நிலப்பகுதியைக் காண்பிப்பதால் அதிக விவரங்களை தருகின்றது. புவிப்படங்களை வகைப்படுத்துவதில் அளவையானது ஓர் ஒப்பீடு ஆகும். புவிப்படங்களை வகைப்படுத்த அளவையை ஓர் அடிப்படையாக கருத இயலாது.

செயல்பாடு

உலக மற்றும் இந்தியா இயற்கை அமைப்பு வரைபடங்களை ஒப்பிட்டு உலக வரைபடத்தில் இந்தியாவின் விடுப்பட்ட இயற்கை தோற்றங்களைக் கண்டறிக.

புவிப்படங்களில் அளவைகள் மூன்று வகைகளில் குறிப்பிடப்படுகின்றன. அவை

1. வாக்கிய முறை அல்லது சொல்லளவை (Statement or verbal scale)
2. பிரதிபின்ன முறை அல்லது விகிதாச்சார முறை (Representative fraction or Ratio scale)

VIII_Std_Geography_Unit 8.indd 187 12/3/2022 11:06:44 AM

தமிழ்நாடு - அரசியல்

VIII_Std_Geography_Unit 8.indd 188 12/3/2022 11:06:44 AM

3. வரைகலை அளவை அல்லது நேரியல் அளவை (Graphical or Bar scale)

1. வாக்கிய முறை அல்லது சொல்லளவை

இம்முறையில் அளவுத்திட்டமானது சொற்களால் விவரிக்கப்படுகிறது. 1 செ.மீ என்பது 1 கி.மீ. அதாவது வரைபடத்தில் 1 செ.மீ என்பது நிலப்பகுதியில் 1 கி.மீ. தூரத்தைக் குறிக்கின்றது. ஆகையால் வரைபடத்தில் 1 செ.மீ : 1 கி.மீ., 1 அங்குலம் : 1 மைல் எனக் குறிக்கப்பட்டிருக்கும்.

ஒரு எளிமையான வாக்கிய அளவுத்திட்டம் என்பது கீழ்க்கண்ட குணாதிசியங்களைப் பெற்றிருக்கும்.

அ) அளவையின் தொகுதி சென்டி மீட்டரிலிருந்தால் அதன் விகுதி மீட்டரிலோ அல்லது கிலோ மீட்டரிலோ இருக்கும்.

ஆ) தொகுதி அங்குலத்தில் குறிப்பிடப்பட்டிருந்தால் அதன் விகுதி மைல்களில் இருக்கும்

2. பிரதிபின்னமுறை (அ) எண்சார் பின்னமுறை (அ) விகிதாச்சார முறை.

இம்முறையில் புவிப்படப்பரப்பில் உள்ள தொலைவும் புவிப்பரப்பில் உள்ள தொலைவும் ஒரே அளவில் குறிப்பிடப்படுகிறது.

உதாரணமாக 1: 50,000 என்பது புவிப்படத்தில் 1 அலகு என்பது புவியில் 50,000 அலகுகளைக் குறிக்கின்றது. அதாவது வரைபடத்தில் 1 செ.மீ அல்லது 1 அங்குலம் என்பது புவியில் 50,000 செ.மீ அல்லது 50,000 அங்குலம் என்பதைக் குறிக்கின்றது. பிரதிபின்ன முறையில் அளவையானது 1/50,000 அல்லது 1:50,000 எனக் குறிப்பிடப்படுகிறது.

3. வரைகலை அளவை அல்லது நேரியல் அளவை

இந்த அளவை ஒரு சிறிய வரைக்கோல் போன்று வரைபடத்தின் அடிப்பகுதியில் குறிப்பிடப்பட்டிருக்கும். இக்கோடு மேலும் சிறிய அளவிலான பகுதிகளாக

VIII_Std_Geography_Unit 8.indd 189 12/3/2022 11:06:45 AM

பிரிக்கப்பட்டிருக்கும். இதன் ஒவ்வொரு சிறு பகுதியும் நிலப்பகுதியிலுள்ள ஒரு குறிப்பிட்ட தூரத்தை குறிப்பதாக அமைந்துள்ளது. ஒரு சிறு துண்டு நூல் அல்லது பிரிப்பான்களின் உதவியோடு புவிப்படத்தில் குறிப்பிடப்பட்ட அளவையைக் கொண்டு நேரடியாக நிலப்பகுதியில் உள்ள சரியான தூரத்தை அளவிட முடியும். இவ்வளவைகள் மாறாதவை என்பதால் புவிப்பட நகல்கள் எடுத்துக் கொள்ள ஏதுவாக உள்ளது இதன் சிறப்பம்சமாகும்.

வரைகலை அளவு

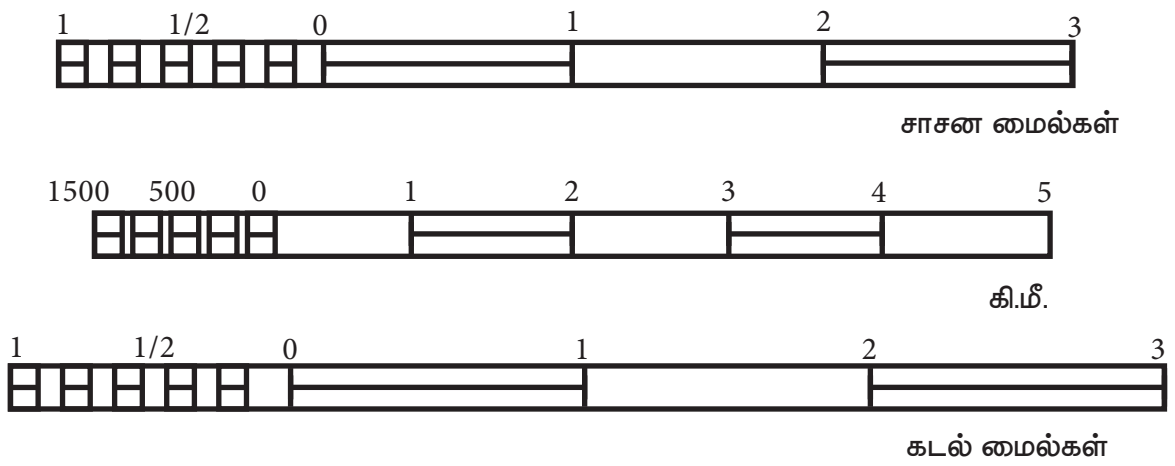

3. புவிப்பட விளக்கம் அல்லது திறவுவிசை (Legend or key)

புவிப்படத்தைப் பற்றிய விவரங்களை புரிந்து கொள்வதற்குப் புவிப்பட விளக்கம் அல்லது திறவுவிசை புவிப்படத்தில் கொடுக்கப்படுகின்றது. இவை புவிப்படத்தின் கருத்தை அறிந்துகொள்ள தேவையான விவரங்களைத் தருகின்றன. புவிப்படத்தில் பல்வேறு குறியீடுகள் மற்றும் வண்ணங்கள் பயன்படுத்தப்படுகின்றன. இவைகள் எவற்றை குறிக்கின்றன என்பதைத் திறவுவிசை விளக்குகின்றன. திறவுவிசை படங்களாகவோ, சின்னங்களாகவோ அல்லது குறியீடுகளாகவோ புவிப்படத்தில் பயன்படுத்தப்படுகின்றன.

4. திசைகள் (Direction)

புவிப்படத்தில் திசைகள் குறிப்பிடுவது அவசியமாகும். புவிப்படங்களில் பொதுவாக வடதிசை மேல்நோக்கி இருக்கும்படி வரையப்படுகிறது. வடதிசை மூலம் மற்ற திசைகளை அறிந்து கொள்வது எளிதாகும். பொதுவாக வரைபடத்தில் திசைகளானது திசை காட்டி குறியீடுகள் மூலம் குறிக்கப்படுகின்றது. சில புவிப்படங்களில் வடக்கு, தெற்கு, கிழக்கு மற்றும் மேற்கு ஆகிய முதன்மை திசைகள் குறிக்கபடுகின்றன. இடைநிலை திசைகளான, வடகிழக்கு, வடமேற்கு, தென்கிழக்கு மற்றும் தென்மேற்கு ஆகியனவும் புவிப்படங்களில் கொடுக்கப்படலாம்.

5. புவிப்பட மூலம் (Source)

அனைத்துப் புவிப்படங்களிலும் அளவைகள் பயன்படுத்தப்பட்டுள்ள புள்ளி விவரங்களைக் காண மூலங்களைக் குறிப்பிடுதல் அவசியமான ஒன்றாகும். பொதுவாக இம்மூலங்கள் புவிப்படத்தின் கீழ் வலது புறத்தில் குறிப்பிடப்பட்டிருக்கும். புவி வரைபடத்தின் கீழ் இடது புறத்தில் ஆசிரியரின் பெயர், வெளியீடுவோர் விவரம், வெளியிடும் இடம், வருடம் ஆகிய விவரங்கள் கொடுக்கப்படுதல் வேண்டும்.

6. புவிப்படகோட்டுச் சட்டம் மற்றும் அமைவிட குறிப்பு (Map projection and locational information)

கோள வடிவமான புவியை ஒரு சமதளப் பரப்பில் வரைவதற்குப் பின்பற்றப்படும் ஒரு

VIII_Std_Geography_Unit 8.indd 190 12/3/2022 11:06:45 AM

நுணுக்க முறையே வரைபட கோட்டுச் சட்டமாகும். வளைவான மேற்பரப்புடைய புவியை புவிப்படத்தில் சரியான முறையில் வரைவது கடினம். புவிப்படங்களில் ஏற்படும் இவ்வகை தவறுகளை குறைக்க வரைபட வல்லுநர்கள் புவியின் மேற்பரப்பைப் படத்தில் குறிப்பதற்குப் புவிப்பட கோட்டுச் சட்டங்களை பயன்படுத்துகின்றனர். புவிப்படங்களில் குறிப்பிடப்பட்டுள்ள அட்ச மற்றும் தீர்க்க கோடுகள் படத்தில் குறிக்கப்பட்டுள்ள பகுதியின் அமைவிட தகவல்களை அளிக்கின்றன.

7. மரபு குறியீடுகள் மற்றும் சின்னங்கள் (Conventional sings and symbols)

புவிப்படத்தில் பல்வேறு தோற்றங்களைக் குறிப்பிடப்படுவதற்குப் புவிப்படக் குறியீடு மற்றும் சின்னங்கள் பயன்படுத்தப்படுகின்றன. இச்சின்னங்கள் புவிப்பட திறவு விசை பகுதியில் விளக்கப்பட்டுள்ளன. ஒரு சிறிய பகுதியில் அதிக தகவல்களை இக்குறியீடுகள் மற்றும் சின்னங்கள் அளிக்கின்றன. இதன் மூலம் புவிப்படங்களை எளிதாக

	போர்க்களம்		நெடுஞ்சாலை சந்திப்பு
	பேருந்து நிலையம்		இருப்புப் பாதை
	பாலம்	PH	பொது விடுதி
	முகாமிடம்		பொது தொலைபேசியகம்
50	சமஉயரக் கோடுகள்		வானொலி (அ) தொலைக்காட்சி அலைவரிசை கோபுரம்
	நடைபாதை		மின் வட கம்பி
	பயன்பாட்டில் உள்ள கலங்கரை விளக்கம்	B 5132	இரண்டாம் நிலை சாலை
H	வானுலங்குத் தளம்		காட்சிக் கோணம்
i	தகவல் மையம்		காற்றாலை
A 41 (T)	முதன்மை சாலை	P	வாகன நிறுத்துமிடம்

உருவாக்கலாம். மேலும் இவற்றின் மூலம் புவிப்பட கருத்துக்களையும் எளிதில் புரிந்துகொள்ள முடியும். சில குறியீடுகள் மற்றும் சின்னங்களை பயன்படுத்த சர்வதேச ஒப்பந்தம் அல்லது நடைமுறை பின்பற்றப்படுகிறது. இவை மரபுக் குறியீடுகள் மற்றும் சின்னங்கள் எனப்படுகின்றன. சூழல் சின்னங்கள் அல்லது குறியீடுகள் என்பதை குறிப்பிட வல்லுனர்கள் முடிவு செய்யப்படும் மற்றொரு வகையாகும்.

வரைபடங்களின் வகைகள் (Types of Maps)

புவிப்படங்கள் பல்வேறு அடிப்படையில் வகைப்படுத்தப்படுகின்றன. ஒவ்வொரு அடிப்படையிலும் புவிப்படங்கள் பல்வேறு வகைகளாகப் பிரிக்கப்படுகின்றன. இப்பாடப் பகுதியில், நிலத்தோற்றம் அல்லது இயற்கையமைப்புப் புவிப்படங்கள், காணிப்படங்கள் மற்றும் கருத்துப் படங்களின் தன்மைகள் மற்றும் பண்புகளைப் பற்றி கற்கலாம்.

1. நிலத்தோற்றம் அல்லது இயற்கையமைப்பு புவிப்படங்கள் (Relief or Physical map)

ஒரு பகுதியின் பல்வேறு இயற்கை அம்சங்களைக் காண்பிப்பதற்கு வரையப்படும் படங்கள் இயற்கையமைப்பு அல்லது நிலத்தோற்றப் படங்கள் எனப்படுகின்றன. முக்கிய இயற்கையமைப்புகளான பாலைவனங்கள், ஆறுகள், மலைகள், சமவெளிகள் மற்றும் பீடபூமிகள் ஆகியவற்றை குறிப்பிடுவது இதன் முதன்மையான நோக்கமாகும். இவ்வகை புவிப்படங்கள் ஓரிடத்தின் பொதுவான நிலஅமைப்பைக் காண்பிக்கின்றன. பல அளவுகளில் உள்ள பகுதிகளின் உயரங்கள் மற்றும் ஆழங்களையும் இவை காண்பிக்கின்றன. பொதுவாக ஆழம் குறைந்த நீர்ப் பகுதிக்கு வெளிர் நீல வண்ணமும், ஆழமான நீர்ப் பகுதிக்கு அடர் நீல வண்ணமும் பயன்படுத்தப்படுகின்றன. குறைந்த உயரமுள்ள பகுதியிலிருந்து அதிக உயரமுள்ள பகுதிகளைக் குறிப்பிட முறையே, வெளிர் பச்சை, வெளிர் பழுப்பு, அடர்பழுப்பு, வெளிர் சிவப்பு மற்றும் சிவப்பு வண்ணங்கள் பயன்படுத்தப்படுகின்றன. பனி படர்ந்த

VIII_Std_Geography_Unit 8.indd 191 12/3/2022 11:06:46 AM

உயரமான பகுதிகளைக் குறிப்பிட வெள்ளை நிறம் பயன்படுத்தப்படுகிறது.

2. காணிப் புவிப்படங்கள் (Cadastral maps)

ஒரு குறிப்பிட்ட இடத்தின் எல்லைகள் மற்றும் நில உடைமைகள் பற்றிய விவரங்களை காண்பிக்க காணிப் புவிப்படங்கள் பயன்படுகின்றன. இவ்வகைப்படங்கள் திட்ட புவிப்படங்கள் எனவும் அழைக்கப்படுகின்றன. இவை பெரிய அளவையைக் கொண்டுள்ளதால் குறிப்பிட்ட இடத்தின் எல்லைகள் மற்றும் கட்டடங்களின் முழு விவரங்களையும் அளிக்கின்றன. இப்புவிப்படங்கள் உள்ளாட்சி அமைப்புகளான நகராட்சி, வரிவிதிப்பு, பெரும் பண்ணை, பராமரிப்பு, சட்ட ஆவணங்களில் சொத்து விவரங்களைக் குறிப்பிடுதல் போன்றவற்றிற்குப் பயன்படுகின்றன. இப்புவிப்படங்கள் பொதுப் பதிவிற்கான ஆவணங்களாக பயன்படுத்தப்படுவதால் இவை அரசாங்கத்தால் பராமரிக்கப்பட்டு வருகின்றன.

உங்களுக்குத் தெரியுமா?

"கெடஸ்ட்ரல்" எனும் வார்த்தை ஃப்ரெஞ்ச் மொழியிலுள்ள "கெடஸ்டர்" எனும் சொல்லிலிருந்து பெறப்பட்டது. இதன் பொருள் "காணிப்புவிப்பட பதிவேடு" என்பதாகும்.

காணிப்புவிப்படத்தின் முக்கியத்துவம்

காணிப்புவிப்படங்கள், ஒரு நிலத்தின் நில உடைமை, எல்லைகள், மாதிரிப் படங்கள், கட்டடத்திட்டப் படங்கள், விளக்கப் படங்கள் ஆகியவை மூலம் ஆவணங்களாக பதிவு செய்கின்றன. தொடக்கத்தில் ஒரு குறிப்பிட்ட இடத்தின் மதிப்பினை அறிந்துகொள்ளவும், வரிவிதிப்பிற்கும் இவ்வகை புவிப்படங்கள், பயன்படுத்தப்பட்டன.

காணிப் புவிப்பட அளவை

பொதுவாக 1:500 லிருந்து 1:10000 வரை உள்ள அளவைகளில் இவ்வகைப் படங்கள் உருவாக்கப்படுகின்றன. கட்டடங்கள், வடிகாலமைப்பு போன்ற துல்லிய விவரங்களை அளிக்கும் பெரிய அளவை புவிப்படங்கள் காணிப்பட அளவாய்வு மூலம் தயாரிக்கப்படுகின்றன.

காணிப் புவிப்படம்

செயல்பாடு

உங்கள் ஆசிரியரின் உதவியோடு உங்கள் பள்ளி கட்டடம் மற்றும் பள்ளி வளாகத்தின் காணிப் புவிப்படம் ஒன்றினை தயார் செய்க.

3. கருத்துப்படங்கள் (Thematic map)

கருத்துப்படங்கள் என்பவை வெப்பநிலை வேறுபாடுகள், மழைப்பரவல், மக்களடர்த்தி போன்ற ஒரு குறிப்பிட்ட கருப்பொருளுக்காகத் தயாரிக்கப்படுபவை ஆகும். இப்படங்கள் உலகளாவிய மக்களடர்த்தி, நோய்த்தாக்கம் போன்றவற்றின் பிரதேச வேறுபாடுகளை காண்பிக்க முக்கியத்துவம் வாய்ந்ததாக உள்ளது. இவை பொது புவிப் படங்களிலிருந்து வேறுபடுகின்றன. பொதுப் புவிப்படங்கள் இயற்கை பிரிவுகளான நில அமைப்புகள், போக்குவரத்து,ஆறுகள்,குடியிருப்புகள்,அரசியல் மற்றும் நிர்வாக எல்லைகள் போன்றவற்றைக் காண்பிக்கின்றன. பொதுவாக வரையப்படும் புவிப்படங்கள் ஒரு குறிப்பிட்ட கருத்தை விரிவாக வெளிப்படுத்துவதில்லை.

கருத்துப்படங்களின் வகைகள்

கருத்துப்படங்களானது, பண்புசார் கருத்துப்படங்கள் மற்றும் அளவு சார் கருத்துப்படங்கள் என இரண்டு வகைகளாகப் பிரிக்கப்படுகின்றன. பண்புசார் கருத்துப்படங்கள் ஒரு குறிப்பிட்ட பொருளின்

VIII_Std_Geography_Unit 8.indd 192 12/3/2022 11:06:47 AM

இந்தியா - இயற்கை அமைப்பு

தன்மை அல்லது அவ்விடத்தில் அக்குறிப்பிட்ட பொருள் உள்ளதா? அல்லது இல்லையா? என்பதை காண்பிக்கப் பயன்படுகிறது. உதாரணமாக ஒரு பகுதியில் காணப்படும் தாவர இனங்கள் மற்றும் அவை பரவியுள்ள பகுதிகள் ஆகியனவற்றைத் தெளிவாக உணர்த்தும். மண் பரவலைக் காட்டும் படங்களும் பண்புசார் கருத்துப்படங்களேயாகும். அளவுசார் கருத்துப் படங்கள் எண் அளவுகளைக் கொண்ட உயரங்கள் (மீட்டரில்), வெப்பநிலை,

VIII_Std_Geography_Unit 8.indd 193 12/3/2022 11:06:47 AM

(செல்சியஸ்) போன்ற தகவல்களைக் கொண்டிருக்கும். நிழற்பட்டைப்படம், சம அளவுக்கோட்டுப் படம் மற்றும் புள்ளியடர்த்தி படங்கள் அளவுசார் கருத்து படங்களில் அதிகம் பயன்படுத்தப்படுபவைகளாகும்.

நிழற்பட்டைப் படம் (Choropleth map)

நிழற்பட்டைப் படம் என்பது ஒரு கருத்துப் படமாகும். இவற்றில் மக்களடர்த்தி, தனிநபர் வருமானம் போன்றவற்றைக் காண்பிக்கலாம். மேலும் பிரதேச வேறுபாடுகளையும் நிழற்பட்டைகள் மூலம் காண்பிக்கப்படுகிறது.

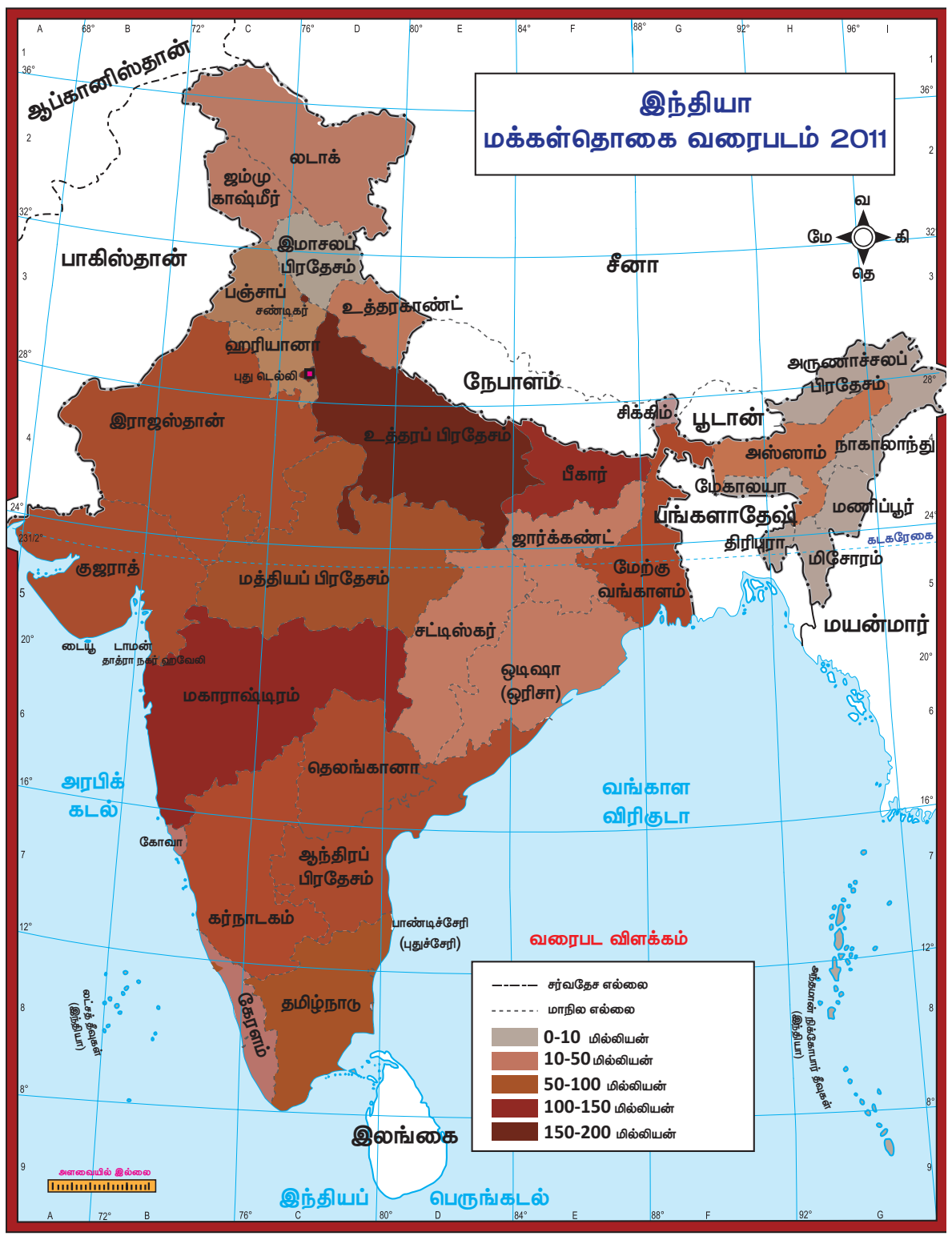

சம அளவுக்கோட்டுப் படங்கள் (Isopleth Maps)

இவ்வகை படங்கள் பொதுவான மதிப்புள்ள வெவ்வேறு இடங்களை இணைத்து வரையப்படுகின்றன. ஆங்கிலச் சொல்லான "Isoline" என்பதில் இதன் முன்னிடைச் சொல்லான "ஐசோ" என்பது கிரேக்க மொழி சொல்லாகும் இதற்கு சமம் என்று பொருள். எனவே சம அளவுக்கோடுகள் என்பவை சம மதிப்புள்ள இடங்களை இணைப்பதாகும். வளிமண்டல அழுத்தப் பரவலைக் குறிக்கும். "சம அழுத்தக்கோடுகள்" வெப்பப் பரவலைக் குறிக்கும் "சம வெப்ப நிலைக்கோடுகள்" ஆகியன சம அளவுக்கோட்டுப் படங்களுக்குச் சிறந்த உதாரணங்களாகும்.

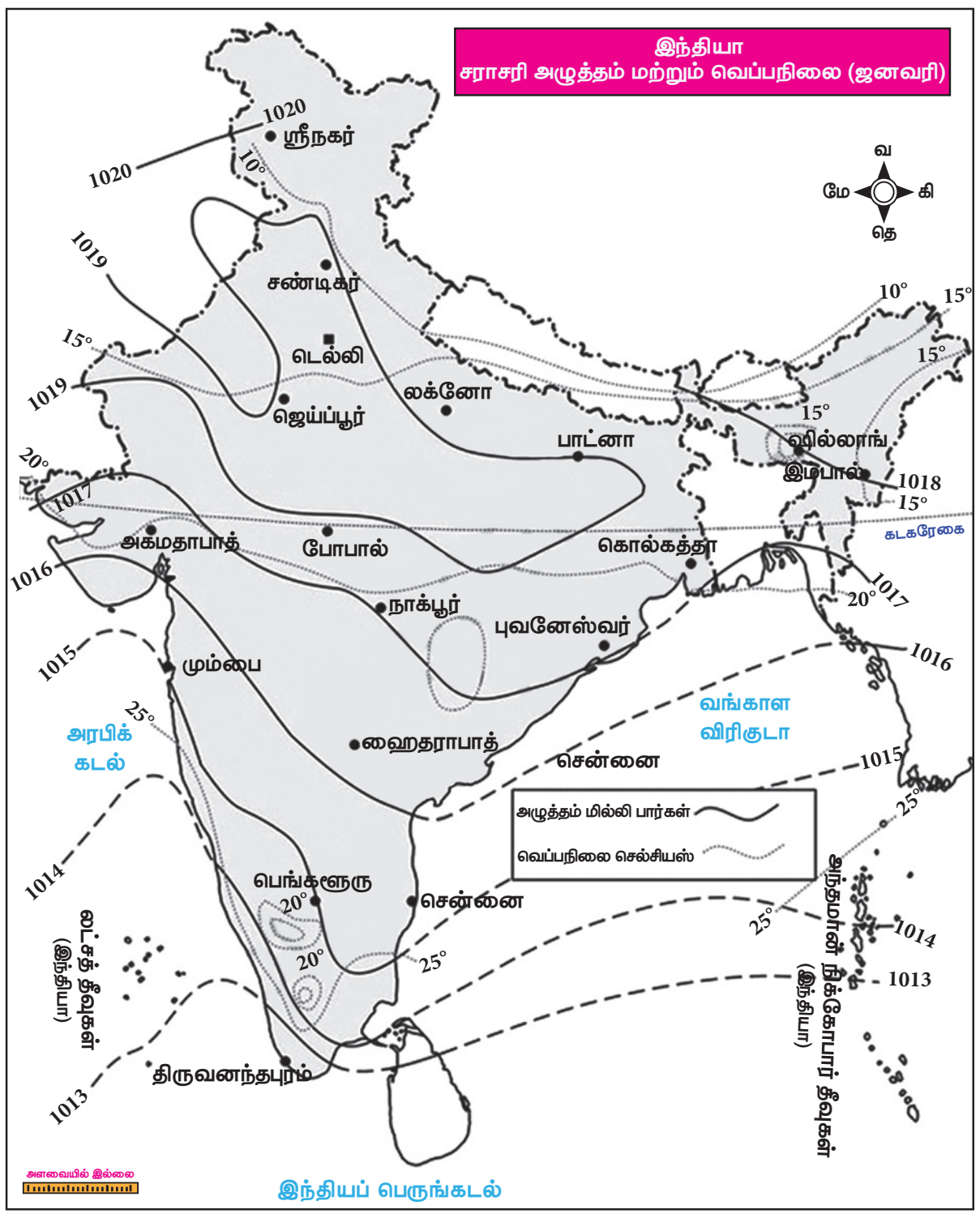

புள்ளியடர்த்தி வரைபடங்கள் (Dot Density Maps)

புள்ளியடர்த்தி படங்கள் கருத்து வரைபடத்தின் ஒரு வகையாகும். இவை ஒன்று அதற்கு மேற்பட்ட எண்ணிகையிலான தரவு புலங்களைக் காண்பிக்கப் பயன்படுகிறது. இப்படத்தில் உள்ள ஒவ்வொரு புள்ளியும் ஒரு குறிப்பிட்ட அளவிலான தரவைக் குறிக்கின்றது. இவ்வகைப் படத்தில் புள்ளிகள் அடர்த்தியாக இருக்குமாயின் குறிப்பிட்ட அளவுள்ள தரவு செறிந்தும், புள்ளிகளின் அடர்த்தி குறைவாக இருக்குமாயின் குறிப்பிட்ட அளவுள்ள தரவு குறைந்து காணப்படுவதையும் குறிக்கும்.

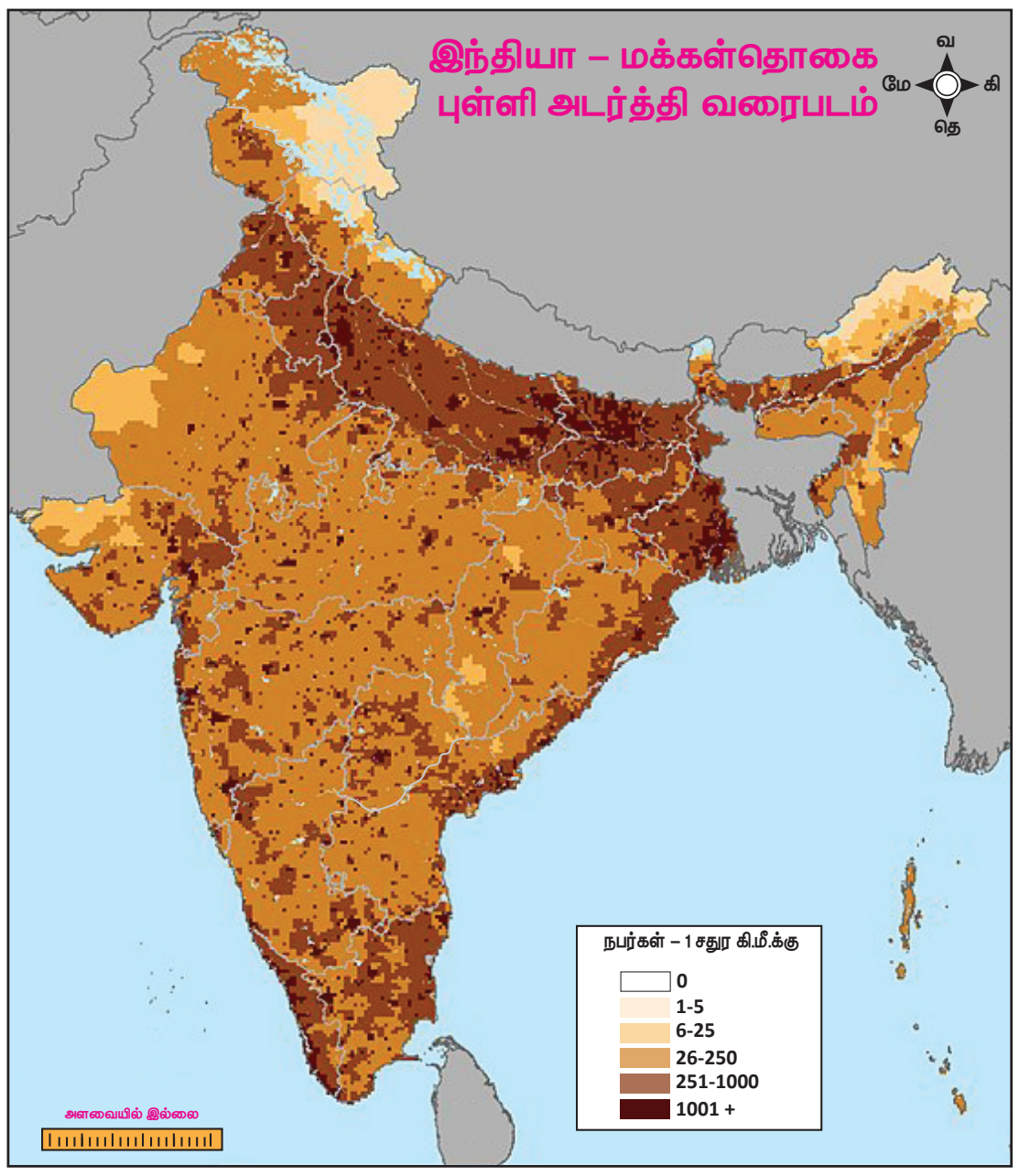

VIII_Std_Geography_Unit 8.indd 194 12/3/2022 11:06:49 AM

புவிப்படங்களின் பயன்கள்

- பொருட்கள் மற்றும் இடங்களின் அமைவிடத்தைக் கண்டறிய பயன்படுகிறது.
- போக்குவரத்து வழித்தடங்களைக் காண பயன்படுகிறது.
- இராணுவத்தினருக்குப் பாதுகாப்பு முக்கியத்துவம் வாய்ந்த இடங்களைக் காண பயன்படுகிறது.
- சுற்றுலா வழிகாட்டியாக பயன்படுகிறது.
- உலகளாவிய பல்வேறு நிகழ்வுகளின் பரவல்களைக் காண பயன்படுகிறது.
- வானிலை நிகழ்வுகளை அறிவிக்கிறது.
- புவியியலை கற்றுக் கொள்ள மிகவும் பயனுள்ளதாக உள்ளது.
- உலகை ஒரு சிறிய அளவில் சரியான வடிவில் காண்பிக்கின்றது.

மீள்பார்வை

❖ புவிப்பட கற்றல் என்பது ஒரு புவிப்படத்தில் சித்தரிக்கப்பட்டுள்ள புவியியல் தகவல்களை விளக்கும் அல்லது புரிந்துகொள்ளும் செயலாகும்.

❖ காணிப் புவிப்படம் ஒரு குறிப்பிட்டுள்ள இடத்திலுள்ள நில எல்லைகள் மற்றும் நில உடைமைகளைக் காண்பிக்கும் ஒன்றாகும்.

❖ கருத்துப்படம் என்பது ஒரு குறிப்பிட்ட கருத்தையோ அல்லது பாடப்பிரிவையோ சித்தரிக்கும் புவிப்படமாகும்.

கலைச்சொற்கள்

புவிப்படம்	புவிப்படம் என்பது முழு புவியையோ அல்லது அதன் ஒரு பகுதியையோ ஒரு குறிப்பிட்ட அளவையுடன் இருபரிமாணத்தில் புவிப்படத்தை ஒரு சமதளப் பரப்பில் சித்தரிக்கப்படுவதாகும்	Map
புவிப்படவியல்	புவிப்படவியல் என்பது புவிப்படத்தை உருவாக்கும் ஒரு கலையறிவியல் ஆகும்.	Cartography
புவிப்பட அளவை	புவிப்பரப்பில் குறிப்பிடப்பட்டுள்ள தொலைவிற்கும் புவியின் மீதுள்ள அதே பகுதியின் தொலைவிற்கும் இடையேயான விகிதாச்சாரம்.	Map Scale
காணிப்புவிப் பதிவேடு	வரி விதிப்பிற்குரிய நில உடைமையின் அளவு சார்ந்த பதிவேடு.	Cadastre

VIII_Std_Geography_Unit 8.indd 195 12/3/2022 11:06:49 AM

மதிப்பீடு

I சரியான விடையைத் தேர்ந்தெடுக்கவும்

U9LSY

1. புவிப்பட தயாரிப்பு முறை குறித்து கையாளும் பாடப்பிரிவு ________ ஆகும்.

அ) மக்களியல்
ஆ) புவிப்படவியல்
இ) இயற்கையமைப்பு
ஈ) இடவியல்

2. ஒரு பகுதியின் இயற்கையம்சங்களைக் காட்டும் புவிப் படம் ________.

அ) காணிப்புவிப் படங்கள்
ஆ) நிலத்தோற்ற புவிப்படம்
இ) கால நிலையியல் புவிப்படம்
ஈ) மூலாதார புவிப்படம்

3. ஆழம் குறைந்த நீர்ப் பகுதிகள் ________ வண்ணம் மூலம் குறிப்பிடப்படுகிறது.

அ) மஞ்சள் ஆ) பழுப்பு
இ) வெளிர் நீலம் ஈ) அடர் நீலம்

4. பிளான்கள் என்று அழைக்கப்படும் புவிப்படங்கள் ________ ஆகும்.

அ) காணிப்புவிப் படங்கள்
ஆ) தலப்படங்கள்
இ) சம அளவுக்கோட்டுப் படங்கள்
ஈ) போக்குவரத்துப் படங்கள்

5. மக்கட்தொகை பரவலை ________ மூலம் காண்பிக்கலாம்.

அ) கோடுகள் ஆ) வண்ணங்கள்
இ) புள்ளிகள் ஈ) சம அளவுக்கோடுகள்

II கோடிட்ட இடங்களை நிரப்புக

1. புவிக் கோள மாதிரி என்பது ________ ன் உண்மையான உருவ மாதிரியாக்கமாகும்.

2. புவியின் கோள வடிவத்தை ஒரு சமதளப்பரப்பில் வரையப்படும் முறை ________ எனப்படும்.

3. சம அளவு உயரமுள்ள இடங்களை இணைக்கும் கோடு ________.

4. காணிப்படங்கள் பொதுவாக ________ ஆல் பராமரிக்கப்படுகின்றன.

5. ______ புவிப்படங்கள் ஒரு குறிப்பிட்ட கருப்பொருளுக்கு முக்கியத்துவம் அளிக்கின்றன.

III பொருத்துக

i.	புவிப்பட விளக்கம்	–	1. 45°
ii.	வடகிழக்கு	–	2. பழுப்பு நிறம்
iii.	சம உயரக்கோடு	–	3. கருத்துப்படங்கள்
iv.	காணிப்படங்கள்	–	4. புவிப்படத்தின் திறவுகோல்
v.	நிழற்பட்டைப் படம்	–	5. வரி விதிப்பு

அ) 3, 5, 1, 4, 2
ஆ) 4, 1, 2, 5, 3
இ) 2, 5, 1, 3, 4
ஈ) 5, 2, 4, 1, 3

IV சரியான கூற்றைத் தேர்வு செய்யவும்

1. **கூற்று:** சிறிய அளவைப் புவிப்படங்களில் பிரதான தோற்றங்களை மட்டுமே காண்பிக்கப்படுகின்றன.

காரணம்: குறைந்த அளவு இடமே உள்ளதால், பெரிய பரப்பிலான கண்டங்கள் மற்றும் நாடுகள் போன்றவற்றை மட்டுமே காண்பிக்க இயலும்.

அ) கூற்று சரி, ஆனால் காரணம் தவறு
ஆ) கூற்று தவறு, காரணம் சரி
இ) கூற்று மற்றும் காரணம் இரண்டும் சரி
ஈ) கூற்று மற்றும் காரணம் இரண்டும் தவறு

2. **கூற்று:** மரபுக் குறியீடுகளும், சின்னாங்களும் வரைபடத்தின் திறவுகோல் ஆகும்.

காரணம்: இவை குறைந்த அளவிலான படத்தில் அதிக விவரங்களைத் தருகின்றன.

அ) கூற்று மற்றும் காரணம் இரண்டும் சரி
ஆ) கூற்று தவறு, ஆனால் காரணம் சரி
இ) கூற்று சரி, காரணம் தவறு
ஈ) கூற்று மற்றும் காரணம் இரண்டும் தவறு

VIII_Std_Geography_Unit 8.indd 196 12/3/2022 11:06:49 AM

V சுருக்கமாக விடையளி

1. "புவிப்பட அளவை " – வரையறு.
2. இயற்கையமைப்புப் புவிப்படம் என்றால் என்ன?
3. வரைபடக் கோட்டுச் சட்டம் பற்றி சிறுகுறிப்பு வரைக
4. இடைநிலைத் திசைகளின் பெயர்களைக் குறிப்பிடுக.
5. காணிப் புவிப்படங்களின் பயன்கள் யாவை?

VI வேறுபடுத்துக

1. நிலத்தோற்றப் படங்கள் மற்றும் கருத்துப்படங்கள்
2. பெரிய அளவை மற்றும் சிறிய அளவை புவிப்படங்கள்
3. புவிக் கோள மாதிரி மற்றும் புவிப்படம்

VII விரிவான விடையளி

1. பல்வேறு புவிப்பட அளவைகளை விரிவாக விளக்குக
2. காணிப் புவிப்படங்கள் மற்றும் அவற்றின் முக்கியத்துவத்தை விவரி
3. மரபுக்குறியீடுகள் மற்றும் சின்னங்கள் குறித்து ஒரு பத்தி எழுதுக

VIII மாணாக்கர்கள் செயல்பாடுகள்

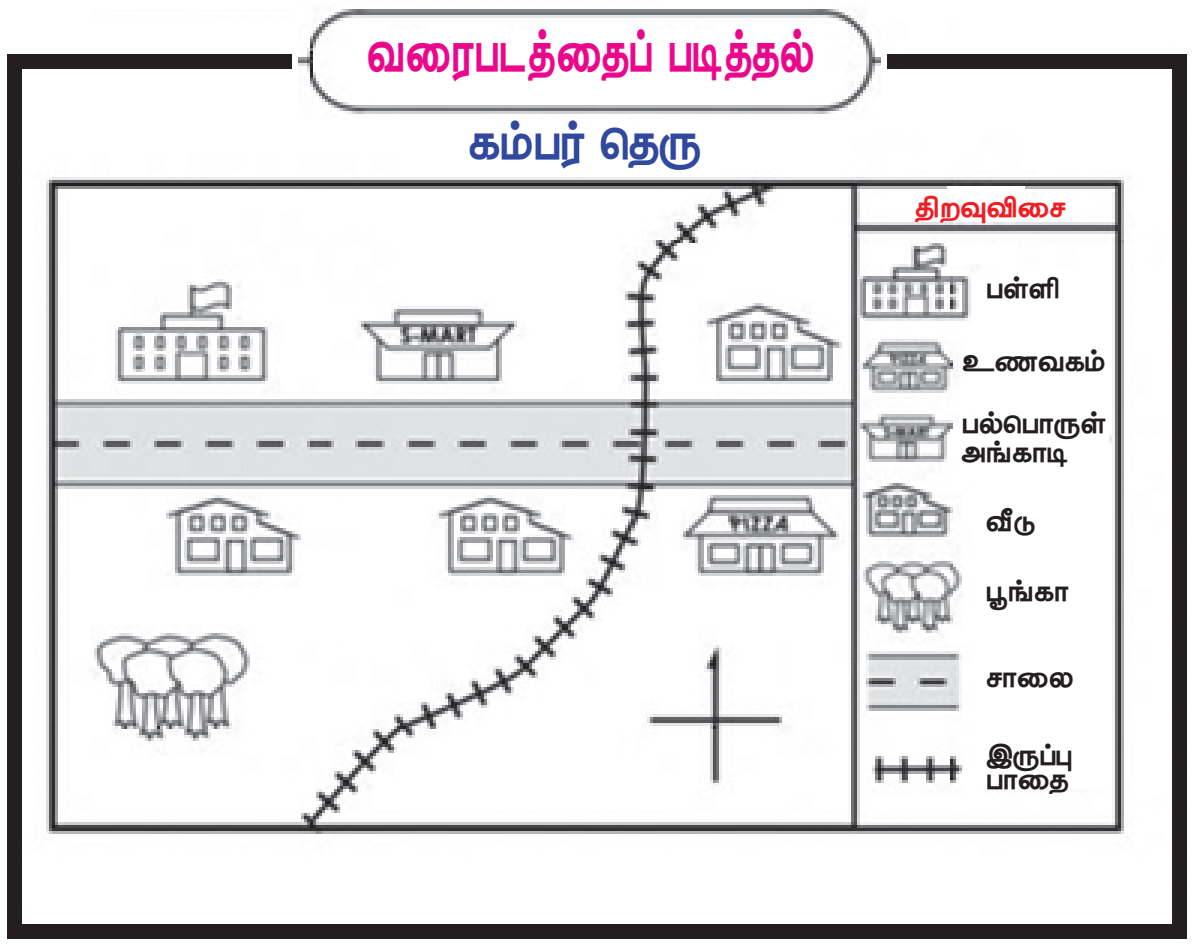

அ) புவிப்படத்தின் தலைப்பினைக் கோடிட்டுக் காட்டுக.

ஆ) படத்தில் வடக்கு, தெற்கு, கிழக்கு மற்றும் மேற்கு திசைகளைக் குறியிட்டுக் காட்டுக.

இ) இருப்புப்பாதை தென்மேற்கிலிருந்து ____________ திசையை நோக்கிச் செல்கிறது.

ஈ) பூங்காவானது இருப்புப்பாதைக்கு எத்திசையில் அமைந்துள்ளது?

உ) பள்ளிக்கு சிவப்பு வண்ணம் தீட்டுக.

ஊ) பல்பொருள் அங்காடிக்கு பழுப்பு நிற வண்ணம் தருக.

எ) உணவகத்தை அடையாளம் கண்டு மஞ்சள் வண்ணம் தருக.

ஏ) இருப்புப் பாதைக்குக் கிழக்கிலுள்ள வீட்டிற்கு ஆரஞ்சு வண்ணம் தருக.

மேற்கோள் நூல்கள்

1. T.P. Kanetkar and S.V.Kulkarni , *Surveying and leveling Part-I,* AVG Ptakashan – Poona-2.
2. GRP Lawrence, *Cartographic methods,* Methuen and Co- Ltd. 1971.
3. *Ministry of Information and Broadcasting Govt of India,* Refrence Annual -1976.

இணையச் செயல்பாடு

புவிப்படங்களைக் கற்றறிதல்

இந்த செயல்பாட்டின் மூலம் புவியியல் வரைபடத்திறன் பற்றி அறியலாம்.

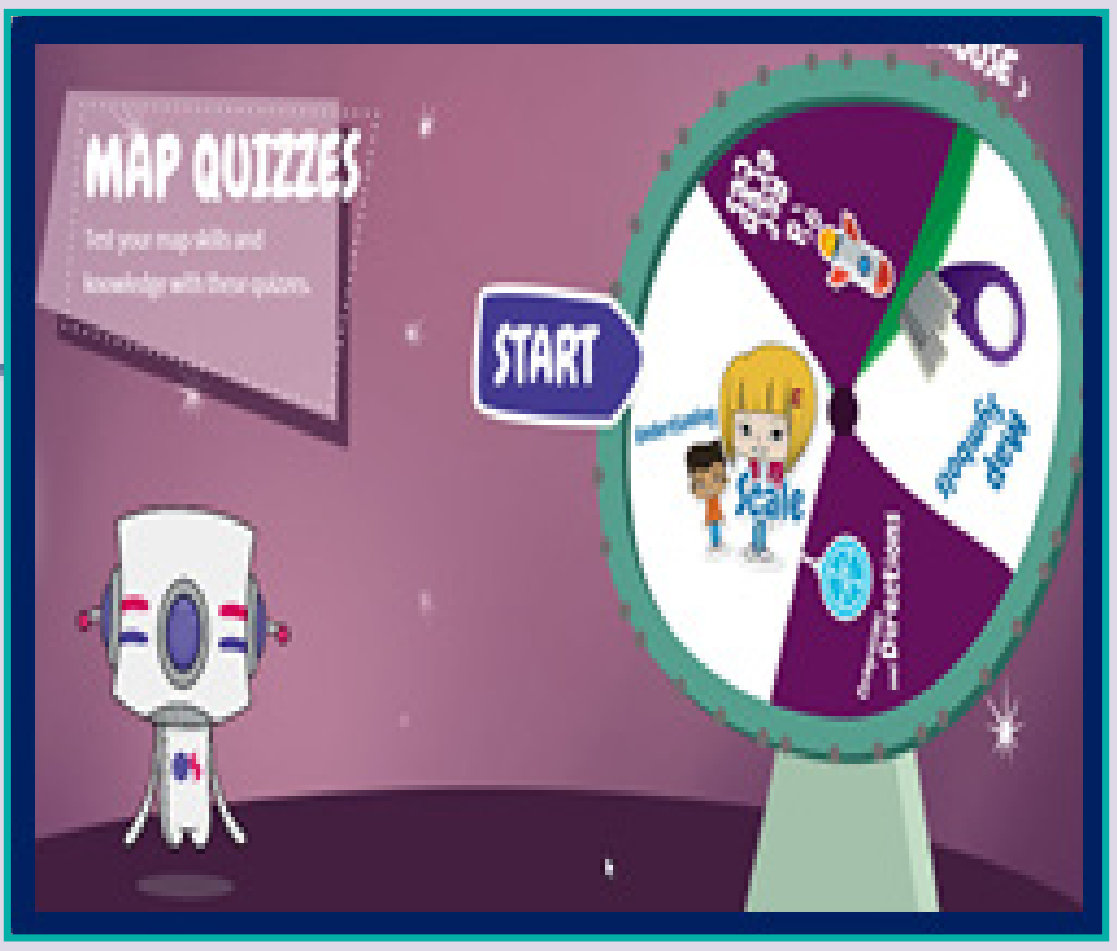

படி – 1 URL அல்லது QR குறியீட்டினைப் பயன்படுத்தி இச்செயல்பாட்டிற்கான இணையப்பக்கத்திற்குச் செல்க.

படி – 2 திரையில் தோன்றும் "Map Skills" என்பதைச் சொடுக்கவும், "Scale" என்பதைத் தேர்ந்தெடுக்கவும்.

படி –3 வரைபட அளவைகள் குறித்து அறிய "Next or previous" பொத்தானைச் சொடுக்கவும்

படி – 1

படி – 2

படி – 3

உரலி: http://www.ordnancesurvey.co.uk/mapzone

* படங்கள் அடையாளத்திற்கு மட்டும்.

* தேவையெனில் Adobe Flash ஐ அனுமதிக்க

VIII_Std_Geography_Unit 8.indd 198 12/3/2022 11:06:49 AM

குடிமையியல்

அலகு – 1

மாநில அரசு எவ்வாறு செயல்படுகிறது



கற்றலின் நோக்கங்கள்

இப்பாடத்தைக் கற்றுக்கொள்வதின் வாயிலாக மாணவர்கள் பின்வருவனவற்றில் அறிவைப் பெறுகின்றனர்

- மாநில நிர்வாகம்
- ஆளுநரின் அதிகாரம் மற்றும் பணிகள்
- முதலமைச்சரின் அதிகாரம் மற்றும் பணிகள்
- மாநில சட்டமன்ற பேரவை மற்றும் மேலவை
- மாநில நீதித்துறை.

QDUZO

அறிமுகம்

நமது நாட்டில் மத்திய அரசு, மாநில அரசு என்ற இரண்டு வகை அரசாங்கங்கள் நடைமுறையில் உள்ளன. இந்தியாவில் 28 மாநில அரசாங்கங்கள் செயல்படுகின்றன. ஒவ்வொரு மாநிலமும் தனது நிர்வாகத்தைக் கவனித்துக் கொள்ள தனக்கென ஒரு அரசைக் கொண்டுள்ளது. அந்த வகையில் ஒவ்வொரு மாநிலமும் நிர்வாகம், சட்டமன்றம் மற்றும் நீதித்துறையை கொண்டுள்ளது. மாநில நிர்வாகம் மாநில ஆளுநர் மற்றும் முதலமைச்சர் தலைமையிலான அமைச்சரவையால் மேற்கொள்ளப்படுகிறது. மாநில ஆளுநர் சட்டமன்றத்தின் ஒரு அங்கமாகத் திகழ்கிறார்.

மாநில நிர்வாகம்

ஆளுநர்

மாநில அரசின் தலைவராக மாநில ஆளுநர் இருப்பார் என இந்திய அரசியலமைப்பு சட்டம் குறிப்பிடுகிறது. இந்தியக் குடியரசுத் தலைவரால் ஆளுநர் நியமிக்கப்படுகிறார். இவர் மாநில நிர்வாகத்தின் தலைவராக இருக்கிறார். அவரின் பதவிக்காலம் ஐந்து ஆண்டுகள் ஆகும். எனினும் பதவிக்காலம் முடியும் முன்பாகவே அவரை அப்பதவியிலிருந்து குடியரசுத் தலைவர் நீக்கலாம் அல்லது தானாகவே தனது பதவியை ஆளுநர் ராஜினாமா செய்யலாம். ஆளுநரின் பதவிக்காலம் நீட்டிக்கப்படலாம் அல்லது வேறு மாநிலத்திற்குப் பணியிட மாற்றம் செய்யப்படலாம். ஆனால் மாநில அரசாங்கம் ஆளுநரை பதவியிலிருந்து நீக்க இயலாது. மாநில ஆளுநராக நியமிக்கப்படுவதற்கு ஒருவர்

QDO50

உங்களுக்குத் தெரியுமா?

குடியரசுத் தலைவர் மாநில ஆளுநரை நியமிக்கும் போது மத்திய அமைச்சரவையின் ஆலோசனையின்படி செயல்படுகிறார். மேலும் தொடர்புடைய மாநில அரசையும் கலந்தாலோசிக்கிறார். பொதுவாக ஒருவர் ஆளுநராக அவரது சொந்த மாநிலத்தில் நியமிக்கப்படுவது இல்லை.

8th_Civics_TM_Unit-1.indd 200 12/3/2022 11:08:03 AM

இந்தியக் குடிமகனாக இருக்க வேண்டும். 35 வயது நிரம்பியவராகவும் இருத்தல் வேண்டும். மேலும் அவர் பாராளுமன்றம் அல்லது சட்டமன்றத்தில் உறுப்பினராக இருத்தல் கூடாது. இது தவிர ஆதாயம் தரும் எந்த ஒரு பதவியையும் அவர் வகித்தல் கூடாது.

அதிகாரம் மற்றும் பணிகள்

- ஆளுநர் ஒரு மாநிலத்தின் பெயரளவு நிர்வாகி ஆவார். மாநில அரசின் நிர்வாக அதிகாரங்கள் ஆளுநரிடம் உள்ளன. மாநில அரசாங்கத்தின் அனைத்து நிர்வாக செயல்களும் ஆளுநரின் பெயரால் மேற்கொள்ளப்படுகின்றன. ஆளுநர் முதலமைச்சரையும் அவரது ஆலோசனையின் பேரில் ஏனைய அமைச்சர்களையும் நியமிக்கிறார்.
- மாநில அரசின் தலைமை வழக்கறிஞர், மாநில அரசு பணியாளர் தேர்வாணையத்தின் தலைவர் மற்றும் உறுப்பினர்களை நியமனம் செய்வதோடு சில இதர நியமனங்களையும் மேற்கொள்கிறார்.
- ஆளுநரின் அறிக்கையின் படி குடியரசு தலைவர் அரசியலமைப்புச் சட்டப்பிரிவு 356 ஐ பயன்படுத்தி ஒரு மாநிலத்தில் குடியரசுத் தலைவர் ஆட்சியை ஏற்படுத்துகிறார்.
- மாநிலத்திலுள்ள பல்கலைக்கழகங்களின் வேந்தராக ஆளுநர் செயல்படுகிறார்.
- மாநில சட்டமன்ற கூட்டத்தைக் கூட்டவும், ஒத்தி வைக்கவும் அதிகாரம் கொண்டுள்ளதோடு மட்டுமல்லாமல் சட்டமன்றத்தைக் கலைக்கும் அதிகாரத்தையும் கொண்டுள்ளார்.
- ஆளுநரின் ஒப்புதலுக்குப் பின்னரே பண மசோதாவைச் சட்டமன்றத்தில் கொண்டுவர முடியும். சட்டமன்றம் அல்லது சட்ட மன்றத்தின் இரு அவைகள் (ஈரவைகளாக இருக்கும் பொழுது) கூட்டத்தொடர் நடைபெறாத போது ஆளுநர் அவசரச் சட்டத்தைப் பிறப்பிக்கிறார்.
- சட்டமன்றத்திற்கு ஒரு ஆங்கிலோ இந்திய உறுப்பினரை அவர்கள் போதிய அளவு பிரதிநிதித்துவம் பெறாதபோது நியமனம் செய்யும் அதிகாரத்தைக் கொண்டுள்ளார். மாநில சட்ட மேலவைக்கு அறிவியல், இலக்கியம், கலை, சமூக சேவை, கூட்டுறவு இயக்கம் ஆகிய துறைகளில் சிறப்பாகப் பங்காற்றிய அறிஞர்களில், ஆறில் ஒரு பங்கு அளவிற்கு பிரதிநிதித்துவ அடிப்படையில் நியமிக்கிறார்.
- மாநில அரசாங்கத்தின் ஆண்டு நிதிநிலை அறிக்கை ஆளுநரின் ஒப்புதலுடன் சட்டமன்றத்தில் சமர்ப்பிக்கப்படுகிறது. சட்டமன்றத்தால் நிறைவேற்றப்பட்ட பண மசோதா உள்ளிட்ட அனைத்து மசோதாக்களுக்கும் ஒப்புதல் அளிக்கிறார். மாநில அரசின் எதிர்பாரா செலவின நிதி ஆளுநரின் கட்டுப்பாட்டில் மட்டுமே இருக்கும்.

ஆளுநரின் நிலை

மாநில ஆளுநர் குடியரசுத் தலைவரைப் போன்று மாநிலத்தில் பெயரளவு நிர்வாகத் தலைவராக உள்ளார். எனினும் மாநில ஆளுநர் எப்போதும் பெயரளவு தலைவராக இருப்பது இல்லை. அவர் தனது அதிகாரங்களை குறிப்பிட்ட சில நேர்வுகளில் செயல்படுத்துகிறார். அவர் மத்திய அரசின் ஒரு முகவராக மாநிலத்தில் செயல்படுகிறார். எனவே இவர் மத்திய அரசு மற்றும் மாநில அரசு ஆகியவற்றிற்கிடையேயான உறவுகளைப் பராமரிப்பதற்குப் பொறுப்பு வாய்ந்தவர் ஆவார். ஆளுநர் முக்கியமான தருணங்களில் அமைச்சரவைக்கு ஆலோசனை வழங்குகிறார். மாநிலத்தில் சட்டம் மற்றும் ஒழுங்கு தொடர்பான ஆளுநரின் அறிக்கையின் அடிப்படையில் குடியரசுத் தலைவர் மாநிலத்தில் நெருக்கடி நிலையை அறிவிக்கிறார். ஆளுநர் விருப்புரிமை அதிகாரத்தை செயல்படுத்தும் போது தன்னிச்சையான முடிவுகளை எடுக்கிறார். அவர் அமைச்சரவை யிடமிருந்து அரசாங்கத்தின் செயல்பாடுகள் குறித்த தகவல்களைக் கோரிப் பெறலாம்.

முதலமைச்சர்

ஆளுநர் மாநில சட்டமன்றத்தில் பெரும்பான்மை கொண்டுள்ள கட்சியின் தலைவரை மாநில முதலமைச்சராக நியமிக்கிறார். முதலமைச்சர் அமைச்சரவையின் தலைவர் ஆவார். முதலமைச்சரின் பதவிக்காலம் நிலையான ஒன்று அல்ல. அவர் சட்டமன்றத்தில் பெரும்பான்மை பலம்

8th_Civics_TM_Unit-1.indd 201 12/3/2022 11:08:03 AM

உள்ளவரை முதலமைச்சர் பதவியில் நீடிக்கலாம். சட்டமன்றத்தில் பெரும்பான்மை பலத்தை இழக்கும்போது அவர் பதவி விலகுதல் வேண்டும். முதலமைச்சர் பதவி விலகுதல் என்பது ஒட்டுமொத்த அமைச்சரவையும் பதவி விலகுதலைக் குறிக்கும்.

முதலமைச்சர் மாநில சட்டமன்றத்தில் உறுப்பினராக இருத்தல் வேண்டும். முதலமைச்சராக பதவி ஏற்கும்போது உறுப்பினராக இல்லாவிட்டால் 6 மாதத்திற்குள் சட்டமன்றத்தில் உறுப்பினராகத் தேர்ந்தெடுக்கப்படுதல் வேண்டும்.

முதலமைச்சரின் அதிகாரங்கள் மற்றும் செயல்பாடுகள்

- முதலமைச்சர் மாநிலத்தின் தலைமை நிர்வாகி ஆவார். மாநில அரசாங்கத்தின் பல்வேறு முக்கிய முடிவுகள் அவரது தலைமையின் கீழ் எடுக்கப்படுகின்றன.
- மாநில முதலமைச்சர், அமைச்சரவையை, உருவாக்குவதில் முக்கிய பங்கு வகிக்கிறார். முதலமைச்சரின் ஆலோசனையின் பெயரில் அமைச்சர்களை ஆளுநர் நியமிக்கிறார்.
- பல்வேறு துறைகளை கண்காணித்து ஆலோசனை வழங்குகிறார். மேலும் அவர் பல்வேறு துறைகளின் நடவடிக்கைகளை ஒருங்கிணைக்கிறார்.
- முதலமைச்சர் மாநில அரசாங்கத்தின் கொள்கைகளை உருவாக்குவதில் முக்கிய பங்கு வகிக்கிறார். அவர் மாநில அரசின் கொள்கைகள் மக்களின் நலனுக்கு எதிராக இல்லாததை உறுதி செய்கிறார். மாநில அரசாங்கத்தின் கொள்கை முடிவுகளில் அவரது முடிவே இறுதியாக இருக்கும்.
- மாநில அரசாங்கத்தின் உயர் பதவிகளில் நியமனம் செய்யும் முக்கிய அதிகாரத்தைக் கொண்டுள்ளார். முதலமைச்சர் மற்றும் அமைச்சரவையின் ஆலோசனையின்படியே ஆளுநர் பல்வேறு உயர் அதிகாரிகளை நியமிக்கிறார்.

மாநில சட்டமன்றம்

இந்தியாவில் மாநில சட்டமன்றம் என்பது ஆளுநரையும் ஒன்று அல்லது இரண்டு அவைகளையும் கொண்டிருக்கும். மேலவை என்பது சட்டமன்ற மேலவை எனவும் கீழவை என்பது சட்டமன்ற பேரவை எனவும் அழைக்கப்படுகிறது.

ஈரவை சட்டமன்றம் கொண்ட மாநிலங்கள்

சட்டமன்ற மேலவை

ஒரு மாநிலத்தின் சட்ட மன்ற மேலவையானது நாற்பது உறுப்பினர்களுக்குக் குறையாமலும், அம்மாநில சட்டமன்ற உறுப்பினர்களின் எண்ணிக்கையில் மூன்றில் ஒரு பங்கிற்கு மிகாமலும் இருத்தல் வேண்டும் என அரசியலமைப்புச் சட்டம் குறிப்பிடுகிறது. இதன் உறுப்பினர்கள் மறைமுகமாக தேர்ந்தெடுக்கப்படுகின்றனர்.

- மூன்றில் ஒரு பங்கு உறுப்பினர்கள் மாவட்ட பஞ்சாயத்து மற்றும் நகராட்சி உறுப்பினர்களால் தேர்ந்தெடுக்கப்படுகின்றனர்.
- மேலும் மூன்றில் ஒரு பங்கு உறுப்பினர்கள் சட்டமன்ற உறுப்பினர்களால் தேர்ந்தெடுக்கப்படுகின்றனர்.
- பன்னிரண்டில் ஒரு பங்கு உறுப்பினர்கள் பட்டதாரிகளால்தேர்ந்தெடுக்கப்படுகின்றனர்.
- மற்றொரு பன்னிரண்டில் ஒரு பங்கு உறுப்பினர்கள் இடைநிலை பள்ளி ஆசிரியர்கள், கல்லூரி, பல்கலைக்கழக ஆசிரியர்களால் தேர்ந்தெடுக்கப்படுகின்றனர்.
- ஆறில் ஒரு பங்கு உறுப்பினர்கள் மாநில ஆளுநரால் நியமிக்கப்படுகின்றனர்.

சட்டமன்ற மேலவை ஒரு நிலையான அவையாகும். இதன் உறுப்பினர்களில் மூன்றில் ஒரு பங்கு உறுப்பினர்கள் இரண்டு ஆண்டுகளுக்கு ஒரு முறை ஓய்வு பெறுவர். அக்காலிப் பணியிடங்களுக்கு தேர்தல் நடைபெறும். உறுப்பினர்களின் பதவிக்காலம் ஆறு ஆண்டுகள் ஆகும். உறுப்பினராக தேர்ந்தெடுக்கப்படுவதற்கு ஒருவர் இந்தியக்

8th_Civics_TM_Unit-1.indd 202 12/3/2022 11:08:03 AM

உங்களுக்குத் தெரியுமா?

இந்தியாவில் தற்போது ஆறு மாநிலங்களில் மட்டும் சட்டமன்ற மேலவை நடைமுறையில் உள்ளது. அவைபீகார்,உத்திரப்பிரதேசம், மகாராஷ்டிரம், கர்நாடகம், ஆந்திரப் பிரதேசம் மற்றும் தெலுங்கானா ஆகும்.

குடிமகனாகவும், 30 வயது நிரம்பியவராகவும் இருத்தல் வேண்டும். இவர் மாநில சட்டமன்றத்திலும் அல்லது பாராளுமன்றத்தின் இரண்டு அவைகளிலும் உறுப்பினராக இருத்தல் கூடாது. தலைமை அலுவலராக அவைத்தலைவர் இருப்பார். அவைத்தலைவர் இல்லாதபோது துணைத் தலைவர் அவையை நடத்தும் பொறுப்பினை கொண்டிருப்பார். சட்டமன்ற மேலவையின் தலைவர் மற்றும் துணைத் தலைவரை அவையின் உறுப்பினர்கள் தேர்ந்தெடுக்கின்றனர்.

சட்டமன்றப் பேரவை

மாநில அரசாங்கத்தின் சட்டங்களை உருவாக்குபவர்கள் சட்டமன்ற உறுப்பினர்கள் (MLA) என அழைக்கப்படுகின்றனர். இவர்கள் பல்வேறு சட்டமன்ற தொகுதிகளில் இருந்து தேர்ந்தெடுக்கப்படுகின்றனர். சட்டமன்ற தேர்தலுக்காக, மாநிலம் பல்வேறு தொகுதிகளாகப் பிரிக்கப்படுகின்றன. இவை சட்டமன்ற தொகுதிகள் என அழைக்கப்படுகின்றன. ஒரு சட்டமன்ற தொகுதி ஒரு லட்சம் அல்லது அதற்கு மேற்பட்ட மக்கள் தொகையைக் கொண்டிருக்கும். ஒவ்வொரு சட்டமன்ற தொகுதியிலிருந்தும் ஒரு உறுப்பினர் தேர்ந்தெடுக்கப்படுகிறார்.

சட்டமன்ற பேரவைக்கான தேர்தல்

சட்டமன்றபேரவைக்கான தேர்தலில் பல்வேறு அரசியல் கட்சிகள் போட்டியிடுகின்றன. இக்கட்சிகள் ஒவ்வொரு தொகுதிக்கும் தமது வேட்பாளர்களை நியமிக்கின்றன. தேர்தலில் போட்டியிடும் வேட்பாளர் மக்களிடம் தமக்கு வாக்களிக்குமாறு கோருகிறார். சட்டமன்ற தேர்தலில் போட்டியிடும் ஒருவர் 25 வயது நிரம்பியவராக இருத்தல் வேண்டும். ஒருவர் ஒரே சமயத்தில் ஒன்றுக்கும் மேற்பட்ட தொகுதிகளில் போட்டியிடலாம். எந்த கட்சியையும் சாராத ஒருவரும் தேர்தலில் போட்டியிடலாம். அவ்வாறு போட்டியிடும் வேட்பாளர் சுயேட்சை வேட்பாளர் என அழைக்கப்படுகிறார். ஒவ்வொரு கட்சியும் தனக்கென ஒரு சின்னத்தை கொண்டிருக்கும். சுயேட்சை வேட்பாளர்களுக்கும் சின்னம் வழங்கப்படும். சட்டமன்ற உறுப்பினர்கள் மக்களால் நேரடியாக தேர்ந்தெடுக்கப்படுகின்றனர். ஒரு சட்டமன்ற தொகுதியில் வசிக்கும் 18 வயது நிரம்பிய அனைவரும் சட்டமன்ற தேர்தலில் வாக்களிக்கலாம்.

அரசியலமைப்பின்படி ஒரு மாநில சட்டமன்றத்தில் 500 உறுப்பினர்களுக்கு மேலாகவும் 60 உறுப்பினர்களுக்கு குறைவாகவும் இருத்தல் கூடாது. அட்டவணைப் பிரிவினர், பழங்குடியினருக்கு சட்டமன்றத்தில் இட ஒதுக்கீடு வழங்கப்பட்டுள்ளது. மாநில ஆளுநர் சட்டமன்றத்திற்கு ஒரு ஆங்கிலோ இந்திய உறுப்பினரை நியமனம் செய்கிறார். சட்டமன்ற உறுப்பினர்கள் ஐந்தாண்டு காலத்திற்கு தேர்ந்தெடுக்கப்படுகின்றனர். ஆனால் மாநில ஆளுநர், சட்டமன்றத்தின் பதவிக்காலம் முடிவதற்கு முன்பாகவே அதனை கலைத்து புதிதாக தேர்தல் நடத்த அழைப்பு விடுக்கலாம். சட்டமன்ற கூட்டத்திற்கு சபாநாயகர் தலைமை ஏற்கிறார். இவர் சட்டமன்ற உறுப்பினர்களால் தேர்ந்தெடுக்கப்படுகிறார். சபாநாயகர் இல்லாத நேர்வுகளில் துணை சபாநாயகர் சட்டமன்ற கூட்டத்திற்கு தலைமை ஏற்கிறார்.

மாநில அமைச்சரவை

தேர்தலில் பெரும்பான்மை பெறும் கட்சியின் தலைவர் முதலமைச்சராக தேர்ந்தெடுக்கப்படுகிறார். தமிழ்நாட்டில் 234 சட்டமன்ற தொகுதிகள் உள்ளன. 118 க்கும் அதிகமான தொகுதிகளில் வெற்றி பெற்ற கட்சி ஆளுநரால் ஆட்சி அமைக்க அழைக்கப்படுகிறது. முதலமைச்சர் (இவரும் ஒரு சட்டமன்ற உறுப்பினராக இருத்தல் வேண்டும்) அவரது கட்சி சட்டமன்ற உறுப்பினர்களிலிருந்து, அமைச்சர்களை தேர்வு செய்கிறார். இவ்வாறு முதலமைச்சர் மற்றும் அவரது தலைமையிலான பல்வேறு துறை அமைச்சர்களும் கொண்ட அமைப்பு மாநில அரசாங்கம் என அழைக்கப்படுகிறது. ஆகவே தேர்தலில் பெரும்பான்மை பெறும் கட்சி ஆட்சி அமைக்கும் எனக் கூறலாம்.

8th_Civics_TM_Unit-1.indd 203 12/3/2022 11:08:03 AM

மாநில அரசாங்கத்தின் செயல்பாடுகள்

சட்டமன்றத்திற்கு உறுப்பினர்களாக தேர்ந்தெடுக்கப்பட்ட பின்னர் ஒவ்வொரு சட்டமன்ற உறுப்பினரும் அதன் கூட்டத்தில் கலந்து கொள்ளுதல் வேண்டும். சட்டமன்றம் ஆண்டிற்கு இரண்டு அல்லது மூன்று முறை கூடும். மாநிலத்திற்கான சட்டங்களை இயற்றுவது சட்டமன்றத்தின் முக்கிய பணி ஆகும். சட்டமன்றம் மாநிலப் பட்டியல் மற்றும் மத்தியப் பட்டியலில் உள்ள துறைகள் தொடர்பாக சட்டத்தை இயற்றலாம். எனினும் நெருக்கடி நிலை நடைமுறையில் உள்ளபோது சட்டமன்றம் தனது சட்டமியற்றும் அதிகாரத்தைப் பயன்படுத்த இயலாது.

மாநில சட்டமன்றம் அமைச்சரவையின் மீது கட்டுப்பாட்டினை செலுத்துகிறது. மாநில அமைச்சரவை சட்டமன்றத்திற்கு பொறுப்புள்ளதாகவும் மற்றும் பதில் அளிக்கவும் கடமைப்பட்டுள்ளது. அமைச்சரவையின் செயல்பாடுகளில் திருப்தி ஏற்படாவிட்டால் மாநில சட்டமன்றத்தில் ஒரு நம்பிக்கை இல்லா தீர்மானத்தை இயற்றி அமைச்சரவையை நீக்கம் செய்திடலாம். மாநில சட்டமன்றம் ஆனது மாநிலத்தின் நிதியைக் கட்டுப்படுத்துகிறது. நிதி மசோதாவை சட்டமன்றத்தில் மட்டுமே கொண்டுவர இயலும். சட்டமன்றத்தின் அனுமதி இல்லாமல் மாநில அரசாங்கம் வரியினை விதிக்கவோ, அதிகரிக்கவோ, குறைக்கவோ, விலகிக் கொள்ளவோ இயலாது. சட்டமன்றத்தில் தேர்ந்தெடுக்கப்பட்ட உறுப்பினர்கள் குடியரசுத் தலைவரைத் தேர்ந்தெடுக்கும் தேர்தலில் பங்கேற்கின்றனர். மாநிலங்களவை உறுப்பினர்களைத் தேர்ந்தெடுக்கும் தேர்தலில் சட்டமன்றத்தின் அனைத்து உறுப்பினர்களும் பங்கு கொள்கின்றனர். அரசியலமைப்பைத் திருத்தும் சில நேர்வுகளில் சட்டமன்றம் பங்கு வகிக்கிறது. எனவே அரசாங்கமானது சட்டத்தை உருவாக்குதல், சட்டத்தை நடைமுறைப்படுத்துதல், நீதியை உறுதி செய்தல் ஆகிய மூன்று அடிப்படை பணிகளைக் கொண்டுள்ளது.

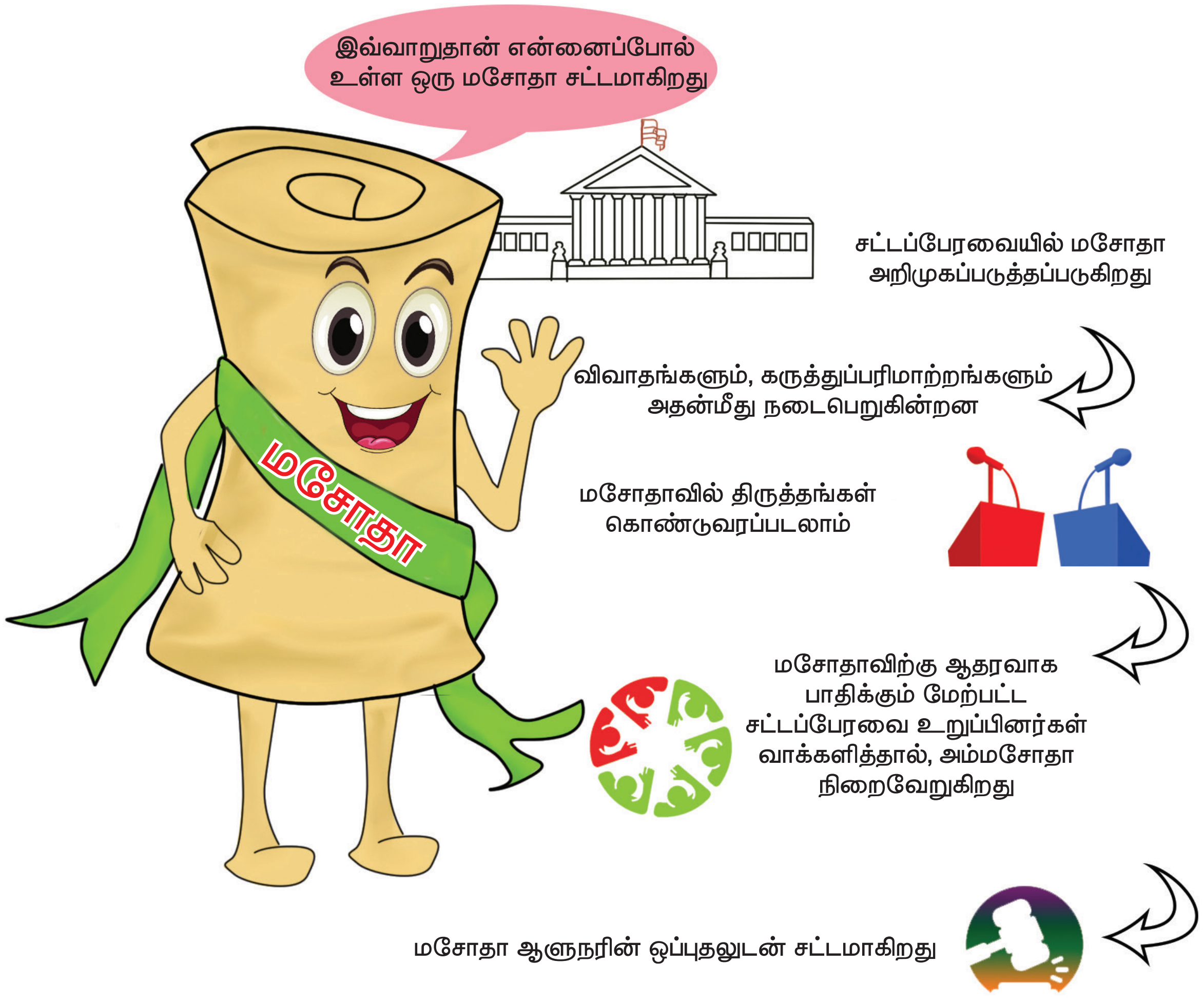

8th_Civics_TM_Unit-1.indd 204 12/3/2022 11:08:04 AM

மாநில அரசாங்கத்தில் சட்டங்கள் எவ்வாறு இயற்றப்படுகின்றன?

நாட்டு மக்களுக்காக பல்வேறு வகையான விதிகள் மற்றும் சட்டங்கள் உருவாக்கப்படுகின்றன. உதாரணமாக நீங்கள் ஒரு துப்பாக்கியை உரிமம் இல்லாமல் வைத்துக் கொள்ள இயலாது அல்லது சட்டப்படி ஒரு பெண் 18 வயதிற்கு முன்பாகவும் அல்லது ஒரு ஆண் 21 வயதிற்கு முன்பாகவும் திருமணம் செய்து கொள்ள இயலாது. இத்தகைய விதிகளும் சட்டங்களும் சாதாரணமாக இயற்றப்பட்டவை அல்ல. மக்களால் தேர்ந்தெடுக்கப்பட்ட அரசாங்கம் இதுபோன்ற சட்டங்களை உருவாக்குவதற்கு முன்பாகக் கவனமாக சிந்தித்து உள்ளது. இவை போன்ற பல்வேறு சட்டங்கள் மாநில மற்றும் மத்திய அரசாங்கத்தால் இயற்றப்படுகின்றன.

சட்டமன்றத்தில் சட்டமன்ற உறுப்பினர்கள் மாநிலத்தில் உள்ள பல்வேறு பிரச்சனைகளான பொதுப்பணிகள், கல்வி, சட்டம் மற்றும் ஒழுங்கு ஆகியவை பற்றி விவாதிக்கின்றனர். சட்டமன்ற உறுப்பினர்களுக்கான துறைகளின் செயல்பாடுகளை தெரிந்துகொள்ள கேள்விகளை எழுப்பலாம் இதற்கு அந்தத்துறை சார்ந்த அமைச்சர் விடையளிக்க வேண்டும். சில நிகழ்வுகள் குறித்து சட்டமன்றம் சட்டங்களை இயற்றுகிறது. சட்டம் இயற்றும் முறை பின்வருமாறு:

சட்டங்களை நடைமுறைப்படுத்துதல்

சட்டங்களை நடைமுறைப்படுத்துவது மாநில அமைச்சரவையின் பணியாகும். தமிழ்நாடு சட்டமன்றம் சென்னையில் அமைந்துள்ளது. ஒரு மாநிலத்தில் சட்டமன்றம் மற்றும் அமைச்சரவை பொதுவாக எங்கு செயல்படுகிறதோ அதுவே மாநிலத்தின் தலைநகரம் ஆகும்.

> **உங்களுக்குத் தெரியுமா?**
>
> மாநில சட்டமன்றமும் சாதாரண அல்லது பண மசோதாக்களை நிறைவேற்றுவதில் பாராளுமன்றம் பின்பற்றும் நடைமுறைகளையே பின்பற்றுகிறது. சட்டமன்றபேரவை சட்டமன்ற மேலவையைக் காட்டிலும் அதிக அதிகாரம் கொண்டதாகும்.

சட்டமன்றத்தால் உருவாக்கப்பட்ட சட்டங்களை நடைமுறைப்படுத்த. மாவட்ட ஆட்சியர்கள், வட்டாட்சியர்கள், வட்டார வளர்ச்சி அலுவலர்கள், வருவாய் அலுவலர்கள், கிராம நிர்வாக அலுவலர்கள், காவலர்கள், ஆசிரியர்கள் மற்றும்மருத்துவர்கள்எனபலலட்சக்கணக்கான பணியாளர்கள் மாநில அரசாங்கத்தால் பணியமர்த்தப்பட்டிருக்கின்றனர். அவ்வகையான அலுவலர்களுக்கு மாநில அரசாங்கம் ஊதியம் வழங்குகிறது. இவர்கள் மாநில அரசின் ஆணைகளைப் பின்பற்றி நடத்தல் வேண்டும்.

மாநிலத்தின் நீதித்துறை

உயர் நீதிமன்றம்

மாநிலத்தில் உயரிய நீதி அமைப்பாக உயர் நீதிமன்றம் விளங்குகிறது. அரசியலமைப்பின் படி ஒவ்வொரு மாநிலத்திற்கும் ஒரு உயர் நீதிமன்றம் இருக்கும். எனினும் ஒன்றுக்கு மேற்பட்ட மாநிலங்கள் அல்லது யூனியன் பிரதேசங்களுக்கு பொதுவான ஒரு உயர்நீதிமன்றமும் இருக்கலாம். மாநில உயர்நீதிமன்றம் ஒரு தலைமை நீதிபதியையும், குடியரசுத் தலைவர் தேவைக்கு ஏற்ப அவ்வப்போது நியமனம் செய்யும் இதர நீதிபதிகளையும் கொண்டிருக்கும். உயர் நீதிமன்ற நீதிபதிகளின் எண்ணிக்கை நிலையாகவும் ஒரே மாதிரியாகவும் இருப்பதில்லை. குடியரசுத் தலைவர் உச்ச நீதிமன்ற தலைமை நீதிபதியையும், மாநில ஆளுநரையும் கலந்தாலோசித்து உயர்நீதிமன்ற தலைமை நீதிபதியை நியமனம் செய்கிறார்.

உயர்நீதிமன்றத்தின் நீதிபதி பின்வரும் தகுதிகளை கட்டாயம் கொண்டிருத்தல் வேண்டும்.

- இந்தியக் குடிமகனாக இருத்தல் வேண்டும்.
- ஒன்று அல்லது அதற்கு மேற்பட்ட உயர் நீதிமன்றங்களில் வழக்குரைஞராக குறைந்தபட்சம் 10 ஆண்டுகள் அனுபவம் பெற்றிருத்தல் வேண்டும்.

உயர் நீதிமன்ற நீதிபதி 62 வயது வரை அப்பதவியில் இருப்பார். உயர்நீதிமன்ற நீதிபதி நிரூபிக்கப்பட்ட தவறான நடத்தை மற்றும் திறமை இன்மை ஆகியவற்றின் அடிப்படையில் உச்சநீதிமன்ற நீதிபதிகளை நீக்குவது போன்று நீக்கப்படலாம்.

8th_Civics_TM_Unit-1.indd 205 12/3/2022 11:08:04 AM

உயர்நீதிமன்றத்தின் அதிகாரம் மற்றும் பணிகள்

- அடிப்படை உரிமைகள் மற்றும் இதர நோக்கங்களை வலியுறுத்த உயர்நீதிமன்றம் ஆட்கொணர்வு நீதிப் பேராணை, தகுதி முறை வினவும் நீதிப்பேராணை, தடை உறுத்தும் நீதிப்பேராணை, கட்டளையிடும் நீதிப்பேராணை மற்றும் ஆவணங்களை தாக்கல் செய்ய வலியுறுத்தும் நீதிப் பேராணை ஆகியவற்றைப் பிறப்பிக்கின்றன.
- ஒவ்வொரு உயர்நீதிமன்றமும் தனது அதிகார எல்லைக்குள் உள்ள ராணுவ நீதிமன்றங்கள் மற்றும் தீர்ப்பாயங்கள் நீங்கலாக அனைத்து சார் நிலை நீதிமன்றங்கள் மற்றும் தீர்ப்பாயங்களை கண்காணிக்கும் அதிகாரத்தைக் கொண்டுள்ளது.
- சார் நிலை நீதிமன்றத்தில் நிலுவையிலுள்ள ஒரு வழக்கில் அதில் சட்ட முகாந்திரம் உள்ளது என உயர் நீதிமன்றம் திருப்தியுறும் போது இவ்வழக்கினை எடுத்து தானே முடிவு செய்யலாம்.
- உயர் நீதிமன்றம் மாநிலத்தில் உள்ள அனைத்து சார் நிலை நீதிமன்றங்களையும் கட்டுப்படுத்துகிறது.
- உயர் நீதிமன்றம் உச்ச நீதிமன்றத்தைப் போலவே வழக்குகள் பற்றிய பதிவேடுகளின் ஆதாரச் சான்றாக உள்ள பதிவுரு நீதிமன்றமாக விளங்குகிறது.
- நீதி நிர்வாகத்திற்காக ஒவ்வொரு மாநிலமும் பல்வேறு மாவட்டங்களாகப் பிரிக்கப்பட்டுள்ளன. ஒவ்வொரு மாவட்டமும் மாவட்ட நீதிமன்றத்தின் எல்லைக்குள் அமைந்திருக்கும். மாவட்ட நீதிபதிகள் ஆளுநரால் நியமனம் செய்யப்படுகின்றனர். மேலே தெரிவித்த அதிகாரங்களை தனது எல்லைக்குள் செயல்படுத்தும் போது நீதிமன்றம் முழு அதிகாரத்தையும் சுதந்திரத்தையும் கொண்டுள்ளது. அரசியலமைப்பின் பாதுகாப்பு என்பது நீதிமன்றங்கள் சுதந்திரமாக செயல்படுவதன் மூலம் உறுதி செய்யப்படுகிறது.

மீள்பார்வை

- நம் நாட்டில் 28 மாநில அரசாங்கங்கள் செயல்படுகின்றன. ஒவ்வொரு மாநிலமும் தனது நிர்வாகத்தை மேற்கொள்ள ஓர் அரசாங்கத்தைக் கொண்டுள்ளது.
- இந்தியாவின் மாநில அரசின் தலைவராக ஆளுநர் இருப்பார் என அரசியலமைப்பு கூறுகிறது.
- மாநில அரசின் உயர் அதிகாரிகளை நியமிப்பதில் முதலமைச்சர் முக்கிய பங்கு வகிக்கிறார்.
- மாநில அரசாங்கத்தின் சட்டங்களை இயற்றுபவர்கள் சட்டமன்ற உறுப்பினர்கள் என அழைக்கப்படுகின்றனர்.
- மாநிலத்தின் உயர்ந்த நீதி அமைப்பாக உயர் நீதிமன்றம் செயல்படுகிறது. அரசியலமைப்பின்படி ஒவ்வொரு மாநிலத்திற்கும் ஒரு உயர் நீதிமன்றம் இருத்தல் வேண்டும்.

கலைச்சொற்கள்		
தொகுதி	Constituency	The body of voters who elect a representative for their area
அதிகார வரம்பு	Jurisdiction	Power or authority to interpret and apply the law
சட்டமன்றம்	Legislature	An organized body having the authority to make laws for a political unit
பிரகடனம்	Promulgate	Announce widely known
தள்ளிவை	Prorogues	To suspend or end a legislative session

8th_Civics_TM_Unit-1.indd 206 12/3/2022 11:08:04 AM

மதிப்பீடு

I சரியான விடையைத் தேர்ந்தெடுக்கவும்

N687G

1. ஒரு மாநிலத்தின் ஆளுநர் யாரால் நியமிக்கப்படுகிறார்?

அ) குடியரசுத் தலைவர்

ஆ) துணைக் குடியரசுத் தலைவர்

இ) பிரதம மந்திரி

ஈ) முதலமைச்சர்

2. மாநில அமைச்சரவைக் குழுவின் தலைவர்

அ) ஆளுநர் ஆ) முதலமைச்சர்

இ) சபாநாயகர் ஈ) உள்துறை அமைச்சர்

3. மாநில சட்டமன்ற கூட்டத்தைக் கூட்டவும், ஒத்திவைக்கவும் அதிகாரம் பெற்றவர்

அ) உள்துறை அமைச்சர்

ஆ) குடியரசுத் தலைவர்

இ) சபாநாயகர்

ஈ)ஆளுநர்

4. உயர் நீதி மன்ற நீதிபதிகளை நியமிப்பதில் பங்கு பெறாதவர் யார்?

அ) ஆளுநர்

ஆ) முதலமைச்சர்

இ) உயர் நீதி மன்ற தலைமை நீதிபதி

ஈ) குடியரசுத் தலைவர்

5. உயர் நீதிமன்ற நீதிபதிகள் ஓய்வு பெறும் வயது

அ) 62 ஆ) 64 இ) 65 ஈ) 58

II கோடிட்ட இடங்களை நிரப்புக

1. இந்தியாவில் உள்ள மொத்த மாநிலங்களின் எண்ணிக்கை ____________ ஆகும்.
2. ஆளுநரின் பதவிக்காலம் ____________ ஆண்டுகள் ஆகும்.
3. மாவட்ட நீதிபதிகள் ____________ ஆல் நியமிக்கப்படுகின்றனர்.
4. ஆளுநர் ஒரு மாநிலத்தின் ____________ ஆவார்.
5. ஒருவர் சட்டப்பேரவை உறுப்பினராக ____________ வயது நிறைவடைந்திருக்க வேண்டும்.

III பொருத்துக

1. ஆளுநர்	–	கீழவை
2. முதலமைச்சர்	–	பெயரளவுத் தலைவர்
3. சட்டமன்ற பேரவை	–	மேலவை
4. சட்டமன்ற மேலவை	–	உண்மையான தலைவர்

IV சரியா / தவறா எனக் குறிப்பிடுக

1. முதலமைச்சர் மாநிலத்தின் தலைமை நிர்வாகி ஆவார்.
2. ஆளுநர் சட்ட மன்றத்திற்கு இரண்டு ஆங்கிலோ இந்திய உறுப்பினர்களை நியமிக்கிறார்.
3. உயர் நீதிமன்ற நீதிபதிகளின் எண்ணிக்கை நிலையாகவும் ஒரே மாதிரியாகவும் இருப்பதில்லை.

V சரியான கூற்றைத் தேர்ந்தெடு

1. மாநில சட்டமன்ற உறுப்பினர்கள் கீழ்கண்டவர்களுள் யாரைத் தேர்ந்தெடுப்பதில் பங்கு பெறுகின்றனர்.

i. குடியரசுத் தலைவர்

ii. துணை குடியரசுத் தலைவர்

iii. ராஜ்ய சபை உறுப்பினர்கள்

iv. சட்டமன்ற மேலவை உறுப்பினர்கள்

அ) i, ii & iii சரி ஆ) i மற்றும் iii சரி

இ) I,iii மற்றும் iv சரி ஈ) I,ii,iii மற்றும் iv சரி

VI கீழ்க்காணும் வினாக்களுக்கு ஓரிரு வார்த்தைகளில் விடையளி

1. மாநில சட்டமன்றத்தின் இரு அவைகளின் பெயரை எழுதுக.
2. மாநில சட்டமன்ற பேரவை உறுப்பினராவதற்கு உள்ள தகுதிகள் யாவை?
3. முதலமைச்சர் எவ்வாறு நியமிக்கப்படுகிறார்?
4. மாநில அமைச்சரவை குழு எவ்வாறு உருவாக்கப்படுகிறது?

8th_Civics_TM_Unit-1.indd 207 12/3/2022 11:08:04 AM

VII விரிவான விடையளி

1. முதலமைச்சரின் அதிகாரங்கள் மற்றும் பணிகளை விவரி?
2. மாநில சட்ட மன்றத்தின் மன்றத்தின் அதிகாரங்கள் மற்றும் பணிகளை விவரி?
3. உயர் நீதிமன்றத்தின் அதிகாரங்களையும், பணிகளையும் எழுது?

VIII செயல்திட்டம் மற்றும் செயல்பாடு

1. தமிழ்நாடு மற்றும் அண்டை மாநிலங்களின் ஆளுநர், முதலமைச்சர் பெயர்களைப் பட்டியலிடுக.
2. தமிழ்நாட்டின் அமைச்சர்களின் பெயர்கள் மற்றும் அவர்கள் சார்ந்த துறைகளையும் பட்டியலிடுக.

மேற்கோள் நூல்கள்

- The Constitution of India, Government of India, Ministry of Law and Justice, 2011.
- Om Prakash Aggarawala, S.K. Aiyar The Constitution of India, Metropolitan Book Company Ltd., Delhi, 1950.

இணையதள வளங்கள்

- www.tnrajbhavan.gov.in/
- www.tn.gov.in/
- indiancourts.nic.in/

இணையச் செயல்பாடு

மாநில அரசு எவ்வாறு செயல்படுகிறது

இச்செயல்பாட்டின் மூலம் மாணவர்களை இந்திய நாடாளுமன்றம் பற்றி மெய்நிகராக அறியச் செய்தல்.

படிநிலைகள்

- கீழ்க்காணும் உரலி/விரைவுக் குறியீட்டைப் பயன்படுத்தி மக்களவையின் அதிகாரப்பூர்வ இணையப் பக்கத்திற்குச் செல்க. அதில் "Members" என்பதைத் தேர்வு செய்து தற்போதைய நாடாளுமன்ற உறுப்பினர்களின் பெயர்களை அறிந்து கொள்க.
- இணையப் பக்கத்தின் நடுப்பகுதிக்கு வருக. நாட்டின் பல்வேறு துறைகளின் அமைச்சரவை உறுப்பினர்கள் பற்றி அறிந்து கொள்க.
- வட்ட விளக்கப்படத்திற்கு மேல் சுட்டியைக் கொண்டு சென்று, நடுவண் அரசில் அங்கம் வகிக்கும் கட்சிகளின் பலத்தைத் தெரிந்து கொள்க.
- இணையப் பக்கத்தின் கீழ்ப்பகுதிக்குச் செல்க. 'Virtual tour' என்பதைச் சொடுக்கி நாடாளுமன்றத்தின் அமைப்பு குறித்த மெய்நிகர் காணொலிப் பயணம் மேற்கொள்க.

AHF5V

உரலி:

https://indiancitizenshiponline.nic.in/Home.aspx

8th_Civics_TM_Unit-1.indd 208 12/3/2022 11:08:04 AM

அலகு – 2

குடிமக்களும் குடியுரிமையும்

கற்றலின் நோக்கங்கள்

இப்பாடத்தைக் கற்றுக் கொள்வதன் வாயிலாக மாணவர்கள் கீழ்க்கண்ட அறிவினை பெறுகின்றனர்

- குடிமக்கள் மற்றும் குடியுரிமைக்கான பொருள் மற்றும் வரையறைகள்
- இந்திய அரசியலமைப்பு சட்டம்
- இந்தியக் குடியுரிமை பெறுதலும், இழத்தலும்
- வெளிநாட்டுக் குடியுரிமையின் தன்மை
- குடிமக்களின் உரிமைகளும், பொறுப்புகளும்

அறிமுகம்

ஒரு நாட்டின் அரசாங்கத்தைப் பற்றியும், மக்களின் உரிமைகள் மற்றும் கடமைகள் பற்றியும் படிக்கும் இயல் குடிமையியல் ஆகும். குடிமகன் (Citizen) என்ற சொல் 'சிவிஸ்' (Civis) என்னும் இலத்தீன் வார்த்தையிலிருந்து பெறப்பட்டது. இதன் பொருள் பண்டைய ரோமாபுரியில் இருந்த நகர நாடுகளில் 'குடியிருப்பாளர்' என்பதாகும். நகர நாடுகள் அமைப்புகள் மறைந்த பின்னர் இச்சொல் நாடுகளின் உறுப்பினர் என்ற பொருளில் பயன்படுத்தப்பட்டது. ஒரு நாட்டின் குடிமக்கள் அனைத்து விதமான குடியியல், அரசியல் உரிமைகளை அனுபவிக்க தகுதி உடையவர்கள் ஆவர்.

குடிமகனும் குடியுரிமையும்

ஒரு அரசால் வழங்கப்பட்ட சட்ட உரிமைகளையும், சலுகைகளையும் அனுபவிப்பவரும், அதே வேளையில் நாட்டின் சட்டங்களை மதித்து நடப்பவரும், அவருக்கான கடமைகளை நிறைவேற்றுபவருமே அந்நாட்டின் குடிமகன் ஆவார்.

குடியுரிமை என்பது ஒரு குடிமகன் அவர் விரும்பும் காலம் வரையில் அந்நாட்டில் சட்டப்படியாக வசிக்கும் உரிமையை வழங்குதலே ஆகும்.

குடியுரிமையின் வகைகள்

குடியுரிமை இரண்டு வகைப்படும்

1. இயற்கை குடியுரிமை: பிறப்பால் பெறக்கூடிய குடியுரிமை
2. இயல்புக் குடியுரிமை; இயல்பாக விண்ணப்பித்து பெறும் குடியுரிமை

உங்களுக்குத் தெரியுமா?

இந்தியக் குடியுரிமைச் சட்டம், 1955
இந்தியக் குடிமகன் தன்னுடைய குடியுரிமையை பெறுதலையும், இழத்தலையும் பற்றிய விதிகளை இச்சட்டம் கூறுகிறது.

குடியுரிமையை பெறுதல்

1955ஆம் ஆண்டு இந்தியக் குடியுரிமைச் சட்டம் குடியுரிமை பெறுவதற்கான ஐந்து வழிமுறைகளை பரிந்துரைக்கிறது. அவைகள் பின்வருவனவாறு வகைப்படுத்தப்படுகின்றன.

8th_Civics_TM_Unit-2.indd 209 12/3/2022 11:08:23 AM

1. பிறப்பால் குடியுரிமை பெறுதல்

- இந்தியாவில் 1950 ஜனவரி 26 அன்று அல்லது அதன் பிறகு அதேசமயம் 1987 ஜூலை 1க்கு முன்பு பிறந்த ஒரு நபர் அவரது பெற்றோர்கள் எந்த நாட்டவராயினும் பிறப்பால் இந்திய குடியுரிமை பெறுகிறார்.
- 1987 ஜூலை 1 மற்றும் அதற்குப் பின் இந்தியாவில் பிறக்கும் குழந்தையின் பெற்றோரில் ஒருவர் அச்சமயத்தில் இந்தியக் குடிமகனாக இருத்தல் வேண்டும்.
- 2004 டிசம்பர் 3 மற்றும் அதற்குப் பின் இந்தியாவில் பிறந்தவர்கள் பிறப்பால் குடியுரிமை பெறுகின்றனர். அல்லது பெற்றோரில்ஒருவர் இந்தியக்குடிமகனாகவும் மற்றொருவர் சட்ட விரோதமாக இந்தியாவிற்குள் இடம்பெயர்ந்தவராக இல்லாதிருந்தால் குடியுரிமை பெறுகின்றனர்.

2. வம்சாவளியால் குடியுரிமை பெறுதல்

- 1950 ஜனவரி 26 முதல் 1992 டிசம்பர்10 க்கு முன்னர் வெளிநாட்டில் பிறந்திருந்தாலும் அவருடைய தந்தை இந்தியக் குடிமகனாக இருக்கும் பட்சத்தில் அவர் வம்சாவளி மூலம் இந்திய குடியுரிமையைப் பெறுகிறார்.
- 1992 டிசம்பர் 10 மற்றும் அதற்கு பின்னர் வெளிநாட்டில் பிறந்தவர்களின் பெற்றோரில் எவரேனும் ஒருவர் அச்சமயத்தில் இந்திய குடிமகனாக இருந்தால் அவர் இந்தியக் குடியுரிமையைப் பெறுகிறார்.
- 2004 டிசம்பர் 3ஆம் நாள் முதல் வெளிநாட்டில் பிறந்தவர்கள் அவர்களுடைய பிறப்பினை ஒரு வருடத்திற்குள் இந்திய தூதரகத்தில் பதிவு செய்யவில்லை எனில் இந்திய வம்சாவளிக் குடிமகனாக முடியாது.

3. பதிவு செய்தல் மூலம் குடியுரிமை பெறுதல்

- இந்திய வம்சாவளியைச் சார்ந்த ஒரு நபர் எந்த ஒரு நாட்டில் வசித்தாலும் அல்லது பிரிக்கப்படாத இந்தியாவிற்கு வெளிப்பகுதியில் வசிப்பவராக இருந்தாலும் பதிவு செய்தலின் மூலம் குடியுரிமை பெறலாம்.
- இந்திய வம்சாவளியை சேர்ந்த ஒரு நபர் எந்தவொரு நாட்டில் வசித்தாலும் இந்தியாவில் ஏழு ஆண்டுகள் வசித்த பிறகே பதிவு செய்வதற்கு விண்ணப்பிக்க முடியும்.
- இந்தியக் குடிமகனை திருமணம் செய்த ஒருவர் பதிவின் மூலம் விண்ணப்பிக்கும் முன் ஏழு ஆண்டுகள் இந்தியாவில் வசித்தவராக இருத்தல் வேண்டும்.

4. இயல்புக் குடியுரிமை

ஒருவர் விண்ணப்பிப்பதன் மூலம் மத்திய அரசு அவருக்கு இயல்பு குடியுரிமைக்கான சான்றிதழை வழங்குகிறது.

- எந்த ஒரு நாட்டிலும் குடிமகனாக இல்லாத ஒரு இந்தியர் அவர் வசிக்கும் நாட்டின் குடிமகனாவதை தடுக்கும் பொருட்டு இயல்பு குடியுரிமை வழங்கப்படுகிறது.
- வெளிநாட்டுக் குடியுரிமையை ஒருவர் துறக்கும் பட்சத்தில் அவருக்கு இயல்பு குடியுரிமை வழங்கப்படுகிறது.
- ஒருவர் இந்தியாவில் வசிக்கும் பட்சத்தில் அல்லது இந்திய அரசுப்பணியில் இருக்கும் பட்சத்தில்(அ) ஆண்டு முழுவதும் இந்தியாவில் தங்கியிருக்கும் பட்சத்தில் இக்குடியுரிமையை பெறுகிறார்.
- நல்ல பண்புகளையும் இந்திய அரசியலமைப்பில் எட்டாவது அட்டவணையில் குறிப்பிட்டுள்ள ஏதேனும் ஒரு மொழியில் (தற்போது 22 மொழிகள்) போதிய அறிவினையும் பெற்ற ஒருவர் இயல்புக் குடியுரிமையைப் பெற தகுதியுடையவராவார்.

5. பிரதேசங்களை இணைத்தல் மூலம் பெறும் குடியுரிமை

- எந்தவொரு வெளிநாட்டுப் பகுதியும் இந்தியாவுடன் இணையும் போது, இந்திய அரசு அப்பகுதி மக்களை இந்திய குடிமக்களாக ஏற்றுக்கொள்கிறது.அந்த குறிப்பிட்ட நாளில் இருந்து அவர்கள் இந்திய குடிமக்களாகின்றனர்.உதாரணமாக பாண்டிச்சேரி இந்தியாவுடன் இணைந்த பொழுது, இந்திய அரசு அம்மக்களுக்கு 1962இல் இந்தியக் குடியுரிமைக்கான ஆணையை வழங்கியது.

இந்தியக் குடியுரிமையை இழத்தல்

குடியுரிமை இழப்பு பற்றிய மூன்று வழிமுறைகளை இந்திய அரசியலமைப்புச் சட்டத்தின் இரண்டாவது பகுதியின் 5 முதல் 11 வரையிலான விதிகள் குறிப்பிடுகின்றன.

8th_Civics_TM_Unit-2.indd 210 12/3/2022 11:08:23 AM

குடியுரிமையை துறத்தல் (தானாக முன்வந்து குடியுரிமையைத் துறத்தல்)

ஒருவர் வெளி நாட்டின் குடியுரிமையை பெறும் பட்சத்தில் அவரின் இந்தியக் குடியுரிமை அவரால் கைவிடப்படுகிறது.

குடியுரிமை முடிவுக்கு வருதல் (சட்டப்படி நடைபெறுதல்)

ஓர் இந்தியக் குடிமகன் தாமாக முன்வந்து வெளிநாட்டின் குடியுரிமையை பெறும் பட்சத்தில் அவரது இந்தியக் குடியுரிமை தானாகவே முடக்கப்படுகிறது.

குடியுரிமை மறுத்தல் (கட்டாயமாக முடிவுக்கு வருதல்)

மோசடி, தவறான பிரதிநிதித்துவம் அல்லது அரசியலமைப்பு சட்டத்திற்கு புறம்பாக செயல்படுதல் ஆகியவற்றின் மூலம் இந்தியக் குடியுரிமையை பெறும் ஒருவரின் குடியுரிமையை இந்திய அரசு ஓர் ஆணை மூலம் இழக்கச் செய்கிறது.

உங்களுக்குத் தெரியுமா?

நாட்டுரிமை மற்றும் குடியுரிமை

பூர்வீகம், பிறப்பு மற்றும் இனம் ஆகியவற்றின் அடிப்படையில் ஒரு குறிப்பிட்ட நாட்டினர் இயல்பாக பெறும் நிலை நாட்டுரிமை எனப்படும். சட்ட நடைமுறைகளுக்கு உட்பட்டு ஒரு நாட்டின் அரசாங்கத்தால் தனி ஒருவருக்கு வழங்கப்படுவது குடியுரிமை எனப்படும்.

ஒருவர் தனது நாட்டுரிமையை மாற்ற முடியாது. ஆனால் தனது குடியுரிமையை மாற்ற முடியும்.

ஒற்றைக் குடியுரிமை

இந்திய அரசியலமைப்புச் சட்டம் நமக்கு ஒற்றைக் குடியுரிமையை வழங்குகிறது. அதுவே இந்தியக் குடியுரிமை எனப்படுகிறது. ஆனால் அமெரிக்க ஐக்கிய நாடுகள் மற்றும் சுவிட்சர்லாந்து ஆகிய கூட்டாட்சி அமைப்பு கொண்டுள்ள நாடுகளில் இரட்டைக் குடியுரிமை வழங்கப்படுகிறது. (தேசிய குடியுரிமை, மற்றும் மாநில குடியுரிமை)

இந்திய குடிமக்கள் அனைவரும் இந்தியாவில் எங்கு பிறந்திருந்தாலும், வசித்தாலும் மாநில வேறுபாடின்றி குடியுரிமைக்கான அனைத்து அரசியல் மற்றும் குடிமையியல் உரிமைகளை அனுபவிக்கின்றனர்.

உங்களுக்குத் தெரியுமா?

முன்னுரிமை வரிசைப்படி குடியரசு தலைவர் நாட்டின் முதல் குடிமகன் ஆவார்.

இந்தியாவில் வசிக்கும் வெளிநாட்டுக் குடியுரிமை பெற்றவர்

வெளிநாடு வாழ் இந்தியர் – NRI (Non Resident Indian)
இந்தியக் கடவுச் சீட்டினை (Passport) பெற்று வெளிநாட்டில் வசிக்கும் இந்தியக் குடிமக்கள்.

இந்திய பூர்வீக குடியினர் – PIO (Person on Indian Origin)
இந்தியக் குடியுரிமை உடைய மூதாதையர்களைக் கொண்ட, வெளிநாட்டில் குடியுரிமை (பாகிஸ்தான், வங்காளதேசம், ஸ்ரீலங்கா, பூடான், ஆப்கானிஸ்தான், சீனா, நேபாளம் நீங்கலாக) பெற்றிருக்கும் ஒருவர் இந்திய பூர்வீக குடியினர் ஆவர். 2015 ஜனவரி 9 முதல் PIO முறை இந்திய அரசால் திரும்பப் பெறப்பட்டு OCI முறையுடன் இணைக்கப்பட்டுள்ளது.

வெளிநாட்டுக் குடியுரிமையை கொண்ட இந்தியாவில் வசிப்பதற்கான அட்டை வைத்திருப்பவர் (Overseas citizen of India Card Holder)
இந்தியாவை பூர்வீகமாகக் கொண்ட வெளிநாட்டு குடிமகன் (பாகிஸ்தான், வங்காளதேசம் நீங்கலாக) காலவரையின்றி இந்தியாவில் வசிப்பதற்கும், பணி செய்வதற்கும் OCI அட்டை பெறுகிறார். இவர்களுக்கு இந்தியாவில் வாக்களிக்கும் உரிமை இல்லை.

இந்திய குடிமக்களின் உரிமைகளும், கடமைகளும்

இந்திய அரசியலமைப்புச் சட்டம் கீழ்க்கண்ட உரிமைகளை நமக்கு வழங்குகிறது

- அடிப்படை உரிமைகள்
- மக்களவை தேர்தலுக்கும், மாநில சட்டமன்ற தேர்தலுக்கும் வாக்களிக்கும் உரிமை
- இந்திய அரசு அலுவலகங்களில் பணிபுரியும் உரிமை. இந்திய பாராளுமன்றம் மற்றும் மாநில சட்ட மன்றங்களில் உறுப்பினராவதற்கான உரிமை.

இந்திய அரசியலமைப்பு 42 வது சட்டத்திருத்தத்தின் படி இந்தியக் குடிமக்களுக்கான அடிப்படை கடமைகள் வரையறுக்கப்பட்டுள்ளன.

8th_Civics_TM_Unit-2.indd 211 12/3/2022 11:08:24 AM

(உதாரணமாக: நேர்மையாக வரி செலுத்துதல், மற்றவர்களின் கருத்துக்களுக்கும், நம்பிக்கைகளுக்கும், உரிமைகளுக்கும் மதிப்பளித்தல், நாட்டின் பாதுகாப்பிற்காகச் செயலாற்றுதல், சட்டங்களை மதித்தல் மற்றும் கீழ்படிதல்.)

ஒரு நாட்டின் குடிமக்கள் அல்லாதவர்களை இரண்டு வகையினராக நாம் அழைக்கின்றோம் அவை :

1. அந்நியர் (Alien)

ஒரு நாட்டில் வசிக்கும் குடிமகனாக அல்லாத அனைவரும் அந்நியர் எனப்படுவர்.

உதாரணம் : வெளிநாட்டு சுற்றுலாப் பயணிகள், வெளிநாட்டு மாணவர்கள்

2. குடியேறியவர் (Immigrant)

ஒரு நாட்டில் எவ்வித தடையும் இன்றி நிரந்தரமாக வசிப்பதற்கும், பணி புரிவதற்கும் உரிமை பெறும் அந்நியர் குடியேறியவர் எனப்படுகிறார்.

நற்குடிமகனின் பண்புகள்

- அரசியலமைப்புச் சட்டத்தின் படி நடத்தல்
- சட்டத்துக்கு கீழ்படிதல்
- சமுதாயத்திற்கு தன் பங்களிப்பை ஆற்றுதல் மற்றும் குடிமைப் பணியை செயலாற்றுதல்.
- நற்பண்புகளையும், நீதியையும் நிலைநாட்டுதல்
- வேற்றுமைகளை மறந்து நடத்தல்

உங்களுக்குத் தெரியுமா?

வெளிநாடு வாழ் இந்தியர் தினம் (பிரவாசி பாரதிய தினம்)

இந்திய அரசின் வெளியுறவுத் துறை அமைச்சகத்தால் இரண்டு ஆண்டுகளுக்கு ஒருமுறை பிரவாசி பாரதிய தினம் கொண்டாடப்படுகிறது. இந்த தினம் இந்தியாவின் வளர்ச்சிக்காக வெளிநாட்டில் வசிக்கும் இந்தியர்களின் பங்களிப்பினை பெறும் வகையில் கொண்டாடப்படுகிறது. இது மகாத்மா காந்தி தென் ஆப்பிரிக்காவிலிருந்து இந்தியாவிற்கு வருகை புரிந்த தினமான ஜனவரி 9ஆம் நாள் கொண்டாடப்படுகிறது.

உலகளாவிய குடியுரிமை

ஒரு குறிப்பிட்ட நாட்டின் குடிமகன் என்பதை விட உலகளாவிய சமுதாயத்தில் ஒவ்வொருவரும் அங்கம் என்பதே உலகளாவிய குடியுரிமை ஆகும். உலக மக்கள் அனைவருக்கும் உரிமைகளும், குடிமைப் பொறுப்புகளும் இயற்கையாகவே உள்ளன. புதிய சமுதாயத்தை உருவாக்குவதில் இன்றைய இளைஞர்களின் ஈடுபாட்டையும், பங்களிப்பையும் பெறுவதே உலகளாவிய குடியுரிமையின் அடிப்படை ஆகும்.

முடிவுரை

நமது அரசியலமைப்புச் சட்டம் ஒற்றைக் குடியுரிமையை வழங்குகிறது. இதன் மூலம் இந்தியமக்கள்அனைவருக்கும்சமஉரிமையை வழங்குகிறது. ஒருங்கிணைந்த இந்தியாவை உருவாக்கும் பொருட்டு, இந்திய மக்களிடையே சகோதரத்துவத்தையும், ஒற்றுமையையும் நமது அரசியலமைப்பு ஊக்குவிக்கிறது.

மீள்பார்வை

- ஒரு அரசால் அளிக்கப்பட்ட சட்ட உரிமைகளையும் சலுகைகளையும் அனுபவிக்கும் ஒருவர் குடிமகன் எனப்படுகிறார்.
- இந்திய அரசியலமைப்பின் பகுதி – II 5 முதல் 11 வரையிலான விதிகள் இந்தியக் குடியுரிமை பற்றி குறிப்பிடுகிறது.
- 1955 ஆம் ஆண்டு இந்தியக் குடியுரிமைச் சட்டம், ஒருவர் இந்தியக் குடியுரிமையைப் பெறுதலையும், இழத்தலையும் பற்றி குறிப்பிடுகின்றது.
- இந்திய அரசியலமைப்புச் சட்டம் ஒற்றைக் குடியுரிமையை நமக்கு வழங்குகிறது.

கலைச்சொற்கள்		
முயன்று அடைதல்	**Acquisition**	Act of acquiring
திருத்தம்	**Amendment**	A minor change
அரசியலமைப்புச் சட்டம்	**Constitutional Law**	Law determining the fundamental political principles of a government
சகோதரத்துவம்	**Fraternity**	Brotherhood
குடியிருப்பவர்	**Resident**	Inhabitant

மதிப்பீடு

I சரியான விடையைத் தேர்ந்தெடுக்கவும்

1. கீழ்க்கண்டவைகளில் எந்த ஒன்று இந்திய குடியுரிமை பெறும் வழிமுறை அல்ல?
   அ) பிறப்பின் மூலம்
   ஆ) சொத்துரிமை பெறுவதன் மூலம்
   இ) வம்சாவழியின் மூலம்
   ஈ) இயல்பு குடியுரிமை மூலம்
2. அரசியலமைப்புச் சட்டத்தின் எந்தப் பகுதி மற்றும் பிரிவுகள் குடியுரிமையைப் பற்றிக் குறிப்பிடுகின்றன?
   அ) பகுதி II
   ஆ) பகுதி II பிரிவு 5 – 11
   இ) பகுதி II பிரிவு 5 – 6
   ஈ) பகுதி I பிரிவு 5 – 11
3. இந்தியாவின் முதல் குடிமகன் யார்?
   அ) பிரதமர்
   ஆ) குடியரசுத் தலைவர்
   இ) முதலமைச்சர்
   ஈ) இந்திய தலைமை நீதிபதி

II கோடிட்ட இடத்தை நிரப்புக

1. ஒரு நாட்டின் __________ அந்நாடு வழங்கும் குடியியல் மற்றும் அரசியல் உரிமைகளைப் பெறத் தகுதியுடையவர் ஆவார்.
2. இந்திய அரசியலமைப்புச் சட்டம் __________ குடியுரிமையை மட்டும் வழங்குகிறது.
3. இந்தியக்கடவுச்சீட்டினைப்பெற்று(Passport) வெளிநாட்டில் வாழும் இந்தியக் குடிமகன் __________ என அழைக்கப்படுகிறார்.
4. மக்கள் அனைவரும் உரிமைகள் மற்றும் __________ யும் இயற்கையாக பெற்றிருக்கின்றனர்.
5. __________ என்பது இளைஞர்களை நவீன சமுதாயத்தை வடிவமைப்பதில் பங்கேற்க செய்யும் ஒரு யோசனை ஆகும்.

III சரியா / தவறா எனக் குறிப்பிடுக

1. அமெரிக்க ஐக்கிய நாடுகள் ஒற்றைக் குடியுரிமையை வழங்குகிறது.
2. வெளிநாட்டுக் குடியுரிமையை கொண்டு இந்தியாவில் வசிப்பதற்கான அட்டை வைத்திருப்பவருக்கு வாக்குரிமை உண்டு.
3. அடிப்படைஉரிமைகளைஇந்தியக்குடிமகன் அனுபவிக்க நமது அரசியலமைப்புச் சட்டம் உத்திரவாதம் அளிக்கிறது.
4. நாட்டுரிமையை மாற்ற இயலும். ஆனால் குடியுரிமையை மாற்ற இயலாது.

IV கீழ்க்கண்ட கூற்றுகளில் பொருத்தமான விடைகளை தேர்வு செய்க

1. ஒரு இந்தியக் குடிமகனின் குடியுரிமை கீழ்க்கண்ட எதனால் முடிவுக்கு வருகிறது.
   i) ஒருவர் வேறு நாட்டுக் குடியுரிமையை பெறும் போது
   ii) பதிவு செய்வதன் மூலம்
   iii) தவறான மோசடி வழிகளில் ஒருவர் குடியுரிமை பெற்றார் என்று அரசு கருதும் போது
   iv) போரின் போது எதிரி நாட்டிடம் இந்திய குடிமகன் வணிகம் செய்யும் போது
   அ) i மற்றும் ii சரி ஆ) i மற்றும் iii சரி
   இ) i, ii, iv சரி ஈ) i, ii, iii சரி

8th_Civics_TM_Unit-2.indd 213 12/3/2022 11:08:24 AM

2. **கூற்று:** 1962 ஆம் ஆண்டு பாண்டிச்சேரி இந்திய யூனியனுடன் இணைந்தது. அங்கு வாழ்ந்த மக்கள் இந்திய குடிமக்களாயினர்.
காரணம்: 1955 இந்தியக் குடியுரிமைச் சட்டத்தின் படி பிரதேசங்களை இணைத்தல் என்பதன் அடிப்படையில் அவர்கள் இந்திய குடிமக்களாகினர்
அ) காரணம் கூற்றிற்கான சரியான விளக்கம்
ஆ) காரணம் கூற்றிற்கான சரியான விளக்கமல்ல
இ) கூற்று தவறு ஆனால் காரணம் சரி
ஈ) காரணம், கூற்று இரண்டும் தவறு

V கீழ்க்காணும் வினாக்களுக்கு ஓரிரு வார்த்தைகளில் விடையளி

1. குடியுரிமையின் வகைகளை குறிப்பிடுக.
2. ஓர் இந்தியக் குடிமகன் நமது நாட்டில் அனுபவிக்கும் உரிமைகள் யாவை?
3. நற்குடிமகனின் மூன்று பண்புகளை குறிப்பிடுக
4. இந்தியக் குடிமகனாவதற்குரிய ஐந்து வழிமுறைகளை எழுதுக?
5. 1955 ஆம் ஆண்டு இந்திய குடியுரிமைச் சட்டம் பற்றி நீவிர் அறிவது யாது?

VI விரிவான விடையளி

1. ஒருவருக்கு எதன் அடிப்படையில் இந்தியக் குடியுரிமை இரத்து செய்யப்படுகிறது?

VII மாணவர்களுக்கான செயல்பாடு

அட்டவணைப்படுத்துக:

1. நல்ல குடிமகனாக வகுப்பறையிலும், வகுப்பறைக்கு வெளியிலும் நீவிர் எவ்வாறு நடந்து கொள்வாய் என அட்டவணைப்படுத்துக
2. நல்ல குடிமகனாக உன்னுடைய பொறுப்புகள் எவை (ஏதேனும் மூன்று கருத்துக்களை எழுதுக)

வீட்டில்:–	பள்ளியில்:–
உனக்கு நீயே:–	சுற்றுச்சூழலுக்கு:–

இணையச் செயல்பாடு

குடிமக்களும் குடியுரிமையும்

படிநிலைகள்

- கீழ்க்காணும் உரலி/விரைவுக் குறியீட்டைப் பயன்படுத்தி உள்நாட்டு விவகாரங்கள் அமைச்சகத்தின் அதிகாரப்பூர்வ இணையப் பக்கத்திற்குச் செல்க.
- "Act/Rules/Regulations" என்பதைத் தேர்வு செய்து இந்தியக் குடியுரிமைப் பெறுவதற்கான அரசியலமைப்பு நடைமுறைகளை அறிந்து கொள்க.
- திரையின் கீழ்ப்பகுதியில் காணப்படும் "Required Documents" என்பதைத் தேர்வு செய்து முக்கிய ஆவணங்கள் பற்றித் தெரிந்து கொள்க.
- "Sample Forms" என்பதைச் சொடுக்கி குடியுரிமைப் பெற விண்ணப்பிக்கத் தேவையான படிவங்களின் மாதிரிகளை அறிந்து கொள்க.

உரலி:

https://indiancitizenshiponline.nic.in/Home.aspx

8th_Civics_TM_Unit-2.indd 214 12/3/2022 11:08:24 AM

அலகு – 3

சமயச்சார்பின்மையைப் புரிந்துகொள்ளுதல்



கற்றலின் நோக்கங்கள்

- சமயச்சார்பின்மை என்பதன் பொருளைப் புரிதல்
- சமயச்சார்பின்மையின் முக்கியத்துவத்தை அறிதல்
- அரசியலமைப்பில் உறுதியளிக்கப்பட்டுள்ள உரிமைகளைப் போற்றுதல்
- சமயச்சார்பற்ற கல்வியின் முக்கியத்துவத்தைப் பகுப்பாய்தல்
- சமயச்சார்பின்மை தொடர்பான அரசியலமைப்புப் பிரிவுகளை விவாதித்தல்

இந்தியா பல்வேறு நம்பிக்கைகளைச் சமமாக போற்றி மதிக்கப்படும் இடமாக இருப்பதோடு ஒரே தேசியக் கண்ணோட்டத்தைக் கொண்டிருக்கும்.

– ஜவகர்லால் நேரு

அறிமுகம்

இந்தியா பல சமய மற்றும் கலாச்சார, பண்பாட்டு நம்பிக்கைகள் கொண்ட நாடாகும். இது இந்து, சமணம், புத்தம் மற்றும் சீக்கியம் ஆகிய நான்கு பெரும் சமயங்களின் பிறப்பிடமாகும். நமது நாட்டில் பல்வேறு சமயங்கள் மற்றும் நம்பிக்கைகள் கொண்ட மக்கள் நீண்டகாலமாக அமைதியுடன் வாழ்கின்றனர். நவீன தேசிய நாடுகள் அனைத்தும் பல சமயங்களைக் கொண்டிருப்பதால் அனைத்து சமயங்களையும் சகித்துக்கொள்ளும் தன்மை அவசியமானதாகும். சமயச்சார்பின்மையின் நோக்கமானது சமய நம்பிக்கை கொண்டவர்களும் மற்றும் எந்த சமயத்தையும் சாராதவர்களும் அமைதியுடன் இணக்கமாக வாழ்வதற்கான சமூகத்தை உருவாக்குவது என்பதாகும்.

இராஜாராம் மோகன்ராய், சர் சையது அகமதுகான், இரவீந்திரநாத் தாகூர், மகாத்மா காந்தி மற்றும் B.R. அம்பேத்கர் போன்ற குறிப்பிடத்தக்க பெரும் மரியாதைக்குரிய

8th_Civics_TM_Unit-3.indd 215 12/3/2022 11:08:46 AM

உங்களுக்குத் தெரியுமா?

- சமயச்சார்பின்மை என்ற சொல் லத்தீன் வார்த்தையான செகுலம் (saeculum) என்பதிலிருந்து பெறப்பட்டது. இதன் பொருள் காலம் (an age) அல்லது உள்ளுணர்வு காலம் (the spirit of an age) ஆகும்.
- ஆங்கிலேய பத்திரிக்கை எழுத்தாளரான ஜார்ஜ் ஜேக்கப் ஹோல்யோக் என்பவர் secularism என்ற பதத்தை உருவாக்கினார்.

தனிநபர்கள் இந்தியச் சமூகத்தின் பல்வேறு நிலைகளில் சமயச்சார்பின்மையை நிலை நாட்ட பங்களித்துள்ளனர். இந்தியா போன்ற பல்வேறு சமய பன்முகத்தன்மை கொண்ட சமூகத்திற்குச் சமயச்சார்பின்மை என்பது மதிப்புமிக்க ஒன்றாகும்.

சமயச்சார்பின்மை எதனைக் குறிக்கிறது?

சமயச்சார்பின்மை என்பது பிற மதங்களின் மீது சகிப்புத்தன்மையான அணுகுமுறை மற்றும் வெவ்வேறு நம்பிக்கைகளைச் சார்ந்த குடிமக்களுடன் அமைதியாக இணங்கி வாழும் ஒரு மனப்பாங்கு ஆகும். இது அனைத்து சமய சமூகங்களுடனும் அரசு கொண்டுள்ள நடுநிலைத்தன்மை மற்றும் சமத்துவக் கொள்கையாகும்.

சமயச்சார்பின்மை என்பது அரசையும் மதத்தையும் தனித்தனியாக பிரிக்கும் கோட்பாடு ஆகும். பரந்த அளவில் கூறுவதென்றால் அரசானது சமய விவகாரங்களிலோ அல்லது சமயமானது அரசின் நடவடிக்கைகளிலோ தலையிடாது இருத்தலாகும். இதன் பொருள் ஒவ்வொரு குடிமகனும் தனது மனசாட்சியின்படி சுதந்திரமாக அவரது நம்பிக்கையை பரப்புதல், பின்பற்றுதல் மற்றும் சமயத்தின்மீது இருக்கும் நம்பிக்கையை வெளியிடுதல், மாற்றிக்கொள்ளுதல் அல்லது இல்லாமல் இருத்தல் என்பதாகும்.

நாத்திகம்: கடவுள் அல்லது கடவுள்கள் மீது நம்பிக்கையற்றிருத்தல்.

சமயச்சார்பின்மை: அரசோ, சமயமோ ஒன்று மற்றொன்றின் விவகாரங்களில் தலையிடாதிருத்தல்.

சமயச்சார்பின்மையின் நோக்கங்கள்

- ஒரு சமயம் சார்ந்த குழு மற்றொரு சமயக் குழுவின் மீது ஆதிக்கம் செலுத்தாமல் இருப்பது.
- ஒரு சமயத்தைச் சார்ந்த சில உறுப்பினர்கள் அதே சமயத்தைச் சார்ந்த மற்ற உறுப்பினர்கள் மீது ஆதிக்கம் செலுத்தாமல் இருப்பது.
- அரசானது எந்த ஒரு குறிப்பிட்ட சமயத்தையும் பின்பற்ற வலியுறுத்தாமல் இருப்பது அல்லது தனி நபர்களின் சமய சுதந்திரத்தில் தலையிடாமல் இருப்பது,

"*சமயம் நமக்குப் பகைமையைப் போதிக்கவில்லை; நாம் அனைவரும் இந்தியர்கள் மற்றும் இந்தியா நமது வீடு*" என்ற கவிஞர் இக்பாலின் எளிய வாக்கியம் சமயச்சார்பின்மை கருத்தை விளக்குகிறது.

அசோகரின் 12வது பாறை அரசாணை

அரசானது எந்த ஒரு மதத்தைச் சார்ந்த பிரிவினருக்கும் எதிராக குற்றம் சாட்டாது என்று கி.மு (பொ.ஆ.மு) மூன்றாம் நூற்றாண்டிலேயே அறிவித்த முதல் பேரரசர் அசோகர் ஆவார். தனது 12வது பாறை அரசாணையில் அனைத்து மதப்பிரிவினருடன் சகிப்பு தன்மையோடு மட்டுமல்லாமல் அவர்கள் மீது மிகுந்த மரியாதைக்குரிய மனநிலையை வளர்த்துக்கொள்ளவும் தம் மக்களுக்கு வேண்டுகோள் விடுத்துள்ளார்.

சமயச்சார்பற்ற நாட்டின் பண்புகள்

சுதந்திர கோட்பாடு – எந்த சமயத்தையும் பின்பற்ற அரசு அனுமதியளித்தல்.

8th_Civics_TM_Unit-3.indd 216 12/3/2022 11:08:46 AM

சமத்துவக் கோட்பாடு – அரசு எந்த ஒரு சமயத்திற்கும் மற்றவற்றிற்கு மேலாக முன்னுரிமை அளிக்காதிருத்தல்.

நடுநிலைமைக் கோட்பாடு – சமய விவகாரங்களில் அரசு நடுநிலைமை கொண்டிருத்தல்.

சமயச்சார்பற்ற நாடு என்பது ஒரு நாடு எந்தவொரு சமயத்தையும் அதிகாரப்பூர்வமாக ஊக்குவிக்காமல் ஒவ்வொரு சமயத்தையும் சமமாக நடத்துதல் என்பதாகும். ஒவ்வொரு குடிமகனுக்கும் சமமான உரிமையை அளிப்பதோடு மட்டுமல்லாமல் சமய நம்பிக்கையை சுதந்திரமாக வெளிப்படுத்துதல், பின்பற்றுதல் மற்றும் பரப்பும் உரிமையையும் வழங்குகிறது. அரசாங்கம் அனைத்து சமயங்கள் தொடர்பாகவும் நடுநிலைமையை கொண்டிருப்பதோடு எவ்வித பாகுபாடும் காட்டுவதில்லை. சமயச்சார்பற்ற ஒரு நாட்டில் எவருக்கும் தனிப்பட்ட முறையில் சலுகை அளிப்பதில்லை என்பதோடு சமய நடைமுறைகள் மற்றும் நம்பிக்கைகள் அடிப்படையில் அரசு பாகுபாடு காட்டுவதில்லை. அனைத்து குடிமக்களும் எவ்வித சமய நம்பிக்கை கொண்டிருந்தாலும் அரசுப் பணியில் நுழைய தகுதி வாய்ந்தவர்கள் ஆவர். கல்விக் கூடங்களில் முற்றிலும் சமய போதனைகள் இருத்தல் கூடாது என்பதோடு எந்த ஒரு குறிப்பிட்ட சமயத்திற்கும் ஆதரவாக எந்த வரிகளும் வசூலிப்பதில்லை.

சமயச்சார்பின்மையின் முக்கியத்துவம்

இந்தியாவில் அனைத்து சமயங்களையும் சமமாக நடத்த வேண்டும் என்பதன் அடிப்படையிலேயே சமயச்சார்பின்மை கோட்பாடு படிப்படியாகத் தோன்றியது. பல்வேறு சமயக் கோட்பாடுகளைக் கொண்டுள்ள மக்களிடையே அமைதி மற்றும் நல்லிணக்கத்தை பராமரிக்க நமக்குச் சமயச்சார்பற்ற நாடு அவசியமாகும். அது சமஉரிமைகளையும் வழங்கும் மக்களாட்சியின் ஒரு பகுதி ஆகும்.

முகலாய பேரரசர் அக்பர் மதசகிப்புத் தன்மை கொள்கையைப் பின்பற்றினார். அவருடைய தீன் – இலாஹி (தெய்வீக நம்பிக்கை) மற்றும் சுல் – இ – குல் (அனைத்து சமயத்தினரிடையே அமைதி மற்றும் நல்லிணக்கம்) ஆகியவை அவரின் சமயசகிப்புத் தன்மையை எடுத்தியம்புகிறது.

அரசியலமைப்பும் சமயச்சார்பின்மையும்

சமயச்சார்பின்மை என்பது அரசியலமைப்பின் ஒரு அங்கமாகும். நமது அரசியலமைப்பை உருவாக்கியவர்கள் அனைத்து மக்களும் அவர்களது சமயத்தை பின்பற்ற சுதந்திரம் பெற்றிருந்தால் மட்டுமே வலிமையான மற்றும் ஒற்றுமையான நாட்டை உருவாக்க இயலும் என்பதை உணர்ந்திருந்தனர். எனவே சமயச்சார்பின்மை இந்தியாவில் மக்களாட்சி வளர்ச்சிக்கான அடிப்படைக் கொள்கைகளில் ஒன்றாக ஏற்றுக் கொள்ளப்பட்டது.

சமயச்சார்பற்ற என்ற சொல்லானது 1950ஆம் ஆண்டு ஏற்றுக்கொள்ளப்பட்ட நமது அரசியலமைப்பில் குறிப்பிடப்படவில்லை. பின்னர் 1976ஆம் ஆண்டில் இந்திய அரசியலமைப்பில் மேற்கொள்ளப்பட்ட 42 வது சட்டத் திருத்தத்தின் மூலம் முகவுரையில் சமயச்சார்பற்ற என்ற சொல் சேர்க்கப்பட்டது (இந்தியா ஒரு இறையாண்மை வாய்ந்த, சமதர்ம, சமயச்சார்பற்ற, மக்களாட்சி, குடியரசு). நமது அரசியலமைப்பின் அடிப்படை நோக்கமானது தேசிய ஒற்றுமையையும் ஒருமைப்பாட்டையும் தனி மனித மாண்புடனும் கண்ணியத்துடனும் ஊக்குவிப்பதாகும்.

நாட்டிற்கான தனி சமயம் எதுவும் இந்தியாவில் இல்லை. அரசானது எந்தவொரு சமயத்தையும் ஏற்படுத்தவோ ஒரு குறிப்பிட்ட சமயத்திற்கு சிறப்பு ஆதரவினையோ அளிப்பதில்லை. இந்திய அரசியலமைப்பில் உறுதியளிக்கப்பட்டுள்ள சமய சுதந்திரம் நாட்டு குடிமக்கள் மட்டுமின்றி இந்தியாவில் வாழும் வெளிநாட்டவருக்கும் வழங்கப்படுகிறது. இது 1954ல் நடைபெற்ற பம்பாய் மாநிலம் – ரத்திலால் பன்சந்த் வழக்கில் மேன்மைமிக்க உச்ச நீதிமன்றத்தால் சுட்டிக்காட்டப்பட்டது.

8th_Civics_TM_Unit-3.indd 217 12/3/2022 11:08:46 AM

கஜுராஹோவில் காணப்படும் 19ஆம் நூற்றாண்டைச் சார்ந்த இந்து கோவிலில், வழக்கமான சிகரத்திற்குப் பதிலாக இந்து பாணியிலான கோபுரம், சமண விதானம், புத்த ஸ்தூபி மற்றும் இஸ்லாமிய பாணியிலான குவிமாடம் ஆகியவற்றைக் கொண்டு அமைக்கப்பட்டுள்ளது.

இந்திய அரசியலமைப்புப் பின்வரும் தனிச் சிறப்புக் கூறுகளைக் கொண்டுள்ளது.

அ. அரசானது எந்த ஒரு சமயத்தாலும் தன்னை அடையாளம் காணாது அல்லது சமயத்தால் கட்டுப்படுத்தப் படாததாகவும் இருக்கும்.

ஆ. ஒவ்வொருவரும் அவரது விருப்பதிற்கேற்ப எந்த ஒரு சமயத்தைப் பின்பற்றும் உரிமையை அரசு உறுதிசெய்கிறது.

இ. எந்த சமயத்திற்கும் அரசு முன்னுரிமை சலுகை அளிப்பதில்லை.

ஈ. எந்த ஒரு நபருக்கும் அவரது சமய நம்பிக்கையின் காரணமாக அரசு எவ்வித பாகுபாடும் காட்டாது.

உ. இது இந்திய மக்களிடையே சகோதரத்துவத்தை உருவாக்குவதோடு தனிமனித மாண்பிற்கும் நாட்டின் ஒற்றுமை மற்றும் ஒருமைப்பாட்டிற்கும் உறுதியளிக்கிறது.

சமயச்சார்பற்ற இந்திய நாடானது அனைத்துச் சமய விழாக்களுக்கும் பொது விடுமுறை அறிவிக்கிறது.

அரசியலமைப்புப் பிரிவுகளின் அடித்தளம்

பிரிவு 15 : சமயம், இனம், சாதி, பாலினம் அல்லது பிறப்பிடம் ஆகியவற்றின் அடிப்படையில் பாகுபடுத்துவதைத் தடை செய்கிறது.

பிரிவு 16 : பொது வேலை வாய்ப்பில் சமமான வாய்ப்பளித்தல்.

பிரிவு 25 (1) : எந்த ஒரு சமயத்தினை ஏற்கவும் பின்பற்றவும் பரப்பவும் உரிமை வழங்குகிறது.

பிரிவு 26 : சமய விவகாரங்களை நிர்வகிக்கும் சுதந்திரம்.

பிரிவு 27 : எந்தவொரு குறிப்பிட்ட சமயத்தையும் ஆதரிக்க அரசானது எந்தவொரு குடிமகனையும் வரிசெலுத்துமாறு வற்புறுத்தக் கூடாது.

பிரிவு 28 : சில கல்வி நிறுவனங்களில் மதம் சார்ந்து நடைபெறும் சமய போதனைகள் அல்லது சமய வழிபாடு நிகழ்ச்சிகளில் கலந்து கொள்ளாமல் இருக்கும் உரிமை.

பிரிவு 29 (2): அரசு உதவி பெறும் கல்வி நிறுவனங்களில் பாகுபாடு காட்ட தடை.

நமக்கு ஏன் சமயச்சார்பற்ற கல்வி தேவை?

கல்வியில் சமயச்சார்பின்மை என்பது பொதுக்கல்வியை அனைத்து சமய ஆதிக்கத்திலிருந்தும் விடுவிப்பதாகும். வருங்கால குடிமக்களாகிய குழந்தைகள் சமய தொடர்பில்லாமல் அவர்களின் பண்பு நலன் மற்றும் தார்மீக நடத்தை ஆகியவற்றை மேம்படுத்தும் வகையிலான கல்வியையே பெறவேண்டும்.

சமயச்சார்பற்ற கல்வி கீழ்க்காணும் நோக்கங்களுக்காக தேவைப்படுகிறது.

- குறுகியமனப்பான்மையைப்போக்குவதற்கும், சக்திவாய்ந்த ஆற்றல் மற்றும் அறிவான நோக்கத்தினை உருவாக்குவதற்கும்
- தார்மீக மற்றும் மனிதநேய பார்வையை உருவாக்குவதற்கும்
- இளைஞர்களை நல்ல குடிமக்களாக்க பயிற்சியளிப்பதற்கும்
- சுதந்திரம், சமத்துவம், சகோதரத்துவம் மற்றும் கூட்டுறவு வாழ்க்கை போன்ற மக்களாட்சியின் மதிப்புகளை பலப்படுத்துவதற்கும்

8th_Civics_TM_Unit-3.indd 218 12/3/2022 11:08:46 AM

- வாழ்க்கை குறித்த பரந்த பார்வையை அளிப்பதற்கும்
- பிறரைப் பாராட்டுதல் மற்றும் மற்றவர் நிலையிலிருந்து புரிந்து கொள்ளும் மனப்பான்மையை வளர்ப்பதற்கும்
- அன்பு, சகிப்புத்தன்மை, ஒத்துழைப்பு, சமத்துவம் மற்றும் இரக்க உணர்வை வளர்ப்பதற்கும்
- பொருள் முதல்வாத கொள்கை மற்றும் ஆன்மீக கொள்கையை ஒருங்கிணைக்கவும் தேவைப்படுகிறது.

முடிவுரை

இந்தியா ஒரு சமயச்சார்பற்ற நாடு என்பதோடு சமய மேலாதிக்கத்தைத் தடுக்க பல்வேறு வழிகளில் செயல்படுகின்றது. சமயச்சார்பின்மை சந்தேகத்திற்கிடமின்றி ஒவ்வொரு குடிமகனும் வாழ்க்கையின் மிகச்சிறந்த பேறான சுதந்திரம், மகிழ்ச்சி ஆகியவற்றை அனுபவிக்க உதவுகிறது. இந்திய அரசியலமைப்பு சமயச்சார்பற்ற கொள்கைகளை அடிப்படையாக கொண்ட அடிப்படை உரிமைகளுக்கு உத்தரவாதம் அளிக்கிறது. இது மக்களாட்சியின் ஒளிரும் சாதனையாகும். சமயச்சார்பின்மை நம்மை நாகரிகப் பண்புடன் வாழ அனுமதிக்கிறது. இது மக்கள் பிற சமயத்தை மதிக்க வலியுறுத்துகிறது. இது மக்களின் சமய நம்பிக்கையைப் பொறுத்தவரை சமஉரிமையை வழங்குகிறது. இது இந்தியா போன்ற நாட்டிற்கு விரும்பத்தக்க ஒன்றாகும்.

அக்பரின் கல்லறை, சிக்கந்தரா
(ஆக்ரா அருகில் – இந்தியா)

இஸ்லாம், இந்து சமயம் உள்ளிட்ட பல்வேறு சமயங்களைச் சார்ந்த கூறுகள் அவரது கல்லறையில் இடம் பெற வேண்டுமென அக்பர் வலியுறுத்தினார்.

8th_Civics_TM_Unit-3.indd 219 12/3/2022 11:08:47 AM

மீள்பார்வை

- இந்தியா பல்வேறு சமயங்களைப் பின்பற்றும் மக்களைக் கொண்ட நாடாகும். எனவே அனைத்து சமயங்களுடனும் சகிப்புத் தன்மையுடன் இருப்பது அவசியமாகும்.
- சமய அடிப்படையில் எவருக்கும் பாகுபாடு காட்டப்படக் கூடாது என்பதே சமயச்சார்பின்மை ஆகும்.
- மக்களாட்சி நாடு சீராக செயல்படுவதற்கு சமயச்சார்பின்மை மிகவும் அவசியமாகும்.
- சமயச்சார்பற்ற நாடு என்பது எந்த ஒரு சமயத்தையும் அந்நாட்டின் சமயமாக அதிகாரப்பூர்வமாக ஆதரிக்காததாகும்.
- இந்திய அரசியலமைப்புட் தனிநபர்களை அவர்களின் சமய நம்பிக்கை மற்றும் நடைமுறைகளுடன் வாழ அனுமதிக்கிறது.
- சமய மேலாதிக்கத்தினைத் தடுக்க இந்திய அரசு பல்வேறு வழிகளில் செயல்பட்டு வருகிறது.

கலைச்சொற்கள்		
பன்முகத்தன்மை	Diversity	The state of being diverse
பரவச்செய்	Propagate	Spread and promote widely
சுதந்திரம்	Liberty	Freedom
சமத்துவம்	Equality	Fairness
நடுநிலைமை	Neutrality	Impartially
சித்தாந்தம்	Ideology	Doctrine

மதிப்பீடு

I சரியான விடையைத் தேர்ந்தெடுக்கவும்

YNH4C

1. சமயச்சார்பின்மை என்பது
   அ) அரசு அனைத்து சமயத்திற்கும் எதிரானது
   ஆ) அரசு ஒரே ஒரு சமயத்தை மட்டும் ஏற்றுக் கொள்கிறது
   இ) எந்த சமயத்தைச் சார்ந்த குடிமகனும் சகிப்புத்தன்மையுடன் அமைதியாக இணக்கமாக வாழ்தல்
   ஈ) இவற்றுள் எதுவுமில்லை

2. இந்தியா ஒரு _____________ கொண்ட நாடாகும்.
   அ) பல்வேறு சமயநம்பிக்கை
   ஆ) பல்வேறு பண்பாட்டு நம்பிக்கை
   இ) (அ) மற்றும் (ஆ) இரண்டும்
   ஈ) இவற்றுள் எதுவுமில்லை

3. இந்திய அரசியலமைப்பின் முகவுரை திருத்தப்பட்ட ஆண்டு
   அ) 1951 ஆ) 1976 இ) 1974 ஈ) 1967

4. பின்வருவனவற்றுள் எது இந்தியாவை சமயச்சார்பற்ற நாடாக விவரிக்கிறது?
   அ) அடிப்படை உரிமைகள்
   ஆ) அடிப்படை கடமைகள்
   இ) அரசு நெறிமுறையுறுத்தும் கொள்கைகள்
   ஈ) அரசியலமைப்பின் முகவுரை

5. சமயச் சுதந்திர உரிமை எதனுடன் தொடர்புடையது
   அ) நீதித்துறை
   ஆ) பாராளுமன்றம்
   இ) அரசு நெறிமுறையுறுத்தும் கொள்கை
   ஈ) அடிப்படை உரிமைகள்

6. அரசியலமைப்பின் பிரிவு 28 எந்த வகையான கல்வியை அரசு உதவிபெறும் கல்வி நிறுவனங்களில் தடைசெய்துள்ளது?
   அ) சமய போதனைகள்
   ஆ) நீதி நெறிக்கல்வி
   இ) உடற்கல்வி
   ஈ) இவற்றுள் எதுவுமில்லை

8th_Civics_TM_Unit-3.indd 220 12/3/2022 11:08:47 AM

7. ஒரு நாடு சமயச்சார்பற்ற நாடாக எப்போது கருதப்படும் எனில் அது

அ) ஒரு குறிப்பிட்ட சமயத்திற்கு முக்கியத்துவம் அளித்தால்

ஆ) அரசு உதவி பெறும் கல்வி நிறுவனங்களில் சமய போதனைகளைத் தடை செய்தால்

இ) ஒரு குறிப்பிட்ட சமயத்திற்கு முக்கியத்துவம் அளிக்காமல் இருந்தால்

ஈ) எந்த சமய நம்பிக்கைகளையும் பரப்ப தடை விதித்தால்

II கோடிட்ட இடங்களை நிரப்புக

1. சமயம் நமக்கு ________ போதிக்கவில்லை.
2. சமயச்சார்பின்மை ஜனநாயகத்தின் ஒரு பகுதி அது ________ அளிக்கிறது.
3. ________ என்பது கடவுள் மற்றும் கடவுள்கள் மீது நம்பிக்கையற்றிருப்பதாகும்.
4. நமது அரசியலமைப்பின் அடிப்படை நோக்கம் ________ மற்றும் ________ ஊக்குவிப்பதாகும்.
5. பிரிவு 15 சமயம், சாதி, பாலினம் அல்லது பிறப்பிடம் ஆகியவற்றின் அடிப்படையில் ________ காட்டுவதைத் தடை செய்கிறது.

III பொருத்துக

1. நாத்திகம்	– Secularism என்ற பதத்தை உருவாக்கியவர்
2. குழந்தைகள்	– சமூகச் சீர்திருத்தவாதி
3. தீன் – இலாஹி	– கடவுள் நம்பிக்கையற்றிருப்பது
4. அரசியலமைப்பு	– வருங்கால குடிமக்கள்
5. ஹோல்யோக்	– தெய்வீக நம்பிக்கை
6. இராஜாராம் மோகன்ராய்	– 1950

IV சரியா / தவறா எனக் குறிப்பிடுக

1. இந்திய நாட்டிற்கென ஒரு சமயம் உள்ளது.
2. சமயச்சார்பின்மை என்ற சொல் கிரேக்க மொழியிலிருந்து பெறப்பட்டுள்ளது.
3. மொகலாய பேரரசர் அக்பர் சமயச் சகிப்புத்தன்மைக் கொள்கையைப் பின்பற்றினார்.
4. சமண சமயம் சீனாவில் தோன்றியது.
5. இந்திய அரசாங்கம் அனைத்துச் சமய விழாக்களுக்கும் விடுமுறையை அறிவிக்கிறது.

V சரியான கூற்றைத் தேர்ந்தெடு

1. (i) இந்தியா போன்ற சமயப் பன்முகத்தன்மை கொண்ட சமூகத்திற்குச் சமயச்சார்பின்மை விலைமதிப்பற்ற ஒன்றாகும்.

(ii) சமயச்சார்பற்ற என்ற சொல்லானது 1950ஆம் ஆண்டு ஏற்றுக்கொள்ளப்பட்ட நமது அரசியலமைப்பில் குறிப்பிடப்படவில்லை.

(iii) அரசியலமைப்பு பிரிவு 26 ஒரு குறிப்பிட்ட சமயத்திற்காக வரி செலுத்துவதற்கு ஊக்கமளிக்கிறது.

(iv) அக்பரின் கல்லறை ஆக்ராவிற்கு அருகிலுள்ள சிக்கந்தராவில் உள்ளது.

அ) i, ii மட்டும் ஆ) ii, iii மட்டும்

இ) iv மட்டும் ஈ) i, ii, iv மட்டும்

2. **கூற்று** : ஒரு வெளிநாட்டவர் இந்தியாவில் தனது சமயத்தைப் பின்பற்றலாம்.

காரணம் : அரசியலமைப்பில் உறுதியளிக்கப்பட்டுள்ள சமய சுதந்திரம் இந்தியர்களுக்கு மட்டுமல்லாமல் வெளிநாட்டவருக்கும் உண்டு.

(i) கூற்று சரி காரணம் தவறு.

(ii) கூற்று, காரணம் இரண்டும் சரி, காரணம் கூற்றை விளக்குகிறது.

(iii) கூற்று தவறு, காரணம் சரி

(iv) கூற்று, காரணம் இரண்டும் சரி, காரணம் கூற்றை விளக்கவில்லை.

3. **கூற்று** : இந்தியாவில் சமயச்சார்பின்மை என்ற கொள்கை மிக்க மதிப்புள்ளதாகும்

காரணம் : இந்தியா பல்வேறு சமயம் மற்றும் பன்முக கலாச்சாரம் கொண்ட நாடாகும்.

(i) கூற்று சரி காரணம் கூற்றை விளக்குகிறது.

(ii) கூற்று சரி, காரணம் கூற்றை விளக்கவில்லை.

(iii) கூற்று தவறு, காரணம் சரி

(iv) இரண்டும் தவறு

8th_Civics_TM_Unit-3.indd 221 12/3/2022 11:08:47 AM

4. தவறான இணையைத் தேர்க

(i) தீன் இலாகி – ஒரு புத்தகம்

(ii) கஜுராஹோ – இந்து கோவில்

(iii) அசோகர் – பாறைக் கல்வெட்டு

(iv) இக்பால் – கவிஞர்

VI கீழ்க்காணும் வினாக்களுக்கு ஓரிரு வார்த்தைகளில் விடையளி

1. சமயச்சார்பின்மையைப் பரப்பிட பங்களித்த சில இந்தியர்களது பெயர்களைக் குறிப்பிடுக.
2. சமயச்சார்பின்மை என்பது எதனைக் குறிக்கிறது?
3. சமயச்சார்பின்மையின் நோக்கங்களைக் கூறுக
4. அரசிடமிருந்து சமயத்தை பிரிப்பது முக்கியத்துவம் வாய்ந்தது ஏன்?
5. சமயச்சார்பற்ற நாட்டின் சிறப்புப் பண்புக் கூறுகள் யாவை?
6. சமயச்சார்பின்மை தொடர்பான இந்திய அரசியலமைப்புப் பிரிவுகள் மூன்றினைக் குறிப்பிடுக

VII விரிவான விடையளி

1. சமயச்சார்பற்ற கல்வி நமக்கு ஏன் தேவை?
2. இந்தியா போன்ற நாட்டிற்குச் சமயச்சார்பின்மை அவசியம் – நிரூபிக்கவும்

VIII உயர் சிந்தனை வினா

1. சில சமயக் குழுக்கள் தங்களது சமயம் நரபலியை அனுமதிக்கிறது என்று கூறினால் அரசாங்கம் அவர்கள் கொள்கையில் தலையிடுமா?

IX செயல்திட்டம் மற்றும் செயல்பாடு

1. உனது பள்ளி நாட்காட்டியில் உள்ள விடுமுறை நாட்களைக் கவனி. அவற்றில் வெவ்வேறு சமயங்களுடன் தொடர்புடையவை எவை? அவற்றைச் சமயங்களின் அடிப்படையில் பட்டியலிடுக. அது எதனைக் குறிக்கிறது.
2. நீ எவ்வாறு சமயச் சகிப்புத்தன்மையை வளர்த்துக் கொள்வாய்?

வீட்டில்	பள்ளியில்
உமது ஊரில்	தேசிய அளவில்

மேற்கோள் நூல்கள்

1. *The Consitution of India*, Government of India, Ministry of Law and Justice, New Delhi.
2. Sekhar Bandyopadhyay., and Aloka Parasher Sen., *Religion and Modernity in India,* Oxford Publication, 2017

இணையதள வளங்கள்

1. http:// legislative.gov.in contitution-of-india
2. http://legislative.gov.in/ sites/ default/files/ part1.pdf

8th_Civics_TM_Unit-3.indd 222 12/3/2022 11:08:47 AM

அலகு – 4

மனித உரிமைகளும் ஐக்கிய நாடுகள் சபையும்

கற்றலின் நோக்கங்கள்

- மனித உரிமைகள் என்றால் என்ன என்பதைப் புரிந்து கொள்ளுதல்
- உரிமைகளுக்கும் கடமைகளுக்கும் உள்ள தொடர்பினைப் புரிந்து கொள்ளுதல்
- மனித உரிமைகளின் முக்கியத்துவம் பற்றி அறிந்து கொள்ளுதல்
- மனித உரிமைகள் அனைவருக்கும் உரியது என்பதைப் பற்றி புரிந்து கொள்ளுதல்
- 1948இல் நடைமுறைப்படுத்தப்பட்ட மனித உரிமைகள் பற்றிய உலகளாவிய அறிவிப்பின் பொருள் மற்றும் முக்கியத்துவத்தைப் புரிந்து கொள்ளுதல்

CNZ69

அறிமுகம்

பிறப்பால் அனைவரும் சமம். உலகில் உள்ள ஒவ்வொரு தனிமனிதனுக்கும் தன் விருப்பப்படி வாழ உரிமை உண்டு. மனித உரிமைகளானது தனிநபர்கள் மற்றும் சமூகம் தொடர்பானவை. மனித உரிமைகள் மக்கள் சுதந்திரமாக மற்றும் விருப்பப்படி வாழ்வதை உறுதிசெய்வதுடன் இயல்பாக பெறும் அனைத்து உரிமைகளையும் குறிப்பிடுகிறது. மக்களின் சமஉரிமைகளை ஒவ்வொரு நாடும் உறுதி செய்கிறது.

மனித உரிமைகள் என்றால் என்ன?

மனித உரிமைகள் என்பது இனம், பாலினம், தேசிய இனம், இனக்குழுக்களின் தன்மை, மொழி மற்றும் சமய வேறுபாடின்றி அனைத்து மனிதர்களுக்குமான இயல்பான உரிமைகள் ஆகும். மனித உரிமைகளில் அடிமைத்தனம் மற்றும் சித்திரவதைகளிலிருந்து சுதந்திரம், கருத்து மற்றும் கருத்துச் சுதந்திரம் மற்றும் நியாயமான விசாரணை, வாழ்வதற்கான உரிமை, வேலை மற்றும் கல்விபெறும் உரிமை ஆகியவை அடங்கும்.

மனித உரிமைகள் என்ற கருத்து எங்கிருந்து ஆரம்பித்தது?

அடிப்படை உரிமைகள் மற்றும் சுதந்திரங்களின் தொகுப்பானது ஐரோப்பிய மற்றும் அமெரிக்க நாடுகளில் வேரூன்றியிருந்தது.

அ. எழுதப்பட்ட மனித உரிமை ஆவணங்களின் முன்னோடி

மகா சாசனம் (The Magna Carta), 1215 **(இங்கிலாந்து)** – மக்களுக்குப்புதிய உரிமைகளை வழங்கியதுடன் அரசரைச் சட்டத்திற்கு உட்படுத்தியது.

உரிமை மனு (The Petition of Right), 1628 **(இங்கிலாந்து)** – மக்கள் உரிமைகளின் தொகுப்பு.

ஹேபியஸ் கார்பஸ் சட்டம், 1679, இங்கிலாந்து – மக்களின் சுதந்திரத்தைப் பாதுகாப்பதற்கான சட்டம்.

ஆங்கில உரிமைகள் மசோதா, 1689 – சில அடிப்படை சமூக / குடிமக்கள் உரிமைகளை அமைத்தல்.

மனிதன் மற்றும் குடிமக்களின் உரிமைகள் பற்றிய பிரான்சின் அறிவிப்பு, 1789 – சட்டத்தின் கீழ் அனைத்து குடிமக்களும் சமம் என்று கூறும் பிரான்சின் ஆவணம்.

8th_Civics_TM_Unit 4.indd 223 12/3/2022 11:09:03 AM

அமெரிக்க அரசியலமைப்புச் சட்டம் மற்றும் உரிமைகள் மசோதா, 1791 – குடிமக்களின் உரிமைகளைப் பாதுகாக்கிறது.

ஆ. ஐக்கிய நாடுகள் சபையின் தோற்றம்

மனித உரிமைகள் பற்றிய சிந்தனை இரண்டாம் உலகப் போருக்குப் பின்னர் வலுவாக எழுச்சி பெற்றது. இப்போர் கற்பனை செய்ய முடியாத வகையில் மனித உரிமை மீறலுக்கு வழிவகுத்தது. போர்க் காலங்களில் மனித உயிர்கள் அதன் மதிப்பினை இழந்தன. மேலும் போரினால் பாதிக்கப்பட்ட மக்கள் தங்கள் வாழ்க்கையின் இறுதிவரை கடுமையாக போராட வேண்டியிருந்தது. தனிநபர் உரிமைகளைப் பாதுகாப்பதற்கான அரசாங்கத்தின் முயற்சிகள் போதுமானதாக இல்லை என்பதை இரண்டாம் உலகப் போரின் போது நடந்த கொடுமைகள் தெளிவுபடுத்தின. உலகின் பல பகுதிகளில் பல்வேறு காரணங்களால் மனித உரிமைகள் மறுக்கப்பட்டன மற்றும் நீக்கப்பட்டன. இது சில நாட்டின் அரசாங்கத்தால் மட்டுமே மனித உரிமைகளைப் பாதுகாக்க முடியாது என்பதை நிரூபித்தது. வாழ்க்கை, சுதந்திரம், உணவு, இருப்பிடம், தேசம் ஆகியவை நியாயமற்ற முறையில் மறுக்கப்படமாட்டாது என்பதை மக்கள் உறுதிப்படுத்த விரும்பினர். 1945ஆம் ஆண்டு ஐக்கிய நாடுகள் சபையின் சாசனச் சட்டம் உருவாக்கப்பட்ட சான்பிரான்சிஸ்கோ மாநாட்டில் மக்களின் இத்தகைய விருப்பங்கள் ஒரு முக்கியப் பங்கினை வகித்தன. இச்சூழ்நிலையில் 1945ஆம் ஆண்டு அக்டோபர் 24ஆம் நாள் நிறுவப்பட்ட அமைப்பான ஐக்கிய நாடுகள் சபை இந்தப் பிரச்சனையில் கவனம் செலுத்தியது. அமைதி மற்றும் பாதுகாப்பு, மேம்பாடு, மனிதாபிமான உதவி மற்றும் சமூக, பொருளாதார விவகாரங்கள் தொடர்பான அனைத்துக் கொள்கைகளிலும் திட்டங்களிலும் முக்கிய கருப்பொருளாக இந்த மனித உரிமைகள் விளங்குகின்றன.

மனித உரிமைகளுக்கான உலகளாவிய அறிவிப்பு – முகவுரை

மனிதர்கள் அனைவரும் சுதந்திரமாகவே பிறக்கின்றனர். அவர்கள் மதிப்பிலும், உரிமைகளிலும் சமமானவர்கள். அவர்கள் அறிவாற்றலையும் மனசாட்சியையும் இயற்பண்பாகக் கொண்டவர்களாகவும் எல்லா மக்களிடையேயும் பொதுவான சகோதரத்துவத்தின் உணர்வை வளர்க்க கடமைப்பட்டவர்களும் ஆவர்.

இ. மனித உரிமைகளுக்கான உலகளாவிய அறிவிப்பு (UDHR)

ஐக்கிய நாடுகள் சபையின் மிகப்பெரிய சாதனைகளுள்ஒன்றுமனிதஉரிமைகளுக்கான சட்டத்தை உருவாக்கியதாகும். இந்த இலக்குகளை அடைவதற்காக ஐக்கிய நாடுகள் சபை மனித உரிமைக்கான ஓர் ஆணையத்தை நிறுவியது. எலினார் ரூஸ்வெல்டின் (முன்னாள் அமெரிக்க அதிபர் பிராங்களின் டி.ரூஸ்வெல்டின் மனைவி) வலுவான தலைமையால் வழிநடத்தப்பட்ட ஆணையம் உலகின் கவனத்தை ஈர்த்தது. இறுதியாக உலக மனித உரிமைகள் அறிவிப்பு ஐ.நா. பொதுச்சபையால் 1948இல் ஏற்றுக் கொள்ளப்பட்டது. அது மனித உரிமைகள் வரலாற்றில் ஒரு மைல்கல் ஆகும். இந்த அறிவிப்பு பிரான்ஸ் நாட்டின் பாரிஸ் நகரில் ஐ.நா. பொதுச்சபையால் 1948ஆம் ஆண்டு டிசம்பர் 10ஆம் நாள் அறிவிக்கப்பட்டது. (பொதுச்சபை தீர்மானம் 217A). இதை நினைவு கூறும்

சைரஸ் சிலிண்டர் கி.மு.(பொ.ஆ.மு.) 539



பண்டைய பாரசீகத்தின் முதல் மன்னரான மகா சைரஸ், அடிமைகளை விடுவித்து மக்கள் அனைவரும் தங்கள் சொந்த மதத்தைத் தேர்ந்தெடுக்கும் உரிமை உண்டு என்று அறிவித்தார். இன சமத்துவத்தை நிலைநாட்டினார். மேற்கூறியவைகளும், மற்ற ஆணைகளும் கியூனிபார்ஃம் எழுத்துக்களில் அக்காடியன் மொழியில் சிலிண்டர் வடிவிலான சுட்ட களிமண்ணில் பதிவு செய்யப்பட்டன. இது ஐக்கிய நாடுகள் சபையின் ஆறு அலுவல் மொழிகளிலும் மொழிபெயர்க்கப்பட்டுள்ளது. இவை உலக மனித உரிமைகள் பிரகடனத்தின் முதல் நான்கு விதிகளுக்கு இணையாக உள்ளன.

8th_Civics_TM_Unit 4.indd 224 12/3/2022 11:09:03 AM

வகையில் ஒவ்வொரு ஆண்டும் டிசம்பர் 10ஆம் நாள் மனித உரிமைகள் தினமாக அனுசரிக்கப்படுகிறது. இது 1950ஆம் ஆண்டிலிருந்து வழக்கமாக கடைப்பிடிக்கப்படுகிறது. இது மனித உரிமைகளின் நவீன சர்வதேச மகாசாசனம் என்றும் அழைக்கப்படுகிறது. இதன் கொள்கைகள் பெரும்பாலான நாடுகளின் (185 நாடுகளுக்கும் மேல்) அரசியலமைப்பில் சேர்க்கப்பட்டுள்ளது. உலக மனித உரிமைகள் அறிவிப்பு 500க்கும் மேற்பட்ட மொழிகளில் மொழி பெயர்க்கப்பட்டுள்ளது. இதுவே உலகில் அதிகமாக மொழிபெயர்க்கப்பட்ட ஆவணம் ஆகும்.

மனித உரிமைகள் கொண்டுள்ள அடிப்படை மதிப்புகள்

அ. கண்ணியம்: வாழ்வதற்கான உரிமை, ஒருமைப்பாட்டிற்கான உரிமை, கட்டாய தொழிலாளர் முறை, அடிமை முறை, இழிவான தண்டனை ஆகியவற்றிற்கான தடை.

ஆ. நீதி: நேர்மையான விசாரணைக்கான உரிமை, குற்றத்திற்கு ஏற்றாற்போல் தண்டனை, ஒரே குற்றத்திற்காக ஒன்றுக்கு மேற்பட்ட முறை விசாரணைக்குட்படுத்தாத உரிமை.

இ. சமத்துவம்: சட்டத்தின் முன் அனைவரும் சமம். இனம், மதம், பாலினம், வயது, திறமை மற்றும் இயலாமை ஆகியவற்றில் பாகுபாடின்மை.

மனித உரிமையின் அடிப்படைப் பண்புகள்

இயல்பானவை: அவை எந்தவொரு நபராலும் அதிகாரத்தாலும் வழங்கப்படுவதில்லை.

அடிப்படையானவை: இந்த அடிப்படை உரிமைகள் இல்லையென்றால் மனிதனின் வாழ்க்கையும், கண்ணியமும் அர்த்தமற்றதாகிவிடும்.

மாற்ற முடியாதவை: இவைகள் தனிநபரிடம் இருந்து பறிக்க முடியாதவைகள் ஆகும்.

பிரிக்க முடியாதவை: மற்ற உரிமைகளை ஏற்கனவே அனுபவித்துக் கொண்டிருந்தாலும் கூட இந்த அடிப்படை உரிமைகளை மறுக்க முடியாது.

உலகளாவியவை: இந்த உலகளாவிய உரிமைகள் ஒருவரின் தோற்றம் அல்லது நிலையைப் பொருட்படுத்தாமல் அனைவருக்கும் இந்த உரிமைகள் பொருந்தும். இந்த உரிமைகள் தேசிய எல்லையைத் தாண்டி அனைத்து நாடுகளிலும் அமல்படுத்தப்படுகின்றன.

சார்புடையவை: இவைகள் ஒன்றுக்கொன்று சார்புடையவைகள் ஆகும். ஏனென்றால் ஒரு உரிமையைப் பயன்படுத்தும் போது மற்றொன்றை உணராமல் இருக்க முடியாது.

> ஒவ்வொரு ஆண்டும் டிசம்பர் 10ஆம் நாள் உலக மனித உரிமைகள் தினமாகக் கொண்டாடப்படுகிறது. மனித உரிமைகளை உலக அளவில் அறிவித்த பெருமை ஐக்கிய நாடுகளின் பொதுச் சபையையே சாரும்.

மனித உரிமைகளின் வகைகள்

மனித உரிமைகள் பிரகடனத்தில் 30 சட்டப்பிரிவுகள் உள்ளடங்கியுள்ளன. இந்த உரிமைகள் ஐந்து முதன்மைப் பிரிவுகளாக விரிவாக வகைப்படுத்தப்பட்டுள்ளன. அவைகள் பின்வருமாறு.

அ. வாழ்வியல் உரிமைகள்

வாழ்வியல் (சிவில்) உரிமைகள் என்ற சொல் ஒவ்வொரு நபருக்கும் அரசாங்கத்தின் சட்டங்களால் வழங்கப்படும் அடிப்படை உரிமைகளைக் குறிப்பிடுகிறது. இந்த உரிமைகள் அனைவருக்கும் சமமாக கருதப்பட வேண்டியவைகள் ஆகும். இதில் வாழ்வதற்கான உரிமை, சுதந்திரம், அடிமைத் தளையிலிருந்து விடுபடுதல், நியாயமற்ற முறையில் கைது செய்யாமை ஆகிய உரிமைகள் அடங்கும்.

ஆ. அரசியல் உரிமைகள்

அரசாங்கத்தை அமைப்பதிலும், நிர்வகிப்பதிலும் அரசியல் உரிமைகள் பயன்படுத்தப்படுகின்றன. வாழ்வியல் உரிமைகளும், அரசியல் உரிமைகளும் நவீன மக்களாட்சியுடன் நேரடி தொடர்புள்ளவைகள் ஆகும். அவைகள் அரசியல் அதிகாரத்தைத் தவறாகப் பயன்படுத்துவதிலிருந்து தனிநபரைப் பாதுகாக்கின்றன. மேலும் ஒவ்வொரு தனிநபரையும் தங்கள் நாட்டின் அரசியல் செயல்பாட்டில் பங்கேற்க இவ்வுரிமைகள் வழிவகுக்கிறது. கருத்துச் சுதந்திரம், அமைதியாக கூட்டம் நடத்துதல், தன் நாட்டின்

8th_Civics_TM_Unit 4.indd 225 12/3/2022 11:09:03 AM

அரசாங்கத்தில் பங்குகொள்ளும் உரிமை, வாக்களிக்கும் உரிமை, பேச்சுரிமை மற்றும் தகவல்களைப் பெறும் உரிமை ஆகியவைகள் அரசியல் உரிமைகளுள் அடங்கும்.

இ. சமூக உரிமைகள்

ஒரு தனிநபர் சமுதாயத்தில் முழுமையாக பங்கேற்பது அவசியமானது ஆகும். சமூக உரிமைகள் என்பது வாழ்க்கைத் தரத்திற்கு தேவையான கல்வி, சுகாதாரம், உணவு, உடை, தங்குமிடம் மற்றும் சமூக பாதுகாப்பு ஆகிய உரிமைகளை உள்ளடக்கியதாகும்.

ஈ. பொருளாதார உரிமைகள்

பொருளாதாரத்தில் பங்கேற்பதற்கான உரிமை என்பது அனைவருக்கும் பயனளிக்கக் கூடிய வகையில் விரும்பத்தக்க வேலைக்குச் செல்வதாகும். ஒவ்வொரு தனிநபரும் தங்களின் தேவைகளைப் பூர்த்தி செய்யக் கூடிய நிலைமை இருப்பதை உறுதி செய்கிறது. வேலைவாய்ப்பு, நியாயமான ஊதியத்திற்கான உரிமைகள், நியாயமான வேலை நேரம், தங்குமிடம், கல்வி, போதுமான வாழ்க்கைத் தரம், மற்றும் சொத்துரிமை ஆகிய உரிமைகள் இதில் அடங்கும்.

உ. கலாச்சார உரிமைகள்

சமயச்சுதந்திரம், மொழியைப் பேசுவதற்கான உரிமை மற்றும் சமூகத்தின் கலாச்சார வாழ்க்கையை நடைமுறைப்படுத்துவதற்கான உரிமை, அறிவியல் முன்னேற்றத்தில் பங்கு பெறுவதற்கான உரிமை, தார்மீக மற்றும் பொருள் ஆர்வத்தைப் பாதுகாக்கும் உரிமை ஆகியவைகள் கலாச்சார உரிமைகள் ஆகும்.

மனித உரிமைகள் ஆணையம்

மனித உரிமைகளை மேம்படுத்துவதற்காக ஓர் ஆணையத்தை அமைக்க ஐக்கிய நாடுகள் சபையின் முக்கிய அங்கமான பொருளாதார மற்றும் சமூக சபை (ECOSOC) அதிகாரம் பெற்றது. மனித உரிமைகளின் பாதுகாப்பை உறுதி செய்வதற்காக தேசிய மற்றும் மாநில அளவிலான மனித உரிமை ஆணையங்கள் நிறுவப்பட்டன.

அ. தேசிய மனித உரிமைகள் ஆணையம் (NHRC)

இந்தியாவின் தேசிய மனித உரிமைகள் ஆணையம் (NHRC) 1993ஆம் ஆண்டு அக்டோபர் 12ஆம் நாள் நிறுவப்பட்டது. இது சுதந்திரமான, சட்டப்பூர்வமான, அரசியலமைப்பு சாராத ஓர் அமைப்பாகும். இதன் தலைமையகம் புதுடெல்லியில் அமைந்துள்ளது. தேசிய மனித உரிமைகள் ஆணையம் என்பது ஒரு தலைவரையும் பிற உறுப்பினர்களையும் உள்ளடக்கிய ஓர் அமைப்பாகும். தலைவரையும் உறுப்பினர்களையும் குடியரசுத் தலைவர் நியமிக்கிறார். அவர்களின் பதவிக்காலம் 5 ஆண்டுகள் (அ) 70 வயது வரை இதில் எது

மனித உரிமைகள் மற்றும் வாழ்வியல் உரிமைகளுக்கு இடையேயான வேறுபாடுகள்

மனித உரிமைகள்	வாழ்வியல் (சிவில்) உரிமைகள்
மனித உரிமைகளானது தேசியஇனம், பாலினம், இன, மதம் மற்றும் வயது ஆகியவற்றைப் பொருட்படுத்தாமல் எல்லா இடங்களிலும் அனைவருக்கும் உரித்தானது.	சிவில் உரிமைகள் என்பது ஒரு குறிப்பிட்ட நாட்டில் அல்லது மாநிலத்தில் குடியுரிமை பெறுவதன் மூலம் ஒருவர் அனுபவிக்கும் உரிமைகள் ஆகும்.
மனித உரிமைகள் உலகில் உள்ள அனைத்து மக்களுக்கும் மற்றும் அனைத்து நாடுகளுக்கும் உரியதாகும்.	சிவில் உரிமைகள் நாட்டிற்கு நாடு அல்லது அரசாங்கத்திற்கு அரசாங்கம் பெரிதும் வேறுபடுகின்றன. இவை அரசியலமைப்புச் சட்டத்துடன் தொடர்பானவை.
எந்த ஒரு தேசமும் தனிநபருக்கான மனித உரிமைகளைப் பறிக்க முடியாது.	அந்தந்த நாடுகள் பல்வேறு வகையான சிவில் உரிமைகள் மூலம் சுதந்திரங்களை வழங்கவோ அல்லது மறுக்கவோ முடியும்.
மனித உரிமைகள் பிறப்பின் அடிப்படையில் இயற்கையாக அமையப்பெற்ற அடிப்படை உரிமைகள் ஆகும்.	சிவில் உரிமைகள் சமூகத்தினால் உருவாக்கப்படுகின்றன.

8th_Civics_TM_Unit 4.indd 226 12/3/2022 11:09:04 AM

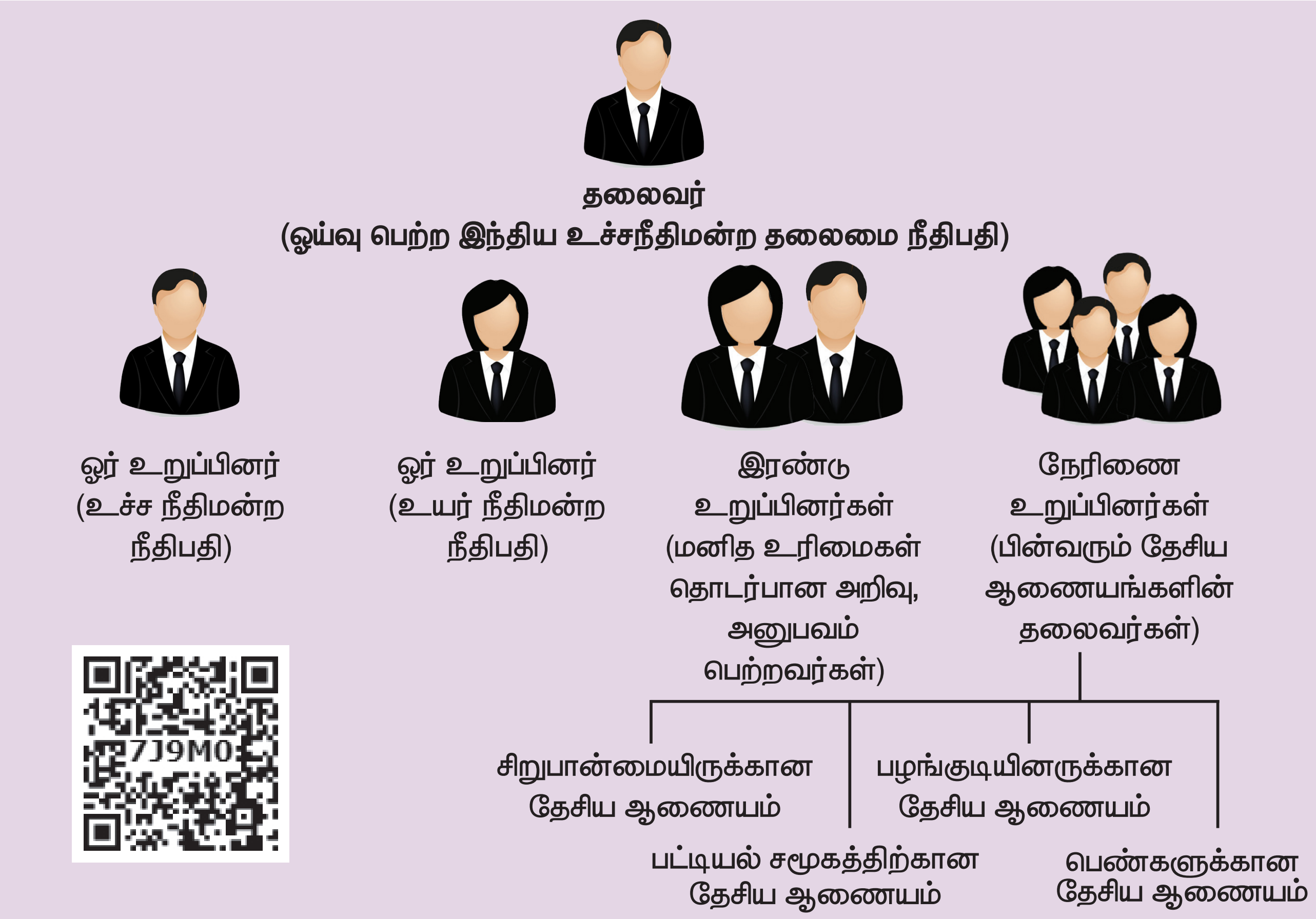

முன்னதாக வருகிறதோ அதுவரை பதவியில் நீடிப்பார். தேசிய மனித உரிமைகள் ஆணையம் ஐந்து பிரிவுகளைக் கொண்டுள்ளது. சட்டப்பிரிவு, புலனாய்வுப் பிரிவு, ஆராய்ச்சி மற்றும் திட்டப் பிரிவு, பயிற்சி அளித்தல் பிரிவு மற்றும் நிர்வாகப் பிரிவு ஆகியனவாகும். இந்தியாவில் மனித உரிமைகளை பாதுகாப்பதற்கும், மேம்படுத்துவதற்கும் மனித உரிமை ஆணையம் பொறுப்பாகும்.

ஆ. மாநில மனித உரிமைகள் ஆணையம் (SHRC)

தமிழ்நாட்டில் 1997ஆம் ஆண்டு ஏப்ரல் 17இல் மாநில மனித உரிமைகள் ஆணையம் உருவாக்கப்பட்டது. இது மாநில அளவில் செயல்படுகிறது. இது ஒரு தலைவர் உட்பட மூன்று உறுப்பினர்களை உள்ளடக்கியது. இந்திய அரசியலமைப்பின் ஏழாவது அட்டவணையில் உள்ள மாநிலப் பட்டியல், பொதுப் பட்டியல் ஆகியவற்றின் கீழுள்ள துறைகள் தொடர்பான மனித உரிமை மீறல் தொடர்பானவைகளை மாநில மனித உரிமைகள் ஆணையம் விசாரிக்கும் (NHRC ஏற்கனவே விசாரிக்கும் வழக்குகளைத் தவிர).

மனித உரிமை நிறுவனங்கள்

உலகெங்கிலும் பல நிறுவனங்கள் மனித உரிமைகளைப் பாதுகாப்பதற்கும், மனித உரிமை மீறல்களை முடிவுக்குக் கொண்டு வருவதற்கும் முயற்சிகளை எடுத்துள்ளன. இந்த அரசுசாரா நிறுவனங்கள் அரசாங்கங்களின் நடவடிக்கைகளைக் கண்காணிப்பதுடன் மனித உரிமைக் கொள்கைகளின்படி செயல்படுமாறு வலியுறுத்துகின்றன. அவைகளுள் ஆம்னஸ்டி இண்டர்நேஷனல் (Amnesty International), குழந்தைகள் பாதுகாப்பு நிதியம் (Children's Defence fund), மனித உரிமைகள் கண்காணிப்பகம் (Human Rights Watch) ஆகியனவாகும்.

இந்திய அரசியலமைப்பு சட்டப் பிரிவுகள்

பிரிவு 24 – குழந்தைத் தொழிலாளர் முறையைத் தடை செய்கிறது.

பிரிவு 39 (f) – ஆரோக்கியமாக குழந்தைகள் வளர வழிவகைச்செய்கிறது.

பிரிவு 45 – 6 வயது வரை அனைத்துக் குழந்தைகளுக்கும் ஆரம்ப கால குழந்தை பராமரிப்பு மற்றும் கல்வியை வழங்க அரசு முயல்கிறது.

8th_Civics_TM_Unit 4.indd 227 12/3/2022 11:09:04 AM

குழந்தைக்கான உரிமைகள்

1989ஆம் ஆண்டு நடைபெற்ற குழந்தைகளின் உரிமைகள் தொடர்பான ஐக்கிய நாடுகளின் மாநாட்டின் பிரிவு 1 இன்படி பதினெட்டு வயதுக்குட்பட்ட அனைவரும் 'குழந்தை' எனப்படுவர். குழந்தைகளின் உரிமைகள் தொடர்பான மாநாட்டின் அறிக்கை 1989ஆம் ஆண்டு நவம்பர் 20இல் வெளியிடப்பட்டது.

குழந்தை ஒரு முக்கியமான தேசியச் சொத்தாக கருதப்படுகிறது. தேசத்தின் எதிர்காலமானது அந்நாட்டின் குழந்தைகள் எவ்வாறு, வளர்ந்து முதிர்ச்சியடைகிறார்கள் என்பதைப் பொறுத்தது. எனவே அனைத்து வகையான சுரண்டல்கள் மற்றும் தவறான பயன்பாட்டிலிருந்து குழந்தைகளைப் பாதுகாப்பது நமது சமூகத்தின் முக்கிய நோக்கமாக உள்ளது. இந்தியாவில் குழந்தைகளின் உரிமைகளைப் பாதுகாக்க சட்டங்கள் இயற்றப்பட்டுள்ளன.

1978 – சர்வதேச பெண்கள் ஆண்டு
1979 – சர்வதேச குழந்தைகள் ஆண்டு
என ஐ. நா. சபை அறிவித்துள்ளது.

அ. கல்வி உரிமைச் சட்டம்



6 முதல் 14 வயது வரையிலான அனைத்துக் குழந்தைகளுக்கும் இலவசமாக மற்றும் கட்டாயக் கல்வியை அரசு வழங்குவதற்குச் சட்டப்பிரிவு 21A வழிவகைச் செய்கிறது.

ஆ. குழந்தைத் தொழிலாளர் சட்டம் (தடை மற்றும் சீரமைப்புச்சட்டம், 1986)

இது 15 வயது பூர்த்தியடையாத எந்த ஒரு குழந்தையையும் வேலைக்கு அமர்த்த தடை செய்கிறது.

இ. சிறார் நீதிச்சட்டம், 2000 (குழந்தைகளைப் பராமரித்தல் மற்றும் பாதுகாத்தல்)

இந்தச் சட்டம் போதுமான கவனிப்பு இல்லாமல் இருக்கும் குழந்தைகளை நட்பு ரீதியில் அணுகி அவர்களைச் சீர்திருத்த முயற்சி மேற்கொள்கிறது.

ஈ. போக்சோ (POCSO) சட்டம், 2012

பாலியல் குற்றங்களிலிருந்து குழந்தைகளைப் பாதுகாக்கும் சட்டம். குழந்தைகளின் நலனே மிக முக்கியத்துவம் அளிக்கப்பட வேண்டிய அம்சம் எனக் கருதுகிறது.

1098 குழந்தைகளுக்கான உதவி மைய எண்: இது இந்தியாவில் முதன் முதலாக அறிமுகப்படுத்தப்பட்ட 24 மணிநேர கட்டணமில்லா அவசரத் தொலைத் தொடர்பு சேவையாகும். குழந்தைத் தொழிலாளர்கள், குழந்தைத் திருமணம் மற்றும் ஏதேனும் வன்கொடுமை ஆகியவற்றால் பாதிக்கப்பட்ட குழந்தைகளுக்குச் சிறப்பு கவனம் செலுத்தப்படுகிறது.

பெண்கள் உரிமைகள்

பெண்கள் மற்றும் சிறுமியின் உரிமைகளும் மனித உரிமைகளாகும். பெண்களுக்கு தங்களது உரிமைகளை முழுமையாகவும் சமமாகவும் அனுபவிக்கவும், அனைத்து பாகுபாடுகளிலிருந்தும் விடுபடவும் உரிமை உள்ளது. அமைதி, பாதுகாப்பு மற்றும் நிலையான வளர்ச்சி ஆகியவைகள் மனித உரிமைகளுக்கான அடிப்படைகள் ஆகும். ஐக்கிய நாடுகள் சபையின் சாசனம் பெண்கள் மற்றும் ஆண்கள் இருவருக்கும் சமமான உரிமைகளை உறுதிசெய்கிறது.

1979ஆம் ஆண்டில் நடைபெற்ற மாநாட்டில் பெண்களுக்கெதிரான அனைத்து வகையான பாகுபாடுகளையும் நீக்குவதற்கான மசோதாவை ஐ.நா. பாதுகாப்புச் சபை ஏற்றுக்கொண்டது. இது பெண்களுக்கான

8th_Civics_TM_Unit 4.indd 228 12/3/2022 11:09:05 AM

சர்வதேச உரிமைகள் மசோதா என அழைக்கப்படுகிறது.

1995ஆம் ஆண்டில் பெய்ஜிங்கில் நடைபெற்ற நான்காவது உலக மகளிர் மாநாடு, பெண்களின் உரிமைகளை அங்கீகரிப்பதற்கும் உலகளவில் பெண்களின் வாழ்வாதாரத்தை மேம்படுத்துவதற்குமான ஒரு தளத்தை உருவாக்கியது. இதைத் தொடர்ந்து நடைபெற்ற கூட்டங்கள் இந்த இலக்குகளை அடைவதற்கு தேவையானவற்றை கண்காணிக்கிறது. மேலும் பெய்ஜிங் மாநாட்டின் இலக்குகளை நடைமுறைப்படுத்துவதற்காக யுனிபெம் (UNIFEM) என்றழைக்கப்படும் பெண்களுக்கான ஐக்கிய நாடுகளின் மேம்பாட்டு நிதி அமைப்பு 1995 முதல் செயல்பட்டு வருகிறது. பெண்களும் சிறுமிகளும் உரிமைகளை முழுமையாக அனுபவிக்கும் போதுதான் உண்மையான சமத்துவம் நிலவுகிறது.

பெற்றோர் மற்றும் மூத்த குடிமக்களின் பராமரிப்பு மற்றும் நலவாழ்வுச் சட்டம், 2007

மூத்த குடிமக்கள்

இந்தச் சட்டம் மூத்த குடிமக்களுக்கும் பெற்றோர்களுக்கும் பராமரிப்பை வழங்குவதற்கும் அவர்களின் குழந்தைகள் மற்றும் வாரிசுதாரர்களின் சட்டப்பூர்வமான கடமையாகிறது. முதுமை காலத்தில் பாதுகாப்பும் ஆதரவும் மனித உரிமைகளாக கருதப்படுகின்றன.

சட்டங்கள்	விதிகள்
இந்து விதவை மறுமணச் சட்டம், 1856	விதவைகள் மறுமணத்தைச் சட்டப்பூர்வமாக்கியது.
இந்து திருமணச் சட்டம், 1955	பெண்களின் திருமண வயது 21 என்று சட்டப்பூர்வமாக்கியது.
இந்து வாரிசு சட்டம், 1956	பெண்கள் தங்கள் பெற்றோர்களின் சொத்தினை மரபுவழியாக பெறுவதை உறுதிசெய்கிறது.
வரதட்சணைத் தடைச் சட்டம், 1961	வரதட்சணை என்ற பெயரில் மருமகளை மோசமாக நடத்துவதற்கு கடுமையான தண்டனை வழங்குகிறது.
பெண்களைக் கேலி செய்வதற்கு எதிரானச் சட்டம், 1997	பெண்களுக்கு நிவாரணம் அளிக்கிறது.
அநாகரிகமாக சித்தரித்தலுக்கெதிரான சட்டம், 1999	பத்திரிகைகள், செய்தித்தாள்கள் போன்றவற்றில் பெண்களை அநாகரிகமாக சித்தரித்தலைத் தடைசெய்கிறது.
தொழிற்சாலைச் சட்டம், 1948 தோட்டத் தொழிலாளர்கள் சட்டம், 1951 சுரங்கச் சட்டம், 1952 மகப்பேறு நலச் சட்டம், 1961	பெண் தொழிலாளர்களைப் பாதுகாக்கிறது.
குடும்ப வன்கொடுமையிலிருந்து பெண்களைப் பாதுகாக்கும் சட்டம்–2005	கணவர் மற்றும் குடும்ப உறுப்பினர்களால் பெண்கள் துன்புறுத்தப்படுவதிலிருந்து பாதுகாக்கிறது.

முடிவுரை

மனித உரிமைகள் ஒவ்வொருவருக்குமான சமத்துவம் மற்றும் நேர்மை பற்றியதாகும். மேலும் இது அனைவரையும் கண்ணியத்துடனும் மரியாதையுடனும் நடத்தப்படுவதை உறுதி செய்கிறது. மனித உரிமையைப் பாதுகாப்பது அனைவரின் பொறுப்பாகும். மனித உரிமைகளுக்கான புரிதலும் மரியாதையையும் நமது சமூகத்தில் அமைதி, நல்லிணக்கம், பாதுகாப்பு மற்றும் சுதந்திரத்திற்கான அடித்தளத்தை வழங்குகிறது.

மீள்பார்வை

- மனித உரிமைகள் என்பது அனைத்து மனிதர்களும் அனுபவிக்க உரிமைபெற்ற சுதந்திரங்களாகும்
- அவற்றில் வாழ்வியல், அரசியல், பொருளாதார, சமூக மற்றும் கலாச்சார உரிமைகள் அடங்கும்.
- மனித உரிமைகள் இயல்பானவை, மாற்றித்தர இயலாதவை, சார்புடையவை மற்றும் பிரிக்க இயலாதவை.
- ஐக்கிய நாடுகள் சபையின் மிகப்பெரிய சாதனைகளுள் ஒன்று மனித உரிமைகள் சட்டத்தின் முழுமையான அமைப்பை உருவாக்கியது ஆகும்.
- உலக மனித உரிமைகள் அறிவிப்பு ஐ.நா. வின் பொதுச்சபையால் 1948ஆம் ஆண்டு ஏற்றுக்கொள்ளப்பட்டது.
- மனித உரிமைகள் கண்ணியம், நீதி மற்றும் சமத்துவம் ஆகியவற்றை அடிப்படையாகக் கொண்டது.
- மனித உரிமைகளின் பாதுகாப்பை உறுதிசெய்வதற்கு தேசிய அளவிலும் மாநில அளவிலும் மனித உரிமை ஆணையங்கள் நிறுவப்பட்டுள்ளன.
- மனித உரிமைகளைப் பாதுகாப்பது ஒவ்வொரு தனிநபரின் பொறுப்பாகும்

கலைச்சொற்கள்		
தேசிய இனம்	Nationality	People having common origin
மனிதாபிமானம்	Humanitarian	Seeking to promote human welfare
சகோதரத்துவம்	Brotherhood	State of being brothers
நியாயமான விசாரணை	Fair trial	Justify with legal
இசைவு	Harmony	Agreement of opinions
வாரிசு/வழித்தோன்றல்	Heir	A person legally entitled to the property

மதிப்பீடு

I சரியான விடையைத் தேர்ந்தெடுக்கவும்

1. இரண்டாம் உலகப் போருக்குப் பின்னர் ________ மனித உரிமைகளைப் பாதுகாக்க பல நடவடிக்கைகளை எடுத்துள்ளது.
   அ) ஐ. நா. சபை
   ஆ) உச்ச நீதிமன்றம்
   இ) சர்வதேச நீதிமன்றம்
   ஈ) இவைகளில் எதுவுமில்லை
2. 1995ஆம் ஆண்டில் உலகம் முழுவதிலும் இருந்து பெண்கள் ________ இல் கூடினர்.
   அ) பெய்ஜிங் ஆ) நியூயார்க்
   இ) டெல்லி ஈ) எதுவுமில்லை
3. தேசிய மனித உரிமைகள் ஆணையம் நிறுவப்பட்ட ஆண்டு
   அ) 1990 ஆ) 1993
   இ) 1978 ஈ) 1979
4. ஐ.நா. சபை 1979ஆம் ஆண்டை ________ சர்வதேச ஆண்டாக அறிவித்தது.
   அ) பெண்குழந்தைகள்
   ஆ) குழந்தைகள்
   இ) பெண்கள்
   ஈ) இவற்றில் எதுவுமில்லை
5. உலக மனித உரிமைகள் தினமாக அனுசரிக்கப்படும் நாள் எது?
   அ) டிசம்பர் 9 ஆ) டிசம்பர் 10
   இ) டிசம்பர் 11 ஈ) டிசம்பர் 12

8th_Civics_TM_Unit 4.indd 230 12/3/2022 11:09:06 AM

6. மனித உரிமைகளின் நவீன சர்வதேச மகாசாசனம் என அழைக்கப்படுவது எது?

அ) மனித உரிமைகளுக்கான உலகளாவிய அறிவிப்பு (UDHRC)

ஆ) தேசிய மனித உரிமைகள் ஆணையம் (NHRC)

இ) மாநில மனித உரிமைகள் ஆணையம் (SHRC)

ஈ) சர்வதேசப் பெண்கள் ஆண்டு

7. தேசிய மனித உரிமைகள் ஆணையத்தின் தலைவராக நியமிக்கப்படுபவர் யார்?

அ) ஓய்வுபெற்ற உயர் நீதிமன்ற நீதிபதி

ஆ) ஓய்வு பெற்ற உச்ச நீதிமன்ற தலைமை நீதிபதி

இ) குடியரசுத் தலைவரால் நியமிக்கப்படும் ஏதேனும் ஒருவர்

ஈ) ஏதேனும் ஒரு நீதிமன்றத்தில் ஓய்வு பெற்ற தலைமை நீதிபதி

8. உலக மனித உரிமைகள் அறிவிப்பில் உள்ள சட்டப்பிரிவுகளின் எண்ணிக்கை யாவை?

அ) 20 ஆ) 30 இ) 40 ஈ) 50

9. தேசிய மனித உரிமைகள் ஆணையத் தலைவரின் பதவிக் காலம் என்ன?

அ) 5 ஆண்டுகள் அல்லது 62 வயது வரை

ஆ) 5 ஆண்டுகள் அல்லது 65 வயது வரை

இ) 6 ஆண்டுகள் அல்லது 65 வயது வரை

ஈ) 5 ஆண்டுகள் அல்லது 70 வயது வரை

10. தேசிய மனித உரிமைகள் ஆணைய தலைமையகம் அமைந்துள்ள இடம் எது?

அ) புது டெல்லி ஆ) மும்பை

இ) அகமதாபாத் ஈ) கொல்கத்தா

II கோடிட்ட இடங்களை நிரப்புக

1 ஒவ்வொருதனிமனிதனும்கண்ணியமான வாழ்க்கை வாழ ______________ உண்டு.

2. மனித உரிமைகள் என்பது ______________ உரிமைகள்.

3. மாநில மனித உரிமைகள் ஆணையம் அமைக்கப்பட்ட ஆண்டு ______________.

4. இந்திய அரசியலமைப்பின் 24 வது சட்டப்பிரிவு ______________ ஐ தடைசெய்கிறது.

5. ஐக்கிய நாடுகள் சபை நிறுவப்பட்ட ஆண்டு ______________.

III பொருத்துக

1	எலினார் ரூஸ்வெல்ட்	-	உலகின் முதல் மனித உரிமைகள் சாசனம்
2	சைரஸ் சிலிண்டர்	-	1997
3	பெண்களை கேலி செய்வதற்கு எதிரான சட்டம்	-	அடிமைத் தனத்திலிருந்து விடுதலை
4	குழந்தை உதவி மைய எண்	-	மனித உரிமைகளுக்கான ஆணையம்
5	வாழ்வியல் உரிமைகள்	-	வாக்களிக்கும் உரிமை
6	அரசியல் உரிமை	-	1098

IV சரியா / தவறா எனக் குறிப்பிடுக

1. மனித உரிமைகள் மற்றும் வாழ்வியல் உரிமைகள் ஒரே மாதிரியானவை.

2. மனித மற்றும் குடிமகனின் உரிமைகள் அறிவிப்பு இந்தியாவில் அறிவிக்கப்பட்டது.

3. 1993ஆம் ஆண்டு மனித உரிமைச் சட்டம் தேசிய மனித உரிமைகள் ஆணையம் உருவாக வழிவகுத்தது.

4. பாதிக்கப்பட்டவர்களுக்குத் தண்டனை வழங்க தேசிய மனித உரிமைகள் ஆணையம் அதிகாரம் பெற்றுள்ளது.

5. மனித உரிமைகளின் பாதுகாப்பை உறுதி செய்வதற்காக தேசிய, மாநில அளவிலான மனித உரிமைகள் ஆணையம் நிறுவப்பட்டுள்ளது.

V சரியான கூற்றைத் தேர்ந்தெடு

1. தவறான கூற்றை கண்டறியவும்

அ) தேசிய மனித உரிமைகள் ஆணையம் ஒரு சட்டரீதியான அமைப்பாகும்.

ஆ) தேசிய மனித உரிமைகள் ஆணையம் ஓர் அரசியலமைப்பு சார்ந்த அமைப்பாகும்

இ) தேசிய மனித உரிமைகள் ஆணையம் ஒரு சுதந்திரமான அமைப்பாகும்.

ஈ) தேசிய மனித உரிமைகள் ஆணையம் ஒரு பலதரப்பு நிறுவனங்களைக் கொண்டதாகும்.

2. தேசிய மனித உரிமைகள் ஆணையம் குறித்து பின்வரும் எந்த கூற்று சரியானது அல்ல.

அ) இது 1993 இல் நிறுவப்பட்டது.

ஆ) மனித உரிமை மீறல் வழக்குகளில் குற்றவாளியைத் தண்டிக்க ஆணையத்திற்கு எந்த உரிமையும் இல்லை.

இ) இந்த ஆணையத்தின் தலைவரும் உறுப்பினர்களும் இந்திய உச்ச நீதிமன்றத்தால் நியமிக்கப்படுகிறார்கள்.

ஈ) இந்த ஆணையம் தனது ஆண்டு அறிக்கையை மத்திய அரசு மற்றும் மாநில அரசுகளுக்கு அனுப்புகிறது.

3. **கூற்று:** டிசம்பர் 10ஆம் நாள் மனித உரிமைகள் தினமாக அனுசரிக்கப்படுகிறது.

காரணம்: இது எலினார் ரூஸ்வெல்டின் பிறந்த நாளை நினைவு கூர்கிறது.

அ) கூற்று சரி ஆனால் காரணம் கூற்றை விளக்கவில்லை

ஆ) கூற்று சரி காரணம் கூற்றை விளக்குகிறது

இ) கூற்று காரணம் இரண்டும் சரி

ஈ) கூற்று காரணம் இரண்டும் தவறு

4. பின்வரும் கூற்றை ஆராய்க

1) மாநில மனித உரிமைகள் ஆணையம் பல உறுப்பினர்களைக் கொண்ட அமைப்பு ஆகும்.

2) மாநில மனித உரிமைகள் ஆணையம் ஒரு தலைவர் மற்றும் மூன்று உறுப்பினர்களைக் கொண்டதாகும்

மேற்கூறிய கூற்றுகளில் எது / எவை சரியானது / சரியானவை?

அ) 1 மட்டும் ஆ) 2 மட்டும்

இ) 1, 2 ஈ) எதுவுமில்லை

VI கீழ்க்காணும் வினாக்களுக்கு ஓரிரு வார்த்தைகளில் விடையளி

1. மனித உரிமைகள் என்றால் என்ன?
2. மனித உரிமைகளுக்கான உலகளாவிய அறிவிப்பின் (UDHR) முக்கியத்துவத்தை எழுதுக.
3. இந்திய அரசியலமைப்பின் 45 வது சட்டப்பிரிவு எதனை அறிவுறுத்துகிறது?
4. கல்வி உரிமைச் சட்டம் பற்றி எழுதுக.
5. பெண்களின் நலனைப் பாதுகாப்பதற்காக நிறைவேற்றப்பட்ட மூன்று சட்டங்களைக் குறிப்பிடுக.
6. அரசியல் உரிமைகள் சிலவற்றைக் குறிப்பிடுக.
7. மனித உரிமைகளின் ஐந்து முதன்மைப் பிரிவுகளை குறிப்பிடுக.

VII விரிவான விடையளி

1. மனித உரிமைகள் மற்றும் வாழ்வியல் உரிமைகளை வேறுபடுத்துக.
2. மனித உரிமைகளின் ஏதேனும் ஐந்து அடிப்படைப் பண்புகளை விவரி.
3. குழந்தைகளின் பாதுகாப்பிற்காக அரசு மேற்கொண்டுள்ள சில நடவடிக்கைகள் யாவை?

VIII உயர் சிந்தனை வினா

1. உலகளாவிய மனித உரிமைகள் அறிவிப்பு யாருக்கு பொருந்தும் ? இது உங்களுக்கு ஏன் முக்கியமாக இருக்கிறது?

IX செயல்திட்டம் மற்றும் செயல்பாடு

1. நீங்கள் அனுபவிக்கும் பத்து உரிமைகள் மற்றும் உங்களுக்கான பொறுப்புகளைப் பட்டியலிடுக.

மேற்கோள் நூல்கள்

1. NCERT - *India and the World*, 2004
2. Arun Ray., *National Human Rights Commission of India*, Khama Publisher, New Delhi,2004
3. Parikshith K. Naik., and Mehrabudin wakman., *Human Rights & International Organisations*, Trinity Publication, 2013

இணையதள வளங்கள்

1. www.shrc.tn.gov.in
2. www.nhrc.nic.in
3. www.un.org

8th_Civics_TM_Unit 4.indd 232 12/3/2022 11:09:06 AM

இணையச் செயல்பாடு

மனித உரிமைகளும் ஐக்கிய நாடுகள் சபையும்

இந்த செயல்பாட்டின் மூலம் இந்தியா மற்றும் ஐக்கிய நாடுகள் சபை பற்றிய காலக்கோடு நிகழ்வுகளை படவிளக்கத்துடன் அறிந்துகொள்ள முடியும்.

படி – 1 URL அல்லது QR குறியீட்டினைப் பயன்படுத்தி இச்செயல்பாட்டிற்கான இணையப்பக்கத்திற்கு செல்க.

படி – 2 பக்கத்தின் நடுவில் 'IN FOCUS' என்பதன் மேல் சொடுக்கவும்

படி –3 இந்தியா மற்றும் ஐக்கிய நாடுகள் சபை பற்றிய காலவரிசை நிகழ்வுகளை அறிய பக்கத்தின் அடிப்பகுதியில் அமைந்திருக்கும் காலக்கோடு வரிசையில் ஏதாவது ஒரு ஆண்டைத் தேர்ந்தெடுக்கவும்.(உ.தா.1948)

உரலி: https://in.one.un.org/

T8X94

* படங்கள் அடையாளத்திற்கு மட்டும்
*தேவையெனில் Adobe Flash ஐ அனுமதிக்க

8th_Civics_TM_Unit 4.indd 233 12/3/2022 11:09:07 AM

அலகு – 5

சாலை பாதுகாப்பு விதிகள் மற்றும் நெறிமுறைகள்

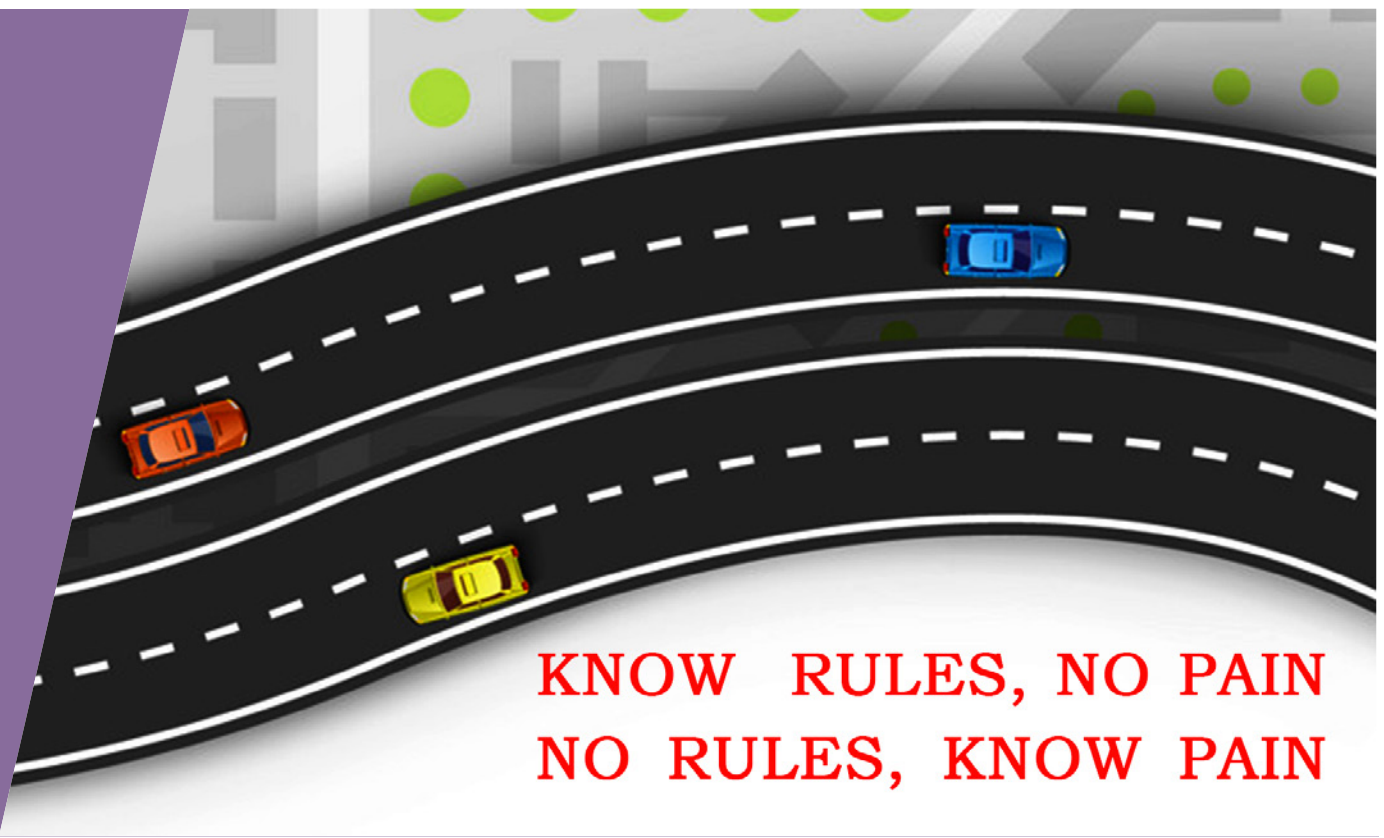

கற்றலின் நோக்கங்கள்

- சாலை பாதுகாப்பின் முக்கியத்துவத்தைப் புரிந்துகொள்ளுதல்.
- சாலை விபத்துகளுக்கான காரணங்களை ஆராய்தல்.
- வாகனம் ஓட்டும் பொழுது கடைபிடிக்க வேண்டிய பாதுகாப்பு நடவடிக்கைகளைப் பற்றி உணர்ந்து கொள்ளுதல்.
- போக்குவரத்தில் உள்ள ஆபத்துகளை அறிவது எதிர்கொள்ளும் திறன்களை வளர்த்துக் கொள்ளுதல்.
- சாலையில் தன்னம்பிக்கையுடனும் பாதுகாப்புடனும் செல்லுதல்.

G9L1N

அறிமுகம்

நமது நாகரிகம் முழுவதும் வேகத்தினையும் இணைப்பினையும் தரக்கூடிய பிரம்மாண்டமான கட்டமைப்பின் அடிப்படையில் அமைந்துள்ளது. மனிதனின் முக்கியமான கண்டுபிடிப்புகளில் சாலையும் ஒன்று. இன்றைய உலகத்தில் போக்குவரத்தானது ஒவ்வொரு மனிதனுக்கும் இன்றியமையாத ஒரு அங்கமாக உள்ளது. சாலைகள் தூரத்தைக் குறைக்கின்றன ஆனால் அதே வேளையில் சாலை விபத்துக்களால் லட்சக்கணக்கான மக்கள் காயமடைவதுடன் அதிக உயிர் இழப்புகளையும் ஏற்படுத்துகின்றன. சாலைப் பாதுகாப்பு என்பது முதன்மையாக சாலையில் பயணிக்கும் அனைவரின் பாதுகாப்பையும் பாதுகாப்பு வழங்குவதையும் முதன்மையாகக் குறிக்கிறது.

சாலை பாதுகாப்பின் முக்கியத்துவம்

ஒவ்வொரு நாளும், சாலையில் ஏற்படும் விபத்துக்கள் மற்றும் அடிக்கடி நிகழும் அசம்பாவிதங்கள் பற்றி தினமும் செய்தித்தாள்கள் தெரிவிக்கின்றன. சாலை விபத்துக்கள் படுகாயங்களுக்கும் இறப்பிற்கும் வழிவகுக்கும் வருந்தத்தக்க நிகழ்வுகளை ஏற்படுத்துகின்றன. இந்த இறப்புகள் மற்றும் படுகாயங்கள் குறிப்பிடத்தக்க சமூக மற்றும் பொருளாதார இழப்புகளை ஏற்படுத்துகின்றன. பிரச்சனை சாலைகளால் அல்ல. அது நம் கவனக்குறைவால் தான். அதனால் தான் இதுபோன்ற விபரீதம் ஏற்படுகின்றது. உயிரிழப்பால் வாழ்க்கை மற்றும் வாழ்வாதாரத்தை இழக்க நேரிடுகிறது. இப்பிரச்சனைக்குக் காரணம் மெதுவாக நகரும் வாகனங்கள் மற்றும் அதிவேக வாகனங்களைக் கொண்ட பலவகைப்பட்ட சிக்கலான போக்குவரத்து ஆகும்.

விபத்துகளின் நேரடி விளைவுகள் : உயிரிழப்பு, படுகாயம், உடமைகளுக்குச் சேதம் ஆகியனவாகும்.

சாலை விபத்துகளுக்கான காரணங்கள்

அதிக வேகம் – அதிக வேகம் அதிக ஆபத்து. பெரும்பாலான உயிரிழப்பு விபத்துக்கள் அதிக வேகத்தினால் தான் ஏற்படுகின்றது. வேகத்தின் அதிகரிப்பானது விபத்து மற்றும் விபத்தினால் ஏற்படும் காயத்தின் தீவிரத்தினை அதிகரிக்கிறது. ஒரு வாகனத்தின் பின்னால் மிக நெருக்கமாக பின்தொடர்தல் (Tailgating) என்பது சட்டவிரோதம் மற்றும் ஆபத்தான பழக்கமும் ஆகும்.



மது அருந்தி விட்டு வாகனம் ஓட்டுதல் – மது அருந்துவது கவனத்தைக் குறைக்கும். அதன் காரணமாக வரும் மயக்கத்தினால் பார்வை தடைபடுகின்றது. மது அருந்திவிட்டு வாகனம் ஓட்டும் போது விபத்துக்கள் ஏற்படுகிறது. மது அருந்தியதைக் கண்டறிய சீரற்ற சுவாச பரிசோதனை (Random breath test) செய்யப்படுகிறது.

வாகன ஓட்டிகளின் கவனச் சிதறல் – கவனச் சிதறல் என்பது வாகனத்தின் வெளியிலிருந்தோ உள்ளிருந்தோ ஏற்படக்கூடும். வாகனம் ஓட்டும் போது செல்லிடப்பேசியில் பேசுவது பெரிய கவனச்சிதறலாக இந்நாட்களில் உள்ளது. செல்லிடப்பேசியில் பேசும் செயலே மனித மூளையின் செயல்பாட்டின் பெரும் பகுதியை ஆக்கிரமிக்கிறது. சிறு பகுதி மட்டுமே வாகனம் செலுத்தும் செயலினைக் கையாளுகிறது. கவனக்குறைவு, வேறொன்றைச் சிந்திப்பது (பகல்கனவு) வாகனம் ஓட்டும் போது கண்ணாடியைச் சரிசெய்தல், வாகனத்தில் உள்ள ஒலி சாதனம், சாலையில் நடமாடும் விலங்குகள், பதாகைகள் மற்றும் விளம்பர பலகைகள் ஆகியவை கவனச் சிதறல்களுக்கான வேறு சில காரணங்கள் ஆகும்.



சிவப்பு விளக்கில் நில்லாமை – சிவப்பு விளக்கில் நிற்காமல் செல்வதன் முக்கிய நோக்கம் நேரத்தை மிச்சப்படுத்த நினைப்பதே ஆகும். போக்குவரத்து சமிக்ஞைகளை (சைகை) முறையாக கடைப்பிடிக்கும் போது நேரம் சேமிக்கப்படுவதாகவும் பயணிகள் தாங்கள் சேர வேண்டிய இடத்தைப் பாதுகாப்புடனும் உரிய நேரத்தில் சென்றடைவதாகவும் ஆய்வுகள் தெரிவிக்கின்றன.

பாதுகாப்பு கருவிகளை தவிர்த்தல் – நான்கு சக்கர வாகனங்களில் இருக்கைப் பட்டை (seat belt) அணிவதும் இரு சக்கர வாகனங்களில் தலைக்கவசம் (helmets) அணிவதும் சட்டமாக்கப்பட்டுள்ளது. இவ்விரண்டும் விபத்துக்களின் போது ஏற்படும் காயங்களின் தீவிரத்தைக் குறைக்கின்றன.

8th_Civics_TM_Unit 5.indd 235 03/04/2023 13:39:21

பல்வேறு காரணிகள்

அ. ஓட்டுநர்கள் – அதிக வேகத்தில் செலுத்துதல், கண்மூடித்தனமாக ஓட்டுதல், விதிகளை மீறுதல், குறியீடுகளைப் புரிந்து கொள்ள தவறுதல், களைப்பு, சோர்வு மற்றும் மது அருந்துதல் போன்றவை.

ஆ. பாதசாரிகள் – கவனமின்மை, கல்வியறிவின்மை, தவறான இடங்களில் சாலையைக் கடப்பது, சாலையில் நடப்பது மற்றும் போக்குவரத்து விதிகளை கவனிக்காமல் சாலையின் குறுக்காக செல்பவர்.

இ. பயணிகள் – வாகனத்திற்கு வெளியே உடலின் பகுதிகளை நீட்டுவது, ஓட்டுநர்களுடன் பேசுவது, படிக்கட்டுகளில் பயணம் செய்வது, ஓடும் பேருந்தில் ஏறுவது போன்றவை.

ஈ. வாகனங்கள் – தடுத்து நிறுத்தும் கருவி (brake) மற்றும் வாகனத் திசை திருப்பி (Steering) பழுதடைவது, சக்கரத்தில் உள்ள டயர் (ரப்பர்) வெடித்தல், போதுமான வெளிச்சம் தராத முகப்பு விளக்குகள், அதிகப்படியான மற்றும் வெளியே நீட்டிக்கொண்டிருக்கும்படி சுமை ஏற்றுதல்.

உ. சாலைகளின் தரம் – பழுதடைந்த சாலைகள், குழிகளான சாலைகள், நெடுஞ்சாலைகளை இணைக்கும் அரிக்கப்பட்ட ஊரகச்சாலைகள், சட்டத்திற்கு புறம்பான வேகத்தடைகள் மற்றும் திருப்பங்கள்.

ஊ. வானிலை – மூடுபனி, பனி, கனமழை, காற்று, புயல் மற்றும் ஆலங்கட்டி மழை.

பாதுகாப்பு நடவடிக்கைகள்

- **எப்பொழுதும் இடதுபுறமாகவே செல்வது:** வாகனம் ஓட்டும் போது சாலையின் இடப்பக்கமாக செல்வதுடன் எதிர் திசையில் வரும் வாகனங்களுக்கு வழிவிடுதல் வேண்டும்.
- **வளைவுகளிலும் திருப்பங்களிலும் வேகம் குறைத்தல்:** வளைவுகளில் கவனமாகவும் மெதுவாகவும் செல்வது நினைவில் கொள்ளவேண்டிய மிக முக்கியமான ஒன்றாகும்.
- **தலைக்கவசம் அணிவது:** இரு சக்கர வண்டியில் ஏறுவதற்கு முன் தலைக்கவசம் அணிவதைப் பழக்கமாக்கிக் கொள்ள வேண்டும்.
- **வேகவரம்பை ஒருபோதும் மீறக்கூடாது:** வேகத்திற்கான வரம்பு அப்பகுதியின் போக்குவரத்து நிலையுடன் தொடர்புடையது. எனவே குறிப்பிடப்பட்டுள்ள வேகவரம்பின் படியே செல்ல வேண்டும்.
- **சரியான இடைவெளிவிட்டு பின் தொடரவும்:** முன்செல்லும் வாகனத்திலிருந்து போதுமான இடைவெளியை நாம் கடைபிடிக்காததால் மோதல்கள் ஏற்படுகின்றன. எனவே கனரக வாகனங்களிலிருந்து ஒரு பாதுகாப்பான இடைவெளியை விட்டு பின் செல்ல வேண்டும். பின்புறம் நோக்கு கண்ணாடி மற்றும் பக்கவாட்டு கண்ணாடியில் தெரியாத இடமான பார்வை மறைவு இடத்தில் (blind spot) இருந்து விலகி இருக்கவும்.
- நெடுஞ்சாலைகளில் சாலையின் ஓரமாக வாகனங்கள் நிறுத்துவதைத் தவிர்த்து வாகனம் நிறுத்துவதற்கென ஒதுக்கப்பட்ட இடங்களில் மட்டுமே வாகனங்களை நிறுத்த வேண்டும். பழுதுகளை சரிசெய்யும் போது வாகனங்களின் நிறுத்த விளக்குகளையும் முக்கோண எச்சரிக்கை பலகைகளையும் பயன்படுத்த வேண்டும்.
- **சாலை குறியீடுகளைப் பின்பற்றுதல்:** சாலை குறியீடுகள் பெரும்பாலும் படங்களாக இருப்பதால் புரிந்து கொள்வது கடினம் அல்ல.
- **இதர பாதுகாப்புக் குறிப்புகள்:** மது அருந்திவிட்டு ஒருபோதும் வாகனம் ஓட்டுதல் கூடாது. வாகனம் ஓட்டும் பொழுது ஒருபோதும் செல்லிடப்பேசியைப் பயன்படுத்தக் கூடாது. அதிக சத்தம் நிறைந்த இசையினைக் கேட்பதைத் தவிர்க்கவும், சாலையில் பாதை தடத்தை (Lane) மாற்றுவதற்கு முன்பு கண்ணாடி வழியே பின்னால் ஏதேனும் வாகனங்கள் வருகின்றனவா என்பதை உறுதி செய்ய வேண்டும். மகிழுந்து ஓட்டும்பொழுது எப்பொழுதும் இருக்கைப்பட்டை அணிய வேண்டும். வாகனம் ஓட்டும்போது எப்போதும் அமைதியாக இருக்க வேண்டும். பாதசாரிகளையும் பிற ஓட்டுனர்களையும் திட்டுதல் அல்லது சத்தமிடுதல் கூடாது.
- **பாதசாரிகளுக்காக:** பாதசாரிகள் கடக்கும் பாதையில் (வரிக்கோடு) மட்டுமே சாலையைக்

8th_Civics_TM_Unit 5.indd 236 03/04/2023 13:39:21

கடக்க வேண்டும். போக்குவரத்துச் சமிக்ஞைகளில் செலவிடும் இரண்டு நிமிட நேரம் உங்கள் வாழ்க்கைக்கு மிகவும் மதிப்புள்ளதாகும். சிவப்பு மற்றும் மஞ்சள் விளக்கு ஒளிரும் போது சாலையைக் கடக்கக்கூடாது. சாலையின் நடுவில் நடப்பதைத் தவிர்த்துச் சாலையின் ஓரத்தில் நடக்கவும்.

மத்தியில் உள்ள இடைவிடப்பட்ட வெள்ளைக் கோடு: இது சாலையின் அடிப்படைக் குறியீடு ஆகும். இக் குறியீடு உள்ள இடத்தில் சாலையில் தடம் (Lane) மாறலாம், வாகனங்களை முந்தி செல்லலாம் அல்லது பாதுகாப்பாக இருக்கும் பட்சத்தில் U – திருப்பத்தில் திரும்பலாம்.

தொடர்ச்சியான வெள்ளைக்கோடு: இவை முக்கியத்துவம் வாய்ந்த பகுதிகளில் காணப்படும். வாகனங்களை முந்தவோ, தடம் மாறவோ, அனுமதியில்லை என்பதைக் குறிக்கின்றது. இடதுபுறம் மட்டுமே வாகனங்கள் தொடர்ந்து செல்ல வேண்டும்.

தொடர்ச்சியான ஒரு மஞ்சள் கோடு: வெளிச்சம் (visibility) குறைவான பகுதிகளில் உள்ள சாலைகளில் பயன்படுத்தப்படுகின்றது. வாகனங்களை முந்திச் செல்லலாம் மற்றும் இடதுபுறம் மட்டுமே வாகனம் செலுத்தப்பட வேண்டும் என்பதை உணர்த்துகிறது.

இரண்டு தொடர்ச்சியான மஞ்சள் கோடுகள்: ஆபத்தான மற்றும் இருவழி போக்குவரத்து உள்ள சாலைகளில் பயன்படுத்தப்படுகிறது. இது தடம் மாறுவதை கண்டிப்பாகத் தடைசெய்கிறது. மேலும் நாம் நமது தடத்திற்குள்ளாக வாகனங்களை முந்திச் செல்லலாம்.



நிறுத்தக் கோடு: பாதசாரிகள் கடக்கும் கோட்டிற்கு முன்பாக குறியிடப்பட்டிருக்கும். அவை போக்குவரத்துச் சமிக்ஞைகளில் வாகனங்கள் நிறுத்தப்பட வேண்டிய பகுதியைக் குறிக்கின்றது.

தொடர்ச்சியான மற்றும் இடைவிடப்பட்ட கோடுகள்: இடைவிடப்பட்ட கோட்டின் பக்கமாக ஓட்டும் போது பிற வாகனங்களை முந்திச்செல்லலாம். ஆனால் தொடர்ச்சியான கோட்டின் பக்கமாக செல்லும் போது பிற வாகனங்களை முந்திச்செல்லக் கூடாது.

108 அவசரகால சேவை : இது ஒருங்கிணைக்கப்பட்ட மருத்துவம் (மருத்துவ ஊர்தி), காவல் மற்றும் தீயணைப்பு சேவைகள் ஆகியவற்றை அளிக்கும் ஒரு அவசரகால சேவையாகும். சாலையில் யாரேனும் பாதிக்கப்பட்டதைக் கண்டால் பதற்றப்படவேண்டாம். உதவிக்கு 108 என்ற எண்ணினையும் சாலை விபத்துகளுக்கு 103 என்ற எண்ணினையும் அழைக்கவும்.

CALL 108 EMERGENCY
• MEDICAL • POLICE • FIRE

கட்டாயக் குறியீடுகள்

போக்குவரத்துக் குறியீடுகளின் முதல் வகை கட்டாயக் குயியீடுகள் ஆகும். கட்டாய குறியீடுகளை மீறுவது சாலை மற்றும் போக்குவரத்துத் துறையினால் சட்டப்படி தண்டிக்கப்படக் கூடிய குற்றமாகும்.

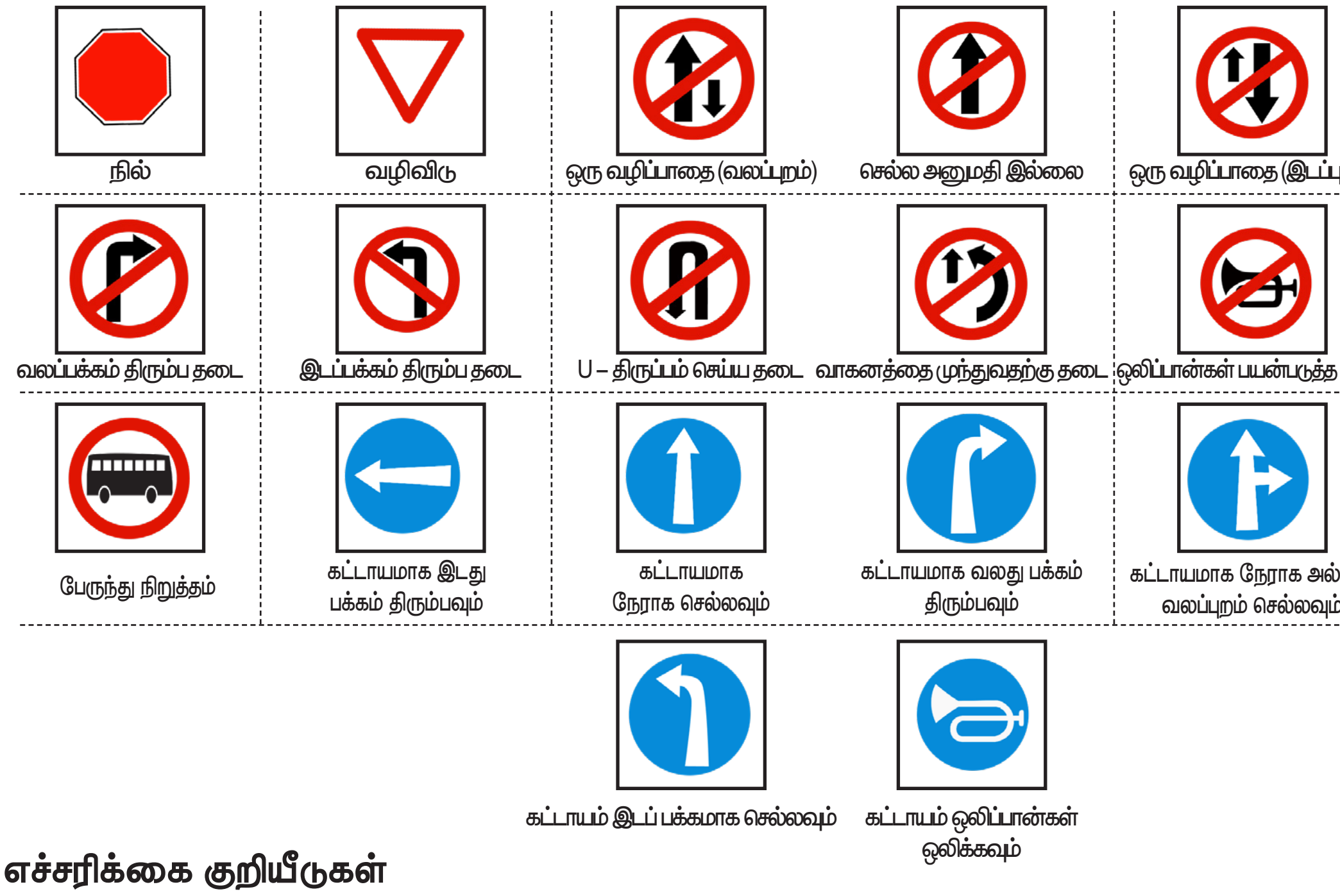

நில்
வழிவிடு
ஒரு வழிப்பாதை (வலப்புறம்)
செல்ல அனுமதி இல்லை
ஒரு வழிப்பாதை (இடப்புறம்)
கனரக வாகனங்களுக்குத் தடை
வலப்பக்கம் திரும்ப தடை
இடப்பக்கம் திரும்ப தடை
U – திரும்பும் செய்ய தடை
வாகனத்தை முந்துவதற்கு தடை
ஒலிப்பான்கள் பயன்படுத்த தடை
வேக கட்டுப்பாட்டு அளவு
பேருந்து நிறுத்தம்
கட்டாயமாக இடது பக்கம் திரும்பவும்
கட்டாயமாக நேராக செல்லவும்
கட்டாயமாக வலது பக்கம் திரும்பவும்
கட்டாயமாக நேராக அல்லது வலப்புறம் செல்லவும்
கட்டாயமாக நேராக அல்லது இடப்புறம் செல்லவும்
கட்டாயம் இடப் பக்கமாக செல்லவும்
கட்டாயம் ஒலிப்பான்கள் ஒலிக்கவும்

எச்சரிக்கை குறியீடுகள்

சாலை வழி மற்றும் போக்குவரத்துத் துறையால் மொத்தம் 40 போக்குவரத்து எச்சரிக்கை குறியீடுகள் சேர்க்கப்பட்டுள்ளன. எச்சரிக்கை குறியீடுகளின் முக்கியப் செயல்பாடு சூழ்நிலைக்கேற்ப தேவையான நடவடிக்கைகளை மேற்கொள்ள ஓட்டுநர்களுக்கு எச்சரிக்கை விடுப்பதாகும்.



வலப்பக்க வளைவு
இடப்பக்க வளைவு
வலது கொண்டை ஊசி வளைவு
இடது கொண்டை ஊசி வளைவு
வலது எதிர் திருப்பம்
இடது எதிர் திருப்பம்
செங்குத்தான மேடு
குறுகிய சாலை எதிர்வருகிறது
அகண்ட சாலை எதிர்வருகிறது
பாலம்
வழுக்கும் சாலை
மிதிவண்டி கடக்குமிடம்
பாதசாரிகள் கடக்குமிடம்
பள்ளிக் கூடம் கவனம்
ஆட்கள் வேலை செய்கிறார்கள்
T– சந்திப்பு
கற்கள் விழும் பகுதி
ரயில் தண்டவாளத்தை கடக்குமிடம்

தகவல் குறியீடுகள்

இக்குறியீடுகள் தகவல் பலகைகள் வழியாக ஓட்டுநர்களுக்குத் தகவல் அளிக்கின்றன.

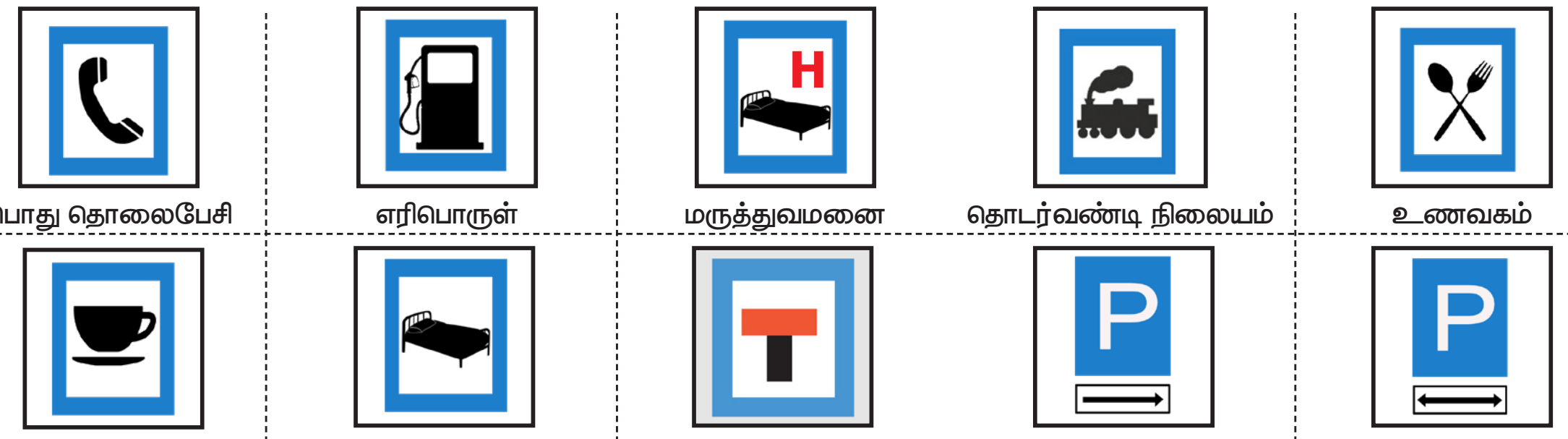

பொது தொலைபேசி
எரிபொருள்
மருத்துவமனை
தொடர்வண்டி நிலையம்
உணவகம்
சிற்றுண்டி
ஓய்வெடுக்கும் இடம்
சாலை மூடப்பட்டுள்ளது
இப்பக்கம் நிறுத்தவும்
இருசக்கர வண்டிகளுக்கான நிறுத்துமிடம்

8th_Civics_TM_Unit 5.indd 238 03/04/2023 13:39:23

போக்குவரத்துக் குறியீடுகள்

போக்குவரத்துக் குறியீடுகள் போக்குவரத்தினை முறைப்படுத்தவும் ஆபத்துக்களை எச்சரிக்கை செய்யவும் வழிகாட்டுவதற்கும் சாலையை உபயோகிப்பவர்களுக்காக வைக்கப்பட்டிருக்கின்றன. போக்குவரத்துக் குறியீடுகள் பற்றி புரிந்து கொள்வதும் அதைப்பற்றிய முறையான அறிவும் அவசியம். ஓட்டுநர் உரிமம் பெற விரும்பும் ஒருவர் போக்குவரத்துக் குறியீடுகள் பற்றி நன்கு அறிந்திருக்க வேண்டியதை அரசு கட்டாயமாக்கியுள்ளது. போக்குவரத்துக் குறியீடுகள் வாகனத்தில் உள்ள ஓட்டுநர், பயணிகளுக்குச் சாலையில் ஏற்படும் விரும்பத்தகாத ஆபத்துக்களைத் தடுக்கின்றது.

மூன்று வகையான போக்குவரத்துக் குறியீடுகள் உள்ளன.

கட்டாயக் குறியீடுகள்: கண்டிப்பாக பின்பற்ற வேண்டும் என உத்திரவிடும் குறியீடுகள் ஆகும். அவை பொதுவாக வட்ட வடிவில் இருக்கும்.

எச்சரிக்கை குறியீடுகள்: சாலையைப் பயன்படுத்துவோருக்கு எதிர்வரும் சாலையின் நிலை குறித்து எச்சரிக்கின்றன. அவை பொதுவாக முக்கோண வடிவில் இருக்கும்.

தகவல் குறியீடுகள்: திசைகள், இலக்குகள் பற்றிய பல தகவல்களை அளிக்கின்றன. அவை பொதுவாக செவ்வக வடிவில் இருக்கும்.

போக்குவரத்துச் சமிக்ஞைகள்

போக்குவரத்து விளக்குகள் என்பது ஒரு சமிக்ஞை கருவி ஆகும். இது சாலைகள் சந்திக்கும் இடங்களிலும் பாதசாரிகள் சாலையைக் கடக்கும் இடங்களிலும் அமைக்கப்பட்டிருக்கும். அவை உலகளாவிய நிறக் குறியீடுகளைப் பயன்படுத்துவதன் மூலம் பாதுகாப்பாக எப்போது நடக்கலாம், வாகனங்களைச் செலுத்தலாம் என்பதைக் குறிப்பிடுகின்றன.

சிவப்பு: இந்த சமிக்ஞை நிறுத்தக் கோட்டிற்குப் பின்னால் வாகனங்களை நிறுத்தவேண்டும் என்பதைக் குறிக்கின்றது.

ஆம்பர் (மஞ்சள்): இந்த சமிக்ஞை நிறுத்த வேண்டும் என்பதைக் குறிக்கின்றது. பச்சை வண்ணம் தெரியும் வரை சாலையைக் கடக்கவோ புறப்படவோ கூடாது. தவறுதலாக பெரிய சாலை கடந்து கொண்டிருக்கும் போது இடைப்பகுதியிலேயே மஞ்சள் சமிக்ஞையில் சிக்க நேர்ந்தால் கவனமாக முன் செல்ல வேண்டும். பதற்றத்தில் வேகமாக செல்லக்கூடாது.

பச்சை: பாதைதெளிவாக இருக்கும்பட்சத்தில் செல்லலாம் என்பதைக் குறிக்கின்றது.

நிலையான பச்சை அம்புக்குறி சமிக்ஞை: முழு பச்சை சமிக்ஞையுடன் கூடுதலாக; இந்த சமிக்ஞை வழங்கப்படலாம். இதில் அம்பு குறிப்பிடும் திசையில் கவனமுடன் செல்ல வேண்டும் என்பதைக் குறிக்கின்றது.

ஒளிரும் சிவப்பு சமிக்ஞை: முழுமையாக நிறுத்த வேண்டும் என்பதாகும். பாதை தெளிவான பின்பே செல்ல வேண்டும்.

ஒளிரும் மஞ்சள் சமிக்ஞை: இது வேகத்தைக் குறைத்து எச்சரிக்கையுடன் செல்ல வேண்டும் என்பதைக் குறிக்கின்றது.

இரவில் விளக்குகள்



நில், கவனி, செல் மெதுவாக, கவனி, செல்

இரவில் போக்குவரத்து நெரிசல் குறைந்திருக்கும் போது பல குறுக்கு சந்திப்புகளில் உள்ள சைகை விளக்குகளை காவலர்கள் அணைத்து விடலாம். ஆனால் அப்பகுதிகளைக் கடக்கும் போது மிகவும் எச்சரிக்கையுடன் தொடரலாம். வாகனங்களை நிறுத்தத் தேவையில்லை.

இந்தியாவில் சாலை விதிகள்

இந்தியா முழுமைக்கும் பொருந்தக்கூடிய மோட்டார் வாகனச் சட்டம் 1988ல் பாராளுமன்றத்தால் நிறைவேற்றப்பட்டு, 1989 ஆம் ஆண்டு முதல் நடைமுறைக்கு வந்தது.

8th_Civics_TM_Unit 5.indd 239 03/04/2023 13:39:24

- ஒருவழி சாலையில் ஓட்டுநர் தனது வலது புறம் வாகனம் முந்திச் செல்ல அனுமதிக்க வேண்டும். எதிர்புறமாக வாகனங்களை ஒருபோதும் நிறுத்தக்கூடாது.
- இருவழி சாலையில் இடப்புறம் மட்டுமே ஓட்டுநர் வாகனத்தைச் செலுத்த வேண்டும்.
- அனைத்து சாலை சந்திப்புகளிலும் மற்றும் பாதசாரி கடக்கும் கோடுகள் உள்ள இடங்களிலும் ஓட்டுநர் கட்டாயமாக வாகனத்தின் வேகத்தைக் குறைக்க வேண்டும்.
- தடை செய்யப்பட்ட இடங்களான மருத்துவமனை, பள்ளிக்கூடம், போன்றவைகளின் அருகில் ஓட்டுநர்கள் ஒலிப்பான்களைப் பயன்படுத்தக் கூடாது.
- மருத்துவ ஊர்தி (ambulance), தீயணைப்பு வாகனங்கள், இராணுவ பாதுகாப்பு வாகனங்கள் போன்றவைகளுக்கு வழிவிடுவது நமது பொறுப்பாகும்.
- உயர் கற்றை ஒளியினைத் தேவையான போது மட்டுமே ஓட்டுநர்கள் பயன்படுத்த வேண்டும். எதிரே வாகனங்கள் வரும் போதும், அல்லது ஒரு வாகனத்தின் அருகில் பின் செல்லும் போதும் மங்கலான முகப்பு விளக்குகளை பயன்படுத்த வேண்டும்.
- ஓட்டுநர் வாகனத்தின் வேகத்தினை குறைக்கும் பொழுது தனது வலது கையினை மேல் உயர்த்தி நிதானமாக மேலும் கீழுமாக அசைக்க வேண்டும்.
- ஓட்டுநர் வாகனத்தினை நிறுத்தும் பொழுது பின்வரும் வாகனங்களுக்குத் தெரியும் பொருட்டு தனது கையினைச் செங்குத்தாக மேல் உயர்த்த வேண்டும்.
- ஓட்டுநர் வாகனத்தினை வலப்பக்கம் திருப்ப விரும்பினால் தனது வலக்கையினை கிடைமட்டமாக முன்னால் உள்ளங்கை தெரிவது போல் நீட்ட வேண்டும்.
- ஓட்டுநர் வாகனத்தினை இடப்பக்கம் திருப்ப விரும்பினால் தனது கையினை இடஞ்சுழியாக (anti–clockwise) சுழற்ற வேண்டும்.
- அவசர காலத்தில் அபாய குறிக்காட்டிகளைப் பயன்படுத்த வேண்டும். அது இரண்டு குறிக்காட்டிகளையும் ஒரே நேரத்தில் ஒளிரச்செய்யும்.
- இரு சக்கர வண்டியின் பின் இருக்கையில் ஒருவர் மட்டுமே அமர அனுமதிக்கப்படுகின்றனர்.
- ஒலிப்பான்களைக் கிரீச் என்ற சத்தத்துடனோ,எரிச்சலடையும்வகையிலோ ஒலிக்க விடக்கூடாது. மின்னனு ஒலிப்பான் மட்டுமே அனுமதிக்கப்பட்டவை ஆகும்.
- மீட்பு வாகனங்களான தீயணைப்பு வண்டி, அவசர சிகிச்சை ஊர்தி அல்லது காவல் துறை வாகனங்கள் போன்ற வாகனங்களின் முன்புறம் வாகனங்களை நிறுத்துவது சட்டப்படி தண்டிக்கப்பட கூடியது மற்றும் அவ்வாறு செய்யும் தனிநபர் அபராதம் செலுத்த நேரிடும்.

இந்திய தண்டனைச் சட்டம் 304A பிரிவு
கண்மூடித்தனமாக ஓட்டுவதாலும் ஓட்டுநரின் அலட்சியம் காரணமாகவும் ஏற்படும் இறப்பு தொடர்பான குற்றங்களுக்கு ஓட்டுநர் மீது காவல் துறை மேற்கூறிய பிரிவின் கீழ் கிரிமினல் குற்ற வழக்குப் பதிவு செய்ய நேரிடும்.

பல்வேறு வண்ண இலக்கத்தகடுகள் (Number Plates)

- சிவப்பு வண்ணத்தகடு – குடியரசுத் தலைவர் மற்றும் மாநில ஆளுநர்களின் வாகனங்களில் பயன்படுத்தப்படும்.
- நீல வண்ணத்தகடு – அயல்நாட்டு பிரதிநிதிகள்/ தூதர்கள் பயன்படுத்தும் வாகனங்களுக்கு அளிக்கப்படும்.
- வெள்ளை வண்ணத்தகடு – இது சாதாரண குடிமகனுக்கு சொந்தமான வாகனம் என்பதாகும்.
- மஞ்சள் வண்ணத்தகடு – வணிக ரீதியான வாகனங்களுக்கானதாகும்.

கட்டாய ஆவணங்கள் – ஓட்டுநர் வாகனம் ஓட்டும் போது பின்வரும் ஆவணங்களை கட்டாயமாக வைத்திருக்க வேண்டும். ஓட்டுநர்

8th_Civics_TM_Unit 5.indd 240 03/04/2023 13:39:24

உரிமம், வாகனத்தின் பதிவுச் சான்றிதழ், வரிச் சான்றிதழ், காப்பீட்டுச் சான்றிதழ், வாகன உறுதித்தன்மை மற்றும் அனுமதிச் சான்றிதழ்.

சாலை விபத்துக்களைத் தவிர்க்க அரசு மேற்கொள்ளும் நடவடிக்கைகள்

சாலை போக்குவரத்து மற்றும் நெடுஞ்சாலை (The Ministry of Road Transport and Highways) அமைச்சகம், சாலை விபத்துக்களையும் சாலை விபத்தினால் ஏற்படும் உயிர் இழப்புகளையும் தவிர்க்க பல நடவடிக்கைகளை மேற்கொண்டுள்ளது.

அவையாவன:–

ஒரு பன்முக ஏற்புடைய வியூகம்: ஆங்கில எழுத்து நான்கு 'E' – பொறியியல் (Engineering), செயலாக்கம் (Enforcement), கல்வி (Education), அவசரம் (Emergency) ஆகியவற்றின் அடிப்படையில் சாலை பாதுகாப்பினை உறுதி செய்யும் பொருட்டு ஏற்றுக்கொள்ளப்பட்டுள்ள பன்முக யுக்தியாகும். அவை மேம்படுத்தப்பட்ட மற்றும் பாதுகாப்பான சாலை பொறியியலையும் மேம்பட்ட வாகன பாதுகாப்புத்தர நிலைகளையும் ஓட்டுநர்களுக்கு பயிற்சி அளித்தல், செம்மைப்படுத்தப்பட்ட அவசர சிகிச்சை பராமரிப்பு மற்றும் பொதுமக்கள் விழிப்புணர்வை உருவாக்குதல் ஆகியவற்றிற்குச் சிறந்த பாதுகாப்பான யோசனை ஆகும்.

வாகன பாதுகாப்புத் தரத்தை உயர்த்துவது: சரக்கு வாகனங்கள் வெளியே நீட்டிக் கொண்டு இருக்கும் கம்பிகளை ஏற்றிச் செல்ல தடை செய்யப்பட்டுள்ளது. கனரக வாகனங்களில் பூட்டுதலில்லா நிறுத்தும் அமைப்பும் (Anti–locking Brake System). இரு சக்கர வண்டிகளிலும் ABS/CBS நிறுத்தக்கருவியும் கட்டாயமாக்கப் பட்டுள்ளது. இரு சக்கர வண்டிகள் தெளிவாக தெரியும் பொருட்டு தானியங்கி முகப்பு விளக்கு ஒளிர்விப்பான் (Automatic Headlight On) கட்டாயமாக்கப்பட்டுள்ளது.

சாலை விபத்தில் சிக்கியவர்கள் பணமில்லா பரிவர்த்தனை மூலம் சிகிச்சை அளிக்கும் முன்னோட்டத் திட்டம்: தேசிய நெடுஞ்சாலை எண் 8 மற்றும் 33 இல் இத்திட்டம் ஏற்கனவே செயல்படுத்தப்பட்டு வருகிறது. தற்பொழுது தங்க நாற்கர சாலைகளிலும், வடக்கு, தெற்கு மற்றும் கிழக்கு, மேற்கு இணைப்புச் சாலைகளிலும் நடைமுறைபடுத்த திட்டமிடப்பட்டுள்ளது.

உடனடி விரைவு அவசர சிகிச்சை ஊர்திகள்: தேசிய நெடுஞ்சாலைகளில் ஒவ்வொரு 50 கி.மீ தொலைவிலும் ஒரு அவசர சிகிச்சை ஊர்தியை இந்திய தேசிய நெடுஞ்சாலை ஆணையத்தால் (NHAI) நிறுத்தப்பட்டிருக்கின்றது. அவசர ஊர்திகளுக்காக பெறப்படும் அழைப்புகளை ஏற்க 24x7 செயல்படும் அமைப்பு உருவாக்கப்பட்டுள்ளதுடன் சாலை பாதுகாப்புத் தன்னார்வத் தொண்டர்களுக்கு முதலுதவி அளிப்பதில் பயிற்சியும் வழங்கப்பட்டுள்ளது.

சேது பாரதம்: தேசிய நெடுஞ்சாலைகளில் பாதுகாப்பாக மற்றும் தடையற்ற பயணம் செய்ய பாலங்களைக் கட்டுவதற்கான திட்டம் 2016இல் தொடங்கப்பட்டது. அது 2019ஆம் ஆண்டிற்குள் அனைத்து தேசிய நெடுஞ்சாலைகளையும், இருப்புப்பாதை குறுக்கீடு இல்லாமல் உருவாக்குவதை நோக்கமாக கொண்டுள்ளது.

வேகக் கட்டுப்பாட்டுக் கருவிகள்: இக்கருவியில் வாகனம் எவ்வளவு வேகத்தில் செல்லுகின்றது என்பதை கண்டறியக்கூடிய தொடர்ச்சியான உணர்கருவிகள் உள்ளன. இவ்வுணர்கருவிகள் நிர்ணயிக்கப்பட்ட வேகத்தினை தாண்டும்போது வாகனத்தின் உந்துபொறிக்கு (engine) செல்லும் காற்று மற்றும் எரிபொருளின் அளவினைக் கட்டுப்படுத்துகிறது. இது தானாகவே வாகனத்தின் வேகத்தினை குறைப்பதோடு முன்னரே தீர்மானிக்கப்பட்ட வேகத்தினை மீறி வாகனம் செல்வதையும் தடுக்கின்றது.

பல்வேறு செய்திக் குறியீடுகள்: இவை பயணிகளுக்குத் தெரிவிக்கப்படவேண்டிய

8th_Civics_TM_Unit 5.indd 241
03/04/2023 13:39:24

முக்கியத் தகவல்களைத் தெரிவிக்கும் ஒளிஉமிழும் முனைய பலகைகள் (LED Boards) ஆகும். பெரிய போக்குவரத்து நெரிசல் மற்றும் நெருக்கடிகள் ஏதேனும் ஏற்பட்டால் அந்நிலைகளை உடனடியாக அச்சாலையை உபயோகிப்பவர்களுக்குத் தெரிவிக்க இவை பயன்படுகின்றன.

சாலை பாதுகாப்புக்கான பிரேசிலியா பிரகடனம்: இது ஐ. நா. உலக சுகாதார அமைப்பு இணைந்து நடத்திய சாலை பாதுகாப்பிற்கான இரண்டாவது உலகளாவிய உயர்மட்ட மாநாடு ஆகும். சாலை பாதுகாப்பினை மிக முக்கியமானதாக கருதி இந்தியா, பிரேசிலியா பிரகடனத்தில் 2015ஆம் ஆண்டு கையெழுத்திட்டது. இதன் மூலம் இதில் பங்கு பெற்ற அனைவரும் இப்பதிற்றாண்டுக்குள் சாலை பாதுகாப்பினை மேம்படுத்துவதற்கும் போக்குவரத்தினால் ஏற்படும் இறப்புகளைக் குறைப்பதற்கான வழிகளை உருவாக்கவும் உறுதி பூண்டுள்ளன.

குழந்தைகளிடையே சாலை பாதுகாப்பு விழிப்புணர்வினை ஏற்படுத்தும் நோக்கத்தோடு சுவச்ச சஃபர் (பாதுகாப்பான பயணம் – *Swachha Safer*) மற்றும் சுவரஷித் யாத்ரா (Suvarshit Yatra) என்ற இரு சித்திர புத்தகங்களைச் சாலை போக்குவரத்து மற்றும் நெடுஞ்சாலை அமைச்சகம் வெளியிட்டுள்ளது.

வாழ்வைக் காப்பாற்று நிறுவனம் (Save LIFE Foundation) இது ஒரு சுதந்திரமான, இலாப நோக்கில்லாத, அரசு சாரா, பொதுத் தொண்டு அறக்கட்டளையாகும். இது இந்தியா முழுவதும் சாலை பாதுகாப்பு மற்றும் அவசர மருத்துவ வசதியினை மேம்படுத்துவதற்காக பணியாற்றி வருகின்றது.

சாலை பாதுகாப்பு வாரம்

சாலை பாதுகாப்பு வாரம் என்பது சாலை விதிகள் குறித்து விழிப்புணர்வு ஏற்படுத்துவதையும் சாலை விபத்துக்கள் காரணமாக ஏற்படும் பாதிப்புகளைக் குறைப்பதையும் நோக்கமாகக் கொண்ட தேசிய நிகழ்வு ஆகும். மேலும் இது சாலையினை உபயோகிப்பவர்களுக்கு சாலை பாதுகாப்பு நடவடிக்கைகளை வலியுறுத்துகிறது. சாலை பாதுகாப்பு விழிப்புணர்வுக் கொண்டாட்டம் சாலை போக்குவரத்து மற்றும் நெடுஞ்சாலை அமைச்சகத்தால் துவங்கப்பட்டதாகும். இந்தியாவில் தேசிய சாலை பாதுகாப்பு வாரம் இந்திய தேசிய பாதுகாப்பு கவுன்சிலால் ஒருங்கிணைக்கப்படுகிறது. இது பாதுகாப்பு உடல் நலம் மற்றும் சுற்றுச்சூழல் பிரச்சனைகள் குறித்து பொதுமக்களை ஊக்குவிப்பதற்காக அரசாங்கத்தினால் அமைக்கப்பட்ட ஒரு தன்னாட்சி அமைப்பாகும். ஒவ்வொரு ஆண்டும் ஜனவரி மாதம் தேசிய சாலை பாதுகாப்பு வாரம் அனுசரிக்கப்படுகின்றது.

சாலை பாதுகாப்பு நடவடிக்கைக்கான பதிற்றாண்டு 2011–2020

ஐக்கிய நாடுகள் பொதுச் சபையினால் 2011–2020 வரையிலான பத்தாண்டுகள் சாலை பாதுகாப்பு நடவடிக்கைக்கான பதிற்றாண்டாக அதிகாரப்பூர்வமாக அறிவிக்கப்பட்டுள்ளது. சாலைகள் மற்றும் வாகனங்களின் பாதுகாப்பை மேம்படுத்துவது, சாலை உபயோகிப்பவர்களின் நடவடிக்கைகளை மேம்படுத்துவது மற்றும் அவசரகால சேவையினை மேம்படுத்துவது ஆகியவற்றின் மூலம் இப்பதிற்றாண்டில் இலட்சக்கணக்கான மக்களின் உயிரினைக் காக்க முற்படுகின்றது.

நாம் ஒன்றிணைந்து
இலட்சக்கணக்கான
உயிர்களைக்
காப்போம்.

செஞ்சிலுவை மற்றும் செம்பிறை சங்கங்களின் சர்வதேசக் கூட்டமைப்பு

கீழ்க்காணும் 10 உறுதிமொழிகளைப் பரிந்துரைத்துள்ளது.

8th_Civics_TM_Unit 5.indd 242 03/04/2023 13:39:25

முடிவுரை

சாலை விபத்துக்கள் யூகிக்கக்கூடியவை அதனால் அவை நிகழாமல் தடுக்கக் கூடியவை ஆகும். எனவே ஒவ்வொருவரும் சாலை பாதுகாப்பு விதிகள் மற்றும் குறியீடுகளைக் கண்டிப்பாக பின்பற்ற வேண்டும்.

சீக்கிரமாக புறப்படு! மெதுவாக செல்!! பாதுகாப்பாக சேர்ந்திடு!!!

மீள்பார்வை

- சாலை பாதுகாப்பு என்பது சாலையில் பயணிக்கும் அனைவரின் பாதுகாப்பையும் பாதுகாப்பு வழங்குவதையும் குறிக்கிறது.
- சாலை விபத்துக்கள் விரும்பத்தகாத நிகழ்வுகள் ஆகும். உயிர் இழப்பினாலும் படுகாயத்தினாலும் வாழ்வாதாரத்தையே இழக்க நேரிடும்.
- போக்குவரத்துக் குறியீடுகள் போக்குவரத்தினை முறைபடுத்தவும், ஆபத்துக்களை எச்சரிக்கவும் சாலையை உபயோகப்படுத்துவோருக்கு வழிகாட்டவும் ஆகும்.
- கட்டாயக் குறியீடுகள், எச்சரிக்கை குறியீடுகள் மற்றும் தகவல் குறியீடுகள் என மூன்று வகையான போக்குவரத்துக் குறியீடுகள் உள்ளன.
- சாலை ஒழுங்குமுறை சம்பந்தமான விதிகள் 1989 ஜூலை 1 முதல் நடைமுறைக்கு வந்தது.
- சாலை போக்குவரத்து மற்றும் நெடுஞ்சாலை அமைச்சகம் சாலை விபத்துக்களைத் தடுக்க பல்வேறு நடவடிக்கைகளை மேற்கொண்டுள்ளது.
- சாலை பாதுகாப்பு அமைப்பு, விதிகள் மற்றும் ஒழுங்குமுறைகள் பற்றிய விழிப்புணர்வினை வலுப்படுத்த சாலை போக்குவரத்து மற்றும் நெடுஞ்சாலை அமைச்சகத்தால் ஒவ்வொரு வருடமும் சாலை பாதுகாப்பு வாரம் கடைபிடிக்கப்படுகின்றது.

8th_Civics_TM_Unit 5.indd 243 03/04/2023 13:39:25

கலைச்சொற்கள்		
பயணிகள்	Commuters	Passengers
விளம்பரபலகை	Billboard	A hoarding
பதற்றம்	Panic	Anxiety
ஆபத்து	Hazard	Danger/risk
கட்டாயம்	Mandatory	Compulsory
இரு சக்கர வாகனத்தின் பின்னிருக்கை	Pillion	A seat for a passenger behind a motorcyclist
நெரிசல்	Congestion	Overcrowding

மதிப்பீடு

I சரியான விடையைத் தேர்ந்தெடுக்கவும்

AP6E8

1. சிவப்பு விளக்கு ஒளிரும் போது
   அ) பாதை தெளிவாக இருக்கும் போது நீங்கள் தொடர்ந்து செல்லலாம்
   ஆ) நீங்கள் வாகனத்தை நிறுத்தி பச்சைவிளக்கு ஒளிரும் வரை காத்திருக்க வேண்டும்
   இ) உன் நண்பனின் குறுந்தகவலுக்கு விரைவாக பதில் அனுப்பலாம்
   ஈ) செல்லிடப்பேசியில் உரையாடலாம்

2. பாதசாரிகள் சாலையைக் கடக்குமிடம்
   அ) எங்குவேண்டுமானாலும்
   ஆ) சமிக்ஞைகளுக்கு அருகில்
   இ) வரிகோட்டு பாதையில்
   ஈ) இவற்றில் எதுவுமில்லை

3. சாலை பாதுகாப்பு வாரம் ஒவ்வொரு வருடமும் கொண்டாடப்படும் மாதம்
   அ) டிசம்பர்
   ஆ) ஜனவரி
   இ) மார்ச்
   ஈ) மே

4. அவசர காலத்தில், அவசர சிகிச்சை ஊர்தி சேவைக்காக அழைக்க வேண்டிய எண்
   அ) 108 ஆ) 100 இ) 106 ஈ) 101

5. சாலை விபத்துக்களுக்கான காரணங்கள் யாவை?
   அ) அதிவேகம்
   ஆ) குடிபோதையில் ஓட்டுதல்
   இ) ஓட்டுநர்கள் கவனச்சிதறல்
   ஈ) இவை அனைத்தும்

6. போக்குவரத்துக் குறியீடுகளின் முதல் வகை
   அ) கட்டாய குறியீடுகள்
   ஆ) எச்சரிக்கை குறியீடுகள்
   இ) தகவல் குறியீடுகள்
   ஈ) இவற்றில் எதுவுமில்லை

7. சேது பாரதம் திட்டம் துவங்கப்பட்ட ஆண்டு
   அ) 2014 ஆ) 2015 இ) 2016 ஈ) 2017

8. ABS என்பதனை விரிவாக்கம் செய்க.
   அ) எதிர் நிறுத்தி ஆரம்பம் (Anti Brake Start)
   ஆ) வருடாந்திர அடிப்படை அமைப்பு (Annual Bare System)
   இ) பூட்டுதலில்லா நிறுத்தும் அமைப்பு (Anti–lock Braking System)
   ஈ) இவற்றுள் எதுவுமில்லை

9. வளைவில் முந்துவது
   அ) அனுமதிக்கப்படுகிறது
   ஆ) அனுமதியில்லை
   இ) கவனத்துடன் அனுமதிக்கப்படுகிறது
   ஈ) நமது விருப்பம்

10. அவசர சிகிச்சை ஊர்தி வரும்பொழுது
   அ) முன்பக்கம் வாகனம் இல்லாத போது கடந்து செல்ல அனுமதிக்கவேண்டும்.
   ஆ) முன்னுரிமை எதுவும் அளிக்கத் தேவையில்லை.

8th_Civics_TM_Unit 5.indd 244 03/04/2023 13:39:25

இ) நம் வாகனத்தினைச் சாலை ஓரமாக செலுத்தி தடையில்லாமல் கடக்க அனுமதிக்க வேண்டும்.

ஈ) அவசர சிகிச்சை ஊர்தியின் பின்புறம் மிகுந்த வேகத்துடன் பின் தொடர வேண்டும்.

II கோடிட்ட இடங்களை நிரப்புக

1. வாகனம் ஓட்டும் பொழுது எப்போதும் ____________ புறம் செல்லவும்.
2. கட்டாய குறியீடுகள் ____________ வடிவில் குறிப்பிடப்பட்டிருக்கும்.
3. ____________ வாகனத்தின் வேகத்தைக் கட்டுப்படுத்துகின்றது
4. அதிக வேகம்: ____________ ஆபத்து.
5. நான்கு சக்கர வாகனத்தில் ____________ அணிவதும் இரு சக்கர வாகனத்தில்____________ அணிவதும் கட்டாயம் எனச் சட்டம் உள்ளது.

III பொருத்துக

1	மாசுக் கட்டுப்பாட்டுச் சான்றிதழ்	-	வரிக்கோட்டு பாதை
2	புதிய சிற்றுந்து களுக்கான ஒரு முறை வரி	-	சாலைப்பாதுகாப்புக் குறித்த சித்திர புத்தகம்
3	பாதசாரி	-	ஆறு மாதங்கள்
4	பிரேசிலியா பிரகடனம்	-	15 வருடங்கள்
5	சுவச்ச சே.ஃபர்	-	பன்னாட்டு மாநாடு

IV சரியா / தவறா எனக் குறிப்பிடுக

1. சாலை விபத்துக்கள் தொடர்பான பிரச்சனை சாலையில் மட்டுமே உள்ளது.
2. பாதை தடத்தை மாற்றும் முன்பு கண்ணாடியினைப் பார்க்க வேண்டும்.
3. ஒளிரும் மஞ்சள் விளக்கு, வேகத்தினை குறைத்தும் எச்சரிக்கையுடனும் செல்ல வேண்டும் என்பதைக் குறிக்கின்றது.
4. இருசக்கர வண்டியில் ஒருவர் மட்டுமே பின் இருக்கையில் அமர அனுமதிக்கப்படுகிறார்கள்.
5. சாலைகள் மனிதனின் மிக மோசமான கண்டுபிடிப்புகளில் ஒன்று.

V சரியான கூற்றைத் தேர்ந்தெடு

1. பின்வரும் கூற்று(களில்) சரியல்லாதது எது?
   (i) முன்புற வாகனத்திலிருந்து சரியான இடைவெளியில் தொடரவும்.
   (ii) வேக கட்டுப்பாட்டு அளவினைக் கடைபிடிக்க வேண்டும். ஒருபோதும் வேகத்திற்கான எல்லையினைத் தாண்டக்கூடாது.
   (iii) வாகனம் ஓட்டும்பொழுது இருக்கை வார்பட்டைஅணியத்தேவையில்லை.
   (iv) வளைவுகளிலும் திருப்பங்களிலும் வேகத்தினைக் குறைக்க வேண்டாம்.

   அ) i, iii மட்டும் ஆ) ii, iv மட்டும்
   இ) i, ii மட்டும் ஈ) iii, iv மட்டும்

2. **கூற்று:** மது அருந்தி விட்டு வாகனம் ஓட்டுவது விபத்துக்களை ஏற்படுத்துகின்றது.

   காரணம்: மயக்கம் காரணமாக பார்வை பாதிக்கப்படுகின்றது.

   அ) கூற்று சரி மற்றும் காரணம் கூற்றிற்கான சரியான விளக்கம் ஆகும்.
   ஆ) கூற்று சரி மற்றும் காரணம் கூற்றிற்கான சரியான விளக்கம் அல்ல.
   இ) கூற்று சரி காரணம் தவறு
   ஈ) கூற்று, காரணம் இரண்டும் தவறு

3. **கூற்று:** சாலை குறியீடுகள் எளிதில் புரிந்துகொள்ள கூடிய ஒன்று.

   காரணம்: அவைகள் பெரும்பாலும் படங்களாக இருக்கின்றன.

   அ) கூற்று சரி, காரணம் தவறு
   ஆ) கூற்று மற்றும் காரணம் சரி, காரணம் கூற்றிற்கான சரியான விளக்கம் ஆகும்.
   இ) கூற்று தவறு, காரணம் சரி
   ஈ) கூற்று மற்றும் காரணம் சரி, காரணம் கூற்றிற்கான சரியான விளக்கமல்ல.

4. பொருந்தாத ஒன்றைக் கண்டுபிடி (சாலை பாதுகாப்பு விதிகள்).

   அ) வளைவுகளில் மெதுவாக செல்
   ஆ) வேக கட்டுப்பாட்டு அளவினைக் கடைபிடி

8th_Civics_TM_Unit 5.indd 245 03/04/2023 13:39:25

இ) வாகனம் ஓட்டும் பொழுது செல்லிடப் பேசியைப் பயன்படுத்து

ஈ) சாலைகளில் நடப்பதைத் தவிர்க்கவும்

5. பின்வரும் குறியீடுகள் எதைக் குறிப்பிடுகின்றன

VI பின்வரும் வினாக்களுக்கு ஓரிரு வாக்கியங்களில் விடையளி

1. சாலை பாதுகாப்பினை நீவிர் எவ்வாறு உறுதி செய்வாய்?
2. சாலை பாதுகாப்பு நமக்கு ஏன் முக்கியமானது?
3. சாலை விபத்துக்களின் நேரடி விளைவுகள் என்ன?
4. போக்குவரத்து சமிக்ஞைகளின் விளக்குகளின் படம் வரைந்து அதன் பொருளைக் குறிப்பிடு.
5. சாலை பாதுகாப்புக் குறித்த பிரேசிலியா அறிவிப்பைப் பற்றிக் குறிப்பு எழுதுக.
6. சாலை பாதுகாப்பு வாரம் கடைபிடிப்பதன் நோக்கம் யாது?
7. ஏதேனும் நான்கு சாலை விதிகளை எழுதுக.
8. மது அருந்துதல் வாகன ஓட்டுதலை எவ்வாறு பாதிக்கின்றது?

VII விரிவான விடையளி

1. சாலை விபத்துக்களுக்கான காரணங்களை விவரி.
2. சாலை விபத்துக்கள் நடைபெறாமல் தடுக்க இந்திய அரசாங்கம் மேற்கொண்டுள்ள முயற்சிகளை விளக்குக.
3. சாலை விபத்துக்கள் நடைபெறாமல் தடுக்க மேற்கொள்ள வேண்டிய நடவடிக்கைகள் என்ன?

VIII உயர் சிந்தனை வினா

1. இருசக்கர வாகனம் இரவில் ஓட்டும்போது தேவைப்படுவன என்ன?
2. ஓட்டுநர்களின் களைப்பு மற்றும் சோர்வினைக் குறைக்கும் சில வழிகளைப் பட்டியலிடுக.

IX செயல்திட்டம் மற்றும் செயல்பாடு

1. குழந்தைகளுக்கான சில அடிப்படை சாலை பாதுகாப்பு விதிகளைப் பட்டியலிடுக.
2. சாலை பாதுகாப்பு முறைகளைச் செய்து காட்டுக.
3. சாலை பாதுகாப்பு விழிப்புணர்வு கையேட்டினைத் தயாரித்துப் பள்ளியில் சுற்றுக்கு அனுப்புக.

மேற்கோள் நூல்கள்

1. The Motor Vehicles Act, 1988
2. The Tamil Nadu Motor Vehicles Rules, 1989
3. Ministry of Road Transport & Highways, Government of India
4. இருசக்கர வாகன ஓட்டிகளுக்கான சாலை பாதுகாப்பு விழிப்புணர்வு கையேடு, போக்குவரத்துத் துறை, தமிழ்நாடு அரசு

இணையதள வளங்கள்

1. http://tnsta.gov.in
2. http://parivahan.gov.in
3. www.tn.gov.in>tnmvr1989

8th_Civics_TM_Unit 5.indd 246 03/04/2023 13:39:26

VIII_Std_Civics_Unit 6.indd 247 12/3/2022 11:09:44 AM

அலகு - 6

பாதுகாப்பு மற்றும் வெளியுறவுக் கொள்கை

கற்றலின் நோக்கங்கள்

இப்பாடத்தைக் கற்றுக் கொள்வதன் மூலம் மாணவர்கள் கீழ்க்கண்ட அறிவினைப் பெறுகின்றனர்.

- இந்திய ஆயுதப் படைகள்
- துணை இராணுவப் படைகள்
- இந்தியாவின் வெளியுறவுக் கொள்கை
- அண்டை நாடுகளுடனான இந்தியாவின் உறவு

93TXE

I. பாதுகாப்பு

அறிமுகம்

இந்தியா அமைதியை விரும்பும் ஒரு நாடு. பொதுவாக, இந்தியா அனைத்து நாடுகளிடமும் குறிப்பாக அண்டை நாடுகளிடம் நல்லுறவைப் பேணுகிறது. அதேநேரத்தில் அந்நிய ஆக்கிரமிப்பிலிருந்து இந்திய எல்லையைப் பாதுகாப்பதற்கு, இந்தியா தன் பாதுகாப்பைப் பலப்படுத்துகிறது. எனவே இந்திய அரசு பாதுகாப்புத் துறைக்கு அதிக முன்னுரிமை அளித்து வருகிறது. இப்பாடத்தில் இந்திய நாட்டின் பல்வேறு விதமான பாதுகாப்புப் படைகளைப் பற்றி அறிந்து கொள்வோம்.

பாதுகாப்பு அமைப்பின் அவசியம்

ஒவ்வொரு நாட்டின் அரசியல், சமூக மற்றும் பொருளாதார வளர்ச்சிக்கு அதன் தேசிய பாதுகாப்பு மிகவும் அவசியமானது ஆகும். இது நாட்டின் அமைதிக்கும், முன்னேற்றத்திற்கும் மிகவும் முக்கியத்துவம் வாய்ந்தது ஆகும்.

இந்திய பாதுகாப்புச் சேவைகள்

இந்தியக் குடியரசுத் தலைவர் நாட்டின் தலைவராகவும், நமது பாதுகாப்பு அமைப்பில் மிக உயர்ந்த பதவி நிலையையும் வகிக்கிறார். அவர் இந்திய ஆயுதப் படைகளின் தலைமைத் தளபதி ஆவார்.

இந்தியாவில் பாதுகாப்புப் படைகளின் பிரிவுகள்

இந்திய ஆயுதப் படைகள் (Indian Armed Forces) – ஆயுதப் படையானது நாட்டின் இராணுவப் படை, கடற்படை, விமானப்படை மற்றும் கடலோரக் காவல்படை ஆகியவற்றை உள்ளடக்கிய முதன்மைப் படைகள் ஆகும். அவைகள் பாதுகாப்பு அமைச்சகத்தின் கீழ் செயல்படுகின்றன.

துணை இராணுவப் படைகள் (Paramilitary Forces) – அசாம் ரைபில்ஸ், சிறப்பு எல்லைப்புறப் படை ஆகியன துணை இராணுவப் படைகளாகும்.

மத்திய ஆயுதக் காவல் படைகள் (Central Armed Police Forces) – BSF, CRPF, ITBP, CISF மற்றும் SSB ஆகியன மத்திய ஆயுதக் காவல் படைகளாகும். அவைகள் மத்திய உள்துறை அமைச்சத்தின் கீழ் செயல்படுகின்றன. CAPF என்ற படைப்பிரிவுகள் தங்களுக்கு ஒதுக்கப்பட்ட பணிக்கு ஏற்றவாறு இராணுவம் மற்றும் காவல் துறையுடன் இணைந்து பணியாற்றுகின்றன.

இந்திய ஆயுதப் படைகளைக் கௌரவிப்பதற்காக இந்திய அரசால் தேசியப் போர் நினைவுச் சின்னம் (National War Memorial) கட்டப்பட்டுள்ளது. இந்நினைவுச் சின்னம் புது டெல்லியில் உள்ள இந்தியா கேட் அருகில் 40 ஏக்கர் பரப்பளவில் அமைக்கப்பட்டுள்ளது. போரின் போது நாட்டிற்காக உயிர் தியாகம் செய்த இந்திய இராணுவ வீரர்களின் பெயர்கள் நினைவுச் சின்னத்தின் சுவர்களில் கல்வெட்டில் பொறிக்கப்பட்டுள்ளன.

இந்திய ஆயுதப் படைகள்

இராணுவப் படை (Army)

இந்திய இராணுவப் படை என்பது நில அடிப்படையிலான ஒரு பிரிவு ஆகும். இது உலக அளவில் மிகப்பெரிய தன்னார்வப் படைப்பிரிவு ஆகும். இது ஜெனரல் (General) என்றழைக்கப்படும் நான்கு நட்சத்திர அந்தஸ்து கொண்ட இராணுவப் படைத் தளபதியால் வழிநடத்தப்படுகிறது. தேசிய பாதுகாப்பு, தேசிய ஒற்றுமை, அந்நிய ஆக்கிரமிப்பிலிருந்து நாட்டை பாதுகாத்தல், உள்நாட்டு அச்சுறுத்தல்கள் மற்றும் நாட்டின் எல்லைக்குள் அமைதியையும், பாதுகாப்பையும் பேணுதல் ஆகியன இந்திய இராணுவப் படையின் முதன்மைப் பணிகளாகும். மேலும் இது இயற்கை பேரழிவு மற்றும் பேரிடர் காலங்களில் மனிதாபிமான மீட்புப் பணிகளையும் செய்கிறது. இந்திய இராணுவம் 'ரெஜிமென்ட்' என்ற ஒரு அமைப்பு முறையைக் கொண்டது. இது செயல்பாட்டு ரீதியாகவும் புவியியல் அடிப்படையிலும் ஏழு படைப்பிரிவுகளாக பிரிக்கப்பட்டுள்ளது.



கடற்படை (Navy)

கடற்படையின் முதன்மை நோக்கம் நாட்டின் கடல் எல்லைகளை பாதுகாப்பதாகும். மேலும் நாட்டின் பிற ஆயுதப்படைகளுடன் இணைந்து இந்திய நிலப்பகுதி, மக்கள், கடல்சார் நலன்களுக்கு எதிரான அச்சுறுத்தல்கள் (அ) ஆக்கிரமிப்புகளைத் தடுக்க அல்லது தோற்கடிக்கும் பணியில் ஈடுபடுகிறது. இது அட்மிரல் (Admiral) என்றழைக்கப்படும் நான்கு நட்சத்திர அந்தஸ்து கொண்ட கடற்படைத் தளபதியால் வழிநடத்தப்படுகிறது. இது மூன்று கடற்படைப் பிரிவுகளைக் கொண்டது.

விமானப்படை (Air Force)

இந்திய விமானப்படை என்பது இந்திய ஆயுதப்படைகளின் வான்வெளி படை ஆகும். இந்திய வான்வெளியைப் பாதுகாப்பதும்,

பீல்டு மார்ஷல் (Field Marshal) – இது ஐந்து நட்சத்திர அந்தஸ்து கொண்ட பொது அதிகாரி பதவி. இது இந்திய இராணுவத்தின் உயர்ந்த பதவி ஆகும்.

சாம் மானக்ஷா என்பவர் இந்தியாவின் முதல் பீல்டு மார்ஷல் ஆவார். **கே.எம். கரியப்பா** இரண்டாவது பீல்டு மார்ஷல் ஆவார்.

இந்திய விமானப்படையில் ஐந்து நட்சத்திர அந்தஸ்து கொண்ட மார்ஷல் பதவிக்கு உயர்வு பெற்ற முதல் மற்றும் ஒரே அதிகாரி **அர்ஜுன் சிங்** ஆவார்.

VIII_Std_Civics_Unit 6.indd 248 12/3/2022 11:09:45 AM

1758ஆம் ஆண்டு தோற்றுவிக்கப்பட்ட 'மெட்ராஸ் ரெஜிமெண்ட்' (The Madras Regiment) இந்திய இராணுவத்தின் மிகப்பழமையான காலாட்படை பிரிவுகளில் ஒன்றாகும். இந்த 'ரெஜிமெண்ட்' தமிழ்நாட்டின் உதகமண்டலத்தில் உள்ள வெல்லிங்டன் எனுமிடத்தில் அமைந்துள்ளது.

1962இல் நடந்த சீன–இந்திய போரானது இராணுவ அதிகாரிகளின் எண்ணிக்கையை அதிகரிக்க வேண்டியதின் அவசியத்தை உணர்த்தியது. இந்திய இராணுவத்தின் அவசர ஆணையத்திற்கான அதிகாரிகளுக்குப் பயிற்சியளிக்க பூனா மற்றும் சென்னை ஆகிய இடங்களில் 'அதிகாரிகள் பயிற்சிப் பள்ளிகள்' (Officers Training Schools – OTS) நிறுவப்பட்டது. 1998 ஜனவரி 1 முதல் அதிகாரிகள் பயிற்சிப் பள்ளியானது 'அதிகாரிகள் பயிற்சி அகாடமி' (Officers Training Academy – OTA) என பெயர் மாற்றம் செய்யப்பட்டது.

ஆயுத மோதலின் போது வான்வழிப் போரை நடத்துவதும் இதன் முதன்மை நோக்கம் ஆகும். இது ஏர் சீப் மார்ஷல் (Air Chief Marshal) என்றழைக்கப்படும் நான்கு நட்சத்திர அந்தஸ்து கொண்ட விமானப்படை தளபதியால் வழிநடத்தப்படுகிறது. இது ஏழு படைப்பிரிவுகளைக் கொண்டது.

இந்தியக் கடலோரக் காவல்படை (Indian Coast Guard)

இந்தியப் பாராளுமன்றத்தின் 1978ஆம் ஆண்டு கடலோர காவல் படைச் சட்டத்தின்படி, இந்தியாவின் சுதந்திர ஆயுதப் படையாக இந்தியக் கடலோரக் காவல்படை 1978இல் நிறுவப்பட்டது. இது பாதுகாப்பு அமைச்சகத்தின் கீழ் செயல்படுகிறது. இந்த கடலோரக் காவல் படையானது கடற்படை, மீன்வளத் துறை, சுங்கத்துறை, மத்திய – மாநில காவல்படை ஆகியவற்றுடன் ஒத்துழைத்துச் செயல்படுகிறது.

கி.பி. (பொ.ஆ) 1025இல் தமிழ்நாட்டில் இருந்து சோழ மன்னர் முதலாம் இராஜேந்திரன் தென்கிழக்கு ஆசியாவின் கடல் சார் பகுதியான ஸ்ரீ விஜயம் மீது தன் கடற்படையெடுப்பைத் தொடங்கினார். மேலும் தற்போது கெடா என்றழைக்கப்படும் கடாரம் பகுதியை வென்றார். முதலாம் இராஜேந்திர சோழனின் ஸ்ரீவிஜயத்துக்கு எதிரான இந்த கடல் கடந்த படையெடுப்பு இந்திய வரலாற்றில் சிறப்பான நிகழ்வாக கருதப்படுகிறது.

துணை இராணுவ பாதுகாப்புப் படைகள்

உள்நாட்டு பாதுகாப்பைப் பராமரிக்கவும், கடலோரப் பகுதியைப் பாதுகாக்கவும், இராணுவத்திற்கு உதவுவதற்கும் பயன்படுத்தப்படும் படைகள் துணை இராணுவப் படைகள் என்றழைக்கப்படுகின்றன. இரயில் நிலையங்கள், எண்ணெய் வயல்கள், சுத்திகரிப்பு நிலையங்கள் மற்றும் நீர்த்தேக்கங்கள் ஆகிய முக்கியமான பகுதிகளைப்பாதுகாக்கும்பணியைச்செய்கிறது. இயற்கை மற்றும் மனித பேரழிவுகளிலிருந்து மக்களை மீட்கும் பணியிலும் இப்படைகள் ஈடுபடுகின்றன. அமைதி காலங்களில் இந்த துணை இராணுவப் படைகள் சர்வதேச எல்லைகளைப் பாதுகாக்கும் பொறுப்பை வகிக்கின்றன. அவைகள்:

1. அஸ்ஸாம் ரைபிள்ஸ் (AR)
2. சிறப்பு எல்லைப்புறப் படை (SFF)

அஸ்ஸாம் ரைபிள்ஸ் (Assam Rifles – AR)

இது அஸ்ஸாம் பகுதியில் 1835ஆம் ஆண்டு பிரிட்டிஷாரால் உருவாக்கப்பட்டது. இது கச்சார் லெவி எனப்பட்ட குடிப்படை (இராணுவ பயிற்சி பெற்ற மக்கள் குழு) ஆகும். தற்போது இதில் 46 படைப்பிரிவுகள் உள்ளன. இது உள்துறை அமைச்சகத்தின் கீழ் செயல்படுகிறது.

சிறப்பு எல்லைப்புற படை (Special Frontier Force – SFF)

சிறப்பு எல்லைப்புற படை என்பது ஒரு துணை இராணுவ சிறப்புப்படை ஆகும்.

VIII_Std_Civics_Unit 6.indd 249 12/3/2022 11:09:45 AM

இது 1962இல் உருவாக்கப்பட்டது. இப்படை புலனாய்வு பணியகத்தின் (IB) நேரடி மேற்பார்வையில் இருந்தது. பின்னர் இது இந்தியாவின் புலனாய்வு அமைப்பான ஆராய்ச்சி மற்றும் பகுப்பாய்வு பிரிவின் கீழ் செயல்பட்டு வருகிறது.

மத்திய ஆயுதக் காவல் படைகள் (Central Armed Police Forces – CAPF)

துணை இராணுவப் படையில் இருந்த பின்வரும் ஐந்து படைப்பிரிவுகள் மத்திய ஆயுதக் காவல் படையாக மறுவரையறை செய்யப்பட்டு மார்ச், 2011 முதல் உள்துறை அமைச்சகத்தின் கீழ் செயல்பட்டு வருகிறது.

1. மத்திய ரிசர்வ் காவல் படை (CRPF)
2. இந்தோ – திபெத்திய எல்லைக் காவல் (ITBP)
3. எல்லை பாதுகாப்புப் படை (BSF)
4. மத்திய தொழிலக பாதுகாப்புப் படை (CISF)
5. சிறப்பு சேவை பணியகம் (SSB)

மத்திய ரிசர்வ் காவல் படை (Central Reserve Police Force – CRPF)

அரசியலமைப்பின் மேலாதிக்கத்தை நிலைநிறுத்துவதற்காகவும் தேசிய ஒருமைப்பாட்டைக் காப்பதற்கும், சமூக நல்லிணக்கம் மற்றும் வளர்ச்சியை மேம்படுத்துவதற்கும், சட்டம், ஒழுங்கு மற்றும் உள்நாட்டு பாதுகாப்பினைத் திறம்பட மற்றும் திறமையாக பராமரிப்பதற்கும் இந்திய அரசாங்கத்திற்கு உதவுவதே மத்திய ரிசர்வ் காவல் படையின் நோக்கம் ஆகும்.

மத்திய ரிசர்வ் காவல் படையின் ஒரு சிறப்பு பிரிவே விரைவு அதிரடிப் படை (Rapid Action Force – RAF) ஆகும். இது கலவரம், கூட்ட நெரிசலைக் கட்டுப்படுத்துதல், மீட்பு, நிவாரண நடவடிக்கைகள் மற்றும் அமைதியற்ற சூழ்நிலைகள் ஆகியவற்றைத் திறம்பட எதிர்கொள்கிறது.

தேசிய மாணவர் படை (National Cadet Corps – NCC)

தேசிய மாணவர் படை என்பது இராணுவப்படை, கடற்படை மற்றும் விமானப்படை ஆகியவற்றை உள்ளடக்கிய ஒரு முத்தரப்பு சேவை அமைப்பாகும். இந்த அமைப்பு நாட்டின் இளைஞர்களை ஒழுக்கமான மற்றும் தேசபக்தி மிக்க குடிமக்களாக உருவாக்குவதில் ஈடுபட்டுள்ளது. தேசிய மாணவர் படை என்பது ஒரு தன்னார்வ அமைப்பாகும். இது இந்தியா முழுவதும் உள்ள உயர் நிலைப்பள்ளிகள், கல்லூரிகள், மற்றும் பல்கலைக்கழகங்களிலிருந்து மாணவர்களைத் தேர்ந்தெடுக்கிறது மேலும் மாணவர்களுக்குச் சிறிய ஆயுதங்கள் மற்றும் அணிவகுப்புகளில் அடிப்படை இராணுவப் பயிற்சியும் அளிக்கிறது.

இந்தோ – திபெத்திய எல்லைக் காவல் (Indo–Tibetan Border Police – ITBP)

இது எல்லையைப் பாதுகாக்கும் ஒரு காவல்படை ஆகும். இப்படை அதிக உயரமான பகுதியில் செயல்படுவதில் சிறப்பு வாய்ந்தது. இந்திய – சீன எல்லைப்பகுதிகளில் லடாக் முதல் அருணாச்சல பிரதேசம் வரையிலான எல்லைப் பகுதிகளைக் காக்கும் பணிகளுக்காக இது பயன்படுத்தப்படுகிறது.

எல்லை பாதுகாப்புப் படை (Border Security Force – BSF)

இது இந்தியாவின் எல்லைக்காவல் படை என அழைக்கப்படுகிறது. அமைதி காலங்களில் இந்திய நில எல்லைப்பகுதிகளைக் காப்பது மற்றும் நாடு கடந்த குற்றங்களைத் தடுப்பது ஆகிய பணிகளைச் செய்கிறது.

மத்திய தொழிலக பாதுகாப்புப் படை (Central Industrial Security Force – CISF)

மத்திய தொழிலக பாதுகாப்புப் படை 1969 மார்ச் 10ஆம் நாள் இந்திய நாடாளுமன்ற சட்டத்தின்கீழ் அமைக்கப்பட்டது. முக்கிய அரசாங்க கட்டடங்களைப் பாதுகாப்பது, டெல்லி மெட்ரோ பாதுகாப்பு மற்றும் விமான நிலைய பாதுகாப்பு ஆகியன இதன் முக்கிய பணிகள் ஆகும்.

ஜனவரி 15	– இராணுவ தினம்
பிப்ரவரி 1	– கடலோரக் காவல்படை தினம்
மார்ச் 10	– மத்திய தொழிலக பாதுகாப்புப் படை தினம்
அக்டோபர் 7	– விரைவு அதிரடிப் படை தினம்
அக்டோபர் 8	– விமானப்படை தினம்
டிசம்பர் 4	– கடற்படை தினம்
டிசம்பர் 7	– ஆயுதப்படைகள் கொடி தினம்

VIII_Std_Civics_Unit 6.indd 250 12/3/2022 11:09:45 AM

சிறப்பு சேவை பணியகம் / சாஷாஸ்திர சீமா பால் (Special Service Bureau / Sashastra Seema Bal – SSB)

இது இந்தியா–நேபாளம் மற்றும் இந்தியா–பூடான் எல்லைப் பகுதிகளைப் பாதுகாக்கும் எல்லை ஆயுதப் படைகள் ஆகும்.

ஊர்க்காவல் படை (Home Guard)

இந்திய ஊர்க்காவல் படை ஒரு தன்னார்வப் படை ஆகும். இது இந்தியக் காவல்துறைக்குத் துணையாக பணியாற்றுகிறது. இப்படை உறுப்பினர்கள் சமுதாயத்தின் பல்வேறு பிரிவுகளான தொழில்சார் வல்லுநர்கள், கல்லூரி மாணவர்கள், விவசாய மற்றும் தொழில்துறை பணியாளர்கள் ஆகியோர்களிலிருந்து நியமிக்கப்படுகிறார்கள். அவர்கள் சமுதாய முன்னேற்றத்திற்காக தங்கள் ஓய்வு நேரத்தை ஒதுக்குகின்றனர். 18 முதல் 50 வயதுடைய அனைத்து இந்தியக் குடிமக்களும் ஊர்க்காவல் படையில் சேர தகுதியுடையவர்களாவர். ஊர்க்காவல் படையில் சேரும் உறுப்பினர்களின் பதவிக்காலம் 3 முதல் 5 ஆண்டுகள் ஆகும்.

நம் நாட்டைப் பாதுகாக்க, இந்திய ஆயுதப் படைகள் எப்போதும் தயாராக வைக்கப்பட்டுள்ளன. நாட்டிற்குச் சேவை செய்யவும், நாட்டைக் காப்பதற்கும் இளைஞர்கள் தாமாக முன் வந்து இராணுவத்தில் சேர வேண்டும். இளைஞர்களைப் பணியில் சேர்க்க பாதுகாப்பு துறை தயாராக உள்ளது. நாட்டிற்குச் சேவை செய்ய ஒரு வாய்ப்பை ஏற்படுத்திக் கொள்வது ஒவ்வொரு குடிமகனின் கடமையாகும்.

II. இந்தியாவின் வெளியுறவுக் கொள்கை

வெளியுறவுக் கொள்கை என்பது இறையாண்மை கொண்ட ஒரு நாடு உலகின் மற்ற நாடுகளுடன் எவ்வாறு தொடர்பு கொள்ளும் என்பதை வரையறுக்கும் அரசியல் இலக்குகளின் தொகுப்பாகும். இது நாட்டு மக்களின் நலன்களையும் நாட்டின் பொருளாதாரத்தையும் பாதுகாக்க முயல்கிறது. நமது நாட்டின் வெளியுறவு என்பது சில கொள்கைகளையும், செயல்திட்டங்களையும் அடிப்படையாக கொண்டது. இந்தியாவின் வெளியுறவுக் கொள்கையானது அதன் காலனித்துவ பாதிப்புகளின் பின்னணியிலிருந்து உருவானது ஆகும்.

இந்திய வெளியுறவுக் கொள்கையின் அடிப்படைக் கோட்பாடுகள்

- தேதிய நலனைப் பாதுகாத்தல்
- உலக அமைதியினை அடைதல்
- ஆயுதக் குறைப்பு
- காலனித்துவம், இனவெறி மற்றும் ஏகாதிபத்தியம் ஆகியவற்றை நீக்குதல்
- நட்பு நாடுகளின் எண்ணிக்கையை அதிகரித்தல்
- பொருளாதார வளர்ச்சி

பஞ்சசீலம்

சுதந்திர இந்தியாவின் முதல் பிரதமரான ஜவஹர்லால் நேரு, இந்திய வெளியுறவுக் கொள்கையை வடிவமைப்பதில் முதன்மை சிற்பியாக இருந்தார். நேரு உலக அமைதிக்கு ஆதரவாளராக இருந்ததால் தனது கொள்கை திட்டமிடலில் உலக அமைதிக்கு மிக முக்கிய இடத்தை வழங்கினார். பஞ்சசீலம் என்றழைக்கப்பட்ட அமைதிக்கான ஐந்து கொள்கைகளை அவர் அறிவித்தார். அவைகள்:

1. ஒவ்வொரு நாட்டின் எல்லையையும், இறையாண்மையையும் பரஸ்பரம் மதித்தல்
2. பரஸ்பர ஆக்கிரமிப்பின்மை
3. பரஸ்பர உள்நாட்டு விவகாரங்களில் தலையிடாதிருத்தல்
4. பரஸ்பர நலனுக்காக சமத்துவம் மற்றும் ஒத்துழைத்தல்
5. அமைதியாக இணைந்திருத்தல்

அணிசேராமை

அணிசேராமை என்ற சொல் வி.கே. கிருஷ்ணமேனன் என்பவரால் உருவாக்கப்பட்டது. அணிசேராமை என்பது இந்திய வெளியுறவுக் கொள்கையின்

VIII_Std_Civics_Unit 6.indd 251 12/3/2022 11:09:45 AM

மிக முக்கிய அம்சமாக விளங்குகிறது. இரண்டாம் உலகப் போருக்குப் பின்னர் உருவான அமெரிக்கா மற்றும் ரஷ்யாவின் தலைமையிலான இராணுவக் கூட்டில் இணையாமல் வெளிநாட்டு விவகாரங்களில் தேசிய சுதந்திரத்தை பராமரித்தலே அணி சேராதிருத்தலின் நோக்கம் ஆகும். அணிசேராமை என்பது நடுநிலைமையும் அல்ல, ஈடுபாடின்மையும் அல்ல. அணிசேராமை என்பது எந்தவொரு இராணுவக் கூட்டணியிலும் (அமெரிக்கா, ரஷ்யா) சேராமல் சர்வதேச பிரச்சனைகளில் சுதந்திரமாக தீர்மானிக்கும் நிலைபாட்டைக் குறிக்கும்.

அணிசேரா இயக்கத்தின் நிறுவனத் தலைவர்கள்: இந்தியாவின் ஜவஹர்லால் நேரு, யுகோஸ்லாவியாவின் டிட்டோ, எகிப்தின் நாசர், இந்தோனேசியாவின் சுகர்னோ மற்றும் கானாவின் குவாமே நிக்ரூமா ஆகியோராவர்.

நெல்சன் மண்டேலா – இவர் ஆப்பிரிக்க தேசிய காங்கிரஸின் (தென் ஆப்பிரிக்கா) தலைவராக செயல்பட்டார். இவர் இனவெறிக்கு எதிரான ஓர் உறுதியான போராளி ஆவார். நிறவெறிக் கொள்கை என்பது இனப்பாகுபாட்டின் ஒரு மோசமான வடிவம் ஆகும். இது மனிதாபிமானத்திற்கும், மக்களாட்சிக்கும் எதிரானது. இனவெறிக் கொள்கை மற்றும் அனைத்து வகையான இனப்பாகுபாட்டிற்கும் எதிராக இந்தியா போராடியது. 1990ஆம் ஆண்டு தென் ஆப்பிரிக்காவில் இனவெறிக் கொள்கையை முடிவுக்கு கொண்டு வந்தது இந்திய வெளியுறவுக் கொள்கையின் மிகச்சிறந்த வெற்றியாகும்.

அண்டை நாடுகளுடனான இந்தியாவின் நட்புறவு

அண்டை நாடுகளுடன் இந்தியாவின் நிலைப்பாடு தனித்துவமானது. இந்தியா எப்போதும் சர்வதேச மற்றும் பிராந்திய நாடுகளுடன் ஒத்துழைப்பைக் கொண்டுள்ளது, ஏனென்றால் ஒத்துழைப்பு மூலமே நாடுகளிடையேயான பிரச்சனைகளை அமைதியான முறையில் தீர்க்க முடியும் என்று இந்தியா நம்புகிறது. இந்தியாவின் வெளியுறவுக் கொள்கையானது நட்புறவுகளை வளர்ப்பது மற்றும் அண்டை நாடுகளுடன் ஒத்துழைப்பது என்ற கொள்கையின் அடிப்படையில் அமைந்துள்ளது.

பாகிஸ்தான், ஆப்கானிஸ்தான், நேபாளம், சீனா, பூடான், வங்காளதேசம் மற்றும் மியான்மர் ஆகிய நாடுகளுடன் இந்தியா பொதுவான நில எல்லைகளைப் பகிர்ந்து கொள்கிறது. மேலும் இலங்கையுடன் பொதுவான கடல் எல்லையையும் பகிர்ந்து கொள்கிறது.

இந்தியா பின்வரும் நாடுகளுடன் எல்லைகளைப் பகிர்ந்து கொண்டு பரந்த நாடாக விளங்குகிறது.

- வடமேற்கில் – பாகிஸ்தான் மற்றும் ஆப்கானிஸ்தான்
- வடக்கில் – சீனா, நேபாளம், பூடான்
- கிழக்கில் – வங்காளதேசம்
- தூர கிழக்கில் – மியான்மர்
- தென்கிழக்கில் – இலங்கை
- தென்மேற்கில் – மாலத்தீவு

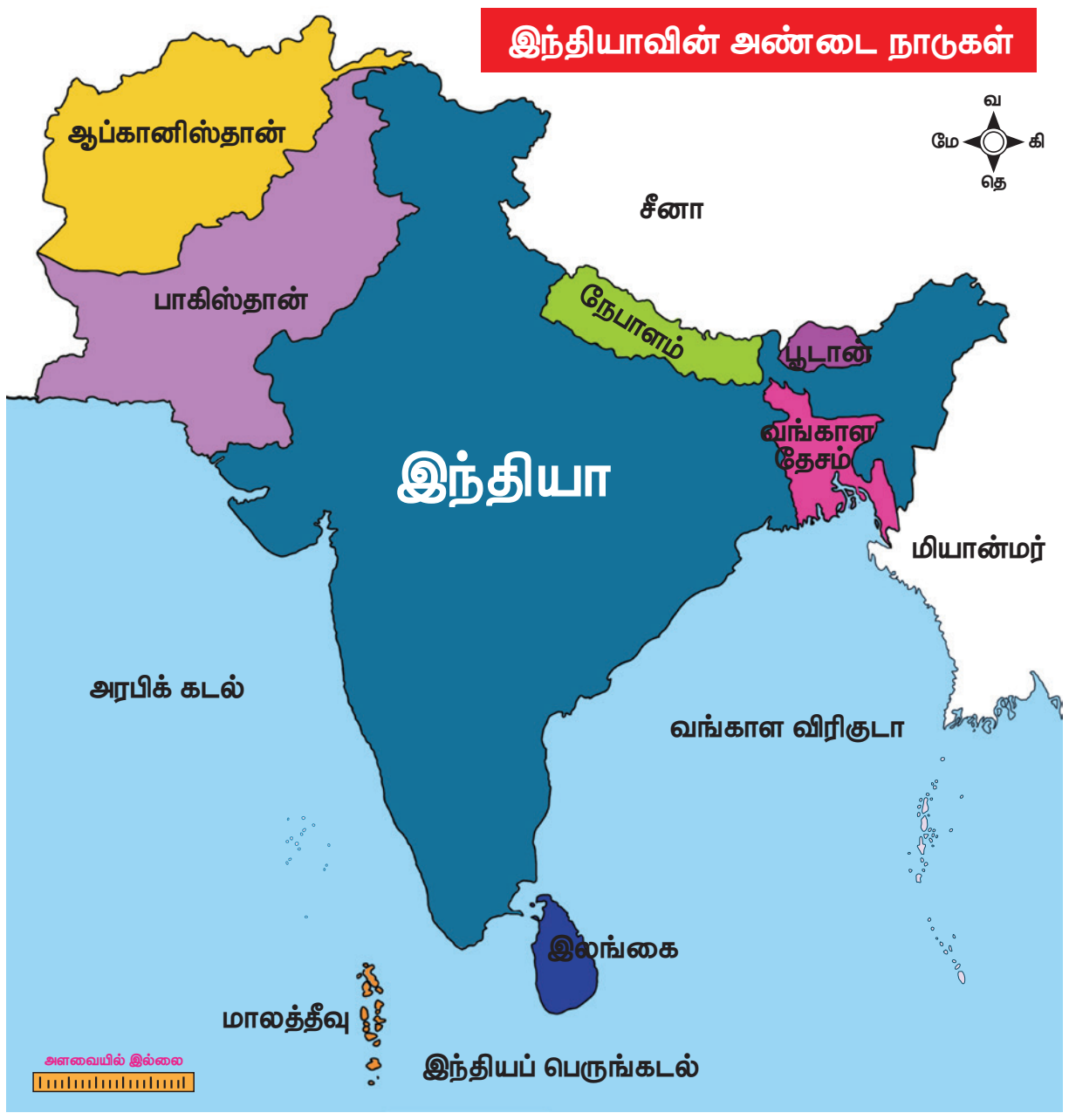

VIII_Std_Civics_Unit 6.indd 252 12/3/2022 11:09:46 AM

அண்டை நாடுகளுக்கான முன்னுரிமைக் கொள்கை

இக்கொள்கையானது இந்தியாவின் வெளியுறவுக் கொள்கையின் ஒரு பகுதியாகும். இது இந்தியாவின் அண்டை நாடுகளுடனான உறவை மேம்படுத்துவதில் தீவிர கவனம் செலுத்துகிறது. வளஆதாரங்கள், கருவிகள் மற்றும் பயிற்சி ஆகிய வடிவில் அண்டை நாடுகளுக்குத் தேவையான ஆதரவினை இந்தியா அளித்து வருகிறது. பொருட்கள், மக்கள், ஆற்றல், மூலதனம் மற்றும் தகவல்கள் ஆகியவற்றின் தடையில்லா பரிமாற்றத்தை மேம்படுத்துவதற்காக அதிக இணைப்பும் ஒருங்கிணைப்பும் அளிக்கப்படுகிறது.

கிழக்குச் செயல்பாடு என்ற கொள்கை

தென்கிழக்கு ஆசியா இந்தியாவின் வடகிழக்கில் இருந்து ஆரம்பமாகிறது. மியான்மர் இந்தியாவிற்கும் தென்கிழக்கு ஆசிய நாடுகளின் கூட்டமைப்பில் உள்ள நாடுகளுக்கும் பாலமாக அமைந்துள்ளது. இக்கொள்கையின் நோக்கம் ஆசியாவின் ஒருங்கிணைந்த பகுதியாக இருப்பதோடு, இந்தோ – பசிபிக் பகுதியில் நிலையான மற்றும் பன்முக சமநிலையை உறுதி செய்வதும் ஆகும்.

இந்தியா தனது அண்டை நாடுகளுடன் பின்வரும் பொதுவான பொருளாதார செயலாண்மைத் திறனில் தீவிரமாக ஈடுபட்டுள்ளது.

சார்க் (SAARC)

இந்தியா பிராந்திய ஒத்துழைப்பில் நம்பிக்கை கொண்டுள்ளது. தெற்காசிய நாடுகளுக்கிடையே சகோதரத்துவ பிணைப்புகளை வளர்ப்பதற்காகவும், ஒத்துழைப்பு மற்றும் அமைதியான முறையில் இணைந்திருத்தல் ஆகியவற்றிற்காகவும் தெற்காசிய நாடுகளின் பிராந்திய கூட்டமைப்பு நிறுவப்பட்டது. சார்க் அமைப்பு 8 உறுப்பு நாடுகளைக் கொண்டது. அவைகள் இந்தியா, வங்காளதேசம், பாகிஸ்தான், நேபாளம், பூடான், இலங்கை, மாலத்தீவு மற்றும் ஆப்கானிஸ்தான் ஆகியனவாகும்.

பி.சி.ஐ.எம் (BCIM)

இது வங்காளதேசம், சீனா, இந்தியா, மியான்மர் பொருளாதார போக்குவரத்து, எரிசக்தி மற்றும் தொலை தொடர்பு ஆகியவற்றில் எல்லை கடந்து ஒரு செழிப்பான பொருளாதார மண்டலத்தை உருவாக்க இக்கூட்டமைப்பு உதவுகிறது.

பிம்ஸ்டெக் (BIMSTEC)

இது வங்காள விரிகுடா பல்துறை தொழில்நுட்ப மற்றும் பொருளாதார கூட்டுறவிற்கான முயற்சி ஆகும். தொழில்நுட்ப அடிப்படையில் பொருளாதார ஒத்துழைப்பு, பன்னாட்டு வர்த்தகம், வெளிநாட்டு நேரடி முதலீடு ஆகியவற்றை வலுப்படுத்துவதும் மேம்படுத்துவதும் இதன் முக்கிய நோக்கமாகும். இதன் உறுப்பு நாடுகளாவன, வங்காளதேசம், இந்தியா, மியான்மர். இலங்கை, தாய்லாந்து, பூடான் மற்றும் நேபாளம்.

பி.பி.ஐ.என் (BBIN)

பயணிகள், சரக்கு மற்றும் எரிசக்தி மேம்பாடு ஆகியவைகளின் பரிமாற்றத்திற்கான கூட்டமைப்பில் வங்காளதேசம், பூடான், இந்தியா, நேபாளம் ஆகிய நாடுகள் கையெழுத்திட்டுள்ளன.

சுருக்கமாக கூறினால், இந்தியா பன்முக கலாச்சாரங்களைக் கொண்ட ஒரு பெரிய நாடு. இது தென்கிழக்கு ஆசிய நாடுகளிடையே உயர்ந்த நிலையைக் கொண்டுள்ளது. நாடுகளிடையே அமைதி, சுதந்திரம் மற்றும் பரஸ்பர ஒத்துழைப்பு ஆகியவற்றை பராமரிப்பதே இந்தியாவின் வெளியுறவுக் கொள்கையின் முக்கிய நோக்கமாகும். இந்தியா எந்த பெரிய இராணுவ கூட்டணியிலும் இல்லை என்றாலும், முக்கிய சக்திகளுடனான இந்திய உறவுகள் ஆழமான வியூகத்தைப் பெற்றுள்ளன.

VIII_Std_Civics_Unit 6.indd 253 12/3/2022 11:09:46 AM

மீள்பார்வை

- தேசிய பாதுகாப்பு என்பது அமைதிக்கு மட்டுமல்ல, பொருளாதார வளர்ச்சிக்கும் மிகவும் அவசியமானது.
- இந்திய பாதுகாப்புப் படைகள் இராணுவம், கடற்படை, விமானப்படை, பல்வேறு துணை இராணுவப் படைகள் மற்றும் பல்வேறு சேவை நிறுவனங்களை உள்ளடக்கியது ஆகும்.
- இந்திய ஆயுதப்படைகளின் தலைமை தளபதி குடியரசுத் தலைவர் ஆவார்.
- இந்தியா அனைத்து நாடுகளுடனும் நல்லுறவைப் பேணுகிறது.
- இந்தியா தனது அண்டை நாடுகளுக்கு அதிக முன்னுரிமை அளிக்கிறது. இந்தியா தனது பன்முக வளர்ச்சி இலக்குகளை அடைவதற்கு எல்லைப் பகுதிகளில் அமைதி அவசியமாகிறது.
- நட்புறவுகளை வலுப்படுத்தவும், வளர்ச்சி மற்றும் பாதுகாப்பிற்கான புதிய வாய்ப்புகளை உருவாக்கவும் இந்தியா சமச்சீரற்ற கொள்கையைச் செயல்படுத்தி வருகிறது.

கலைச்சொற்கள்

நாட்டின் பாதுகாப்பு	National security	Safety of nation
நாட்டின் பாதுகாப்பிற்கான படைகள்	Defence forces	Force with arms for the safety of a country
எப்பக்கமும் ஆதரவளிக்காமல் இருத்தல்	Neutrality	The state of not supporting or helping either side in a conflict
இன அடிப்படையில் வேறுபாடு காணுதல்	Racialism	A practice of discrimination on the basis of racial origin
எல்லை	Frontier	A border separating two countries

மதிப்பீடு

I சரியான விடையைத் தேர்ந்தெடுக்கவும்

1. இந்திய ஆயுதப் படைகளின் தலைமைத் தளபதி ________.

அ) குடியரசுத் தலைவர்

ஆ) பிரதம அமைச்சர்

இ) ஆளுநர்

ஈ) முதலமைச்சர்

2. இந்திய இராணுவப் படையின் முதன்மை நோக்கமானது

அ) தேசிய பாதுகாப்பு

ஆ) தேசிய ஒற்றுமை

இ) அந்நிய ஆக்கிரமிப்பிலிருந்து நாட்டைக் காத்தல்

ஈ) மேற்கூறிய அனைத்தும்

3. இராணுவ தினம் அனுசரிக்கப்படும் நாள்

அ) ஜனவரி 15 ஆ) பிப்ரவரி 1

இ) மார்ச் 10 ஈ) அக்டோபர் 7

VIII_Std_Civics_Unit 6.indd 254 12/3/2022 11:09:46 AM

4. அஸ்ஸாம் ரைபிள்ஸ் எதன் கீழ் செயல்படுகிறது?

அ) பாதுகாப்பு அமைச்சகம்

ஆ) தேசிய பாதுகாப்பு ஆலோசகர்

இ) திட்ட மேலாண்மை நிறுவனம்

ஈ) உள்துறை அமைச்சகம்

5. இந்தியக் கடலோரக் காவல்படை நிறுவப்பட்ட ஆண்டு

அ) 1976 ஆ) 1977

இ) 1978 ஈ) 1979

6. இந்திய வெளியுறவுக் கொள்கையானது பல்வேறு கோட்பாடுகளை அடிப்படையாகக் கொண்டது. அவைகளுள் ஒன்று

அ) சத்தியமேவ ஜெயதே

ஆ) பஞ்சசீலம்

இ) மேற்கூறிய இரண்டும்

ஈ) மேற்கூறிய எவையுமில்லை

7. பின்வருவனவற்றுள் எந்த தீவுகள் இந்தியாவிற்கு சொந்தமானவை?

அ) அந்தமான் மற்றும் மாலத்தீவு

ஆ) அந்தமான் மற்றும் லட்சத்தீவுகள்

இ) இலங்கை மற்றும் மாலத்தீவு

ஈ) மாலத்தீவு மற்றும் லட்சத்தீவுகள்

II கோடிட்ட இடங்களை நிரப்பவும்

1. மெட்ராஸ் ரெஜிமெண்ட் பிரிவின் மையம் அமைந்துள்ள இடம் ________.
2. இந்திய கடற்படையின் தலைமை தளபதி ________ ஆவார்.
3. இந்திய விமானப்படையிலிருந்து ஐந்து நட்சத்திர அந்தஸ்து கொண்ட மார்ஷல் பதவிக்கு உயர்வு பெற்ற முதல் மற்றும் ஒரே அதிகாரி ________ ஆவார்.
4. இந்தியாவின் வெளியுறவுக் கொள்கையினை வடிவமைத்த முதன்மைச் சிற்பி ________
5. அணிசேராமை என்ற சொல்லை உருவாக்கியவர் ________.

III பொருத்துக

1.	நெல்சன் மண்டேலா	– 8 உறுப்பினர்கள்
2.	தேசிய போர் நினைவுச்சின்னம்	– பீல்டு மார்ஷல்
3.	மானக்ஷா	– எரிசக்தி மேம்பாடு
4.	சார்க்	– இனவெறிக் கொள்கை
5.	பி.சி.ஐ.எம்	– புது டெல்லி

IV சரியா / தவறா எனக் குறிப்பிடுக

1. மத்திய ஆயுதக் காவல் படைகள் (CAPF) பாதுகாப்பு அமைச்சகத்தின் கீழ் செயல்படுகிறது.
2. மெட்ராஸ் ரெஜிமெண்ட் பழமையான காலாட்படைப் பிரிவுகளில் ஒன்று.
3. விரைவு அதிரடிப் படையானது, மத்திய ரிசர்வ் காவல் படையின் (CRPF) ஒரு சிறப்பு பிரிவு ஆகும்.
4. NCC மாணவர்களுக்கு அடிப்படை இராணுவப் பயிற்சி அளிக்கப்படுகிறது.
5. வங்காளதேசம் இந்தியாவின் ஒரு பகுதி ஆகும்.
6. இந்தியாவிற்கும், ASEAN என்ற கூட்டமைப்பில் உள்ள நாடுகளுக்கும் மியான்மர் ஒரு நிலப்பாலமாக செயல்படுகிறது.

V சரியான கூற்றைத் தேர்வு செய்யவும்

1. ஆயுதப்படைகள் தொடர்பான பின்வரும் கூற்றினை ஆராய்க.

I. இந்திய இராணுவப் படை ஆயுதப் படைகளின் நிலஅடிப்படையிலான பிரிவு ஆகும்.

II. இந்திய இராணுவப் படையின் நோக்கம் தேசிய பாதுகாப்பை உறுதி செய்வதோடு மட்டுமல்லாமல் மனித மீட்பு நடவடிக்கைகளிலும் ஈடுபடுகிறது.

அ) I மட்டும் சரி

ஆ) II மட்டும் சரி

இ) I மற்றும் II சரி

ஈ) I மற்றும் II தவறு

2. **கூற்று:** குடியரசுத் தலைவர் இந்திய ஆயுதப் படைகளின் தலைமை தளபதி ஆவார்.

காரணம்: குடியரசுத் தலைவர் நாட்டின் தலைவராகவும் மிக உயர்ந்த பதவி நிலையையும் வகிக்கிறார்.

அ) கூற்று சரி, காரணம் கூற்றிற்கான சரியான விளக்கமாகும்

ஆ) கூற்று சரி, காரணம் கூற்றிற்கான சரியான விளக்கமல்ல

இ) கூற்று சரி, காரணம் தவறு

ஈ) கூற்று, காரணம் இரண்டும் தவறு

3. **கூற்று:** பன்னாட்டு கூட்டுறவை இந்தியா ஆதரிக்கிறது.

காரணம்: நட்பு – கூட்டுறவு மூலம் நாடுகளுக்கிடையே உள்ள அனைத்து பிரச்சனைகளையும் தீர்க்க முடியும் என்று இந்தியா நம்புகிறது.

அ) கூற்று சரி, காரணம் தவறு

ஆ) கூற்று, காரணம் இரண்டும் தவறு

இ) கூற்று சரி, காரணம் கூற்றிற்கான சரியான விளக்கமாகும்

ஈ) கூற்று சரி, காரணம் கூற்றிற்கான சரியான விளக்கமல்ல

4. இனவெறிக்கொள்கை பற்றி பின்வரும் எந்த கூற்று சரியானவை அல்ல.

I. நிறவெறிக் கொள்கை என்பது இனப்பாகுபாட்டின் ஒரு மோசமான வடிவம்.

II. இது மனிதாபிமானத்திற்கு எதிரானது.

III. இனப்பாகுபாட்டுக் கொள்கை இந்தியாவில் நடைமுறையில் உள்ளது.

அ) I மற்றும் II ஆ) II மற்றும் III

இ) II மட்டும் ஈ) III மட்டும்

5. பொருந்தாத ஒன்றைத் தேர்ந்தெடு.

அ) மாலத்தீவு

ஆ) இலங்கை

இ) மியான்மர்

ஈ) லட்சத்தீவுகள்

VI பின்வரும் வினாக்களுக்கு ஓரிரு வாக்கியங்களில் விடையளிக்கவும்

1. தேசிய பாதுகாப்பு மிக அவசியமானது ஏன்?
2. பின்வருவனவற்றிற்கு விரிவாக்கம் தருக.

அ) SFF ஆ) ICG

இ) BSF ஈ) NCC

3. மத்திய ரிசர்வ் காவல் படை பற்றி சிறுகுறிப்பு எழுதுக.
4. அணிசேரா இயக்க நிறுவனத் தலைவர்களின் பெயர்களைக் குறிப்பிடுக.
5. இந்திய வெளியுறவுக் கொள்கையின் அடிப்படைக் கொள்கைகளை எழுதுக.
6. சார்க் உறுப்பு நாடுகளின் பெயர்களைக் குறிப்பிடுக.

VII விரிவான விடையளி

1. இந்திய இராணுவப் படையின் அமைப்பு மற்றும் நிர்வாகத்தினை விவரி.
2. துணை இராணுவப் படை பற்றி எழுதுக.
3. பஞ்சசீலத்தின் ஐந்து கொள்கைகளை எழுதுக.
4. இந்தியா தனது அண்டை நாடுகளுடன் உறவை மேம்படுத்துவதில் கவனம் செலுத்துகிறது. எப்படி?

VIII உயர் சிந்தனை வினா

1. பாதுகாப்பு படைப்பிரிவுகளில் பணிசெய்வது நாட்டின் மிக மதிப்பு மிக்க மற்றும் மரியாதைக்குரிய நிலையை உறுதிப்படுத்துகிறது. அதன் முக்கியத்துவத்தைப் பட்டியலிடுக.

IX செயல்திட்டம் மற்றும் செயல்பாடுகள்

1. நமது பாதுகாப்பு அமைப்புப் பற்றி ஒரு படத்தொகுப்புத் தயார் செய்க.
2. இந்திய இராணுவத்தில் வழங்கப்படும் விருதுகள் குறித்த தகவல்களைச் சேகரி. (உ.ம். பரம்வீர் சக்ரா)
3. வகுப்பில் உள்ள மாணவர்களை எட்டு குழுக்களாகப் பிரிக்கவும். ஒவ்வொரு குழுவும் ஒரு சார்க் நாட்டின் பிரதிநிதியாகும். ஒவ்வொரு குழுவும் அந்த நாட்டின் பெயர் மற்றும் தேசியக்

VIII_Std_Civics_Unit 6.indd 256 12/3/2022 11:09:46 AM

கொடியினைக் காட்சிப்படுத்தவும். பின்வரும் தலைப்புகளில் குழு கலந்துரையாடல் அல்லது வினாடி வினா நடத்தவும்.

i) நிலம் மற்றும் மக்கள்

ii) அரசாங்கத்தின் அமைப்பு

iii) மூலதனம்

iv) நாணயம்

v) இந்தியாவுடனான உடன்பாட்டு அம்சங்கள்

மேற்கோள் நூல்கள்

1. *Annual Report (2017 – 2018),* Ministry of External Affairs, New Delhi.
2. Deshpande, Anirudh., (Ed), *The First Line of Defence Glorious 50 Years of the Border Security Force,* Shipra Publications, Delhi, 2015.
3. *Baatcheet (Monthly Magazine - An Indian Army Publication),* Additional Directorate General, Public Information, IHQ of MoD, New Delhi.
4. Jawaharlal Nehru, *India's Foreign Policy, Selected Speeches 1946 - April 1961,* Ministry of Information and Broadcasting, Government of India, New Delhi, 1961.
5. V.P. Dutt, *India's Foreign Policy in a Changing World,* Vikas Publishing House, New Delhi, 1999.
6. Robert Bradnock, *India's Foreign Policy Since 1971,* Council on Foreign Relations Press, New York, 1990.

இணையதள வளங்கள்

1. www.indianarmy.nic.in
2. www.indiannavy.nic.in
3. www.indianairforce.nic.in
4. www.assamrifles.gov.in
5. www.crpf.gov.in
6. www.bsf.nic.in
7. www.itbpolice.nic.in
8. www.cisf.gov.in
9. www.ssb.nic.in
10. www.indiancoastguard.gov.in
11. www.nccindia.nic.in
12. www.dgfscdhg.gov.in
13. www.mod.gov.in
14. www.madrasregiment.org
15. www.nationalwarmemorial.gov.in

VIII_Std_Civics_Unit 6.indd 257 12/3/2022 11:09:46 AM

இணைய செயல்பாடு

பாதுகாப்பு மற்றும் வெளியுறவுக் கொள்கை

இந்த செயல்பாட்டின் மூலம் இந்தியாவின் பாதுகாப்புத்துறை அமைச்சகத்தின் செயல்பாடுகளை அறிந்து கொள்ள முடியும்

படி – 1 URL அல்லது QR குறியீட்டினைப் பயன்படுத்தி இச்செயல்பாட்டிற்கான இணையப்பக்கத்திற்கு செல்க.

படி – 2 திரையில் தோன்றும் " Important organisation" என்பதைச் சொடுக்கி "Army" யை தேர்ந்தெடுக்கவும்.

படி –3 திரையில் தோன்றும் மெனுவில் "War Memorial" என்பதைத் தேர்ந்தெடுக்கவும்.

படி – 1

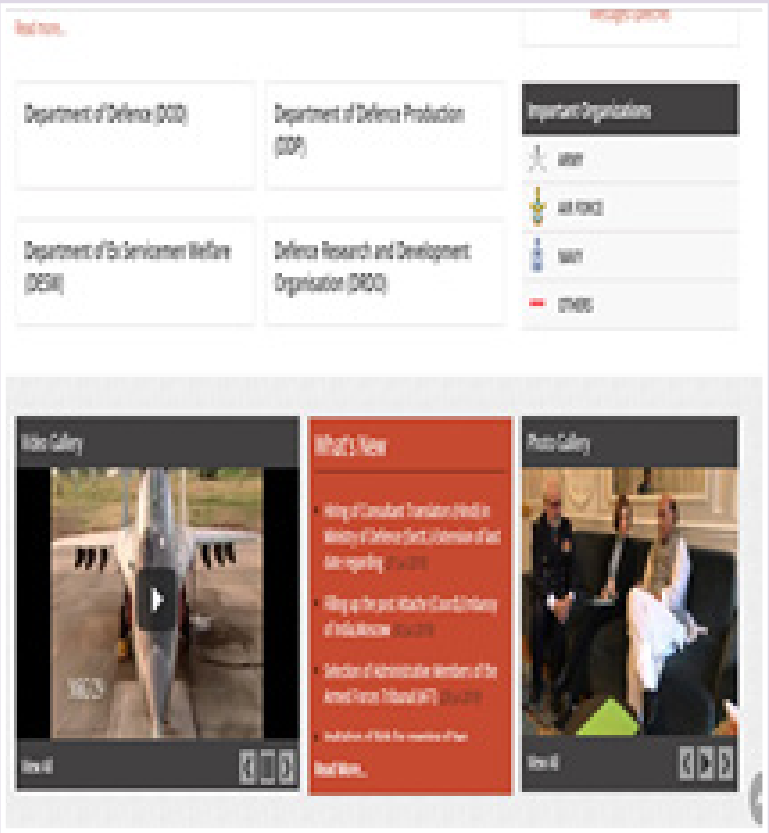

படி – 2

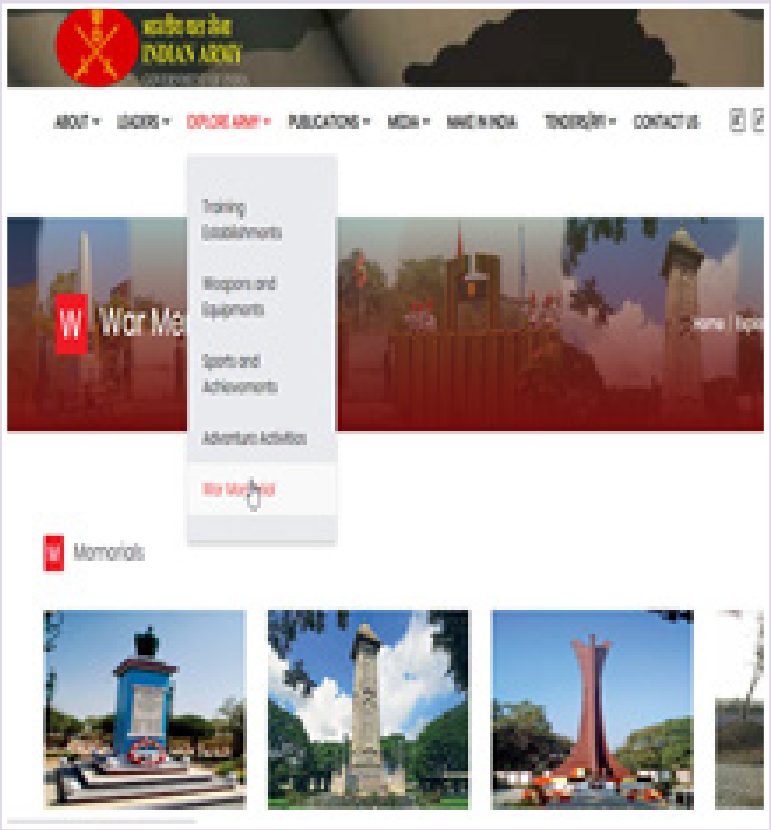

படி – 3

உரலி: https://mod.gov.in/

* படங்கள் அடையாளத்திற்கு மட்டும்.

* தேவையெனில் Adobe Flash ஐ அனுமதிக்க

VIII_Std_Civics_Unit 6.indd 258 12/3/2022 11:09:47 AM

அலகு - 7

நீதித்துறை

கற்றலின் நோக்கங்கள்

- நீதித்துறையின் பரிணாம வளர்ச்சியைக் கண்டறிதல்
- இந்திய நீதித்துறையின் படிநிலை அமைப்பினைப் புரிந்து கொள்ளுதல்
- உச்சநீதிமன்றம், உயர்நீதிமன்றம் மற்றும் சார்நீதிமன்றங்கள் ஆகியவற்றின் அதிகார வரம்பை விளக்குதல்
- சுதந்திரமான நீதித்துறையின் அவசியத்தைப் புரிந்து கொள்ளுதல்
- உரிமையியல் சட்டத்திற்கும் குற்றவியல் சட்டத்திற்கும் இடையிலான வேறுபாடுகளை அறிந்து கொள்ளுதல்

6FPQH

"நீதித்துறையின் உயர்வே அரசாங்கத்தின் உயர்வைக் காட்டும் அளவீடாகும்"

அறிமுகம்

ஒரு நாட்டின் நீதி அமைப்பு அனைவருக்கும் முறையான நீதி கிடைப்பதை உறுதி செய்ய திறனுடன் இருக்க வேண்டியது அவசியமாகிறது. இந்தியா ஒன்றிணைந்த மற்றும் ஒருங்கிணைந்த நீதித்துறை அமைப்பைக் கொண்டுள்ளது. அரசாங்கத்தின் ஓர் அங்கமாக நீதித்துறை முக்கியப் பங்கு வகிக்கிறது. இது நீதியை நிர்வகித்தல், தகராறுகளைத் தீர்த்தல், சட்டங்களுக்கு விளக்கம் அளித்தல், அடிப்படை உரிமைகளைப் பாதுகாத்தல் மற்றும் அரசியலமைப்புச் சட்டத்தின் பாதுகாவலனாகவும் விளங்குகிறது.

சட்டம்: இது மக்களை ஆள்வதற்கு ஓர் அரசாங்கத்தாலோ (அ) நிறுவனத்தாலோ விதிக்கப்படும் விதிகளின் அமைப்பு ஆகும்.

நீதித்துறை: சட்டப்படி, ஒரு நாட்டின் பெயரால் நீதியை வழங்குகின்ற நீதிமன்றங்களின் அமைப்பு நீதித்துறை எனப்படுகிறது.

இந்திய நீதித்துறையின் பரிணாம வளர்ச்சி

அ) பண்டைய காலத்தில் நீதித்துறை

பண்டைய காலத்தில் நீதி என்ற கருத்து சமயத்துடன் தொடர்புடையதாக இருந்தது. அரசர் நீதியின் மூலாதாரமாக விளங்கினார். பெரும்பாலான அரசர்களின் அவைகளில் தர்மத்தின் அடிப்படையில் (நன்னடத்தை, கடமை) நீதி வழங்கப்பட்டது. இவை மரபார்ந்த சட்டத் தொகுப்புகளாகும். தர்மத்தின் சட்டங்கள் தனிமனிதனை மட்டுமல்லாது சமூகத்தையும் நிர்வகித்தது.

ஸ்மிருதி இலக்கியங்கள்

பண்டைய இந்தியாவில் ஸ்மிருதிகள் தனிமனிதனின் சமூகக் கடமைகளை வரையறுத்தன. அவை மனுஸ்மிருதி, நாரதஸ்மிருதி, யக்ஞுவல்கிய ஸ்மிருதி போன்றவையாகும்.

கனங்களின் குடியரசுகள் தங்களுக்கென சட்ட அமைப்பைக் கொண்டிருந்தன. இதில் குலிகா எனும் நீதிமன்றத்தை நாம் காணலாம்.

VIII_Std_Civics_Unit 7.indd 259 12/3/2022 11:10:02 AM

வஜ்ஜிகளிடையே குற்ற வழக்குகளை விசாரிக்கும் எட்டு குலிகாக்களைக் கொண்ட வாரியம் இருந்தது. மேல்முறையீடானது குல நீதிமன்றத்திலிருந்து கன நீதிமன்றத்தில் மேற்கொள்ளப்பட்டது.

ஆ) இடைக்கால இந்தியாவில் நீதித்துறை

துக்ளக் ஆட்சிகாலத்தில் உரிமையியல் நடைமுறைச் சட்டங்கள் தொகுக்கப்பட்டதைக் காண முடிகிறது. இது ஃபைகா–இ–பெரோஸ்–ஷாகி என அழைக்கப்பட்டது. இச்சட்டம் பல்வேறு விவகாரங்களில் சட்டம் மற்றும் நடைமுறை விவரங்களைப் வழங்கியது. இது அரபு மொழியில் எழுதப்பட்டுப் பின்னர் பாரசீக மொழியில் மொழிபெயர்க்கப்பட்டது. இது ஔரங்கசீப் காலத்தில் 1670ஆம் ஆண்டு ஃபட்வா–இ–ஆலம்கிர் என்ற சட்டத் தொகுப்பின்படி மாற்றி அமைக்கப்பட்டது.

இ) நவீன இந்தியாவில் நீதித்துறை

இன்று நம் நாட்டில் உள்ள நீதித்துறை அமைப்பு மற்றும் சட்டங்கள் ஆங்கிலேய ஆட்சிக் காலத்தில் உருவாக்கப்பட்டவையாகும். ஆங்கில கிழக்கிந்திய கம்பெனியால் மதராஸ், பம்பாய், கல்கத்தா ஆகிய இடங்களில் அமைக்கப்பட்ட மேயர் நீதிமன்றங்களின் காலத்தில் 1727ஆம் ஆண்டுகளில் இந்த பொது சட்டத்தின் (1726ஆம் ஆண்டு சாசனச் சட்டத்தின் கீழ்) வரலாறு தொடங்குகிறது. ஒழுங்கு முறைச் சட்டம், 1773 உச்ச நீதிமன்றம் அமைப்பதற்கு வழிவகுத்தது. உச்ச நீதிமன்றம் முதன் முதலாக கல்கத்தாவில் உள்ள வில்லியம் கோட்டையில் நிறுவப்பட்டது. சர் எலிஜா இம்ஃபே என்பவர் அந்நீதிமன்றத்தின் தலைமை நீதிபதியாக நியமிக்கப்பட்டார். 1801 மற்றும் 1824ஆம் ஆண்டுகளில் மதராஸ் மற்றும் பம்பாய் ஆகிய இடங்களில் உச்சநீதிமன்றங்கள் நிறுவப்பட்டன. இம்மூன்று இடங்களிலும் 1862ஆம் ஆண்டு உயர்நீதிமன்றங்கள் மேற்படி இடங்களில் நிறுவப்படும் வரையில் உச்சநீதிமன்றங்களாக செயல்பட்டன.

சிவில் வழக்குகளை தீர்ப்பதற்காக ஊரக குடிமையியல் நீதிமன்றத்தையும் (Mofussil Diwani Adalat) குற்றவியல் வழக்குகளைத் தீர்ப்பதற்காக ஊரக குற்றவியல் நீதிமன்றத்தையும் (Mofussil Fauzdari Adalat) வாரன் ஹேஸ்டிங்ஸ் ஏற்படுத்தினார். மேற்கண்ட நீதிமன்றங்களின் மேல்முறையீட்டை விசாரிக்க சதர் திவானி அதாலத் (குடிமையியல் மேல் முறையீட்டு நீதிமன்றம்) சதர் நிசாமத் அதாலத் (குற்றவியல் மேல்முறையீட்டு நீதிமன்றம்) ஆகியவை இருந்தன. காரன்வாலிஸ் பிரபு உரிமையியல் மற்றும் குற்றவியல் நீதி முறையை மறுசீரமைத்தார். காரன்வாலிஸ் ஆட்சியில் மாவட்ட குற்றவியல் நீதிமன்றங்கள் நீக்கப்பட்டு, கல்கத்தா, டாக்கா, மூர்ஷிதாபாத் மற்றும் பாட்னா ஆகிய இடங்களில் மாகாண மேல்முறையீட்டு நீதிமன்றங்கள் அமைக்கப்பட்டன. வில்லியம் பெண்டிங் கால ஆட்சியில் மேற்கண்ட நான்கு மாகாண மேல்முறையீட்டு நீதிமன்றங்களும் நீக்கப்பட்டன.

> கல்கத்தா உயர் நீதிமன்றம் நாட்டின் மிகப்பழமையான உயர்நீதிமன்றமாகும். இது 1862ஆம் ஆண்டு நிறுவப்பட்டது. அதே சமயம் அலகாபாத் உயர் நீதிமன்றம் நாட்டின் மிகப் பெரிய நீதிமன்றமாகும்.

சதர் திவானி அதாலத் மற்றும் சதர் நிசாமத் அதாலத் ஆகியன அலகாபாத்தில் நிறுவப்பட்டன. மெக்காலே என்பவரால் அமைக்கப்பட்ட சட்ட ஆணையம் இந்திய சட்டங்களை நெறிமுறைப்படுத்தியது. இந்த ஆணையத்தின் அடிப்படையில் 1859ஆம் ஆண்டு உரிமையியல் நடைமுறைச் சட்டம், 1860ஆம் ஆண்டு இந்திய தண்டனைச் சட்டம், மற்றும் 1861ஆம் ஆண்டு குற்றவியல் நடைமுறைச்சட்டம் ஆகியவை உருவாக்கப்பட்டன. 1935ஆம் ஆண்டு இந்திய அரசுச் சட்டம் கூட்டாட்சி நீதிமன்றங்களை உருவாக்கியது. இது இறுதி மேல்முறையீட்டு நீதிமன்றம் அல்ல. சில நேர்வுகளில் மேல்முறையீடு இங்கிலாந்தில் உள்ள பிரிவி கவுன்சில் நீதிகுழுவிடம் கொண்டு செல்லப்பட்டது. 1949ஆம் ஆண்டு பிரிவி கவுன்சில் நீதி வரையறை ஒழிப்பு சட்டத்தின் மூலம் பிரிவி கவுன்சில் நீதிவரையறை நீக்கப்பட்டது. இந்திய உச்சநீதிமன்றம் 1950 ஜனவரி 28ஆம் நாள் தொடங்கப்பட்டது.

நீதித்துறை மற்றும் அரசியலமைப்புச் சட்டம்

இந்தியா, தனக்கென ஒரு அரசியலமைப்புச் சட்டத்தை உருவாக்கியுள்ளது. அரசியலமைப்புச் சட்டத்தின் உன்னதமான நோக்கங்கள்

VIII_Std_Civics_Unit 7.indd 260 12/3/2022 11:10:02 AM

மற்றும் குறிக்கோள்களில் அதனை உருவாக்கியவர்கள் நீதிக்கு உயரிய இடத்தை அளித்துள்ளனர். ஆங்கிலேயர் ஆட்சிக் காலத்தில் இந்தியர்களுக்கென தனிச் சட்டமோ, நீதிமன்றமோ இல்லை. சட்டம் மற்றும் நீதிமன்றங்கள் இரண்டும் காலனி ஆதிக்கத்திற்கு ஏற்றவாறு வடிவமைக்கப்பட்டிருந்தன. இந்திய அரசியல் நிர்ணய சபை உறுப்பினர்கள் நீதிமன்ற மறு ஆய்வுக்கான முழு அதிகாரத்துடன் நீதிமன்றங்கள் சுதந்திரமாக செயல்படுவதை உறுதி செய்யும் வகையில் அரசியலமைப்புச் சட்டத்தை உருவாக்க முனைந்தனர். அரசியலமைப்புச் சட்டப்பிரிவு 145ன்படி 1966ஆம் ஆண்டு நடைமுறை மற்றும் வழிமுறைகள் உச்சநீதிமன்ற விதிகள் ஒழுங்குபடுத்த ஏற்படுத்தப்பட்டன. இந்திய அரசியலமைப்புச் சட்டத்தின் IVவது அத்தியாயத்தின் கீழ் பகுதி V–(யூனியன்)ன்படி ஒன்றிய நீதித்துறை என்ற பெயரிலும், அத்தியாயம் VI–ன் கீழ் பகுதி VI–ன்படி (மாநிலம்) துணை நீதிமன்றங்கள் என்ற பெயரிலும் நிறுவ வழிவகை செய்கிறது. சட்டப்பிரிவுகள் 124 முதல் 147 வரையிலான அரசியலமைப்புச் சட்டப்பிரிவுகள் இந்திய உச்ச நீதிமன்றத்தின் அமைப்பு மற்றும் அதிகார வரம்பினை வகுத்துக் கூறுகிறது.

இந்தியாவில் நீதிமன்றங்களின் அமைப்பு

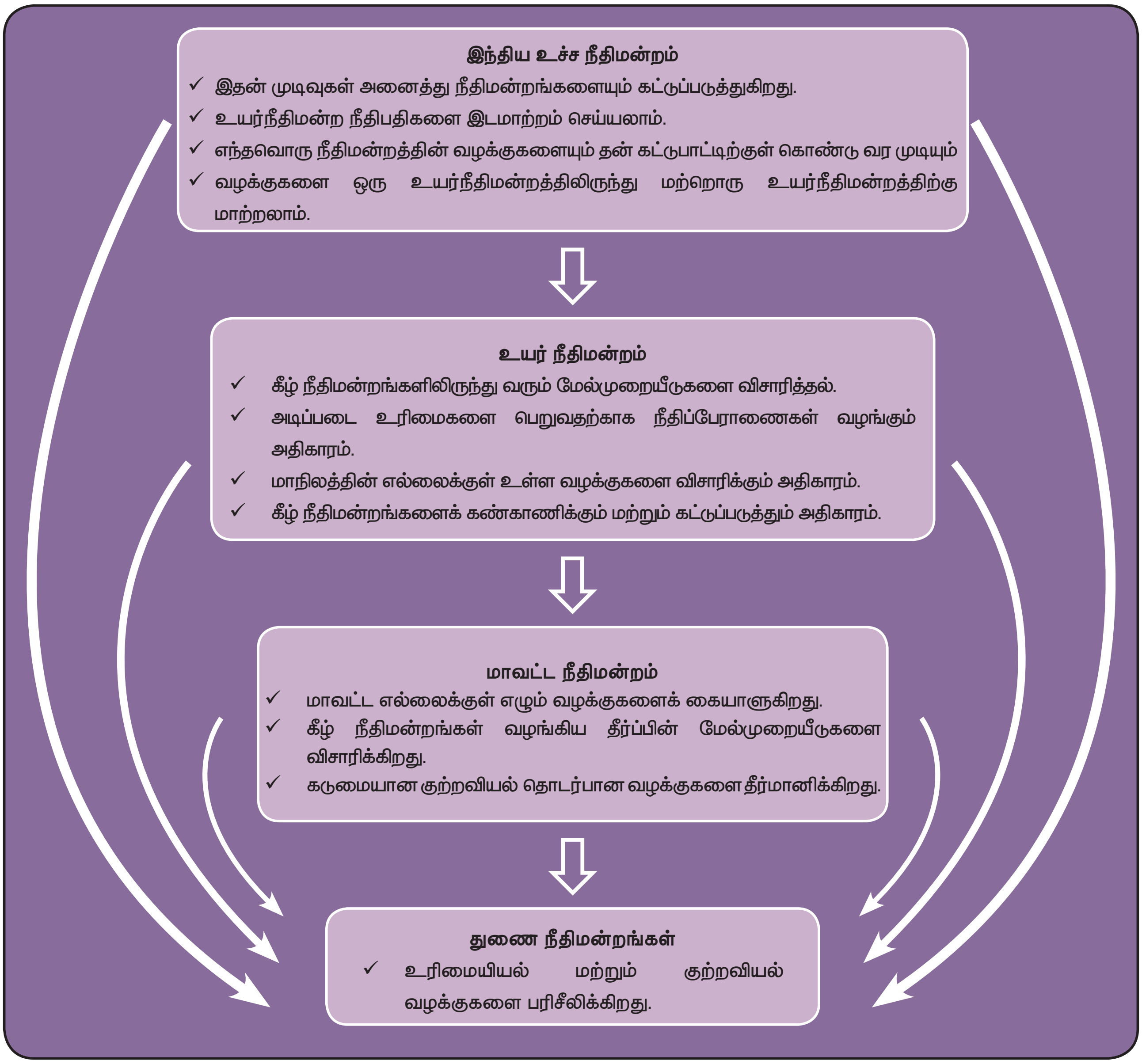

VIII_Std_Civics_Unit 7.indd 261 12/3/2022 11:10:03 AM



ஒரு சுதந்திரமான நீதித்துறை என்ற கருத்தை முன்மொழிந்த முதல் அரசியல் த த் து வ ஞ ா னி மாண்டெஸ்கியூ ஆவார். இவர் புகழ்பெற்ற பிரெஞ்சு தத்துவ ஞானி ஆவார். சட்டமன்றம், நிர்வாகம் மற்றும் நீதித்துறை ஆகிய மூன்று பிரிவுகளாக அரசாங்கம் செயல்பட வேண்டும் என்ற அதிகாரப்பகிர்வு கோட்பாட்டில் அவர் நம்பிக்கை கொண்டிருந்தார்.

மாவட்ட நீதிமன்றங்கள்: மாவட்ட அளவில் சிவில் வழக்குகளை விசாரிக்கும் நீதிமன்றங்கள் மாவட்ட நீதிமன்றங்கள் என்று அழைக்கப்படுகிறது.

அமர்வு நீதிமன்றங்கள்: குற்றவியல் வழக்குகளை விசாரிக்கும் நீதிமன்றங்கள் அமர்வு நீதிமன்றங்கள் என்று அழைக்கப்படுகிறது.

பஞ்சாயத்து நீதிமன்றங்கள்: கிராம அளவில் உரிமையியல் மற்றும் குற்றவியல் வழக்குகளைப் பஞ்சாயத்து நீதிமன்றங்கள் கையாளுகிறது.

வருவாய் நீதிமன்றங்கள்: வருவாய் நீதிமன்றங்கள் நில ஆவணங்கள் தொடர்பான வழக்குகளை விசாரிக்கிறது. இது நில வருவாயை நிர்ணயம் செய்து நில உரிமையாளர்களிடமிருந்து அதனை வசூலிக்கிறது.

லோக் அதாலத் (மக்கள் நீதிமன்றங்கள்): விரைவான நீதியை வழங்க லோக் அதாலத் அமைக்கப்பட்டது. இது மக்கள் முன்னிலையில் மக்கள் பேசும் மொழியிலேயே பிரச்சனையை விசாரித்துத் தீர்வு காண்கிறது. ஒரு ஓய்வு பெற்ற நீதிபதி, ஒரு சமூக பணியாளர், ஒரு வழக்கறிஞர் ஆகிய மூன்று நபர்கள் கொண்ட அமர்வு இதற்குத் தலைமை வகிக்கும். வழக்குரைஞர்கள் இல்லாமல் வழக்குகள் முன்வைக்கப்படுகின்றன. இந்த வழக்குகள் பரஸ்பர ஒப்புதல் மூலம் தீர்த்து வைக்கப்படுகின்றன. முதல் லோக் அதாலத் 1982ஆம் ஆண்டு குஜராத் மாநிலத்தில் உள்ள ஜூனாகத்தில் நடைபெற்றது.

விரைவு நீதிமன்றங்கள்: இந்நீதிமன்றங்கள் 2000ஆம் ஆண்டில் நீண்ட காலமாக நிலுவையில் உள்ள வழக்குகள் மற்றும் கீழ் நீதிமன்ற வழக்குகளை முடிவுக்குக் கொண்டு வரும் நோக்கத்திற்காக தோற்றுவிக்கப்பட்டன.

தொலைதூர சட்ட முன்னெடுப்பு (Tele Law Initiative): கிராமப்புற மக்களுக்காக சட்ட உதவி மற்றும் சேவைகள் வழங்குவதற்காக சட்டம் மற்றும் நீதி அமைச்சகம், மின்னணு மற்றும் தகவல் தொழில்நுட்ப அமைச்சகத்தின் கூட்டு முயற்சியுடன் இது தொடங்கப்பட்டது. தொழில்நுட்ப இயங்கு தளமான தொலைதூர சட்ட இணைய வழியின் பொதுவான சேவை மையத்தில் (CSC) காணொளிக் கலந்துரையாடல் மூலம் வழக்குரைஞர்களிடமிருந்து மக்கள் சட்ட ஆலோசனைகளைப் பெறலாம்.

குடும்ப நீதிமன்றங்கள்: குடும்பம் தொடர்பான சட்ட விவகாரங்களைக் குடும்ப நீதிமன்றம் கையாளுகிறது. இவைகள் உரிமையியல் நீதிமன்றங்கள் ஆகும். குழந்தையின் பாதுகாப்பு, மணமுறிவு, தத்தெடுப்பு, சிறார் பிரச்சனைகள் ஆகிய குடும்பம் தொடர்பான பல்வேறு உரிமைகள், கோரிக்கைகளுக்காக இந்நீதிமன்றங்கள் பயன்படுகின்றன.

நடமாடும் நீதிமன்றங்கள் (Mobile Court): நடமாடும் நீதிமன்றங்கள் கிராமப்புற மக்களுக்கு இடர்களைத் தீர்க்கும். இது கிராமப்புற மக்களிடையே நீதி அமைப்பு பற்றி அதிக விழிப்புணர்வை உருவாக்கி, அவர்களது செலவைக் குறைத்து, அவர்களின் வாழிடங்களிலேயே நீதியை வழங்க வகை செய்கிறது.

இ–நீதிமன்றங்கள் (E–Courts): இ–நீதிமன்றங்கள் திட்டம் 2005ஆம் ஆண்டு தொடங்கப்பட்டது. இத்திட்டத்தின்படி அனைத்து நீதிமன்றங்களும் கணினி மயமாக்கப்படும். நீதித்துறை சேவை மையம் இ–நீதிமன்றத்தின் ஒரு பகுதியாகும். பொதுமக்கள் மற்றும் வழக்குரைஞர்கள் நேரடியாக வழக்கு நிலை மற்றும் அடுத்த விசாரணை தேதிகளைக் கட்டணமின்றி கேட்டறியலாம்.

VIII_Std_Civics_Unit 7.indd 262 12/3/2022 11:10:03 AM

நீதித்துறையின் பங்கு

நீதித்துறையின் செயல்பாட்டினைப் பின்வருமாறு வகைப்படுத்தலாம்.

தகராறுகளைத் தீர்வு செய்தல்	பின்வருவனவற்றிக்கு இடையே பிரச்சனைகளுக்குத் தீர்வு காண்பதற்கான ஒரு இயக்கமுறையை நீதிமன்ற அமைப்பு வழங்குகிறது. • குடிமக்கள் • குடிமக்கள் மற்றும் அரசாங்கம் • இரண்டு மாநில அரசாங்கங்கள் • மத்திய, மாநில அரசாங்கங்கள்
நீதிமன்ற மறு ஆய்வு அதிகாரம்	நாடாளுமன்றத்தால் இயற்றப்பட்ட சட்டம் அரசியலமைப்புச் சட்டத்தின் அடிப்படை அமைப்பினை மீறுகிறது என நீதித்துறை நம்பும் பட்சத்தில் அச்சட்டத்தினை அரசியலமைப்புச் சட்டத்திற்கு முரணானது என அறிவிக்கும் அதிகாரம் நீதித்துறைக்கு உள்ளது.
சட்டத்தை நிலைநிறுத்துதல் மற்றும் அடிப்படை உரிமைகளைச் செயல்படுத்துதல்	ஒவ்வொரு இந்தியக் குடிமகனும் தனக்கு அடிப்படை உரிமைகள் மறுக்கப்பட்டதாக நம்பும்பட்சத்தில் அவர் உச்சநீதிமன்றத்தையோ அல்லது உயர் நீதிமன்றத்தையோ அணுகலாம்.

தேசிய சட்ட சேவைகள் அதிகாரம் (NALSA): இது 1987ஆம் ஆண்டு சட்ட சேவைகள் அதிகார சட்டத்தின் கீழ் அமைக்கப்பட்டுள்ளது. இது சமுதாயத்தின் நலிந்த பிரிவினருக்கு இலவச சட்ட உதவிகள் வழங்குவதோடு பிரச்சனைகளுக்கு இணக்கமான தீர்வு காண லோக் அதாலத்தை ஏற்பாடு செய்கிறது.

இந்திய உச்சநீதிமன்றம்

இந்திய உச்சநீதிமன்றம், புதுடெல்லி

இது இந்தியாவின் மிக உயர்ந்த நீதிமன்றம் ஆகும். இது புதுடெல்லியில் அமைந்துள்ளது. இந்திய அரசியலமைப்பின் படி உச்சநீதிமன்றம் அரசியலமைப்புச் சட்டத்தின் பாதுகாவலராகவும், இறுதி மேல்முறையீட்டு நீதிமன்றமாகவும் உள்ளது.

உச்சநீதிமன்றத்தின் அதிகார வரம்பு

அ. முதன்மை அதிகார வரம்பு: உச்சநீதிமன்றத்தில்மட்டுமே முதன்முறையாக தொடுக்கப்படும் வழக்குகளை விசாரிக்கும் அதிகாரம் பெற்றுள்ளது. இது மத்திய அரசிற்கும் ஒரு மாநிலம் அல்லது அதற்கு மேற்பட்ட மாநிலங்களுக்கு இடையிலான பிரச்சினைகள், இரண்டு அல்லது அதற்கு மேற்பட்ட மாநிலங்களுக்கிடையிலான பிரச்சினைகள் ஆகியன முதன்மை அதிகார வரம்புக்குள் அடங்கும்.

ஆ. மேல் முறையீட்டு அதிகார வரம்பு: உயர்நீதிமன்றம் வழங்கிய தீர்ப்பை எதிர்த்து மேல்முறையீடு செய்யப்படும்

VIII_Std_Civics_Unit 7.indd 263 12/3/2022 11:10:03 AM

வழக்குகளை விசாரிக்கும் அதிகாரத்தை உச்சநீதிமன்றம் பெற்றுள்ளது. அவ்வாறான வழக்குகள் மேல்முறையீட்டுக்கு தகுதியுள்ளது என உயர்நீதிமன்றத்தால் சான்றிதழ் வழங்கப்பட்டிருக்க வேண்டும்.

இ. ஆலோசனை அதிகார வரம்பு: குடியரசுத் தலைவரால் குறிப்பிடப்படும் பொது முக்கியத்துவம் வாய்ந்த கேள்வி குறித்து ஆலோசனை வழங்கும் அதிகாரத்தினை உச்சநீதிமன்றம் பெற்றுள்ளது.

ஈ. நீதிப் பேராணை அதிகார வரம்பு: இந்திய அரசியலமைப்புச் சட்டத்தின் சட்டப்பிரிவு 32ன் படி உச்சநீதிமன்றமும் சட்டப்பிரிவு 226ன் படி உயர்நீதிமன்றமும் நீதிப் பேராணைகளை வழங்குகின்றன.

உ. ஆவண நீதிமன்றம்: இது நீதிமன்ற நடவடிக்கைகளின் பதிவுகளைப் பராமரிக்கிறது மற்றும் அதன் முடிவுகள் கீழ்நீதிமன்றங்களைக் கட்டுப்படுத்தும்.

ஊ. சிறப்பு அதிகாரங்கள்: இது கீழ் நீதிமன்றங்களின் செயல்பாட்டைக் கண்காணிக்கிறது.

உயர்நீதிமன்றம்

சென்னை உயர்நீதிமன்றம்

உயர்நீதிமன்றம் மாநிலங்களின் மிக உயர்ந்த நீதிமன்றமாகும். இந்தியாவின் ஒவ்வொரு மாநிலத்திலும் ஒரு உயர்நீதிமன்றம் உள்ளது. எனினும், இரண்டு அல்லது மூன்று மாநிலங்கள் தங்களுக்கென ஒரு பொதுவான நீதிமன்றத்தைக் கொண்டிருக்கலாம். எடுத்துக்காட்டாக பஞ்சாப், ஹரியானா, மற்றும் சண்டிகர் ஆகியவை ஒரு பொதுவான நீதிமன்றத்தைக் கொண்டுள்ளன. உயர்நீதிமன்றம் தனக்கென முதன்மை அதிகார வரம்பு, மேல் முறையீட்டு அதிகார வரம்பு, நீதிப் பேராணை வழங்கும் அதிகார வரம்பு ஆகிய அதிகார வரம்புகளைப் பெற்றுள்ளது. மாநிலங்களில் உயர்நீதிமன்றத்தின் கீழ் துணை நீதிமன்றங்கள் உள்ளன.

நீதித்துறையின் சுதந்திரமான மற்றும் நடுநிலைமை செயல்பாடு

அரசியலமைப்புச் சட்டத்தை உருவாக்கியவர்கள் இந்தியாவில் நீதித்துறையினைச் சுதந்திரம் மற்றும் நடுநிலைத்தன்மையுடன் நிறுவினர். நியாயமான நீதி கிடைப்பதற்கு நீதித்துறையின் சுதந்திரம் முக்கியமானதாகும். இந்தியா போன்ற மக்களாட்சி நாடுகளில் நீதித்துறை குடிமக்களின் உரிமைகளின் பாதுகாவலனாக உள்ளது. நம் நாட்டிற்கு எவ்வகையான நீதித்துறை வேண்டும் என்பதை கருத்தில் கொண்டு அரசியலமைப்பை உருவாக்கியவர்கள் நீதித்துறையை வடிவமைத்துள்ளனர். அரசியல் நிர்ணய சபை உறுப்பினர்களின் இவ்வெண்ணத்திற்கு டாக்டர் பி.ஆர். அம்பேத்கர் பின்வருமாறு பதில் அளித்தார்.

"நமது நீதித்துறை நிர்வாகத்திடமிருந்து சுதந்திரமாக இருக்க வேண்டும் அதே வேளையில் திறமை மிக்கதாகவும் இருக்கவேண்டும் என்பதில் அவையில் மாறுபட்ட கருத்து இருக்கமுடியாது. மேலும் வினா என்னவென்றால் எப்படி இந்த இரண்டு நோக்கங்களையும் பாதுகாக்கமுடியும் என்பதே ஆகும்".

ஒரு திறன்மிக்க நீதித்துறை சுதந்திரமாகவும், பொறுப்புணர்வுடனும் இருக்க வேண்டும். நீதித்துறையின் சுதந்திரம் என்பது நீதிபதிகள் பாரபட்சமற்ற முறையில் சுதந்திரமாக செயல்படுவதைக் குறிப்பதாகும். எடுத்துக்காட்டாக எந்தவொரு வெளிப்புற செல்வாக்கிலிருந்தும் விடுபடுதல்.

VIII_Std_Civics_Unit 7.indd 264 12/3/2022 11:10:04 AM

வழக்குச் செயல்முறை

இந்தியாவில் இரண்டு வகையான சட்டப்பிரிவுகள் உள்ளன. அவை உரிமையியல் சட்டங்கள் மற்றும் குற்றவியல் சட்டங்கள் ஆகும்.

உரிமையியல் சட்டங்கள்	குற்றவியல் சட்டங்கள்
• இது பணம், சொத்து மற்றும் சமூகம் தொடர்பான பிரச்சனைகளைக் கையாளுகிறது. எ.கா. நிலம் தொடர்பான பிரச்சினைகள், வாடகை, திருமணம் தொடர்பான பிரச்சனைகள். • உரிமையியல் நீதிமன்றத்தில் பாதிக்கப்பட்டவர்களால் ஒரு புகார் தாக்கல் செய்யப்பட வேண்டும். • மனுதாரரின் கோரிக்கையின்படி பணம் செலுத்தும்படியான தண்டனைகள் வழங்கப்படுகிறது.	• குற்றம் என சட்டம் வரையறுக்கும் நடத்தைகள் அல்லது செயல்களை இது விசாரிக்கிறது. எ.கா. திருட்டு, கொலை, பெண்களைத் துன்புறுத்துதல் ஆகியன. • இது வழக்கமாக காவல்துறை விசாரணையுடன் முதல் தகவல் அறிக்கை (FIR) பதிவு செய்வதன் மூலம் தொடங்குகிறது. அதன் பிறகு நீதிமன்றத்தில் வழக்கு பதிவு செய்யப்படுகிறது. • குற்றவாளி என நிரூபிக்கப்பட்டால் தண்டனை வழங்கப்பட்டு குற்றம் சாட்டப்பட்டவர் சிறைக்கு அனுப்பப்படுவார்.

பொது நலவழக்கு (Public Interest Litigation): இது பொதுநலனைப் பாதுகாப்பதற்காக நீதிமன்றத்தில் தாக்கல் செய்யும் வழக்கு ஆகும். உச்சநீதிமன்றம் இந்த முறையை அறிமுகப்படுத்தியது. இது ஒரு நபர் தனது வழக்கு தொடர்பான நீதிமன்றத்தை அணுக அனுமதிக்கிறது. அடிப்படை மனித உரிமைகள் மீறல், சமய உரிமைகள், மாசுபாடு, மற்றும் சாலைப் பாதுகாப்பு ஆகியவற்றிற்காக பொது நல வழக்கை எவரும் தாக்கல் செய்யலாம். இது தொடர்பான எழுதப்பட்ட புகார் கடிதம் மூலம் இவ்வழக்கினைப் பதியலாம். பொது நல வழக்கு என்ற கருத்து இந்திய நீதித்துறைக்குப் புதிதான ஒன்றாகும்.

முடிவுரை

மக்களாட்சி நாட்டில் நீதித்துறை முக்கியப் பங்கு வகிக்கிறது. நீதித்துறை அரசியலமைப்புச் சட்டத்தின் பொறுப்பாளராகவும், அடிப்படை உரிமைகளின் பாதுகாவலராகவும் உள்ளது. உலகின் அதிக எண்ணிக்கையிலான பிரதிநிதிகளைக் கொண்ட மக்களாட்சி நாடான இந்தியா, நன்கு கட்டமைக்கப்பட்ட மற்றும் சுதந்திரமான நீதித்துறை அமைப்பைக் கொண்டுள்ளது.

மீள் பார்வை

- சதர் திவானி அதாலத் மற்றும் சதர் நிசாமத் அதாலத் ஆகியன அலகாபாத்தில் நிறுவப்பட்டன.
- விரைவான நீதி வழங்குவதற்காக மக்கள் நீதிமன்றம் (லோக் அதாலத்) அமைக்கப்பட்டுள்ளது.
- இ–நீதிமன்றங்கள் திட்டம் 2005ஆம் ஆண்டு நிறுவப்பட்டது.
- இந்திய அரசியலமைப்புச் சட்டத்தின்படி உச்சநீதிமன்றம் அரசியலமைப்புச் சட்டத்தின் பாதுகாவலனாக விளங்குகிறது.

கலைச்சொற்கள்		
வழக்கு	Litigation	The process of taking legal action
நீதிப்பேராணை	Writ	A form of written command in the name of legal authority
மக்கள் நீதிமன்றம்	Lok adalat	Peoples court
நீதிபுனராய்வு	Judicial review	Receiving the laws by the court

VIII_Std_Civics_Unit 7.indd 265 12/3/2022 11:10:04 AM

மதிப்பீடு

7PX3G

I சரியான விடையைத் தேர்ந்தெடுக்கவும்

1. இந்தியாவின் மிக உயர்ந்த மற்றும் இறுதியான நீதித்துறை ________.

   அ) குடியரசுத் தலைவர்

   ஆ) நாடாளுமன்றம்

   இ) உச்ச நீதிமன்றம்

   ஈ) பிரதம அமைச்சர்

2. ________ க்கு இடையே பிரச்சனைகளுக்குத் தீர்வு காண்பதற்கான ஒரு செயல்முறையை நீதிமன்ற அமைப்பு வழங்குகிறது.

   அ) குடிமக்கள்

   ஆ) குடிமக்கள் மற்றும் அரசாங்கம்

   இ) இரண்டு மாநில அரசாங்கங்கள்

   ஈ) மேற்கண்ட அனைத்தும்

3. கீழ்க்கண்ட எந்த அதிகார வரம்பின் மூலம் இரு மாநிலங்களுக்கிடையேயான பிரச்சனைகளை உச்சநீதிமன்றம் தீர்க்க வழிவகை செய்கிறது?

   அ) முதன்மை அதிகார வரம்பு

   ஆ) மேல்முறையீட்டு அதிகார வரம்பு

   இ) ஆலோசனை அதிகார வரம்பு

   ஈ) மேற்கண்ட எதுவுமில்லை

4. பின்வரும் எந்த மாநிலம் / யூனியன் பிரதேசம் ஒரு பொதுவான உயர்நீதிமன்றத்தைக் கொண்டுள்ளது?

   அ) பஞ்சாப் மற்றும் ஜம்மு காஷ்மீர்

   ஆ) அஸ்ஸாம் மற்றும் வங்காளம்

   இ) பஞ்சாப், ஹரியானா மற்றும் சண்டிகர்

   ஈ) உத்தரபிரதேசம் மற்றும் பீகார்

5. பொதுநல வழக்கு முறை இந்தியாவில் ________ஆல் அறிமுகப்படுத்தப்பட்டுள்ளது.

   அ) உச்சநீதிமன்றம்

   ஆ) நாடாளுமன்றம்

   இ) அரசியல் கட்சிகள்

   ஈ) அரசியலமைப்பு சட்டதிருத்தங்கள்

6. இந்தியாவில் உச்ச நிலையில் உள்ள நீதிமன்றங்கள் எத்தனை?

   அ) ஒன்று ஆ) இரண்டு

   இ) மூன்று ஈ) நான்கு

7. உச்சநீதிமன்றம் அமைந்துள்ள இடம்

   அ) சண்டிகர் ஆ) பம்பாய்

   இ) கல்கத்தா ஈ) புதுதில்லி

8. FIR என்பது

   அ) முதல் தகவல் அறிக்கை

   ஆ) முதல் தகவல் முடிவு

   இ) முதல் நிகழ்வு அறிக்கை

   ஈ) மேற்கூறிய எவையுமில்லை

9. குற்றவியல் வழக்குகளை விசாரிக்கும் நீதிமன்றம் ________ என அழைக்கப்படுகின்றன.

   அ) மாவட்ட நீதிமன்றங்கள்

   ஆ) அமர்வு நீதிமன்றம்

   இ) குடும்ப நீதிமன்றங்கள்

   ஈ) வருவாய் நீதிமன்றங்கள்

II கோடிட்ட இடங்களை நிரப்புக

1. ________ நீதிமன்றம் இந்தியாவின் பழமையான நீதிமன்றம் ஆகும்.
2. அரசியலமைப்புச் சட்டத்தை உருவாக்கியவர்கள் ________ மற்றும் ________ உடன் இந்திய நீதித்துறையை நிறுவினர்.
3. புகழ்பெற்ற பிரெஞ்சு தத்துவஞானியான ________ "ஒரு சுதந்திரமான நீதித்துறை" என்ற கருத்தை முன்மொழிந்தார்.
4. ________ பணம், சொத்து, சமூகம் தொடர்பான பிரச்சனைகளைக் கையாளுகிறது.
5. பழங்காலத்தில் பெரும்பாலான அரசர்களின் நீதிமன்றங்கள் ________ ன்படி நீதியை வழங்கின.

VIII_Std_Civics_Unit 7.indd 266 12/3/2022 11:10:04 AM

III பொருத்துக

1	உச்ச நீதிமன்றம்	-	சமூக கடமைகள்
2	உயர் நீதிமன்றம்	-	விரைவான நீதி
3	லோக் அதாலத்	-	இறுதி மேல் முறையீட்டு நீதிமன்றம்
4	சர் எலிஜா இம்ஃபே	-	மாநிலத்தின் உயர்ந்த நீதிமன்றம்
5	ஸ்மிருதி	-	முதல் தலைமை நீதிபதி

IV சரியா / தவறா எனக் குறிப்பிடுக

1. 1951ஆம் ஆண்டு ஜனவரி 28ஆம் நாள் இந்திய உச்சநீதிமன்றம் தொடங்கப்பட்டது.
2. துக்ளக் ஆட்சிக்காலத்தில் சட்ட நடைமுறைகள் அரபுமொழியில் எழுதப்பட்டன.
3. 1773ஆம் ஆண்டு ஒழுங்கு முறைச்சட்டம் உச்சநீதிமன்றம் அமைப்பதற்கு வழிவகுத்தது.
4. சதர் திவானி அதாலத் ஒரு குற்றவியல் நீதிமன்றமாகும்.
5. இந்தியாவில் மிகப்பெரிய நீதிமன்றம் அலகாபாத் நீதிமன்றம் ஆகும்.
6. இந்திய அரசியலமைப்புச் சட்டம் அனைத்துக் குடிமக்களுக்கான நீதியைப் பாதுகாக்கிறது.

V சரியான கூற்றைத் தேர்ந்தெடு

1. பின்வரும் கூற்றை ஆராய்க.

   i) மெக்காலே பிரபுவால் ஒரு சட்ட ஆணையம் அமைக்கப்பட்டது.

   ii) இது இந்தியச் சட்டங்களை நெறிமுறைப்படுத்தியது.

   மேலே கொடுக்கப்பட்ட எந்த கூற்று/ கூற்றுகள் சரியானவை

   அ) i மட்டும் ஆ) ii மட்டும்

   இ) i மற்றும் ii ஈ) இரண்டும் இல்லை

2. பின்வரும் கூற்றை ஆராய்க

   i) இந்திய தண்டனைச் சட்டம் 1860இல் உருவாக்கப்பட்டது.

   ii) கல்கத்தா உயர்நீதிமன்றம் 1862இல் நிறுவப்பட்டது.

   iii) 1935ஆம் ஆண்டு இந்திய அரசுச் சட்டம் கூட்டாட்சி நீதிமன்றத்தை உருவாக்கியது.

   மேலே கொடுக்கப்பட்ட எந்த கூற்று / கூற்றுகள் சரியானவை

   அ) i மட்டும் ஆ) ii மற்றும் iii மட்டும்

   இ) i, iii மட்டும் ஈ) அனைத்தும்

3. இந்திய உச்சநீதிமன்றம் பற்றிய பின்வரும் எந்த கூற்றுச் சரியானது அல்ல.

   i) இந்தியாவின் உச்சநீதிமன்றம் நாட்டின் மிக உயர்ந்த நீதிமன்றம் ஆகும்.

   ii) இந்திய அரசியலமைப்புச் சட்டத்தின் IVவது அத்தியாயத்தின் கீழ் பகுதி V–இன்படி நிறுவப்பட்டது.

   iii) ஒரு உயர்நீதிமன்றத்திலிருந்து மற்றொரு நீதிமன்றத்திற்கு வழக்குகளை உச்சநீதிமன்றத்தால் மாற்ற முடியாது.

   iv) இதன் முடிவுகள் அனைத்து நீதிமன்றங்களையும் கட்டுப்படுத்துகிறது.

   அ) i ஆ) ii இ) iii ஈ) iv

4. **கூற்று:** உச்சநீதிமன்றம் ஒரு ஆவண நீதிமன்றமாகும்.

   காரணம்: இது நீதிமன்ற நடவடிக்கைகளின் பதிவுகளைப் பராமரிக்கிறது மற்றும் அதன் முடிவுகள் கீழ் நீதிமன்றங்களை கட்டுப்படுத்தும்.

   அ) கூற்று சரி, காரணம் தவறு

   ஆ) கூற்று காரணம் இரண்டும் தவறு

   இ) கூற்று சரி, காரணம் கூற்றுக்கான சரியான விளக்கமாகும்.

   ஈ) கூற்று சரி, காரணம் கூற்றுக்கான சரியான விளக்கமல்ல

5. ஆம் / இல்லை எனக் கூறுக.

அ) ஒவ்வொரு இந்தியக் குடிமகனும் உச்சநீதிமன்றத்தை அணுகலாம்.

ஆ) பணக்காரர் மற்றும் சக்தி படைத்த மக்கள் நீதித்துறை அமைப்பை கட்டுப்படுத்துகின்றனர்.

இ) ஒவ்வொரு இந்தியக் குடிமகனும் நீதிமன்றங்களின் மூலம் நீதியைப் பெற உரிமை உடையவராவர்.

ஈ) அரசியல்வாதிகள் நீதிபதிகளைக் கட்டுப்படுத்த முடியாது.

VI பின்வரும் வினாக்களுக்கு ஓரிரு வாக்கியங்களில் விடையளி

1. நீதித்துறை அமைப்பு நமக்கு ஏன் தேவைப்படுகிறது?
2. இந்திய நீதிமன்றங்களின் பல்வேறு படிநிலைகள் யாவை?
3. சட்டம், நீதித்துறை – வேறுபடுத்துக.
4. மக்கள் நீதிமன்றம் பற்றி குறிப்பு எழுதுக.
5. நடமாடும் நீதிமன்றங்களின் நன்மைகள் யாவை?

VII விரிவான விடையளி

1. நீதித்துறையின் பங்கு பற்றி எழுதுக.
2. உரிமையியல் சட்டம், குற்றவியல் சட்டம் – வேறுபடுத்துக.
3. உச்ச நீதிமன்றத்தின் அதிகார வரம்புகளை விவரி.

VIII செயல்திட்டம் மற்றும் செயல்பாடு

1. விவாதி: ஒரு சுதந்திரமான நீதித்துறை என்பது அவசியமா? இரண்டு காரணங்களைப் பட்டியலிடுக.
2. மாதிரி நீதிமன்ற அறை அமர்வுக்காக உங்கள் வகுப்பறையை ஒழுங்கமைக்கவும் (ஆசிரியரின் உதவியுடன் ஒரு வழக்கை எடுத்து விவாதிக்கலாம்).

மேற்கோள் நூல்கள்

1. Durga Das Basu - *Introduction to the Constitution of India,* Wardhe and Company, Agra, 2004.
2. M. V. Pylee - *An Introduction to the Constitution of India,* Vikas Publishing House, Bombay, 2007.
3. Subash Kashyap - *Our Constitution,* National Book Trust, New Delhi, 2013.
4. J.C. Johari - *Indian Polity,* Lotus Press, New Delhi, 1998.

இணையதள வளங்கள்

1. https://sci.gov.in
2. www.hcmadras.tn.nic.in

VIII_Std_Civics_Unit 7.indd 268 12/3/2022 11:10:04 AM

பொருளியல்

அலகு – 1

பணம், சேமிப்பு மற்றும் முதலீடுகள்

> "கற்றல் படைப்பாற்றலை ஏற்படுத்தும், படைப்பாற்றல் சிந்தனையைத் தூண்டும், சிந்தனை அறிவாற்றலை அளிக்கும், அறிவாற்றல் உங்களை சிறந்தவராக்கும்".
>
> –ஏ.பி.ஜெ. அப்துல்கலாம்

கற்றலின் நோக்கங்கள்

- பணத்தின் பரிணாம வளர்ச்சி பற்றி தெரிந்து கொள்ளுதல்
- மதிப்பு, இயல்பு, செயல்பாடு மற்றும் பணத்தின் முக்கியத்துவத்தை பற்றி அறிந்து கொள்ளுதல்
- சேமிப்பு மற்றும் முதலீடு பற்றி புரிந்து கொள்ளுதல்
- கருப்பு பணம் பற்றி தெரிந்துக் கொள்ளுதல்

அறிமுகம்

பணம் ஒரு கண்கவர் பொருள் மட்டுமல்லாமல், ஆர்வத்தை தூண்டக்கூடியதாகும். இது மாணவர்களுக்கு பிடித்தமான முக்கிய கூறு. பணத்தின் வரலாறு மற்றும் பணத்தை பல்வேறு காலங்களில் எவ்வாறு வெவ்வேறு வகைகளாகப் பயன்படுத்தப்பட்ட முறை ஒரு சுவாரஸ்யமான கதை. நவீன வடிவங்களில் பணம், வங்கி அமைப்புடன் இணைக்கப்பட்டுள்ளது.

பணம் ஒரு அடிப்படை கண்டுபிடிப்பு. அன்றாட பரிவர்த்தனைகளுக்கு இது எளிதானது. மதிப்பு மிக்க பண்டங்கள் மற்றும் பணிகளை மதிப்பிடவும், செல்வத்தை சேமித்து வைத்து எதிர்கால வாணிபத்திற்கும் வழிவகுக்கிறது. "பொது ஏற்புத் தன்மையை அடிப்படையாகக் கொண்டு பண்டங்கள் வாங்கும்போது அதற்கான செலுத்துத் தொகையாக அனைவராலும் ஏற்றுக் கொள்ளக் கூடிய எதனையும் பணம் என்று கூறலாம்" – இராபர்ட்சன்.

பணத்தின் பரிணாம வளர்ச்சி

பணம் என்ற வார்த்தை ரோம் வார்த்தையான "மொனேட்டா ஜுனோ" விலிருந்து பெறப்பட்டது. இது ரோமின் பெண் கடவுள் மற்றும் ரோம் பேரரசின் குடியரசு பணமாகும். இந்தியாவின் "ரூபாய்" என்ற சொல் சமஸ்கிருத வார்த்தையிலிருந்து பெறப்பட்டது. 'ரூபியா' என்றால் வெள்ளி நாணயம் என்று பொருள். இன்று நாம் காகித பணமாகவும், நாணயங்களாகவும் பயன்படுத்துகிறோம். ஆனால் இந்த பரிணாம நிலைகள் ஒரே இரவில் நடைபெறவில்லை. இந்த நிலைகளை அடைய ஆயிரக்கணக்கான ஆண்டுகள் ஆனது.

8th_Economics_TM_Unit 1.indd 270 12/3/2022 11:10:35 AM

பணத்தின் பரிணாமம் பல நிலைகளை கடந்துள்ளது. ஆரம்ப மற்றும் பழங்கால நிலைதான் பண்டமாற்று முறையாகும்.

பண்டமாற்று முறை

பண்டைய காலத்தில் பணம் பயன்படுத்தபடாமல் பண்டத்திற்கு பண்டம் பரிமாற்றம் நடைபெற்றதை பண்டமாற்று முறை என்றனர். பண்டமாற்று முறை ஒரு பழைய பரிமாற்ற முறையாகும். பணம் கண்டுபிடிப்பதற்கு முன்பாக இந்த முறை பல நூற்றாண்டுகளாகப் பயன்படுத்தப்பட்டது. மக்கள் பண்டங்கள் மற்றும் பணிகளை மற்றொரு பண்டங்கள் மற்றும் பணிகளுக்கு பரிமாற்றம் செய்திருக்கிறார்கள். பண்டமாற்று பொருட்களின் மதிப்புப் பற்றி மற்ற குழுக்களுடன் விவாதம் செய்தனர். பண்டமாற்று செயலில் பணத்தின் ஈடுபாடு இல்லாமல் இருப்பது ஒரு நன்மையாகும்.

பண்டமாற்றுமுறையில்சிலகுறைபாடுகளாவன

1. இருமுகத் தேவை பொருத்தமின்மை
2. பொதுவான மதிப்பின் அளவுகோல்
3. பொருட்களின் பகுபடாமை
4. செல்வத்தை சேமிப்பதற்கான சிரமங்கள்

பணத்தின் பரிணாம வளர்ச்சியின் பல நிலைகள் பின்வருமாறு

பண்டப் பணம், உலோக பணம், காகித பணம், கடன் பணம், நிகர் பணம் போன்றவைகள் சமீப கால பணத்தின் வடிவங்கள் ஆகும். காலம், இடம் மற்றும் சூழ்நிலைகளுக்கு ஏற்றவாறு பணம் பல நிலைகளில் உருவானது.

பண்டப் பணம்

பொதுவாக நாகரீகத்தின் தொடக்க காலத்தில் அனைவராலும் ஏற்கக்கூடிய எந்த பண்டம் பொதுவாக தேவைப்படுகிறதோ அந்தப் பண்டம் தேர்ந்தெடுக்கப்பட்டு, அவற்றை பணமாக பயன்படுத்தினர். உரோமம், தோல்,

பண்டைய காலத்தில் .....
பண்டமாற்றுமுறை :
பண்டங்கள் மற்றும் சேவைகளைப் பெற பண்டங்களுக்கு பண்டங்களை மாற்றி வர்த்தகம் நடைபெற்றது

பண்டமாற்று முறை

8th_Economics_TM_Unit 1.indd 271 12/3/2022 11:10:35 AM

பணத்தின் பரிணாம வளர்ச்சி

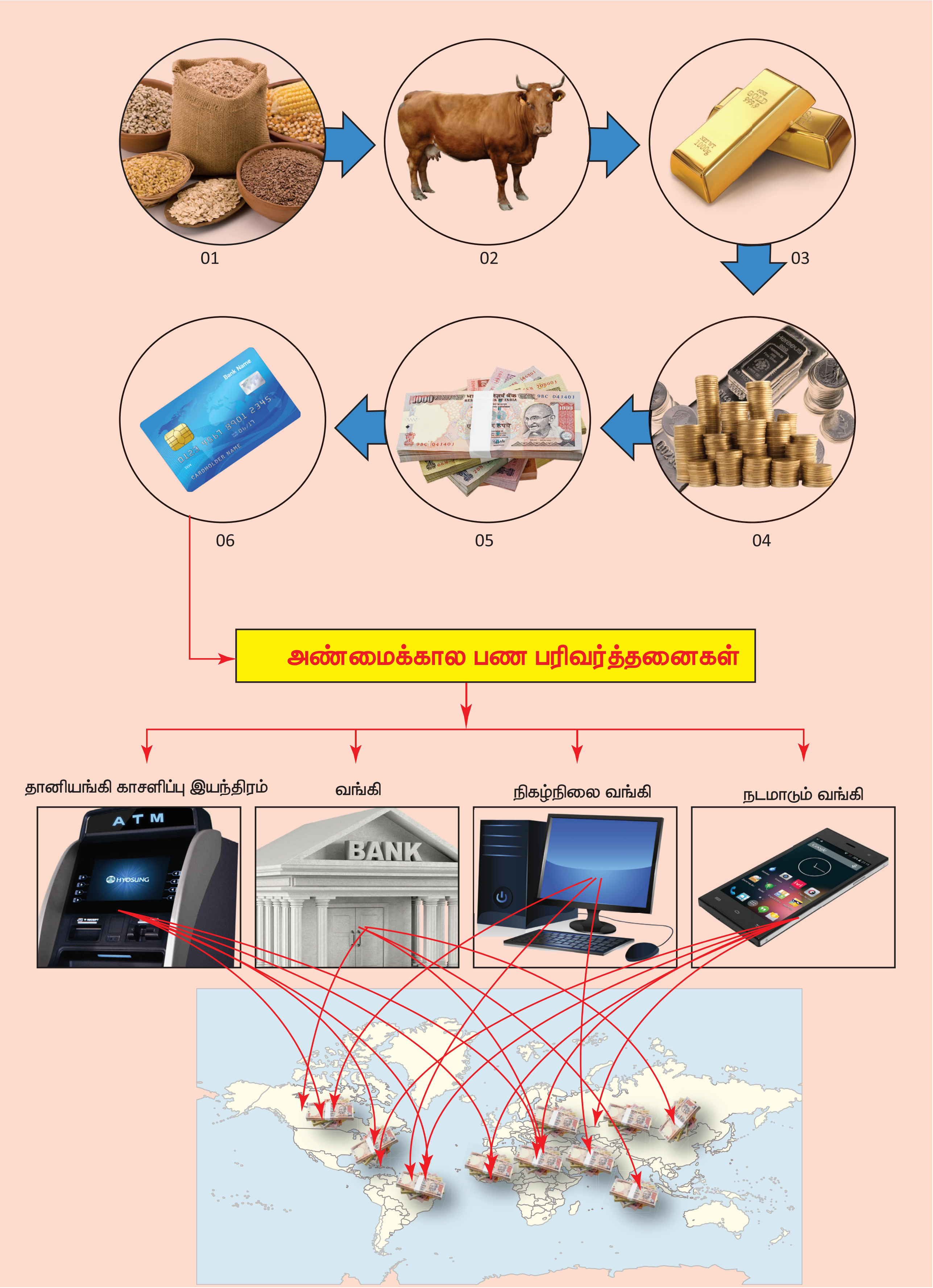

8th_Economics_TM_Unit 1.indd 272 12/3/2022 11:10:46 AM

உலோக பணத்தின் வரலாறு

தங்கம், வெள்ளி, வெண்கலம் போன்ற விலை மதிப்பற்ற உலோகங்கள் உலோக பணமாக பயன்படுத்தப்பட்டன. உலோகத்தின் நிலையான எடை மற்றும் துல்லியம் குறிப்பாக தங்கம், வெள்ளி ஆகியவை முத்திரையுடன் பரிமாற்ற கருவியாக செய்யல்பட்டது. அவைகள் வெவ்வேறு பிரிவுகளாக, எளிதாக பிரிப்பதற்கும், எடுத்து செல்வதற்கும், செலுத்துவதற்கும் வசதியாக இருந்தன.

பண்டைய வரலாற்று ஆசிரியரான ஹெரோடோடஸ் கி.மு. (பொ.ஆ.மு) 8ஆம் நூற்றாண்டில் லிடியாவின் பேரரசர் மிடாஸ் உலோக நாணயத்தை கண்டு பிடித்தார். ஆனால் லிடியாவை விட பல நூற்றாண்டுகளாக இந்தியாவில் தங்க நாணயங்கள் பயன்படுத்தப்பட்டன.

உலக நாணயங்கள் வெளியீட்டார்களில் சீனா மற்றும் மத்திய கிழக்கு லிடியாவுடன் பண்டைய இந்தியாவும் உள்ளன. இந்தியாவில் கி.மு.6ஆம் நூற்றாண்டில் முதன் முறையாக மஹாஜனபதங்கள் ஆட்சியில் பூரணாஸ், கர்ஷபணம், பனாஸ் போன்ற நாணயங்கள் அச்சடிக்கப்பட்டன.

தங்கம், வெள்ளி, தாமிரம் அல்லது ஈயம் போன்ற நாணயங்களை மௌரியர்கள் துளையிட்டு வெளியிட்டனர். இந்திய கிரேக்க குஷாண அரசர்கள் கிரேக்க மரபுப்படி சித்திரங்கள் பொறிக்கப்பட்ட நாணயங்களை அறிமுகப்படுத்தினர். 12 வது நூற்றாண்டில் டெல்லி துருக்கி சுல்தான்கள் தங்கள் நாணயங்களில் இந்திய அரசர்களின் உருவத்தை நீக்கி இஸ்லாமிய எழுத்துக்களை பொறித்து வெளிட்டனர். தங்கம், வெள்ளி மற்றும் தாமிரத்தால் ஆன நாணயங்களை டாங்கா என்றும், மதிப்பு குறைந்த நாணயங்களை ஜிட்டால் என்றும் அழைத்தனர்.

1526 யில் இருந்த முகலாய சாம்ராஜ்யம் முழு சாம்ராஜ்யத்திற்கான பணவியல் முறையை ஒருங்கிணைத்தும், இந்த சகாப்த பரிணாம பண வளர்ச்சியில் செர்ஷா சூரி, ஹுமாயூனை தோற்கடித்து ஆட்சியில் இருந்த போது 178 கிராம் எடையுள்ள வெள்ளி நாணயத்தை வெளியிட்டார். அது "ரூபியா" என அழைக்கப்பட்டது மற்றும் 40 தாமிர துண்டுகள் அல்லது பைசா போன்றவற்றை பயன்படுத்தினர். முகலாய காலம் முழுவதும் வெள்ளி நாணயம் பயன்பாட்டில் இருந்தது. ஆங்கில கிழக்கிந்திய கம்பெனி 1600ஆம் ஆண்டில் முகலாய நாணயத்தை பிரபலப்படுத்தியது. ஆனால் 1717இல் முகலாய பேரரசர் பாருக்ஷாயர், ஆங்கிலேயர்களுக்கு முகலாய பண நாணயத்தை பம்பாய் அச்சகத்தில் அச்சடிக்க அனுமதி அளித்தனர். ஆங்கில தங்க நாணயங்கள் கரோலினா என்றும், வெள்ளி நாணயங்களை ஏஞ்ஜேலினா என்றும், செம்பு நாணயங்களை கப்ரூன் என்றும் மற்றும் வெண்கல நாணயத்தை டின்னி எனவும் அழைத்தனர்.

உலோக பணம்

மௌரியா

மௌரியா

கர்ச பணம்

டில்லி சுல்தான்

டில்லி சுல்தான்

டாங்கா செர்ஷாசூரி

செர்ஷா சூரி நாணயம்

மௌரியா

8th_Economics_TM_Unit 1.indd 273 12/3/2022 11:10:47 AM

உப்பு, அரிசி, கோதுமை, பாத்திரங்கள், ஆயுதங்கள் போன்ற பண்டங்கள் பொதுவாக பணமாக பயன்படுத்தினர். அந்த வகையான பண்டங்களைக் கொடுத்து பண்டங்களை வாங்குதலை "பண்டமாற்று முறை" என அழைத்தனர்.

உலோக பணம்

மனித நாகரிகத்தின் முன்னேற்றத்தில் பண்ட பணம், உலோக பணமாக மாறியது. தங்கம், வெள்ளி, தாமிரம் போன்ற உலோகங்களை எளிமையாக கையாளப்பட்டதால் அவற்றின் அளவு எளிதாக அறிந்துக் கொள்ளப்பட்டது. பதிவு செய்யப்பட்ட வரலாற்றின் பெரும் பகுதியில், இவ்வகையான பணம் முக்கிய பங்கு வகித்தது.

காகித பணம்

தங்கம் மற்றும் வெள்ளி நாணயங்களை ஓர் இடத்திலிருந்து மற்றொரு இடத்திற்கு கொண்டு செல்வது சிரமமாகவும், ஆபத்தானதாகவும் இருந்தது. ஆகையால், காகித பணம் கண்டுபிடிப்பு பணத்தின் வளர்ச்சியில் ஒரு முக்கிய நிலையாக கருதப்பட்டது. தங்கத்தை சேமிப்பதன் அடிப்படையில் ஆரம்பித்த காகித பணத்தின் வளர்ச்சி அந்த சேமிப்புக்கு பொற்கொல்லர்கள் 'இரசீது'களை வழங்கினர். பொற்கொல்லர்களின் 'இரசீது' பணத்தின் பதிலியாகவும் மேலும் காகித பணமாகவும் மாறியது. காகிதப் பணத்தை கட்டுபடுத்துவதும், ஒழுங்குபடுத்துவதும் அந்நாட்டின் மைய வங்கியாகும். இந்தியாவில் 1935ஆம் ஆண்டு நிறுவப்பட்ட இந்திய ரிசர்வ் வங்கி (RBI) காகிதப் பணத்தை அச்சிடுதல், ஒழுங்குபடுத்துதல், கட்டுப்படுத்துதல் ஆகிய பணிகளைச் செய்கிறது. தற்போது பணத்தின் பெரும்பகுதி முக்கியமாக செலாவணிப் பணம் அல்லது காகிதப் பணம் இந்திய ரிசர்வ் வங்கியால் வெளியிடப்பட்டதாகும்.

செயல்பாடு 1

கீழ்க்கண்ட அட்டவணையை பூர்த்தி செய்க

வ. எண்	நாட்டின் பெயர்	பணத்தின் பெயர்
1.	இந்தியா	
2.	ஜெர்மனி	
3.	ஜப்பான்	
4.	சிங்கப்பூர்	
5.	மலேசியா	
6.	சவுதி அரேபியா	
7.	அமெரிக்க ஐக்கிய நாடுகள்	
8.	இங்கிலாந்து	
9.	இலங்கை	
10.	பாகிஸ்தான்	

இந்திய ரிசர்வ் வங்கி

கடன் பணம் அல்லது வங்கிப் பணம்

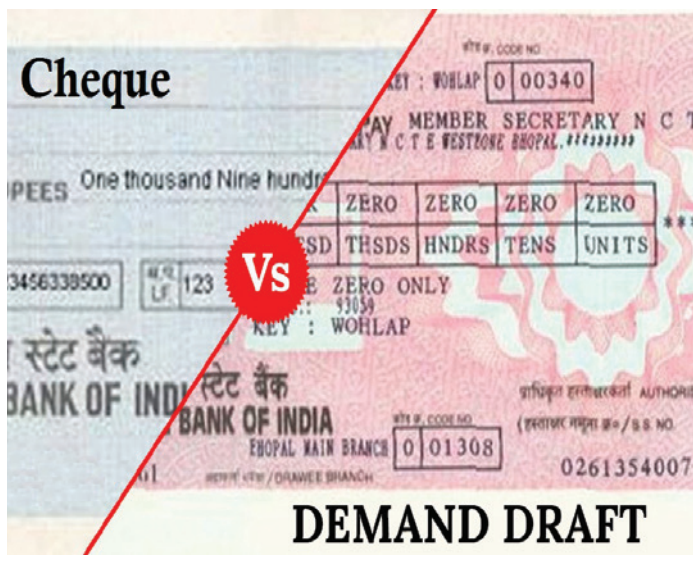

காகித பணமும், கடன் பணமும் கிட்டதட்ட ஒரே நேரத்தில் வளர்ந்தது. மக்கள் தங்கள் பணத்தின் ஒரு பகுதியை வங்கியில் வைப்பு தொகையாக வைத்து அந்த தொகையை வசதியாக காசோலை மூலம் திரும்ப பெறலாம். காசோலை கடன் பணம் அல்லது வங்கிப் பணம் என்றும் அழைக்கப்படுகிறது. காசோலை என்பது பணத்தைக் குறிப்பதல்ல. ஆனால் பணத்தின் பணிகளை மேற்கொள்ளும்.

8th_Economics_TM_Unit 1.indd 274 12/3/2022 11:10:47 AM

நிகர் பணம்

உண்டியல், கருவூலக பட்டியல், பத்திரம், கடன் பத்திரங்கள், சேமிப்பு பத்திரங்கள் ஆகியவற்றின் பயன்பாடுகள் பண பரிணாம வளர்ச்சியின் இறுதி நிலையாகும்.

பணத்தின் சமீபத்திய வடிவங்கள்

நெகிழிப் பணம்

கடன் அட்டைகள் மற்றும் பற்று அட்டைகள் சமீபத்திய நெகிழிப் பணமாகும். பணமில்லா பரிவர்த்தனை இதன் நோக்கமாகும்.

மின்னனு பணம்

மின்னனுப் பணம் என்பது வங்கியில் கணினி அமைப்புகளில் உள்ள மின்னனு முறையின் மூலம் பணப் பரிவர்த்தனை மேற்கொள்ளப்படுவதாகும்.

நிகழ்நிலை வங்கி (இணைய வங்கி)

நிகழ்நிலை வங்கி அல்லது இணைய வங்கி என்பது வாடிக்கையாளர் அல்லது பிற நிதி நிறுவனங்கள் வலைதளத்தின் மூலம் ஒரு பரந்த நிதிப் பரிவர்த்தனைகளை நடத்தும் ஒரு மின்னனு முறையாகும்.

மின் வங்கி

மின்னணு வங்கியை தேசிய மின்னணு நிதி பரிமாற்றம் (NEFT) என்றும் அழைக்கலாம். காசோலை அல்லது ரொக்கத்தை விட ஒரு கணக்கிலிருந்து மற்றொரு கணக்கிற்கு நிதியைமாற்றுவதற்கு மின்னனு வழிமுறை பயன்படுகிறது.

செயல்பாடு 2

- பணம்போன்றபல்வேறுநிலைகளிலுள்ள மாதிரி பணம் குறிப்பாக பண்டப் பணம், உலோக பணம், நெகிழிப் பணம் ஆகியவற்றை தயார் செய்யவும் (பண்டமாற்று முறையும் சேர்த்து).
- ஒவ்வொரு குழு மாணவர்களுக்கும் மாதிரிகள் கொடுக்கவும்.
- ஆசிரியர் மற்றும் மாணவர்கள் பல்வேறு பணத்தின் பரிணாம வளர்ச்சி நிலைகளைப் பற்றி விவாதித்தல்.

பணத்தின் மதிப்பு

பணத்தின் மதிப்பு என்பது பணத்தால் ஒரு நாட்டிலுள்ள பண்ட மற்றும் பணிகளை வாங்கும் சக்தியை குறிக்கும். ஆகையால், இது பண்ட மற்றும் பணிகளின் விலை அளவை சார்ந்திருக்கும். ஆனால் பணத்தின் மதிப்பும் விலையின் அளவும் எதிர்மறை தொடர்புடையது.

பணத்தின் மதிப்பு இரு வகைகள்

1. பணத்தின் அக மதிப்பு
2. பணத்தின் புற மதிப்பு

பணத்தின் அக மதிப்பு என்பது உள் நாட்டிலுள்ள பண்ட மற்றும் பணிகளின் வாங்கும் சக்தியை குறிக்கும். பணத்தின் புற மதிப்பு என்பது வெளி நாட்டிலுள்ள பண்ட மற்றும் பணிகளை வாங்கும் சக்தியை குறிக்கும்.

செயல்பாடு 3

- மாணவர்கள் பணத்தின் மதிப்பு பற்றி தெரிந்து கொள்ளுதல்.
- ஒரு கடை அல்லது சந்தை போன்று உங்கள் வகுப்பறையை அமைத்தல்.
- மாணவர்கள் கடையிலிருந்து சில பொருட்களை வாங்குமாறு கூறுதல்.
- சந்தை நடவடிக்கைகளை மேற்கொள்ளுதல்.
- ஆசிரியர் மற்றும் மாணவர்களுடன் சேர்ந்து பணத்தின் மதிப்பைப் பற்றி விவாதித்தல்.

8th_Economics_TM_Unit 1.indd 275 12/3/2022 11:10:48 AM

உங்களுக்குத் தெரியுமா?

பணத்தின் (ரூபாய்) குறியீடு

₹

இந்திய ரூபாய் குறியீடு தமிழ்நாட்டில் உள்ள விழுப்புரம் மாவட்டத்தை சேர்ந்த திரு. உதயகுமார் என்பவரால் வடிவமைக்கப்பட்டது. இது ஜூலை 15, 2010 அன்று இந்திய அரசால் அங்கீகரிக்கப்பட்டது.

பணத்தின் தன்மை

பணத்தின் பொருள் மற்றும் தன்மை குறித்து அதிகப்படியான சர்ச்சைகள் மற்றும் குழப்பங்கள் நிலவுகின்றன. ஸ்டோவ்ஸ்கி (Scitovsky) வின் கருத்து படி "பணம்" என்பது ஒரு கடினமான கருத்தாகும். ஏனெனில் அது வேறுபட்ட துறைகளில் ஒன்றல்ல, மூன்று பணிகளை குறிப்பிடுகிறது. அவை, ஒவ்வொன்றும் கணக்கீட்டின் அலகு, மதிப்பின் அளவுகோல், மற்றும் மதிப்பின் நிலைகலன்களை குறிக்கிறது. சர்ஜான் ஹிக்ஸ் கூற்றுப்படி, "பணம் அதன் பணிகளால் வரையறுக்கப்படுகிறது. எதுவெல்லாம் பணமாக கருதப்படுகிறதோ அவை பணமாக பயன்படுத்தப்படுகிறது". பேராசிரியர், வாக்கர் " எதையெல்லாம் செய்யவல்லதோ, அதுவே பணம்" என கூறுகிறார்.

பணத்தின் வரையறைகள் அனைத்தும் அதனுடைய செயல்பாட்டைப் பொறுத்தே வரையறுக்கப்பட்டுள்ளது. சில வல்லுநர்கள், "பணமாக பிரகடனம் செய்யப்படும் எவையும் பணமாகும்" என்று பணத்தை சட்டப்பூர்வமான சொற்களால் வரையறுத்துள்ளனர். பணம் அனைவரிடமும் பொதுவான ஏற்புத்திறனை பெற்றுள்ளது மற்றும் அவை கடன்களை திருப்பித் தருவதற்கான சட்டபூர்வமான அதிகாரத்தையும் கொண்டுள்ளது. ஆனால் சட்ட ரீதியான ஒப்பந்தப் பணத்தை செலுத்தி பண்டங்கள் மற்றும் பணிகளை விற்க மறுத்தால், சட்ட ரீதியான பணத்தை மக்கள் ஏற்றுக்கொள்ளமாட்டார்கள். மற்றொன்று, கடன்களை தீர்ப்பதற்கு பணத்தை போல சட்ட பூர்வமாக வரையறுக்கப்படாத வேறு சிலவற்றையும் மக்கள் பணமாக ஏற்றுக்கொள்கின்றனர். ஏனெனில் பணம் சுதந்திரமாக பரவக்கூடியதாகும்.

பணத்தின் பணிகள்

பணத்தின் பணிகளாக முதன்மை அல்லது முக்கிய பணிகள், இரண்டாம் நிலை பணிகள் மற்றும் வரையறுக்கப்பட்ட பணிகள் என வகைப்படுத்தப்படுகின்றன.

முதன்மை அல்லது முக்கிய பணிகள்

பணத்தின் முக்கிய பணிகள் பொருளாதாரத்தில் செயல்பட்டு அவை பிரதான பணிகளின் கீழ் வகைப்படுத்தப்படுகிறது.

1. பரிமாற்ற கருவி அல்லது பண செலுத்துகை

பணம், பண்ட மற்றும் பணிகளை வாங்க பயன்படுத்தப்படுகிறது.

2. மதிப்பின் அளவுகோல்

அனைத்து வகையான பண்டங்கள் மற்றும் பணிகள் மதிப்பையும் பணத்தால் அளவிடலாம். பலவகையான பண்டங்கள் மற்றும் பணிகளுக்கு இடையில் பரிமாற்ற விகிதத்தை தீர்மானிப்பது எளிது.

இரண்டாம் நிலை பணிகள்

இரண்டாம் நிலை பணிகளில் முக்கிய மூன்று முக்கிய பணிகள்

(i) எதிர்கால செலுத்துகைக்கான நிலை மதிப்பு

எதிர்கால செலுத்துகைக்கு பணம் ஒரு கருவியாகப் பயன்படுகிறது. இன்று ஒரு கடனாளி பணத்தை கடன் வாங்குகிறார். குறிப்பிட்ட தொகையை கூறிய படி குறிப்பிட்ட காலத்தில் செலுத்துவது கடமையாகும்.

(ii) மதிப்பின் நிலை கலன் அல்லது வாங்கும் சக்தியின் நிலைகலன்

சில பண்டங்கள் அழிந்து போகக்கூடியதால், பண்டமாற்று முறையில் சேமிப்பை ஊக்குவிப்பதில்லை. பணத்தின் அறிமுகத்திற்கு பிறகு எதிர்காலத்திற்காகப் பணத்தை சேமித்தார்கள். அது அழியக் கூடியதில்லை.

(iii) மாற்று மதிப்பு அல்லது மாற்று வாங்கும் சக்தி

பணத்தால் தொலைதூர இடங்களுக்கும், வெளி நாட்டிற்கும் பண்டங்களை பரிமாற்றம் செய்ய முடியும். ஆகவே, வாங்கும் சக்தியை ஒரு இடத்திலிருந்து மற்றொரு இடத்திற்கு மாற்றுவதற்கு அவசியம் என உணரப்பட்டது.

8th_Economics_TM_Unit 1.indd 276 12/3/2022 11:10:48 AM

இதர பணிகள்

1. கடன் அடிப்படையில் இயக்கப்படுகிறது.
2. மூலதனத்தின் உற்பத்திறன் அதிகரிப்பு
3. நாட்டு வருவாயின் அளவீடு மற்றும் விநியோகம்.

சிந்தனை

பணம் ஒன்று கண்டறியப்படவில்லையெனில் – கற்பனை செய்.

உங்களுக்குத் தெரியுமா?

பணவீக்கம் மற்றும் பணவாட்டம்

- பணவீக்கம் என்பது விலைகள் உயர்ந்து, பணத்தின் மதிப்பு வீழ்ச்சியடைவதையும் குறிக்கும்.
- பணவாட்டம் என்பது விலைகள் குறைந்து பணத்தின் மதிப்பு உயர்வதைக் குறிக்கும்.

வங்கியில் சேமிப்பு மற்றும் முதலீடுகள்

சேமிப்புகள்

வருவாயில் நடப்பு நுகர்வுக்கு பயன்படாத ஒரு பகுதி சேமிப்பு என வரையறுக்கப்படுகிறது. அவை தற்போதைய நுகர்வாக பயன்படுத்தபடாமல் எதிர்கால பயன்பாட்டிற்கு ஒதுக்கி வைக்கப்படுகிறது. ஒரு நபர் பணத்தை சேமிக்க பல வழிகள் உள்ளன. வங்கியில் வெவ்வேறு வகையான கணக்குகளின் மூலம் பணத்தை சேமிக்கலாம்.

சேமிப்புகள்

1. மாணவர் சேமிப்பு கணக்கு

சில வங்கிகள், உயர்நிலைப் பள்ளிகள் மற்றும் கல்லூரிகளில் பயிலும் மாணவர்களுக்கு சேமிப்புக் கணக்கினை துவங்குவதற்கு வசதிகளை ஏற்படுத்தி வழங்குகின்றன. மேலும், இந்த சேமிப்புக் கணக்கில் பூஜ்ய இருப்பினை கொள்வது இதன் முக்கிய அம்சமாகும்.

2. சேமிப்பு வைப்பு

வாடிக்கையாளர்கள் தன்னுடைய நடப்பு வருமானத்தில் ஒரு பகுதியை சேமிக்க ஆரம்பிக்கும் கணக்கிற்கு சேமிப்பு கணக்கு எனப்படும். நுகர்வோர், பணம் தேவைப்படும் போது அவர்கள் கணக்கிலிருந்து எடுத்துக் கொள்ளலாம்.அந்த வைப்பு தொகைக்கு வங்கி பெயரளவு வட்டி அளிக்கிறது.

3. நடப்பு கணக்கு வைப்பு

நடப்பு கணக்குகள் பொதுவாக வர்த்தக நிறுவனங்கள், வர்த்தகர்கள் மற்றும் பொது அதிகாரிகளால் ஆரம்பிக்கப்படுகிறது. தேவைக்கேற்ப வங்கி பரிவர்த்தனை மேற்கொள்ள நடப்பு கணக்கு உதவுகின்றது.

4. நிரந்தர வைப்பு

நிரந்தர வைப்பு கணக்கு என்பது முதலீட்டாளர்கள் தங்கள் பணத்திற்கு பாதுகாப்பும், நிலையான வருவாயும், விரும்புவார்கள். நிரந்தர வைப்பை 'காலவைப்பு' எனவும் அழைக்கலாம். அவை குறிப்பிட்ட காலத்திற்கு நிரந்தரமாக வங்கியில் இருக்கும்.

சேமிப்பின் நன்மைகள்

- நீங்கள் விரைவில் நிதி ரீதியாக தனித்து இருக்கலாம்.
- நீங்கள் எந்த எதிர்பாராத செலவுகளைப் பற்றியும் கவலைப்பட வேண்டியதில்லை.
- நீங்கள் உங்கள் வேலையை இழந்தால், எதிர்காலத்தில் நிதியுதவியாக இருக்கும்.
- உங்கள் சூழ்நிலை மாறினாலும், நீங்கள் தயாராக இருப்பீர்கள்.
- நீங்கள் பணி ஓய்வில் வசதியாக இருப்பீர்கள்.
- இன்றைய சேமிப்பு, நாளைய பாதுகாப்பு.

8th_Economics_TM_Unit 1.indd 277 12/3/2022 11:10:48 AM

மாணவர்களுக்கிடையே சேமிப்பினை ஊக்குவித்தல்

- வரி மற்றும் கணக்கியல் பற்றி கற்று கொடுத்தல்.
- வளர்ந்து வரும் பணம் சார்ந்த முடிவுகளில் ஈடுபடுத்துதல்.
- உதவித்தொகை விண்ணப்பிக்க ஊக்கப்படுத்துதல்.
- வரவு செலவு திட்டம் போடவும், மாணவ கடன்களுக்கு விண்ணப்பிக்கவும் உதவி செய்தல்.
- தனிப்பட்ட சேமிப்புக்கு கற்றுக் கொடுத்தல்.
- மாணவர்களை சஞ்சாயிகா திட்டத்தை ஆரம்பிக்க ஊக்குவித்தல்.

முதலீடுகள்

பல்வேறு முறைகளில் மூலதனத்தை பயன்படுத்தும் முறையை முதலீடுகள் என அழைக்கின்றோம். அதாவது பணம், நேரம், முயற்சிகள் அல்லது பிற மூலங்களில் ஏதேனும் ஒன்றினைப் பயன்படுத்தி முதலீடு செய்து அதற்கு மாற்றாக எதிர்காலத்தில் வருமானமாக திரும்பப்பெறுவதாகும்.

பல்வேறு முதலீட்டுக் கருவிகளில் முதலீடு செய்யலாம். அவைகள்

1. பங்கு வர்த்தகம்
2. பத்திரங்கள்
3. பரஸ்பர நிதி
4. காப்பீடு
5. ஆண்டுத்தொகை
6. வைப்பு கணக்கு அல்லது வேறு பல பத்திரங்கள் அல்லது சொத்துக்கள்.

எந்த ஒரு முதலீட்டுக் கருவிகளிலும் முதலீடு செய்யும் பொழுது சில இடர்பாடுகள் ஏற்பட்டு பணத்தை இழக்கும் நிலை ஏற்பட்டாலும், அதே முதலீட்டின் மூலம் அதிகப் பணத்தை மீளவும் பெறமுடியும் என்பது உண்மையேயாகும். முதலீடு நாட்டின் பொருளாதார வளர்ச்சியை உருவாக்கும் இயல்புடையது.

கருப்பு பணம்

கருப்புப் பணம் என்பது கணக்கில் கொண்டுவராத பணத்தின் ஒரு வடிவமாகும். இது பெரும்பாலும் வணிக மக்களால் தோற்றுவிக்கப்படுகிறது.

கருப்பு பணம்

சேமிப்பு மற்றும் முதலீடுகள் – ஒப்பீடு		
ஒப்பீட்டின் அடிப்படை	**சேமிப்பு**	**முதலீடு**
பொருள்	சேமிப்பு என்பது தனிநபர் வருமானத்தில் நுகர்விற்காக பயன்படுத்தப்படாத ஒரு பகுதியேயாகும்.	முதலீடு என்பது மூலதன சொத்துக்களில் நிதி முதலீடு செய்யும் செயல்முறையை குறிக்கிறது.
நோக்கம்	சேமிப்பு குறுகிய கால அல்லது அவசரகால தேவைகளை நிறைவேற்றும்	மூலதன உருவாக்கத்திற்கும், வருவாய்க்கும் முதலீடு உதவுகிறது.
இடர்பாடு	குறைந்த அல்லது புறக்கணிக்கப்பட்ட அளவு	மிக அதிகம்
வருவாய்	இல்லை அல்லது குறைவு	ஒப்பீட்டளவில் அதிகம்
நீர்மை நன்மை	அதிக நீர்மை	குறைந்த நீர்மை

8th_Economics_TM_Unit 1.indd 278 12/3/2022 11:10:48 AM

ஏனெனில், அவர்கள் தங்கள் பொருளாதார நடவடிக்கைகளின் மூலம் ஈட்டிய வருமானத்தைக் கணக்கில் காட்டுவதில்லை. வரி ஏய்ப்பு செய்வதற்காக வருமானத்தின் ஒரு பகுதியை மட்டுமே கணக்கில் காட்டுகின்றனர்.

குற்றவாளிகள், கடத்தல்காரர்கள், பதுக்குபவர்கள், வரி ஏய்ப்பவர்கள் மற்றும் சமுதாயத்தில் மற்ற சமூக விரோதிகள் மூலம் கருப்பு பணம் சேர்க்கப்படுகிறது. இந்தியாவில் சட்ட விரோதமாக சந்தையில் கருப்பு பணம் சம்பாதித்து அந்த வருமானத்திற்கு எந்த வரியும் செலுத்துவதில்லை. வெளிநாட்டு வங்கியில் இந்தியர்கள் வைப்புகளாக வைத்துள்ள மொத்த கருப்புப்பணத்தின் இருப்பைக் கண்டறிய முடியாது. நாட்டில் கருப்பு பணம் அதிகரித்து வருவதற்கான அடிப்படை காரணம் குற்றவாளிகளுக்கு கடுமையான தண்டனை இங்கு வழங்கப்படுவதில்லை.

உங்களுக்குத் தெரியுமா?

பணம் மதிப்பிழப்பு

2016 நவம்பர் 8ஆம் தேதி இந்தியாவில் இந்திய அரசாங்கம் கருப்பு பணத்திற்கு எதிராக அனைத்து ₹500 மற்றும் ₹1000 நோட்டுக்களை பண மதிப்பிழப்பு செய்வதாக அறிவித்தது.

பொருளாதாரத்தில் கருப்பு பணத்தின் விளைவுகள்

1. பொருளாதாரத்தில் ஒருபுறம் வளர்ச்சியும் மறுபுறம் வளர்ச்சியற்ற நிலை ஏற்பட்டு இரட்டை பொருளாதாரத்தை உருவாக்கும்.
2. உண்மை அளவை குறைத்து மதிப்பீடு செய்வது
3. வரி ஏமாற்றுதல் மூலம் அரசுக்கு வருவாய் இழப்பு
4. சமத்துவம் வலுவிழத்தல்
5. பணக்காரர் மற்றும் ஏழைகளிடையே இடைவெளி அதிகரித்தல்
6. ஆடம்பர நுகர்வு செலவு
7. உற்பத்தி முறையில் விலகல்
8. பற்றாக்குறை பணத்தை விநியோகித்தல்
9. சமுதாயத்தில் பொது ஒழுக்க நிலைகளின் வீழ்ச்சிகள்
10. உற்பத்தி மீதான விளைவுகள்

கருப்பு பணத்திற்கு எதிராக சமீபத்திய நடவடிக்கைகள்

1. இந்தியா மற்றும் பிற நாடுகளின் அழுத்தத்தினால் சுவிட்சர்லாந்து உள்ளூர் சட்டங்களில் முக்கிய மாற்றங்களை ஏற்படுத்தி சுவிஸ் வங்கி வெளிநாடுகளுக்கு உதவுகிறது.
2. உச்ச நீதி மன்றத்தின் வழிகாட்டுதலின் பேரில் கருப்பு பணத்தை கண்காணிக்க சிறப்பு விசாரணை குழு நியமிக்கப்பட்டது.
3. பண மதிப்பிழப்பு செய்யப்பட்டது.

கருப்பு பணத்திற்கு எதிராக சில சட்டரீதியான கூட்டமைப்பு

1. பண மோசடி நடவடிக்கை தடுப்புச் சட்டம் 2002.
2. லோக்பால் மற்றும் லோக் ஆயுக்தா சட்டம்.
3. ஊழல் தடுப்புச் சட்டம் 1988.
4. வெளிக்கொணரப்படாத வெளிநாட்டு வருமானம் மற்றும் சொத்து மசோதா (வரி விதித்தல்) – 2015.
5. பினாமி பரிவர்த்தனை தடுப்புச் சட்டம் 1988, 2016இல் திருத்தப்பட்டது.
6. ரியல் எஸ்டேட் (ஒழுங்குமுறை மற்றும் மேம்பாடு) சட்டம் 2016.

மீள் பார்வை

- பணம் என்ற வார்த்தை ரோம் வார்த்தையான "மோனேட்டா ஜுனோ" விலிருந்து பெறப்பட்டது.
- பண்டமாற்று முறை – பணத்தை பயன்படுத்தாமல் மனிதர்கள் பண்டங்களுக்கு, பண்டங்களை பரிமாற்றம் செய்வது.
- சில முக்கிய நிலைகள் மூலம் பணம் உருவானது. அவை பண்டப் பணம், உலோகப் பணம், காகிதப் பணம், கடன் பணம், அருகாமைப் பணம் மற்றும் சமீபத்திய பணத்தின் வடிவங்கள்.
- பணத்தின் மதிப்பு என்பது ஒரு நாட்டில் பண்ட பணிகளின் வாங்கும் சக்தியாகும்.

8th_Economics_TM_Unit 1.indd 279 12/3/2022 11:10:48 AM

- பணம் அதன் பணிகளால் வரையறுக்கப்படுகிறது. எவை பணமாக பயன்படுத்தப்படுமோ அவையெல்லாம் பணமாகும் பணம் எதையெல்லாம் செய்யவல்லதோ அதுவே பணம்.
- செலவிடத்தக்க வருவாயில் நடப்பு நுகர்விற்கு பயன்படாத ஒரு பகுதி சேமிப்பாகும். அவை எதிர்கால பயன்பாட்டிற்கு ஒதுக்கி வைக்கப்படுகிறது.
- கருப்பு பணம் என்பது நாட்டின் ஒழுங்கு கட்டுப்படுத்துகையில் சட்ட விரோதமாக சம்பாதிக்கும் பணமாகும்.

கலைச்சொற்கள்		
தற்செயல்	எதேச்சியாக	Coincidence
பண மதிப்பு குறைப்பு	அதிகாரபூர்வமாக பயன்படுத்துவதை நிறுத்துதல்.	Demonitization
இணை பொருளாதாரம்	இரண்டு வெவ்வேறு பகுதிகளை கொண்ட ஒரு பொருளாதார அமைப்பு	Dual Economy
வாங்கும் சக்தி	பணத்தைக் கொண்டு பொருட்களின் வாங்கும் அளவு	Purchasing Power
ஒரு மனதாக முடிவெடுத்தல்	ஒருமித்த குரலாலான நிலை	Unanimity
வரி ஏய்ப்பு	சட்டவிரோதமாக குறைந்த வரி செலுத்துவது	Tax Evasion
மோசம் அடைதல்	படிப்படியாக மோசமாகி வருகின்றன	Deterioration

மதிப்பீடு

U0590

I சரியான விடையைத் தேர்ந்தெடுக்கவும்

1. உலோக பணத்திற்காக எந்த உலோகம் பயன்படுத்தப்பட்டன?

   அ) தங்கம் ஆ) வெள்ளி

   இ) வெண்கலம் ஈ) மேற்கூறிய அனைத்தும்

2. இந்திய ரூபாய் குறியீட்டினை (₹) வடிவமைத்தவர் யார்?

   அ) உதயகுமார் ஆ) அமர்த்தியா சென்

   இ) அபிஜித் பானர்ஜி ஈ) இவற்றில் எவரும் இல்லை

3. பணத்தின் மதிப்பு

   அ) அக பணமதிப்பு ஆ) புற பண மதிப்பு

   இ) அ மற்றும் ஆ ஈ) எதுவுமில்லை

4. வங்கி பணம் என்பது எது?

   அ) காசோலை

   ஆ) வரைவு

   இ) கடன் மற்றும் பற்று அட்டைகள்

   ஈ) மேற்கூறிய அனைத்தும்

5. தவறான ஒன்றைத் தேர்ந்தெடுக்கவும். முதலீட்டுக் கருவி போன்றவைகள்

   அ) பங்கு வர்த்தகம்ஆ) பத்திரங்கள்

   இ) பரஸ்பர நிதி ஈ) வரி செலுத்துவது

6. பின்வருவனவற்றில் கருப்புப் பணம் குவிப்பதற்கு காரணமானவர்கள்

   அ) வரி ஏய்ப்பவர்கள்

   ஆ) பதுக்குபவர்கள்

   இ) கடத்தல்காரர்கள்

   ஈ) மேற்கண்ட அனைத்தும்

8th_Economics_TM_Unit 1.indd 280 12/3/2022 11:10:48 AM

II கோடிட்ட இடங்களை நிரப்புக

1. நிகழ்நிலை வங்கியை __________ என்று அழைக்கலாம்.
2. பணம் எதையெல்லாம் செய்யவல்லதோ அதுவே __________.
3. மின்னணு வங்கியை __________ என்றும் அழைக்கலாம்.
4. கடன் அட்டைகள் மற்றும் பற்று அட்டைகள் __________ பணமாகும்.
5. இந்திய ரிசர்வ் வங்கி தோற்றுவிக்கப்பட்ட ஆண்டு __________

III பொருத்துக

1	பண்டமாற்று முறை	வரி ஏமாற்றுபவர்கள்
2	இந்திய ரிசர்வ் வங்கி சட்டம்	மின்னணு பணம்
3	மின் – பணம்	நுகர்வு தவிர்த்த வருமானம்
4	சேமிப்பு	பண்டங்களுக்கு பண்டங்கள் பரிமாற்றம்
5	கருப்பு பணம்	1935

IV கீழ்க்கண்ட வினாக்களுக்கு ஓரிரு வார்த்தையில் விடையளி

1. 'பணம்' என்ற வார்த்தை எதன் மூலம் பெறப்பட்டது?
2. இந்தியாவில் ரூபாய் நோட்டுக்களை அச்சிட்டு வெளியிடுவது யார்?

V சரியான கூற்றை தேர்ந்தெடுக்கவும்

1. பண்டமாற்று முறையில் பல குறைபாடுகளாவன
   I. இருமுகத்தேவை பொருத்தமின்மை
   II. செல்வத்தை சேமிக்க சிரமமில்லை
   III. பொதுவான மதிப்பின் அளவுகோல்
   IV. பொருட்களின் பகுபடாமை

   அ) I மற்றும் II சரி

   ஆ) I மற்றும் IV சரி

   இ) I, III மற்றும் IV சரி

   ஈ) மேற்கூறிய அனைத்தும்

VI தவறான ஒன்றினை கண்டுபிடிக்க

1. பரிமாற்றத்திற்கு பணத்தின் சமீபத்திய வடிவங்கள்

   அ) கடன் அட்டை ஆ) பண்டமாற்று முறை

   இ) பற்று அட்டை ஈ) நிகழ் நிலை வங்கி
2. பொருளாதாரத்தில் இருப்புப் பணத்தின் விளைவுகள்

   அ) இரட்டை பொருளாதாரம்

   ஆ) சமத்துவம் வலுவிழத்தல்

   இ) உற்பத்தியில் விளைவுகள் இல்லை

   ஈ) ஆடம்பர நுகர்வுச் செலவு

VII கீழ்க்கண்ட வினாக்களுக்கு குறுகிய விடையளி

1. பண்டமாற்று முறை என்றால் என்ன?
2. அண்மை கால பணத்தின் வடிவங்கள் யாவை?
3. மின் – வங்கி மற்றும் மின் – பணம் – சிறு குறிப்பு வரைக.
4. பணத்தின் மதிப்பு என்றால் என்ன?
5. சேமிப்பு மற்றும் முதலீடு என்றால் என்ன?
6. கருப்பு பணம் என்பதன் பொருள் என்ன?
7. பொருளாதாரத்தில் கருப்பு பணத்தின் விளைவுகள் யாவை?

VIII விரிவான விடையளி

1. பண்டமாற்று முறையிலுள்ள தீமைகள் யாவை?
2. பணத்தின் பரிணாம வளர்ச்சி பற்றி எழுதுக.
3. பணத்தின் பணிகள் யாவை? அவற்றை விளக்குக.
4. வங்கி வைப்புகளின் வகைகளை விவரி.
5. சேமிப்பு மற்றும் முதலீடுகளுக்கும் உள்ள வேறுபாடுகள் யாவை?
6. பொருளாதாரத்தில் கருப்பு பணத்தின் விளைவுகள் யாவை?

IX செய்முறைகள் மற்றும் செயல்பாடுகள்

1. மாணவர்கள் இந்தியா மற்றும் மற்ற நாடுகளின் புதிய மற்றும் பழைய நாணயங்களின் மாதிரிகளைக் கொண்ட அட்டவணையை தயாரிக்க கூறுதல்.

2. உங்கள் அருகாமையிலுள்ள தபால் நிலையத்திற்கு சென்று இந்தியாவில் நடைமுறையிலுள்ள சேமிப்பு திட்டத்தைப் பற்றி அறிந்து கொள்ளுங்கள், மற்றும் ஆசிரியர்கள் மாணவர்களுடன் சேமிப்பு திட்டத்தைப் பற்றி கலந்துரையாடல்.

X வாழ்வியல் திறன்

1. பணத்தின் மதிப்பை அறிந்து கொள்ள மாணவர்கள் தங்கள் வகுப்பறையை கடை அல்லது அங்காடி போன்று அமைத்தல்.

2. மாணவர்களை கடையிலிருந்து சில பொருட்களை வாங்குமாறு கூறுதல் சந்தை செயல்களை மேற்கொள்ளுதல்.

3. ஆசிரியர் மற்றும் மாணவர்கள் பணத்தின் மதிப்பைப்பற்றி கலந்துரையாடல்..

மேற்கோள் நூல்கள்

- *Jhingan - Monetary Economics*
- *JagdishHanda – Monetary economics*
- *Wynne A. H. Godley – Monetary economics*

இணையதள வளங்கள்

- *www.investopedia.com*
- *www.vikaspedia.com*
- *www.coinsindia.com*

இணையச் செயல்பாடு

பணம், சேமிப்பு மற்றும் முதலீடுகள்

படிநிலைகள்

- **படி 1:** கீழ்க்காணும் உரலி/விரைவுக் குறியீட்டைப்பயன்படுத்தி இச்செயல்பாட்டிற்கான இணையப் பக்கத்திற்குச் செல்க.
- **படி 2:** நாணய மதிப்பு மாற்றிக்குச் (Currency converter) செல்க.
- **படி 3:** கீழ் தோன்றும் பட்டியல் பெட்டியிலிருந்து (Drop down menu) நாணயமாற்று விகிதம் காண விரும்பும் இரண்டு நாடுகளின் பெயர்களைத் தேர்வு செய்க. (Ex.India–America)

உரலி

https://fx-rate.net/

8th_Economics_TM_Unit 1.indd 282 12/3/2022 11:10:49 AM

அலகு – 2

பொது மற்றும் தனியார் துறைகள்

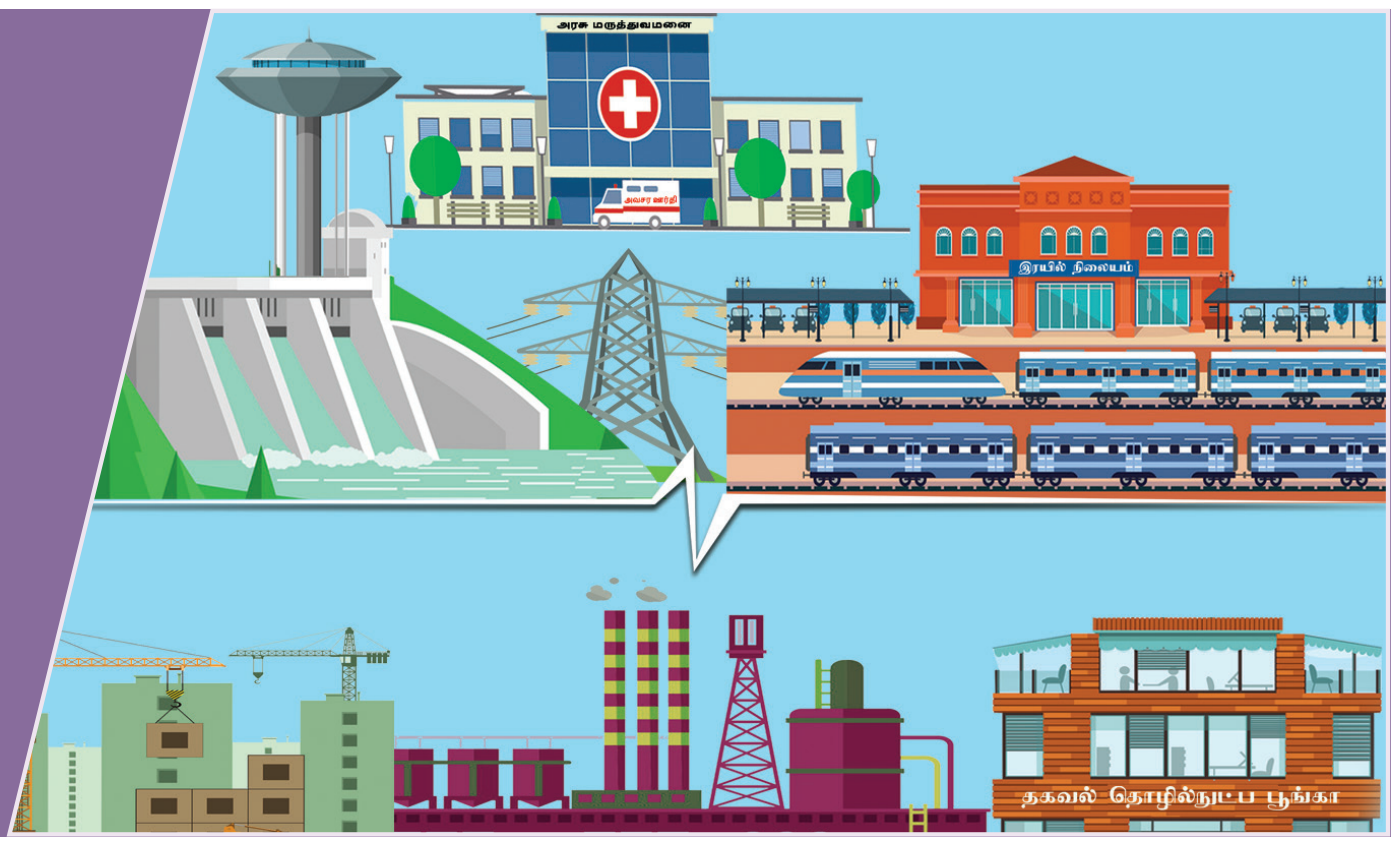

கற்றலின் நோக்கங்கள்

- பொதுத்துறையின் வரலாற்றை அறிதல்
- சமூக–பொருளாதார வளர்ச்சியின் பல்வேறு குறியீடுகள் பற்றி அறிதல்
- பொதுத்துறையின் முக்கியத்துவத்தைப் புரிந்து கொள்ளுதல்
- பொது மற்றும் தனியார் துறைகளுக்கு இடையேயான வேறுபாட்டை உணர்தல்
- தனியார் துறைகளின் செயல்பாடுகளைப் புரிந்து கொள்ளுதல்

3V1GY

அறிமுகம்

இந்தியா சுதந்திரம் அடைந்த பொழுது அடிப்படையில் ஒரு வேளாண்மை பொருளாதார நாடாகவும் பலவீனமான தொழில் துறையை கொண்ட நாடாகவும் இருந்தது. நாட்டில் அதிக அளவில் வறுமை, கல்வியறிவின்மை, வேலையின்மை நிலவியது. இந்தியா மிகவும் மோசமான பொருளாதார மற்றும் சமுதாய அடிப்படை பிரச்சனைகளை எதிர்கொண்டு இருந்தது. இதன் காரணமாக நாட்டை முன்னேற்றுவதில் அரசு ஒரு விரிவான பங்கினை வகிக்க வேண்டிய நிலையில் இருந்தது. எனவே இந்திய பொருளாதாரமானது சமதர்ம அடிப்படையில் இருக்க வேண்டும் என்று இந்தியா கருதியது. தனியார் துறை மற்றும் பொதுத்துறை கைகோர்ப்பதனால் ஒரு நிலையான அதிகபட்ச பொருளாதார வளர்ச்சி அடையலாம் என்றும் நாடு கருதியது. இந்தியாவில் கலப்புப் பொருளாதார முறையை பின்பற்றி தனியார் மற்றும் பொது நிறுவனங்களால் செயல்படுத்தப்பட்டு வருகிறது.

பொது மற்றும் தனியார் துறை

சிறிய அல்லது பெரிய, தொழில்துறை அல்லது வர்த்தகம், தனியாருக்குச் சொந்தமான அல்லது அரசாங்கத்திற்குச் சொந்தமான அனைத்து வகையான வணிக அமைப்புகளும் நம் நாட்டில் உள்ளன. இந்த நிறுவனங்கள் நமது அன்றாட பொருளாதார வாழ்வில் பங்கு கொள்வதால், இவை இந்திய பொருளாதாரத்தின் ஒரு பகுதியாக திகழ்கிறது. இந்திய பொருளாதாரம் தனியாருக்கு சொந்தமான மற்றும் அரசாங்கத்திற்குச் சொந்தமான வணிக நிறுவனங்களைக் கொண்டிருப்பதால், இது ஒரு கலப்பு பொருளாதாரம் என்று அழைக்கப்படுகிறது. இந்திய அரசியல் பொருத்தமான தனியார் மற்றும் அரசு நிறுவனங்கள் இணைந்து கலப்புப் பொருளாதாரத்தைச் செயல்பட அனுமதிக்கப்பட்டுள்ளது. எனவே, பொருளாதாரத்தை இரு துறைகளாக அதாவது தனியார் துறை மற்றும் பொதுத்துறை என இரு பிரிவுகளாக வகைப்படுத்தப்படுகிறது.

8th_Economics_TM_Unit 2.indd 283 1/6/2022 1:01:09 AM

சமூகத்தின் அனைத்துப் பிரிவுகளின் பொருளாதார நலனை மேம்படுத்துவதில் பொதுத்துறை மற்றும் தனியார் துறைகளுக்கான பணிகள் ஒதுக்கப்படுகின்றன. பொதுத்துறை தொழில்கள் அதன் அரசாங்கத்தின் உரிமையின் கீழ் உள்ளன, அதே நேரத்தில் தனியார் துறை தொழில்கள் தனியார் நபர்களின் உரிமையின் கீழ் உள்ளன. பொதுத்துறை ஒரு பொருளாதாரத்தின் முழு வளர்ச்சியைச் செயல்படுத்துகிறது. பொதுத்துறை சேவை நோக்கத்திலும், தனியார் துறை இலாப நோக்கத்திலும் செயல்படுகிறது.

உங்களுக்குத் தெரியுமா?

கலப்புப் பொருளாதாரம் என்பது முதலாளித்துவம் மற்றும் பொதுவுடைமையின் கலவையாகும்.

பொதுத்துறையின் வரையறை

அரசு, பொது மக்களுக்குப் பண்டங்கள் மற்றும் சேவைகளை வழங்கும் நடவடிக்கைகளில் ஈடுபட்டுள்ள துறை பொதுத்துறை ஆகும். நிறுவனங்கள், முகவர் நிலையங்கள் மற்றும் அமைப்புகள் என முழுவதும் சொந்தமானவையாகவும் அரசாங்கத்தால் நடத்தப்பட்டும், கட்டுப்படுத்தப்பட்டும் மத்திய அரசு, மாநில அரசு அல்லது உள்ளூர் அரசாங்கமாகவும் இருக்கும்.

பொதுத்துறையின் வரலாறு

1947இல் இந்தியா சுதந்திரம் அடைந்தபோது, அது பலவீனமான தொழில்துறை தளத்தைக் கொண்ட வேளாண்மையை முதன்மையாக கொண்ட நாடாகும் . ஆங்கிலேயர்கள் நிறுவிய பதினெட்டு இந்திய போர் தளவாட (Ordnance) தொழிற்சாலைகள் மட்டுமே நாட்டில் இருந்தன.

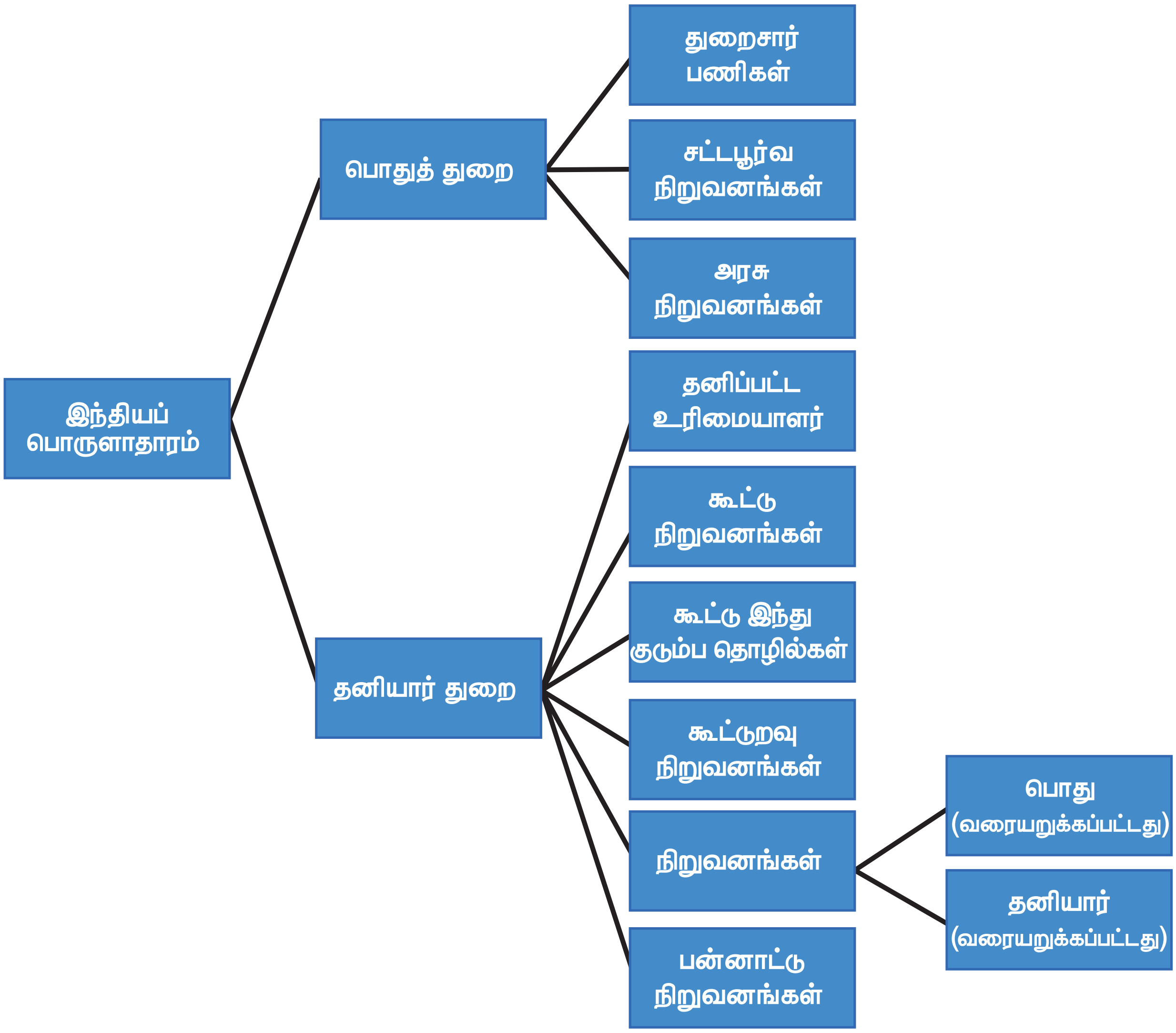

8th_Economics_TM_Unit 2.indd 284 1/6/2022 1:01:09 AM

தங்கள் சொந்த பொருளாதார நலனுக்காகவும், துணைக் கண்டத்தை முரட்டுத்தனமாக படைகளைக் கொண்டு ஆளவும், தேசிய ஒருமித்த கருத்து பொருளாதாரத்தின் விரைவான தொழில்மயமாதலுக்கு ஆதரவாக இருந்தது, மற்றும் இது பொருளாதார வளர்ச்சிக்கு திறவுகோலாக கருதப்பட்டது. அது வாழ்க்கைத்தரத்தை மேம்படுத்தி பொருளாதார இறையாண்மையையும் மேம்படுத்தியது.

பம்பாய் திட்டத்தை (1940) கட்டமைப்பதற்கு, அரசாங்கத்தின் தலையீடு மற்றும் ஒழுங்கு முறைகளின் தேவையை நோக்கமாகக் கொண்டு 1948ஆம் ஆண்டு முதல் தொழில்துறை கொள்கை தீர்மானத்தின் அறிவிப்பில் தொழில்துறை வளர்ச்சியின் யுக்திகளைப் பரந்த வரையறைகளைக் கொண்டு வகுத்தது. அதைத் தொடர்ந்து, மார்ச் 1950இல் அமைச்சரவை தீர்மானத்தால் திட்டக் குழு அமைக்கப்பட்டது மேலும், தொழில்துறை வளர்ச்சியை ஒழுங்குபடுத்துவதற்கு தேவையான நடவடிக்கைகளை எடுக்க அரசாங்கத்திற்கு அதிகாரம் அளிக்கும் நோக்கத்துடன் 1951ஆம் ஆண்டில் தொழில்துறை சட்டம் இயற்றப்பட்டது.

பிரதமர் ஜவகர்லால் நேரு இறக்குமதிக்கு மாற்று தொழில்மயமாக்கலின் அடிப்படையில் ஒரு பொருளாதாரக் கொள்கையை ஊக்குவித்து, கலப்பு பொருளாதாரத்தை ஆதரித்தார். இந்திய பொருளாதாரத்தின் வளர்ச்சி மற்றும் நவீனமயமாக்கலுக்கு, அடிப்படை மற்றும் கனரக தொழில்களை நிறுவுவது என்று அவர் நம்பினார். இந்தியாவின் இரண்டாவது ஐந்தாண்டுத் திட்டமும் (1956–60), 1956ஆம் ஆண்டு தொழில்துறை கொள்கை தீர்மானமும் நேருவின் தேசிய தொழில்மயமாக்கல் கொள்கையைப் பூர்த்தி செய்ய பொதுத்துறை நிறுவனங்களின் வளர்ச்சியை வலியுறுத்தியது. அவரது பார்வையை "இந்தியாவின் பொதுத்துறை நிறுவனங்களின் தந்தை" என்று அழைக்கப்படும் டாக்டர் வி. கிருஷ்ணமூர்த்தி முன்னெடுத்துச் சென்றார். இந்திய புள்ளிவிவர நிபுணர் பேரா. பி.சி. மஹலானோபிஸ் அதன் உருவாக்கத்திற்குச் கருவியாக இருந்தார். இது பின்னர் ப்ரீட்மேன்–மஹலானோபிஸ் (Friedman –Mahalanobis Model) மாதிரி என்று அழைக்கப்பட்டது.

1991ஆம் ஆண்டின் தொழில்துறை கொள்கை முந்தைய அனைத்துக் கொள்கைகளிலிருந்தும் தீவிரமாக வேறுபட்டது, அங்கு அரசாங்கம் பொதுத்துறை முதலீடு செய்ய திட்டமிட்டுத் தனியார் துறைக்கு அதிக சுதந்திரத்தை அனுமதித்தது. அதே நேரத்தில், இந்தியாவுக்கு வெளியே உள்ள வணிக நிறுவனங்களிலிருந்து அந்நிய நேரடி முதலீட்டிற்கு அழைப்பு விடுக்கப்பட்டது. இவ்வாறு, ஒன்றுக்கு மேற்பட்ட நாடுகளில் செயல்படும் பன்னாட்டு நிறுவனங்கள் இந்திய பொருளாதாரத்தில் நுழைந்தன. இவ்வாறு, இந்தியப் பொருளாதாரத்தில் பொதுத்துறை நிறுவனங்கள், தனியார் துறை நிறுவனங்கள் மற்றும் பன்னாட்டு நிறுவனங்கள் இணைந்து செயல்பட்டு வருகின்றன.

பொதுத்துறையின் நோக்கங்கள்

- உள்கட்டமைப்பை உருவாக்குதல் மற்றும் விரிவாக்கம் செய்வதன் மூலம் விரைவான பொருளாதார வளர்ச்சியை மேம்படுத்துதல்.
- வளர்ச்சிக்கான நிதி ஆதாரங்களை உருவாக்குதல்.
- வருமானம் மற்றும் செல்வங்களை மறுபகிர்வு செய்வதை ஊக்குவித்தல்.
- வேலைவாய்ப்புகளை உருவாக்குதல்.
- சமச்சீர் வட்டார வளர்ச்சியை ஊக்குவித்தல்.
- சிறிய அளவிலான மற்றும் துணைத் தொழில்களின் வளர்ச்சியை ஊக்குவித்தல்.
- ஏற்றுமதி ஊக்குவிப்பு மற்றும் இறக்குமதிக்கு மாற்றீடை துரிதப்படுத்துதல்.

பொதுத்துறை நிறுவனங்கள்:

இரண்டு வகையான பொதுத்துறை நிறுவனங்கள் உள்ளன, அதாவது அரசாங்கத்தின் வசூல் வரி, கடமைகள், கட்டணங்கள் போன்றவற்றால் அவர்கள் திரட்டும் வருவாயின் மூலம் அரசாங்கம் அவர்களுக்கு முழுமையாக நிதியளிக்கிறது. நிறுவனத்தின் மொத்த பங்கு மூலதனத்தில் 51% க்கும் அதிகமாக உள்ளது. இது பல்வேறு அமைச்சகங்களின் கீழ் செயல்பட்டு வருகிறது. நிறுவனங்கள் சேவை நோக்கத்துடன் நிறுவப்பட்டுள்ளன.

8th_Economics_TM_Unit 2.indd 285 1/6/2022 1:01:09 AM

இது மிகப் பெரிய துறையாகும், இது மக்களுக்கு பின்வரும் சேவைகளை வழங்குவதன் மூலம் மக்களின் மேம்பாட்டிற்காக செயல்படுகிறது: அஞ்சல் சேவைகள், இரயில்வே சேவைகள், பாதுகாப்பு, கல்வி மற்றும் சுகாதார வசதிகளை குறைந்த செலவில் வழங்குதல், மற்றும் வேலை வாய்ப்புகளை உருவாக்குதல் போன்றவை.

பொதுத் துறையின் உறுப்புகள்:

1. அரசுத்துறைகளால் நிர்வாகம் செய்யப்படும் நிறுவனங்கள்

ஒரு அரசாங்க துறையின் நிர்வாகம் என்பது பெரும்பாலும் அனைத்து நாடுகளிலும் பொதுவானதாகும்.

எடுத்துக்காட்டு: தபால் மற்றும் தந்தி, இரயில்வே, துறைமுக அறக்கட்டளை, இந்தியாவிலுள்ள நீர்ப்பாசனத் திட்டங்கள் போன்றவை.

சென்னை துறைமுகம்

2. கூட்டுத் துறை நிறுவனங்கள்

இது ஒரு நிறுவன சட்டத்தால் நிர்வகிக்கப்படுகிறது மற்றும் அரசாங்கம் ஒரு பிரதான பங்குதாரராக இருந்து கட்டுப்படுத்தப்படுகிறது.

எடுத்துக்காட்டு: இந்தியன் ஆயில் பெட்ரோனாஸ் தனியார் நிறுவனம், இந்தியன் ஆயில் ஸ்கை டேங்கிங் நிறுவனம், ரத்னகிரி கேஸ் அண்ட் பவர் தனியார் நிறுவனம், இந்தியன் செயற்கை ரப்பர் நிறுவனம்.

இந்தியன் ஆயில் பெட்ரோனாஸ் தனியார் நிறுவனம்

3. பொதுக் கழகம்

பொதுக் கழக அமைப்பானது பாராளுமன்றத்தில் நிறைவேற்றப்படும் சட்டத்தினால் பொதுக் கழகத்தினை நிறுவுவதே ஆகும்.

எடுத்துக்காட்டு: ஆயுள் காப்பீட்டு நிறுவனம் (LIC), ஏர் இந்தியா, இந்திய ரிசர்வ் வங்கி, மின்சார வாரியம்.

இந்திய ரிசர்வ் வங்கி

தொழில்களை வகைப்படுத்துதல்

- இந்திய பொதுத்துறை நிறுவனங்கள் இந்திய அரசின் 1956ஆம் ஆண்டு தொழிற் கொள்கை தீர்மானத்தின் வாயிலாக அதன் தோற்றத்தைக் கண்டன. இந்த 1956 தீர்மானமானது தொழில்களை மூன்று பிரிவுகளாக வகைப்படுத்துகிறது. அரசுக்கே உரிய சொந்தமான தொழில்கள் **அட்டவணை** – A என குறிப்பிடப்படுகின்றன.
- தனியார் துறை தொழில்கள், மாநிலம் தன் முழுப் பொறுப்பில் தொடங்கும் புதிய அலகுகள் மற்றும் முயற்சிகளுக்கு துணை புரியக் கூடிய தொழில்கள் **அட்டவணை** – B என குறிப்பிடப்படுகின்றன.
- மீதமுள்ள தொழில்கள் தனியார் துறையில் **அட்டவணை** – C என குறிப்பிடப்படுகின்றன.

பொதுத்துறைகள் பின்வரும் 9 வகைகளாக பிரிக்கப்படுகின்றன.

1. பொதுத்துறை நிறுவனங்கள், பொருளாதார மேம்பாட்டுக்கு அத்தியாவசிய உள்கட்டமைப்பை வழங்க வேண்டும். இவைகள் முதன்மை பொதுப் பயன்பாடுகள் என அழைக்கப்படுகின்றன. அவை பின்வருவனவற்றை உள்ளடக்குகின்றன. விமான நிறுவனங்கள், கப்பல் போக்குவரத்து, இரயில்வே, மின் உற்பத்தி, தொலைத் தொடர்பு போன்றவைகளாகும்.
2. பொதுத்துறை நிறுவனங்கள் "கட்டளைப் பொருளாதாரத்தின் அதிகாரங்களை" (Commanding heights of the economy) தனது கட்டுப்பாட்டில் வைத்திருக்க வேண்டும். எடுத்துக்காட்டாக பாதுகாப்பு, வங்கிகள், நிலக்கரி சுரங்கங்கள், எண்ணெய், எஃகு போன்றவைகளாகும்.

8th_Economics_TM_Unit 2.indd 286 1/6/2022 1:01:10 AM

3. பொதுத்துறை ஒரு தொழில்முனைவோர் பங்கினை வகிக்க வேண்டும் அதாவது வேறுவிதமாக கூறினால் இதனை மூலதன தீவிர தொழில்கள் என்றும் அழைக்கலாம். எடுத்துக்காட்டு: இரும்புத்தாது, பெட்ரோ – வேதிபொருள், உரம், சுரங்கம், கப்பல் – கட்டுமானம், கனரக பொறியியல் போன்றவை.
4. அரசின் முற்றுரிமையின் கீழ் உள்ள பொதுத்துறை நிறுவனங்கள் இதில் அடங்கும்: தொலைத்தொடர்பு உபகரணங்கள், பாதுகாப்பு உற்பத்தி, இரயில்வே, ரோலிங் ஸ்டாக் போன்றவை.
5. உயர் தொழில்நுட்ப தொழில்களுக்கு மட்டுமே பிரத்தியேகமாக இருக்கும் பொதுத்துறை நிறுவனங்கள். எடுத்துக்காட்டு: அணுசக்தி.
6. நுகர்வோர் சார்ந்த பொதுத்துறை நிறுவனங்கள். எடுத்துக்காட்டு: மருந்து, காகிதம், உணவகம் போன்றவை.
7. நலிவடைந்த தனியார் நிறுவனங்களைக் கையகப்படுத்துவதற்கு அமைக்கப்பட்ட பொதுத்துறை நிறுவனங்கள். எடுத்துக்காட்டு: ஜவுளி, பொறியியல் போன்றவை.
8. வர்த்தக கழகமாக அமைக்கப்பட்டுள்ள பொதுத்துறை நிறுவனங்கள்: எடுத்துக்காட்டு: இந்திய உணவுக் கழகம் (FCI), சி.சி.ஐ (CCI) முதலியன.
9. ஆலோசனை மற்றும் பொறியியல் சேவையை வழங்கும் பொதுத்துறை நிறுவனங்கள். எடுத்துக்காட்டு: மெக்கான் நிறுவனம் (MECON).

நிதி ஆயோக்

நிதி ஆயோக்

- நிதி ஆயோக் என்பது 65 ஆண்டுகள் பழமையான திட்டக் குழுவுக்கு மாற்றாக அமைக்கப்பட்ட குழுவாகும். அமைச்சகங்களுக்கும், மாநிலங்களுக்கும் நிதி ஒதுக்க திட்டக் குழுவிற்கு அதிகாரம் உள்ளது. ஆனால் இந்த அதிகாரம் தற்போது நிதி அமைச்சகத்தின் கீழ் உள்ளது.
- நிதி ஆயோக் 2015 ஜனவரி 1ஆம் தேதியிலிருந்து நிதி ஆயோக் செயல்பட துவங்கியுள்ளது.

ஒன்பது வகையான பொதுத்துறைகள்



8th_Economics_TM_Unit 2.indd 287 1/6/2022 1:01:11 AM

சமூக பொருளாதார மேம்பாடு

சமூக பொருளாதார மேம்பாடு என்பது ஒரு சமூகத்தில் சமூக மற்றும் பொருளாதார வளர்ச்சியின் செயல் முறையேயாகும். சமூக பொருளாதார மேம்பாட்டைப் பின்வரும் குறியீடுகள் கொண்டு அளவிடப்படுகிறது. மொத்த உள்நாட்டு உற்பத்தி (GDP), ஆயுட்காலம், கல்வியறிவு மற்றும் வேலைவாய்ப்பின் அளவு போன்றவைகளாகும்.

புதிய "மதியுரையகக் குழு" (Think Tank) எனப்படும் நிதி ஆயோக் (NITI Aayog) என்ற அமைப்பினால் மத்திய, மாநில மற்றும் உள்ளாட்சி அமைப்புகளின் சமூக துறை முயற்சிகளை ஒருங்கிணைப்பதில் பொருத்தமான தளத்தை உருவாக்க முடியும்.

சமூக – பொருளாதார வளர்ச்சிக் குறியீடுகள்

மொத்த உள்நாட்டு உற்பத்தி (GDP)

மொத்த உள்நாட்டு உற்பத்தியானது (GDP) சமூக – பொருளாதார வளர்ச்சியை மேம்படுத்துவதில் துணைபுரிகிறது. தொழில் துறையில், தனியார் மற்றும் பொதுத் துறையின் மொத்த உள்நாட்டு உற்பத்தியின் விகிதம் அதிகரித்துள்ளது. இது அரசின் நிதியை அதிகரிப்பதோடு பொதுச் செலவுகளையும் அதிகரிக்கிறது.

ஆயுட்காலம்

2011ஆம் ஆண்டு இந்தியாவின் மக்கள்தொகை கணக்கெடுப்பின்படி சராசரி ஆயுட்காலம் ஆண்களுக்கு 65.80 ஆண்டுகள் மற்றும் பெண்களுக்கு 68.33 ஆண்டுகள் ஆகும். பல்வேறு திட்டங்கள் மூலம் அரசாங்கம் அதிக அளவு சுகாதார நடவடிக்கைகளை வழங்குகிறது. ஏழை மற்றும் பாதிக்கப்படக்கூடிய குடும்பங்களுக்கு சேவை செய்வதற்காக 2018–19 மத்திய வரவு செலவுத் திட்டத்தில் "தேசிய சுகாதார உற்பத்தி திட்டத்தை" (NHPS) அரசாங்கம் அறிவித்தது.

கல்வியறிவு

சமூக பொருளாதார வளர்ச்சிக்கு கல்வி திறன் முக்கிய பங்கு வகிக்கிறது. அனைவருக்கும் கல்வி இயக்கம் (SSA) இந்திய அரசின் முதன்மை திட்டத்தின் அங்கமாகும். 6–14 வயதுடைய குழந்தைகளுக்கு வாழ்க்கைத் திறன்களுடன் கூடிய இலவச மற்றும் கட்டாயக் கல்வியை வழங்குவதற்காக செயல்படுத்தப்பட்டது. கல்வியில் தரத்தின் அளவை அதிகரிப்பதற்காக அனைவருக்கும் இடைநிலை கல்வித்திட்டம் (RMSA), திறன் வகுப்பு (Smart Class) மின்னணு–கற்றல் (E–Learning), இலவச கணினி திறன் வகுப்புகள் மற்றும் கற்பதற்கான இயற்கையான சூழல் வழங்குதல் (Eco–Friendly) போன்ற திட்டங்களும் அரசால் அறிமுகப்படுத்தப்பட்டது.

வேலைவாய்ப்பு

வேலை வாய்ப்பானது, முதன்மை துறையிலிருந்து இரண்டாம் நிலை மற்றும் மூன்றாம் நிலைக்கு வேலைவாய்ப்பு மாறியுள்ளது என்பது தெளிவாகிறது. அதிக எண்ணிக்கையிலான மக்கள் வேலை தேடி நகர்புறங்களுக்கு இடம் பெயர்கின்றனர். இதனால் நகர்ப்புற மக்கள் தொகை அதிகரிக்கிறது. இதனால் அரசாங்கம் "திறன் நகரம்" (Smart City) திட்டத்தை தொடங்கியது. இது நகரங்களில் மருத்துவமனைகள், பள்ளிகள், வீட்டு வசதிகள் மற்றும் வணிக மையங்கள் போன்ற பல வசதிகளை அளிக்கிறது. வேலைவாய்ப்பைப் பொறுத்தவரை கிராமப்புற மற்றும் பின்தங்கிய பகுதிகளை மேம்படுத்துவதற்காக குறைந்த கட்டணத்தில் மின்சார வரிச்சலுகை போன்ற பல சலுகைகளை வழங்குவதன் மூலம் பின்தங்கிய பகுதிகளில் தொழில் துறையைத் தொடங்க தனியார் துறைகளை அரசாங்கம் ஊக்குவிக்கிறது. இதனால் வட்டார ஏற்றத்தாழ்வுகளை நீக்குகிறது.

வீடு, சுத்தமான குடிநீர் மற்றும் சுகாதாரம் வழங்குதல்

அரசுத் துறையானது வீட்டு வசதிகள், சுத்தமான குடிநீர் வசதிகள் மற்றும் சுகாதார வசதிகளை தூய்மை இந்தியா திட்டத்தின் கீழ் வழங்குகிறது. சுத்தமான நீர் மற்றும் சுகாதார வசதிகளை வழங்குவதால் நோய்கள் மற்றும் ஊட்டச்சத்துக் குறைபாட்டை நீக்குகிறது. இது போன்ற வசதிகளை வழங்குவதால், மக்களின் வாழ்க்கை சுழற்சி அதிகரிக்கிறது.

8th_Economics_TM_Unit 2.indd 288 1/6/2022 1:01:11 AM

சமூக–பொருளாதார மேம்பாடு

மொத்த உள்நாட்டு உற்பத்தி (2018-2019)

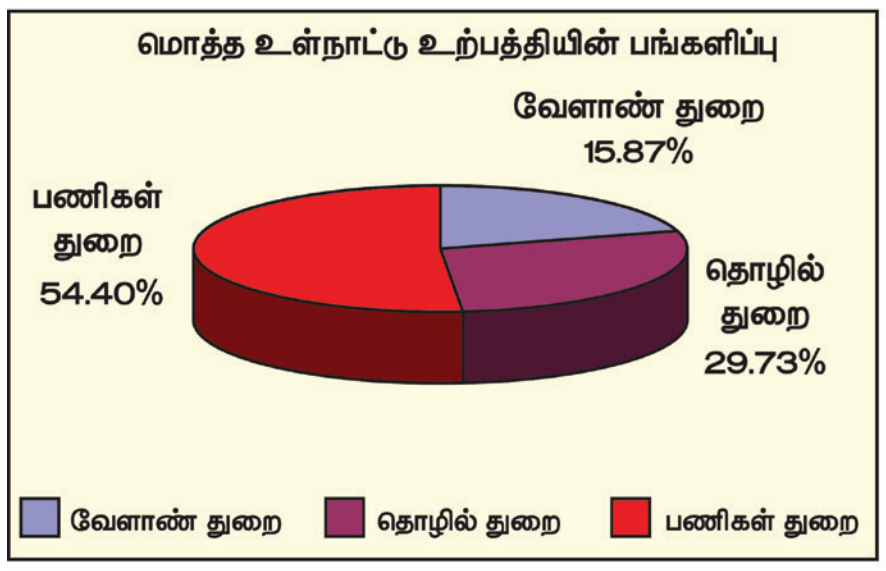

கல்வியறிவு

ஆயுட்காலம்

வேலைவாய்ப்பு

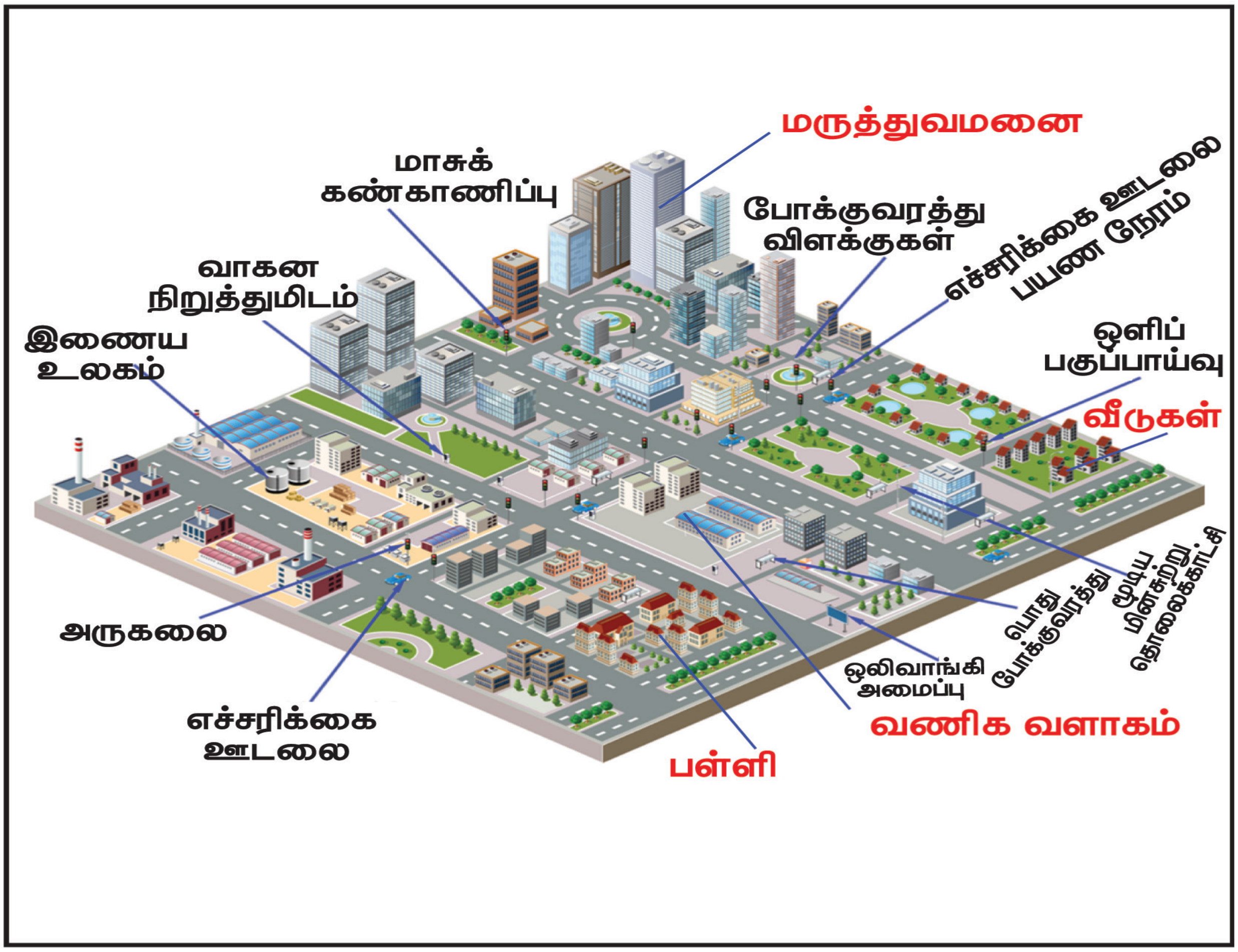

8th_Economics_TM_Unit 2.indd 289 1/6/2022 1:01:12 AM

வீட்டு வசதியை ஏற்படுத்துதல் சுத்தமான குடிநீர் மற்றும் சுகாதார வசதியை வழங்குதல்.

பொதுத்துறையின் முக்கியத்துவம்

எந்தவொரு பொருளாதாரத்தின் வளர்ச்சியிலும் பொதுத்துறை முக்கிய பங்கு வகிக்கிறது. இது பின்வரும் முக்கியத்துவத்தைக் கொண்டுள்ளது.

1. **பொதுத்துறை மற்றும் மூலதன உருவாக்கம்:** திட்டமிடல் காலத்தில் சேமித்து, முதலீடு செய்வதில் பொதுத்துறையின் பங்கு மிக முக்கியமானதாக விளங்கியது.
2. **பொருளாதார மேம்பாடு:** பொருளாதார வளர்ச்சி முக்கியமாக தொழில்துறை வளர்ச்சியைப் பொறுத்தது. சிறு தொழில்களுக்கு மூலப்பொருட்களை வழங்க இரும்பு மற்றும் எஃகு, கப்பல் போக்குவரத்து, சுரங்கம் போன்ற கனரக மற்றும் அடிப்படை தொழில்கள் தேவைப்படுகிறது.
3. **சமச்சீரான வட்டார வளர்ச்சி:** பொதுத்துறை நிறுவனங்கள் தங்கள் ஆலைகளை மாவட்டத்தின் பின்தங்கிய பகுதிகளில் அமைத்துள்ளன. இந்த பகுதிகளில் மின்சாரம், குடிநீர் வழங்கல், தன்னாட்சி நகரியம் மற்றும் மனித சக்தி போன்ற அடிப்படை தொழில்துறை மற்றும் குடிமை வசதிகள் இல்லை. பொது நிறுவனங்கள் இந்த வசதிகளை வளர்ச்சியடையச் செய்வதன்மூலம் இந்த வட்டாரங்களில் உள்ள மக்களின் சமூக–பொருளாதார வாழ்க்கையில் முழுமையான மாற்றத்தை ஏற்படுத்தியுள்ளது.
4. **வேலைவாய்ப்பு உருவாக்கம்:** நாட்டில் வேலையின்மை பிரச்சினையைத் தீர்க்க பொதுத்துறை இலட்சக்கணக்கான வேலைகளை உருவாக்கியுள்ளது. 2011ஆம் ஆண்டில் பணியமர்த்திய நபர்களின் எண்ணிக்கை 150 இலட்சம் ஆகும். ஒரு மாதிரி முதலாளியாக பணியாற்றுவதன் மூலம் தொழிலாளர்களின் வேலை மற்றும் வாழ்க்கை நிலைமைகளை மேம்படுத்துவதற்கு பொதுத்துறை அதிக அளவில் பங்களிப்புச் செய்துள்ளது.
5. **ஏற்றுமதி ஊக்குவிப்பு மற்றும் அந்நிய செலாவணி வருவாய்:** சில பொது நிறுவனங்கள் இந்தியாவின் ஏற்றுமதியை மேம்படுத்துவதற்கு அதிக பங்களிப்புச் செய்துள்ளன. மாநில வர்த்தக நிறுவனம் (STC), தாதுக்கள் மற்றும் உலோக வர்த்தக நிறுவனம் (MMTC), இந்துஸ்தான் எஃகு நிறுவனம், பாரத மின்னணு நிறுவனம், இந்துஸ்தான் இயந்திர கருவிகள் போன்றவை ஏற்றுமதி மேம்பாட்டில் மிகச் சிறப்பாக செயல்பட்டுள்ளன.
6. **நலிவடைந்த தொழில்களுக்கு பாதுகாப்பு:** நலிவடைந்த பிரிவு மூடப்படுவதைத் தடுப்பது, பொறுப்பை ஏற்றுக்கொள்வது மற்றும் பலர் வேலையில்லாமல் இருப்பதைத் தடுப்பது, இதுமட்டுமல்லாமல்

8th_Economics_TM_Unit 2.indd 290 1/6/2022 1:01:13 AM

மூலதனம், நிலம், கட்டடம், இயந்திரங்கள் போன்றவற்றை தேவையற்ற முறையில் மூடுவதை (Locking) பொதுத்துறை தடுக்கிறது.

7. **இறக்குமதி மாற்று:** சில பொதுத்துறை நிறுவனங்கள் குறிப்பாக முன்னர் இறக்குமதி செய்யப்பட்ட பொருட்களை உற்பத்தி செய்வதற்காகவும், அந்நிய செலாவணியை சேமிப்பதற்காகவும் தொடங்கப்பட்டன. எண்ணெய் மற்றும் இயற்கை எரிவாயு ஆணையம் (ONGC), இந்திய எண்ணெய் நிறுவனம், பாரத மின்னணு நிறுவனம் போன்றவை இறக்குமதி மாற்றீடு மூலம் அந்நிய செலாவணியை சேமித்துள்ளன.

உங்களுக்குத் தெரியுமா?

இந்திய இரயில்வேயானது அதிக அளவில் பணியாளர்களைக் கொண்ட பொதுத்துறை நிறுவனமாகும்.

பொதுத்துறைக்கும் தனியார் துறைக்கும் உள்ள வேறுபாடு

நாட்டை வளர்ச்சியடைய செய்வதற்காக பொதுத் துறையும் தனியார் துறையும் ஒன்றிணைந்து செயல் பட்டாலும் அவை வெவ்வேறு குறிக்கோள்களையும் நோக்கங்களையும் கொண்டுள்ளன. அவற்றிற்கிடையேயான முக்கிய வேறுபாடுகள் சிலவற்றை இங்கே காணலாம்.

வ.எண்	பொதுத்துறை	தனியார் துறை
1	தொழில்களின் உரிமையானது அரசாங்கத்திடம் உள்ளது	தொழில்களின் உரிமையானது தனிநபர்களிடம் உள்ளது
2	பொதுவருவாய், வருமானம் பண்டங்கள் மற்றும் பணிகளின் மீது விதிக்கும் வரியைப் பொருத்தது	பங்குகள் மற்றும் கடன் பத்திரங்களை வழங்குதல் அல்லது கடன் வாங்குவதைப் பொருத்தது
3	பொதுத்துறை தொழிலாளர்களுக்கு முறையான ஊதியத்தை உறுதி செய்கிறது	தனியார்துறை தொழிலாளர்களைச் சுரண்டுகிறது
4	இது ஒரு சிலர் கைகளிலோ அல்லது பணக்காரர்களிடம் பெரும் செல்வத்தைத் குவிக்க அனுமதிக்காது	இது ஒரு சிலர் கைகளில் அல்லது பணக்காரர்களிடம் பெரும் செல்வத்தை குவிக்க அனுமதிக்கிறது
5	பொதுத்துறை நிறுவனங்களுக்கு NLC, SAIL, BSNL போன்றவை உதாரணமாகும்	தனியார் துறை நிறுவனங்களுக்கு TVS Motors, Ashok Leyland, TATA Steel போன்றவை உதாரணமாகும்
6	வரி ஏய்ப்பு இல்லை	வரி ஏய்ப்பு உண்டு
7	இது சேவை நோக்கமுடையதாகும்	இது முற்றிலும் இலாப நோக்கம் உடையது
8	சமூகரீதியாக பின்தங்கிய மக்களுக்கு முன்னுரிமை அளிக்கப்படுகிறது. இட ஒதுக்கீடு நடைமுறைப்படுத்தப்படுகிறது.	இது சமூகரீதியாக பின்தங்கிய வர்க்க மக்களைப் பொருட்படுத்தாது. இட ஒதுக்கீடு பின்பற்றப்படுவதில்லை

8th_Economics_TM_Unit 2.indd 291 1/6/2022 1:01:13 AM

தனியார் துறையின் வரையறை

தனியார் தனிநபர்கள் அல்லது நிறுவனங்களுக்குச் சொந்தமான, அவர்களால் கட்டுப்படுத்தப்பட்டு மற்றும் நிர்வகிக்கப்படும் ஒரு தேசிய பொருளாதாரத்தின் பிரிவு தனியார் துறை என்று அழைக்கப்படுகிறது. தனியார் துறை நிறுவனங்கள் தனியார் அல்லது பொது வர்த்தக நிறுவனங்களின் அளவுகளின் அடிப்படையில் பிரிக்கப்படுகின்றன. அவை இரண்டு வழிகளில் உருவாக்கப்படுகிறது அதாவது ஒரு புதிய நிறுவனத்தை உருவாக்குவதன் மூலமாகவோ அல்லது எந்தவொரு பொதுத்துறை நிறுவனத்தையும் தனியார்மயமாக்குவதன் மூலமாகவோ உருவாகிறது.

தனியார் துறை என்பது நாட்டின் பொருளாதார அமைப்பின் ஒரு பகுதியாகும். இது அரசாங்கத்தை விட தனிநபர்கள் மற்றும் நிறுவனங்களால் நடத்தப்படுகிறது. பொதுத்துறை பரந்து விரிந்து இருந்தாலும் கூட, தனியார் துறையின் பங்களிப்பு தொடர்ந்து மிகப்பெரியதாக இருக்கிறது. இது நடுத்தர, சிறிய மற்றும் மிகச்சிறிய அல்லது நுண்ணிய அளவிலான தொழில் வளர்ச்சியால் ஏற்பட்டது.

மேலும் குடிசை மற்றும் கிராமத் தொழில்கள் மற்றும் சிறிய அளவு தொழில்களின் உற்பத்தியின் பங்களிப்பு மொத்த மற்றும் சில்லறை வர்த்தகத்தின் முக்கிய பகுதி ஆகும். தேசிய உற்பத்தியில் தனியார் துறையின் பங்களிப்பு பொதுத் துறையை விட அதிகமாக உள்ளது சாலை, கப்பல் மற்றும் விமான வழி போக்குவரத்து மற்றும் நுகர்வோர் தொழில்களிலும் தனியார் துறை ஆதிக்கம் செலுத்துகிறது.

முக்கிய தனியார் நிறுவனங்கள்

- இன்போசிஸ் நிறுவனம்
- ஆதித்யா பிர்லா நிறுவனம்
- ரிலையன்ஸ் இண்டஸ்ட்ரியல் நிறுவனங்கள்
- டாட்டா குழும நிறுவனங்கள்
- விப்ரோ நிறுவனம்
- இந்துஸ்தான் யூனிலீவர் நிறுவனம்
- ஐசிஐசிஐ வங்கி நிறுவனம்

இன்போசிஸ் தகவல் தொழில்நுட்பம்

தனியார் துறையின் பணிகள்

- தனியார் துறையின் முக்கிய செயல்பாடு புதுமை மற்றும் நவீனமயமாதலை உருவாக்குவதாகும். இலாப நோக்கத்தோடு இயங்க கண்டறிவதற்கும், உற்பத்தியின் புதியநுட்பங்களை கண்டுபிடிப்பதற்கும், உற்பத்தி நடவடிக்கைகளை விஞ்ஞான முறையில் நிர்வகிப்பதற்கும் அவர்களை தூண்டுகிறது.
- உள்கட்டமைப்பு மற்றும் சேவைகளை மேம்படுத்துதல் மற்றும் பராமரித்தல்.
- இருக்கின்ற வணிகங்களை ஊக்குவித்தல், விரிவுபடுத்துதல்.
- மனித மூலதன வளர்ச்சியை ஊக்குவித்தல், பாதிக்கப்படக்கூடிய குழுக்களுக்குக் குறிப்பாக தொழிலாளர் சந்தையில் பங்கேற்க உதவுதல் மற்றும் சமூக வணிக மற்றும் கூட்டுறவு, உள்ளூர் பரிமாற்ற அமைப்புகள் மற்றும் முறைசாரா கடன் போன்றவற்றை ஊக்குவிப்பதன் மூலம் சமூக வளர்ச்சியை ஊக்குவித்தல்.
- சிறு, நுண் மற்றும் நடுத்தர நிறுவனங்களை (SMME) வழங்குவதன் மூலம் அளிப்பு பக்க நடவடிக்கைகள் மற்றும் தேவை பக்க நடவடிக்கைகளைக் கோருதல் மற்றும் நகரத்தில் முதலீட்டை ஈர்த்தல்.

இந்தியா ஒரு கலப்பு பொருளாதார நாடாக இருப்பதால், விரைவான பொருளாதார வளர்ச்சியை அடைவதற்கு நாட்டில் உள்ள தனியார் துறைக்குப் பெரும் முக்கியத்துவம் அளித்துள்ளது. இந்தியாவின் மிகவும் ஆதிக்கம் செலுத்தும் துறையான வேளாண்மை மற்றும் பால் பண்ணை தொழில், கால்நடை வளர்ப்பு, கோழி வளர்ப்பு போன்ற பிற தொடர்புடைய

8th_Economics_TM_Unit 2.indd 292 1/6/2022 1:01:14 AM

நடவடிக்கைகள் முற்றிலும் தனியார் துறையின் கட்டுப்பாட்டில் உள்ளன. இவ்வாறு முழு வேளாண்மைத் துறையை நிர்வகிப்பதிலும், அதன் மூலம் லட்சக்கணக்கான மக்களுக்கு முழு உணவு விநியோகத்தையும் வழங்குவதில் தனியார் துறை முக்கிய பங்கு வகிக்கிறது.

மேலும், தொழில்துறையின் பெரும்பகுதி மற்றும் இலகுவான பகுதிகளில் ஈடுபட்டுள்ளது, நிலைத்த மற்றும் நிலைக்காத பொருட்கள், மின்னணு மற்றும் மின்சார பொருட்கள், வாகனங்கள், ஜவுளி, ரசாயனங்கள், உணவு பொருட்கள், ஒளி பொறியியல் பொருட்கள் போன்ற பல்வேறு நுகர்வோர் பொருட்களை உற்பத்தி செய்யும் நிறுவனங்கள் தனியார் துறையின் கட்டுப்பாட்டில் உள்ளது. நாட்டின் முன் சமூக மற்றும் பொருளாதார சவால்கள் மிகப்பெரியவை. கட்டமைப்பு மாற்றம் மற்றும் பொருளாதார வளர்ச்சியின் இலக்குகளைப் பூர்த்தி செய்ய பொதுத்துறை மற்றும் தனியார் துறை ஆகியவை ஒன்றிணைந்து செயல்பட வேண்டும்.

மீள்பார்வை

- சமூகத்தின் அனைத்துப் பிரிவுகளின் பொருளாதார நலனை மேம்படுத்துவதில் பொதுத்துறை மற்றும் தனியார் துறைகளுக்கான பணிகள் ஒதுக்கப்படுகின்றன.
- பொது மக்களுக்கு அரசு பண்டங்கள் மற்றும் சேவைகளை வழங்கும் நடவடிக்கைகளில் ஈடுபட்டுள்ள துறை பொதுத்துறை ஆகும்.
- மார்ச் 1950இல் அமைச்சரவை தீர்மானத்தால் திட்டக் குழு அமைக்கப்பட்டது மற்றும் தொழில்துறை வளர்ச்சியை ஒழுங்குபடுத்துவதற்குத் தேவையான நடவடிக்கைகளை எடுக்க அரசாங்கத்திற்கு அதிகாரம் அளிக்கும் நோக்கத்துடன் 1951ஆம் ஆண்டில் தொழில்துறை சட்டம் இயற்றப்பட்டது.
- சமூக பொருளாதார மேம்பாடு என்பது ஒரு சமூகத்தில் சமூக மற்றும் பொருளாதார வளர்ச்சியின் செயல் முறையேயாகும்.
- 2011ஆம் ஆண்டு இந்திய மக்கள்தொகைக் கணக்கெடுப்பின்படி, இந்தியாவில் சராசரி ஆயுட்காலம் ஆண்களுக்கு 65.80 ஆண்டுகள் எனவும் மற்றும் பெண்களுக்கு 68.33 ஆண்டுகள் ஆயுட்காலம் ஆகும்.
- தனியார் தனிநபர்கள் அல்லது நிறுவனங்களால் சொந்தமான, கட்டுப்படுத்தப்பட்ட மற்றும் நிர்வகிக்கப்படும் ஒரு தேசிய பொருளாதாரத்தின் பிரிவு தனியார் துறை என்று அழைக்கப்படுகிறது.

கலைச்சொற்கள்		
சொல்வன்மை	Emphasized	Intensity or forcefulness of expression
விரைவுபடுத்துதல்	Accelerate	Cause to move faster
முதலீடுகளைத் திரும்பப் பெறுதல்	Disinvestment	To sell off certain assets such as a manufacturing plant, a division or subsidiary, or product line
கடனீட்டுப் பத்திரம்	Debenture	A certificate or voucher acknowledging a debt
உறுதிப்படுத்து	Ensure	Be careful or certain to do something; make certain of something
பாதிக்கக்கூடிய	Vulnerable	Capable of being wounded or hurt

மதிப்பீடு

I சரியான விடையைத் தேர்ந்தெடுக்கவும்

1. இந்தியாவில் பொதுத்துறைகளின் தோற்றத்திற்குக் காரணமான இந்திய அரசின் தொழில் கொள்கையின் தீர்மானம் ________ ஆம் ஆண்டு கொண்டு வரப்பட்டது.

   அ) 1957 ஆ) 1958

   இ) 1966 ஈ) 1956

2. கலப்புப் பொருளாதார நன்மைகளின் கலவை என்பது

   அ) முதலாளித்துவம்

   ஆ) சமதர்மம்

   இ) அ மற்றும் ஆ சரி

   ஈ) அ மற்றும் ஆ தவறு

3. ________ நிறுவனச் சட்டம் மற்றும் அரசாங்கத்தால் கட்டுப்படுத்தப்படும் முதன்மையான முக்கிய பங்குதாரர்.

   அ) தனியார் துறை

   ஆ) கூட்டு துறை

   இ) பொதுத்துறை

   ஈ) இவற்றில் எதுவுமில்லை

4. பொதுத்துறை ________ உடையது.

   அ) இலாப நோக்கம்

   ஆ) சேவை நோக்கம்

   இ) ஊக வணிக நோக்கம்

   ஈ) இவற்றில் எதுவுமில்லை

II கோடிட்ட இடங்களை நிரப்புக

1. ________ மற்றும் ________ ஆகியவை சமூகத்தின் அனைத்துப் பிரிவினரின் பொருளாதார நலனை மேம்படுத்துவதில் அந்தந்த பணிகளை மேற்கொள்வதில் அரசால் அனுமதிக்கப்பட்டுள்ளது.

2. தனியார் துறை ________ நோக்கத்தில் செயல்படுகிறது.

3. ________ என்பது ஒரு சமூகத்தின் சமூக மற்றும் பொருளாதார வளர்ச்சியின் செயல்முறையாகும்.

4. தனியார் துறையின் முக்கிய செயல்பாடுகளைத் தோற்றுவிப்பது ________ மற்றும் ________ ஆகும்.

5. குடிமக்கள் மத்தியில் ________ மற்றும் ஒத்துழைப்பை வலுப்படுத்த அரசாங்கம் உறுதிபூண்டுள்ளது.

III பொருத்துக

1.	மதியுரையகக் குழு	–	முதன்மை துறை
2.	வேளாண்மை	–	மொத்த உள்நாட்டு உற்பத்தி
3.	தொழில்கள்	–	நிதி ஆயோக்
4.	GDP	–	இரண்டாம் துறை

IV பொருத்தமற்றவைக் கூறுக

1. சமூகப் பொருளாதார முன்னேற்றத்தை அளவிட பின்வருவனவற்றில் எந்த குறியீடு பயன்படுத்தப்படுவதில்லை.

   அ) கருப்புப் பணம்

   ஆ) ஆயுட்காலம்

   இ) மொத்த உள்நாட்டு உற்பத்தி (GDP)

   ஈ) வேலைவாய்ப்பு

V பின்வருவனவற்றுள் எது சரியான விடை

1 i) அரசுக்கு மட்டுமே சொந்தமான தொழில்கள் அட்டவணை–A என குறிப்பிடப்படுகின்றன.

ii) தனியார் துறையானது மாநில துறையின் முயற்சிகளுக்குத் துணை புரியக் கூடிய தொழில்கள் புதிய அலகுகளைத் தொடங்குவதற்கான முழு பொறுப்பையும் அரசு ஏற்றுக்கொள்வது அட்டவணை – B என குறிப்பிடப்படுகின்றன.

iii) தனியார் துறையில் இருந்த மீதமுள்ள தொழில்கள் அட்டவணையில் குறிப்பிடப்படவில்லை.

   அ) அனைத்தும் சரி

   ஆ) i மற்றும் iii சரி

   இ) i மற்றும் ii சரி

   ஈ) இவற்றில் எதுவும் இல்லை

8th_Economics_TM_Unit 2.indd 294 1/6/2022 1:01:14 AM

VI பின்வரும் வினாக்களுக்கு ஓரிரு வாக்கியங்களில் விடையளிக்கவும்

1. பொதுத் துறைகள் குறித்து சிறு குறிப்பு எழுதுக?
2. சமுதாய தேவை என்றால் என்ன ?
3. பொதுத்துறையின் நோக்கங்களை எழுதுக?
4. பொதுத் துறைகளின் மூன்று உறுப்புகள் யாவை?
5. சமூக –பொருளாதார மேம்பாட்டை அளவிடும் சில குறியீடுகளின் பெயர்களைக் கூறுக.
6. தனியார் துறை குறித்துச் சிறு குறிப்பு எழுதுக?
7. தனியார்துறை நிறுவனங்களில் ஏதேனும் மூன்றினை கூறுக.

VII விரிவான விடை தருக

1. பொதுத்துறையின் உறுப்புகள் பற்றி விளக்குக.
2. பொதுத்துறையின் வரலாற்றை சுருக்கமாக விளக்குக.
3. சமூக – பொருளாதார மேம்பாட்டினை அளவிடும் குறியீடுகள் ஏதேனும் ஐந்தினை பற்றி விளக்குக.
4. பொதுத் துறையின் முக்கியத்துவம் யாது?
5. பொதுத் துறைக்கும் தனியார் துறைக்கும் உள்ள வேறுபாடுகளை எழுதுக?
6. தனியார் துறையின் பணிகளைப் பற்றி எழுதுக?

VIII செயல்பாடு

வாழ்நாள் ஆயுட்காலம்–நீண்ட மற்றும் ஆரோக்கியமான வாழ்க்கையை நடத்துவதற்கான திறன்.

வ. எண்	நபர்களின் பெயர்	வேலையின் தன்மை	வேளாண்மை / தொழில்கள் / பணிகள்
1			
2			
3			
4			
5			

வகைப்படுத்தியதற்கான காரணங்களை விளக்குக.

IX வாழ்க்கைத் திறன்கள்

1. ஆசிரியரும் மாணவர்களும் சமூக – பொருளாதார மேம்பாடு மற்றும் அந்த வட்டாரத்தில் தொழில்துறை வளர்ச்சி மற்றும் முன்னேற்றம் குறித்து விவாதித்தல்.

மேற்கோள் நூல்கள்

1. Dhatt and sundaram - *Indian Economy.*
2. Sankaran - *Indian Economy*
3. Dwett - *Indian Economy*

இணையதள வளங்கள்

1. www.wikipedia.com
2. www.tn.gov.in
3. www.statisticstimes.com
4. India's industries related websites.

8th_Economics_TM_Unit 2.indd 295 1/6/2022 1:01:14 AM

இந்தியா இயற்கை அமைப்பு
ஹிந்து குஷ்
பாமிர் முடிச்சு
காரகோரம்
கைலாஷ் மலைத்தொடர்
லடாக் மலைத்தொடர்
ஜஸ்கர் மலைகள்
பீர் பஞ்சால் மலைத்தொடர்
சிவாலிக் மலைத்தொடர்
ஷிம்லா
முசோரி
நைனிடால்
அல்மோரா
ராணிகேட்
நந்தா தேவி 7817
காமெட் 7756
தௌலகிரி 8172
எவரெஸ்ட் 8848
மகலு 8461
கஞ்சன்ஜங்கா 8598
டார்ஜிலிங்
சாங்போ நதி
நம்ச்சா பர்வா 7756
பூர்வாஞ்சல்
மிஷ்மி குன்று
காசி - ஜெயின்டியா மலைகள்
நாகா குன்றுகள்
மிஸோ குன்றுகள்
சிந்து
ஜீலம்
சீனாப்
ரவி
பியாஸ்
சட்லஜ்
சிந்துச் சமவெளி
பெரிய இந்திய பாலைவனம் (தார் பாலைவனம்)
ராஜஸ்தான் பாகர்
ஆரவல்லி ம.தொ.
குரு ஷிகார் மலை அபு
ராண் ஆப் கச்
கச் தீபகற்பம்
கத்தியவார் தீபகற்பம்
கிர் ம.தொ.
கங்கை சமவெளி
அவாத் சமவெளி
மால்வா பீடபூமி
பந்தல்கண்ட்
பாகல்கண்ட்
சோட்டா நாக்பூர் பீடபூமி
விந்திய ம.தொ.
சாத்புரா மலைத்தொடர்
மைகலா மலைத்தொடர்
அஜந்தா மலைத்தொடர்
சத்மலா குன்றுகள்
கல்சுபாய் 1646
மகாபலேஷ்வர் 1438
மலயகிரி 1187
பாரதீப்
தண்டகாரண்யா
மஹேந்திரகிரி 1501
விசாகப்பட்டினம்
தக்காண பீடபூமி
ஆர்மா கோண்டா
நர்மதை
தபதி
மகாநதி
கோதாவரி
கிருஷ்ணா
காவேரி
பெண்ணாறு
மேற்குத் தொடர்ச்சி மலைகள்
கிழக்குத் தொடர்ச்சி மலைகள்
கொங்கண் கடற்கரை
மலபார் கடற்கரை
சோழமண்டலக் கடற்கரை
தொட்டபெட்டா 2637
நீலகிரி குன்றுகள்
ஆனைமுடி 2695
ஏலமலைக் குன்றுகள்
பாக் ஜலசந்தி
மன்னார் வளைகுடா
குமரிமுனை
இலங்கை
அரபிக் கடல்
வங்காள விரிகுடா
இந்தியப் பெருங்கடல்
கம்பாத் வளைகுடா
கங்கை நதி முகத்துவாரம்
சுந்தர வனம்
லட்சத் தீவு (இந்தியா)
அந்தமான் நிக்கோபார் தீவுகள் (இந்தியா)
அளவையில் இல்லை

8th Social Science Authors lists.indd 297 1/6/2022 1:04:59 AM

சமூக அறிவியல் – எட்டாம் வகுப்பு

ஆலோசனையாளர், பாட வல்லுநர்கள், மேலாய்வாளர்கள் மற்றும் பாடநூல் ஆசிரியர்கள் குழுவினர்

வரலாறு

பாடவல்லுநர்

முனைவர் அ. தென்னரசு
இணைப் பேராசிரியர் & துறைத் தலைவர்
அரசு கலைக் கல்லூரி, சேலம்

மேலாய்வாளர்கள்

முனைவர் கோ. ஜெயக்குமார்
இணைப் பேராசிரியர்
பெரியார் ஈ.வே.ரா. கல்லூரி
திருச்சிராப்பள்ளி

முனைவர் ஜெ. முருகன்
உதவிப் பேராசிரியர்
அறிஞர் அண்ணா அரசு கலைக் கல்லூரி
ஆத்தூர், சேலம்

பாடநூல் ஆசிரியர்கள்

சு. கோமதிமாணிக்கம்
பட்டதாரி ஆசிரியர்
அரசு மேல்நிலைப் பள்ளி
பழைய பெருங்களத்தூர், சென்னை

அ. ஜாபர் அலி
முதுகலை ஆசிரியர்
அரசு மேல்நிலைப் பள்ளி
கீரிப்பட்டி, சேலம்

பெ. பாலமுருகன்
முதுகலை ஆசிரியர்
அரசு ஆண்கள் மேல்நிலைப் பள்ளி
தம்மம்பட்டி, சேலம்

க. வேலு
பட்டதாரி ஆசிரியர்
அரசு மகளிர் மேல்நிலைப் பள்ளி
தலைவாசல், சேலம்

க. கார்த்திகேயன்
முதுகலை ஆசிரியர்
கே.ஏ. நாச்சியப்பா அரசு ஆண்கள்
மேல்நிலைப் பள்ளி
கொங்கணாபுரம், சேலம்

ஜா. ஷகிலா
முதுகலை ஆசிரியர்
பாத்திமா மகளிர் மேல்நிலைப் பள்ளி
ஓமலூர், சேலம்

கை. செல்வகுமார்
பட்டதாரி ஆசிரியர்
அரசு உயர்நிலைப் பள்ளி
குண்ணத்தூர், திருவண்ணாமலை

க. இராமகுமாரி
பட்டதாரி ஆசிரியர்
ஹோலி ஏஞ்சல்ஸ் மகளிர் மெட்ரிக்
மேல்நிலைப் பள்ளி, அழகாபுரம், சேலம்

பா. லதா
பட்டதாரி ஆசிரியர்
ஹோலி ஏஞ்சல்ஸ் மகளிர் மெட்ரிக்
மேல்நிலைப் பள்ளி, அழகாபுரம், சேலம்

வெ. உமாமகேஸ்வரி
முதுகலை ஆசிரியர்
எம்.என்.எஸ். அரசு மகளிர் மேல்நிலைப்
பள்ளி, ஆட்டையாம்பட்டி, சேலம்

க. சாரதா
முதுகலை ஆசிரியர்
அரசு மேல்நிலைப் பள்ளி
அழகப்பம்பாளையம் புதூர், சேலம்

மொழிபெயர்ப்பாளர்கள்

ல. சிவக்குமார்
உதவி தலைமை ஆசிரியர் (பட்டதாரி)
அ.ம.மே.நி. பள்ளி, ஆத்தூர், சேலம்

மு. சாமிவேல்
உதவி தலைமை ஆசிரியர்
அரசு ஆண்கள் மேல்நிலைப் பள்ளி
ஆத்தூர், சேலம்

கே.எஸ். சுப்ரமணியன்
பட்டதாரி ஆசிரியர்
அரசு மேல்நிலைப் பள்ளி
காட்டுக்கோட்டை, சேலம்

அ. மேரி ரோஸ்லின் நிர்மலா
பட்டதாரி ஆசிரியர்
அ.ம.மே.நி. பள்ளி, ஆத்தூர், சேலம்

புவியியல்

பாடவல்லுநர்

வி. தமிழரசன்
இணைப் பேராசிரியர்
அரசு கலைக் கல்லூரி, கரூர்

மேலாய்வாளர்கள்

முனைவர் பெ. அருள்
இணைப்பேராசிரியர்
அரசு கலைக் கல்லூரி,
சேலம்

அ. இராஜா
இணைப் பேராசிரியர் & துறைத் தலைவர்
அரசு கலைக் கல்லூரி,
சேலம்

பாடநூல் ஆசிரியர்கள்

முனைவர் கு. ருத்ரவேல் மூர்த்தி
கௌரவ விரிவுரையாளர்
அறிஞர் அண்ணா அரசு கலைக் கல்லூரி
நாமக்கல்

முனைவர் சு. செந்தில் குமார்
கௌரவ விரிவுரையாளர்
அறிஞர் அண்ணா அரசு கலைக் கல்லூரி
நாமக்கல்

த. ஸ்ரீஜனனி
முதுகலை ஆசிரியர்
அரசு ஆண்கள் மேல்நிலைப் பள்ளி
பாப்பிரெட்டிபட்டி, தருமபுரி

இரா. எழில்மோகன்
பட்டதாரி ஆசிரியர்
அரசு மகளிர் உயர்நிலைப் பள்ளி
ஏத்தாப்பூர், சேலம்

வ. இரவிக்குமார்
பட்டதாரி ஆசிரியர்
அரசு மேனிலைப் பள்ளி
தாண்டவராயபுரம், சேலம்

சி. ஐயந்துரை
பட்டதாரி ஆசிரியர்
அரசு உயர்நிலைப் பள்ளி
டி.பெருமாபாளையம், சேலம்

சி. செல்வம்
பட்டதாரி ஆசிரியர்
சுப்பிரமணிய சாஸ்திரியார்
மேல்நிலைப் பள்ளி
ஆரணி, திருவண்ணாமலை

க.கோ. ஜோதி
பட்டதாரி ஆசிரியர்
அரசு ஆண்கள் மேல்நிலைப் பள்ளி
விரிஞ்சிபுரம், வேலூர்

வீ. ஜெயச்சந்திரன்
பட்டதாரி ஆசிரியர்
அரசு ஆண்கள் மேல்நிலைப் பள்ளி
தம்மம்பட்டி, சேலம்

பி. முனிராஜு
பட்டதாரி ஆசிரியர்
அரசு உயர்நிலைப் பள்ளி
சூடாபுரம், கிருஷ்ணகிரி

சீ. சங்கர்
பட்டதாரி ஆசிரியர்
அரசு மேல்நிலைப் பள்ளி
காட்டுக்கோட்டை, சேலம்

மொழிபெயர்ப்பாளர்கள்

இரா. எழில்மோகன்
பட்டதாரி ஆசிரியர்
அரசு மகளிர் உயர்நிலைப் பள்ளி
ஏத்தாப்பூர், சேலம்

வ. இரவிக்குமார்
பட்டதாரி ஆசிரியர்
அரசு மேனிலைப் பள்ளி
தாண்டவராயபுரம், சேலம்

சி. ஐயந்துரை
பட்டதாரி ஆசிரியர்
அரசு உயர்நிலைப் பள்ளி
டி.பெருமாபாளையம், சேலம்

குடிமையியல்

பாடவல்லுநர் & மேலாய்வாளர்

முனைவர் எம். கலியபெருமாள்
மேனாள் இணைப் பேராசிரியர் &
துறைத் தலைவர்
அரசியல் அறிவியல்துறை
மாநிலக் கல்லூரி, சென்னை

பாடநூல் ஆசிரியர்கள்

தே. சுகந்தி
பட்டதாரி ஆசிரியர்
அரசு கள்ளர் உயர்நிலைப் பள்ளி
அன்னஞ்சி, தேனி

சு. கோமதிமாணிக்கம்
பட்டதாரி ஆசிரியர்
அரசு மேல்நிலைப் பள்ளி
பழைய பெருங்களத்தூர், சென்னை

பெ. பாலமுருகன்
முதுகலை ஆசிரியர்
அரசு ஆண்கள் மேல்நிலைப் பள்ளி
தம்மம்பட்டி, சேலம்

வி. வேல்முருகன்
பட்டதாரி ஆசிரியர்
அரசு மேல்நிலைப் பள்ளி
வெள்ளாளகுண்டம், சேலம்

க. அய்யாதுரை
முதுகலை ஆசிரியர்
அரசு ஆண்கள் மேல்நிலைப் பள்ளி
மேச்சேரி, சேலம்

து. வாணி
முதுகலை ஆசிரியர்
மால்கோ வித்யாலயா மெட்ரிக்
மேல்நிலைப் பள்ளி
மேட்டூர் அணை, சேலம்

மொழிபெயர்ப்பாளர்கள்

ல. சிவக்குமார்
உதவி தலைமை ஆசிரியர் (பட்டதாரி)
அ.ம.மே.நி. பள்ளி, ஆத்தூர், சேலம்

கே.எஸ். சுப்ரமணியன்
பட்டதாரி ஆசிரியர்
அரசு மேல்நிலைப் பள்ளி
காட்டுக்கோட்டை, சேலம்

அ. மேரி ரோஸ்லின் நிர்மலா
பட்டதாரி ஆசிரியர்
அ.ம.மே.நி. பள்ளி, ஆத்தூர், சேலம்

பொருளியல்

பாடவல்லுநர் & மேலாய்வாளர்

முனைவர். இரா. சுப்ரமணியன்
மேனாள் பேராசிரியர்
சௌடேஸ்வரி கலை மற்றும்
அறிவியல் கல்லூரி, சேலம்

பாடநூல் ஆசிரியர்கள்

இல. கௌசல்யாதேவி
முதுகலை ஆசிரியர்
அரசு மேல்நிலைப் பள்ளி
தொப்பூர், தருமபுரி

ரு. சீனிவாசன்
முதுகலை ஆசிரியர்
அரசு மேல்நிலைப் பள்ளி
பொ.துருஞ்சிப்பட்டி, தருமபுரி

மொழிபெயர்ப்பாளர்

பி. சுந்தரவடிவேலு
முதுகலை ஆசிரியர்
அரசு ஆண்கள் மேல்நிலைப் பள்ளி
ஆத்தூர், சேலம்

ஆலோசனையாளர் மற்றும் பாடவல்லுநர்

முனைவர் பொன். குமார்
இணை இயக்குநர் (பாடத்திட்டம்)
மாநிலக் கல்வியியல் ஆராய்ச்சி மற்றும்
பயிற்சி நிறுவனம், சென்னை

பாட ஒருங்கிணைப்பாளர்கள்

த. சீனிவாசன்
முதல்வர்
மாவட்ட ஆசிரியர் கல்வி மற்றும்
பயிற்சி நிறுவனம், கிருஷ்ணகிரி

பெ. சுரேஷ்
முதுகலை ஆசிரியர் (வரலாறு)
அரசு மகளிர் மேல்நிலைப் பள்ளி
ஆத்தூர், சேலம்

முனைவர். கோ. விருதசாரணி
முதுநிலை விரிவுரையாளர்
மாவட்ட ஆசிரியர் கல்வி மற்றும்
பயிற்சி நிறுவனம், கிருஷ்ணகிரி

EMIS தொழில்நுட்பக் குழு

இரா.மா.சதீஸ்
மாநில ஒருங்கிணைப்பாளர் தொழில்நுட்பம்,
கல்வி மேலாண்மை தகவல் முறைமை,
ஒருங்கிணைந்த பள்ளிக்கல்வி இயக்ககம்.

இரா. அருண் மாருதி செல்வன்,
தொழில்நுட்ப திட்டப்பணி ஆலோசகர்,
கல்வி மேலாண்மை தகவல் முறைமை,
ஒருங்கிணைந்த பள்ளிக்கல்வி
இயக்ககம்.

க. ப. சத்தியநாராயணா,
தகவல் தொழில்நுட்ப ஆலோசகர்,
கல்வி மேலாண்மை தகவல் முறைமை,
ஒருங்கிணைந்த பள்ளிக்கல்வி
இயக்ககம்.

ICT ஒருங்கிணைப்பாளர்கள்

து. நாகராஜ்
அரசு மேல்நிலைப் பள்ளி
ராப்பூசல், புதுக்கோட்டை

எஸ். சுரேந்திரன்
அரசு மேல்நிலைப் பள்ளி
மாதவலாயம், கன்னியாகுமரி

ஒருங்கிணைப்பு

ரமேஷ் முனிசாமி

பக்க வடிவமைப்பு

காமாட்சி பாலன் ஆறுமுகம்
ச. அசோக் குமார்
ஆர். பாலசுப்ரமணி
சி. பிரசாந்த்
ஸ். சந்தியாகு ஸ்டீபன்
வே. ஸ்ரீதர்
மா. செல்வகுமார்
பெ. பிரசாந்த்

அட்டை வடிவமைப்பு

கதிர் ஆறுமுகம்

In–House – QC

ராஜேஷ் தங்கப்பன்
கி. ஜெரால்டு வில்சன்
காமாட்சி பாலன் ஆறுமுகம்

தட்டச்சர்

இரா. மோகனாம்பாள்
வேளச்சேரி, சென்னை

இந்நூல் 80 ஜி.எஸ்.எம். எலிகண்ட் மேப்லித்தோ தாளில் அச்சிடப்பட்டுள்ளது.
ஆப்செட் முறையில் அச்சிட்டோர்: